الجغرافيا



الصف: الحادي عشر أدبي

نماذج اختبارات تجريبية

الفصل الدراسي الأول

مدرسة التميز النموذجية

ابتدائي - متوسط - ثانوي



مراجعات غير مخصصة للبيع
المصدر
الكتاب المدرسي
وزارة التربية / الكويت
طبعة
2027/2026م
خاصة بطلبة مدارس التميز النموذجية

خيطان الجنوبي - قطعة ٤ - شارع ١٠٠

الفصل الدراسي الأول 2026 / 2027

امتحان نهاية الفترة الدراسية الأولى التجريبي للصف الحادي عشر أدبي مبادئ علم الجغرافيا

السؤال الأول يتكون من (أ, ب , ج , د):-

أ) أكمل العبارات التالية بما يناسبها مما درست:

1. العالم الاقتصادي صاحب نظرية الحرية الاقتصادية يسمى.....
2. الحيز أو الوسط الذي يتم من خلاله مبادلة السلع يسمى .....
3. الوحدة الأساسية للكون وهي نظام نجمي يتكون من ملايين النجوم والغبار الكوني تسمى .....
4. مساحة كبيرة من اليابس بها المرتفعات وتتجمع فيها الثلوج تسمى .....
5. أصغر كواكب المجموعة الشمسية يسمى .....

ب) ضع خطا تحت الخيار الصحيح من بين الخيارات التي تلي كل عبارة:

1. الجغرافيا المناخية أحد فروع الجغرافيا:

(الإقليمية - التاريخية - البشرية - الطبيعية)

2. دائرة معارف تغطي ميادين مختلفة من العلوم والآداب:

(الموسوعات - الببليوجرافيا - الرسائل الجامعية - الدوريات)

3. العام الميلادي الذي بدأت فيه الكويت بإصدار المجموعة الاحصائية السنوية:

(1962 – 1964 – 1966 –1968)

4. أصغر الكواكب وأقرب ها للشمس المجموعة الشمسية:

(المريخ - الزهرة - الأرض - عطارد)

ج) -أكمل المخطط السهمي التالي بما يناسبه من كلمات:

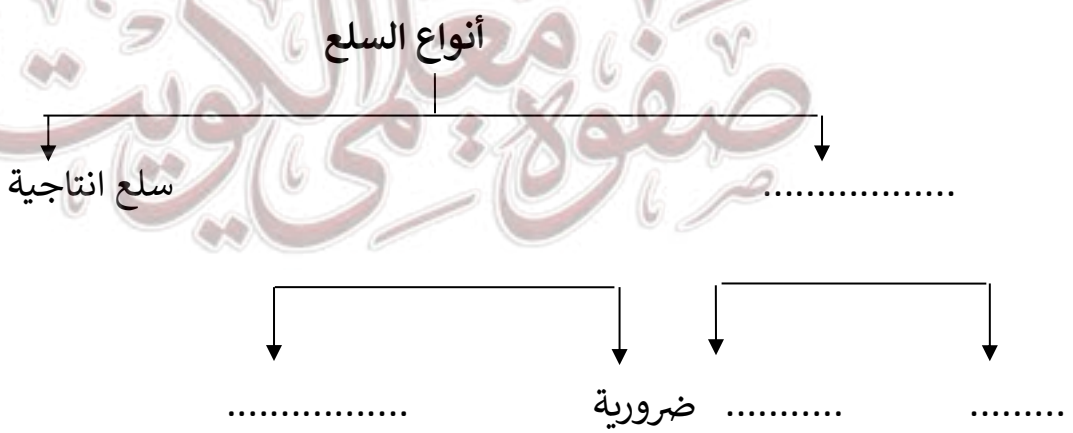

مراجعات غير مخصصة للبيع
المصدر
الكتاب المدرسي
وزارة التربية / الكويت
طبعة
2027/2026م
خاصة بطلبة مدارس التميز النموذجية

ج لاحظ خريطة العالم ثم أكتب الرقم الدال عل العبارات التالية:

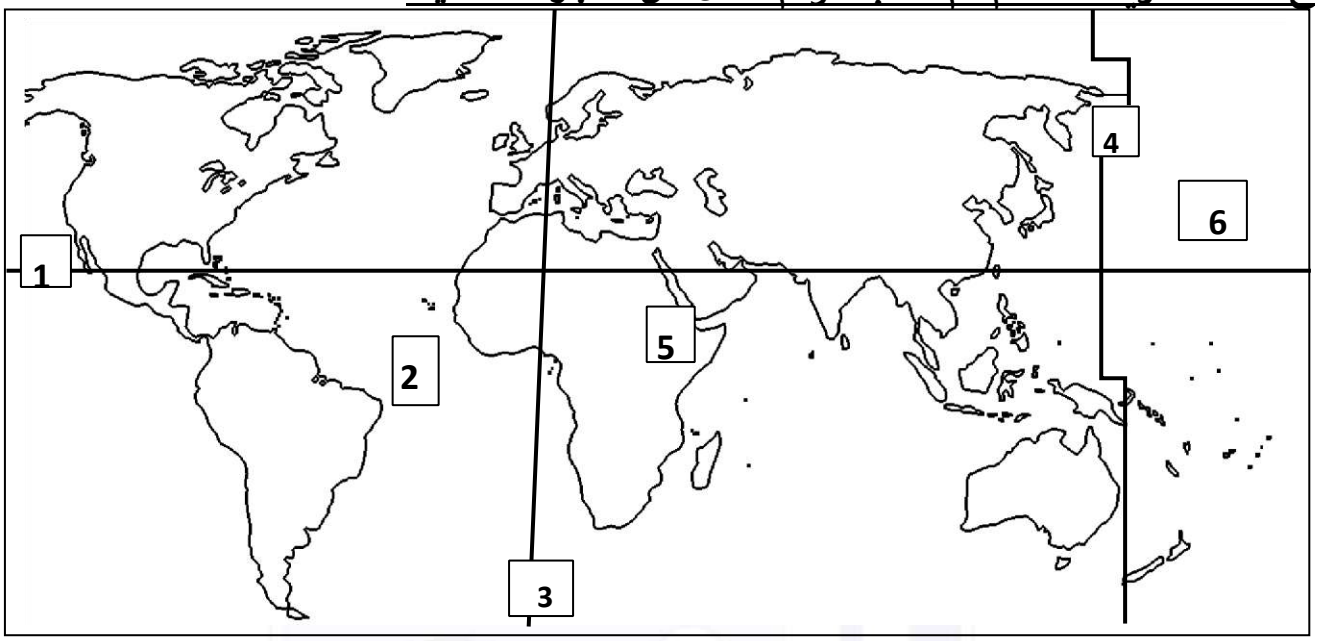

- خط التاريخ الدولي يمثله عل الخريطة الرقم .....
- نطاق الأخدود الأفريقي العظيم يمثله على الخريطة الرقم .....
- حلقة النار عل الخريطة يمثلها الرقم .....
- حافة غاطسة وسط المحيط الأطلسي يمثلها عل الخريطة الرقم .....
- مدار السرطان عل الخريطة يمثله الرقم .....

مراجعات غير مخصصة للبيع
المصدر
الكتاب المدرسي
وزارة التربية / الكويت
طبعة
2026 / 2027م
خاصة بطلبة مدارس التميز النموذجية

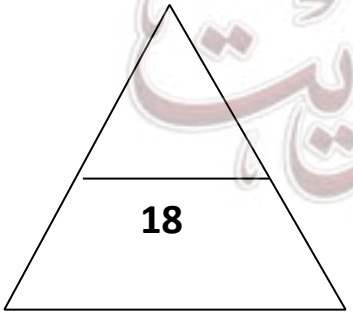

السؤال الثاني: يتكون من (ا - ب – ج)

أ- اقرأ الفقرة التالية ثم أجب عما يليها من أسئلة:

" تعتمد عملية الاستشعار عن بعد على مجموعة من الوسائل المساعدة كالطائرات والأقمار الاصطناعية بهدف الحصول عل مسح جوي او فضائي لسطح الارض عن طريق الموجات الصادرة منها ثم ترسل البيانات لمحطات ارضية تستقبلها وتعالج بواسطة برامج حاسوب للحصول عل المعلومات"

1. عرف ما تحته خط

.....

عدد أهم المجالات التطبيقية لعملية الاستشعار عن بعد:

.....

.....

.....

أذكر اثنين من الوسائل المساعدة للاستشعار عن بعد:

.....

.....

ب فرق بين كل من:

مورد الأرض	مورد العمل
النمو الاقتصادي	التنمية الاقتصادية

ج– دلل عل صحة العبارات التالية:

1. للزلازل آثار تخريبية على سطح الأرض

أ-..... ب- .....

2. للكائنات الحية دورا مهما في عمليات التجوية الحيوية

أ-..... ب- .....

مدرسة التميز النموذجية بنين (ابتدائي - متوسط - ثانوي)

السؤال الثالث: يتكون من (أ – ب – ج – د)

أ) لاحظ خريطة دولة الكويت ثم حدد عليها ما يلي

1 الإطار 2 – العنوان 3– مقياس الرسم 4– الاتجاه

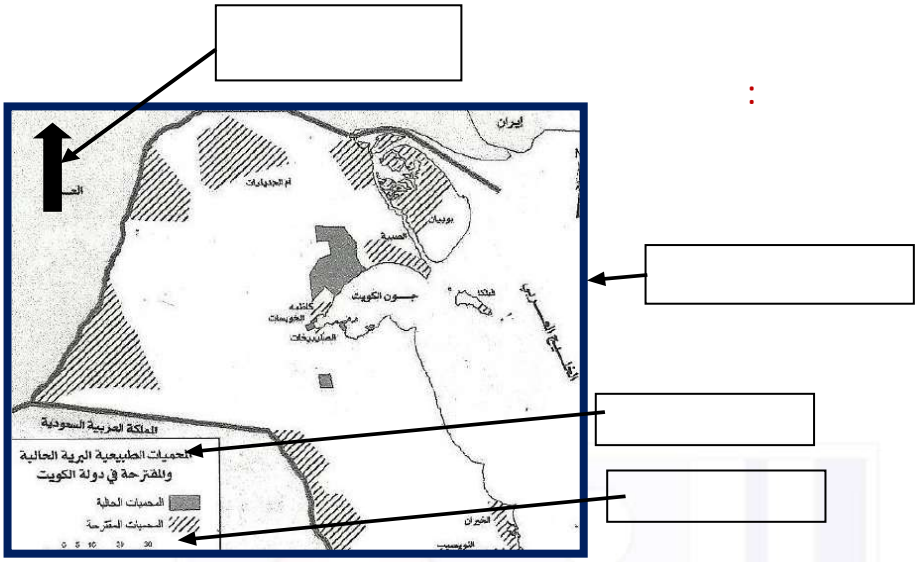

ب) علل لما يأتي:

اختلاف الشبكات النهرية من نهر لآخر

.....

.....

ج) عدد اثنين لكل مما يلي:

1. مراحل النشاط الاقتصادي: -

....

2. أنواع الأسواق: -

....

مراجعات غير مخصصة للبيع
المصدر
الكتاب المدرسي
وزارة التربية / الكويت
طبعة
2027/2026م
خاصة بطلبة مدارس التميز النموذجية

د) احسب الزمن بعد قراءة الفقرة التالية وفق الخطوات التي درستها:

تم عرض افتتاح مجلس الأمة في تليفزيون الكويت التي على خط طول 45 شرقا في الساعة الثامنة صباح فمتى يتم مشاهدتها في مسقط على خط طول 60 شرقا؟

1. .....
2. .....
3. .....

السؤال الرابع: يتكون من (ا– ب – ج)

أ اقرأ الفقرة التالية ثم أجب عما يليها من أسئلة:

(تعتبر الرياح عاملا مهما من عوامل التعرية وتقوم بتشكيل سطح الأرض في العالم وخاصة الأقاليم الصحراوية وشبه الصحراوية وينتج عنها ظاهرات عديدة مثل الياردانج والجلاميد المصقولة)

1 – ضع عنوانا مناسبا للفقرة: .....

2 – عدد أهم ظاهرات السطح المرتبطة بفعل الرياح كعامل نحت:

-..... -.....

3 – **ارسم مخطط سهمي لأشكال الإرساب بفعل الرياح:**

ب -ادرس الجدول التالي الذي يمثل بيانات للدولة ثم أجب عن الأسئلة التالية:

الاستهلاك	الإنفاق الحكومي	الانفاق الاستثماري	الصادرات	الواردات
370	42	80	63	55

احسب قيمة الناتج المحلى الإجمالي للدولة

.....

ج) أجب عن الأسئلة التالية:

1. عدد خصائص المشكلة الاقتصادية؟

.....

2. أذكر أهمية علم الجغرافيا؟

.....

.....

.....

إجابة امتحان نهاية الفترة الدراسية الأولى التجريبي للصف الحادي عشر أدبي مبادئ علم الجغرافيا والاقتصاد

السؤال الأول يتكون من أ, ب، ج , د:

أ) أكمل العبارات التالية بما يناسبها مما درست:

1. العالم الاقتصادي صاحب نظرية الحرية الاقتصادية يسمى **آدم سميث**
2. الحيز أو الوسط الذي يتم من خلاله مبادلة السلع يسمى **السوق**
3. الوحدة الأساسية للكون نظام نجمي يتكون من ملاي زي النجوم والغبار الكوني تسمى **المجرات**
4. مساحة كبيرة تحيط بها المرتفعات وتتجمع فيها الثلوج تسمى **حقول الثلج**
5. أصغر كواكب المجموعة الشمسية يسمى **كوكب عطارد**

مراجعات غير مخصصة للبيع
المصدر
الكتاب المدرسي
وزارة التربية / الكويت
طبعة
2027/2026م
خاصة بطلبة مدارس التميز النموذجية

ب) ضع خطا تحت الخيار الصحيح من بين الخيارات التي تلي كل عبارة:

1. الجغرافيا المناخية أحد فروع الجغرافيا

(الإقليمية – التاريخية - البشرية – **الطبيعية)**

2. دائرة معارف تغطي ميادين مختلفة من العلوم والآداب:

(الموسوعات - البيلوجرافيا - الرسائل الجامعية - الدوريات)

3. العام الميلادي الذي بدأت فيه الكويت بإصدار المجموعة الاحصائية السنوية:

(1962 – **1964** – 1966 – 1968)

4. أصغر الكواكب وأقرب ها للشمس في المجموعة الشمسية:

(المريخ – الزهرة - الأرض – **عطارد)**

ج) -أكمل المخطط السهمي التالي بما يناسبه من كلمات:

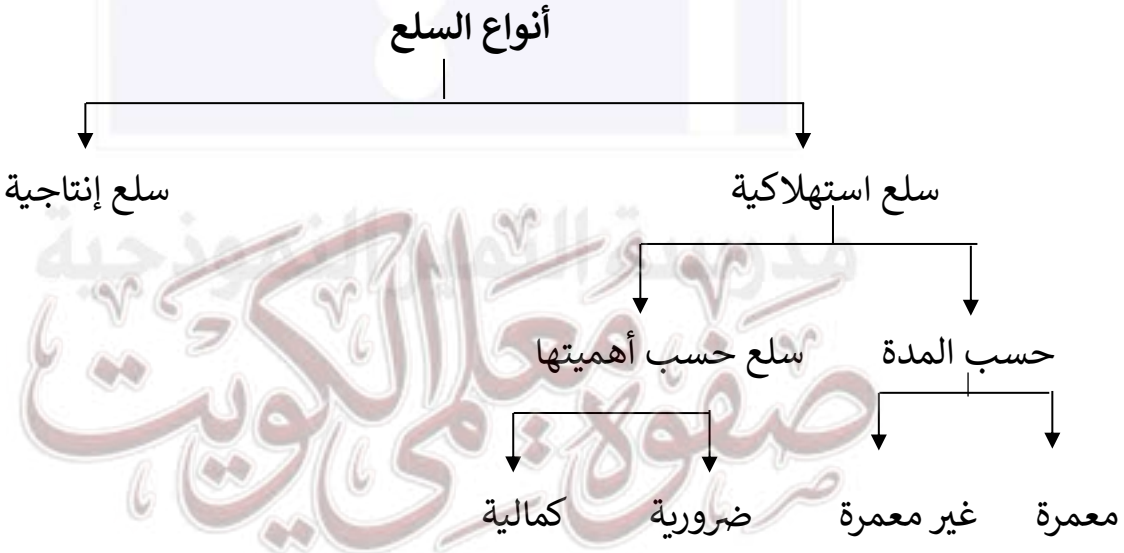

صفوة معلمي الكويت

د) لاحظ خريطة العالم ثم أكتب الرقم الدال عل العبارات التالية:

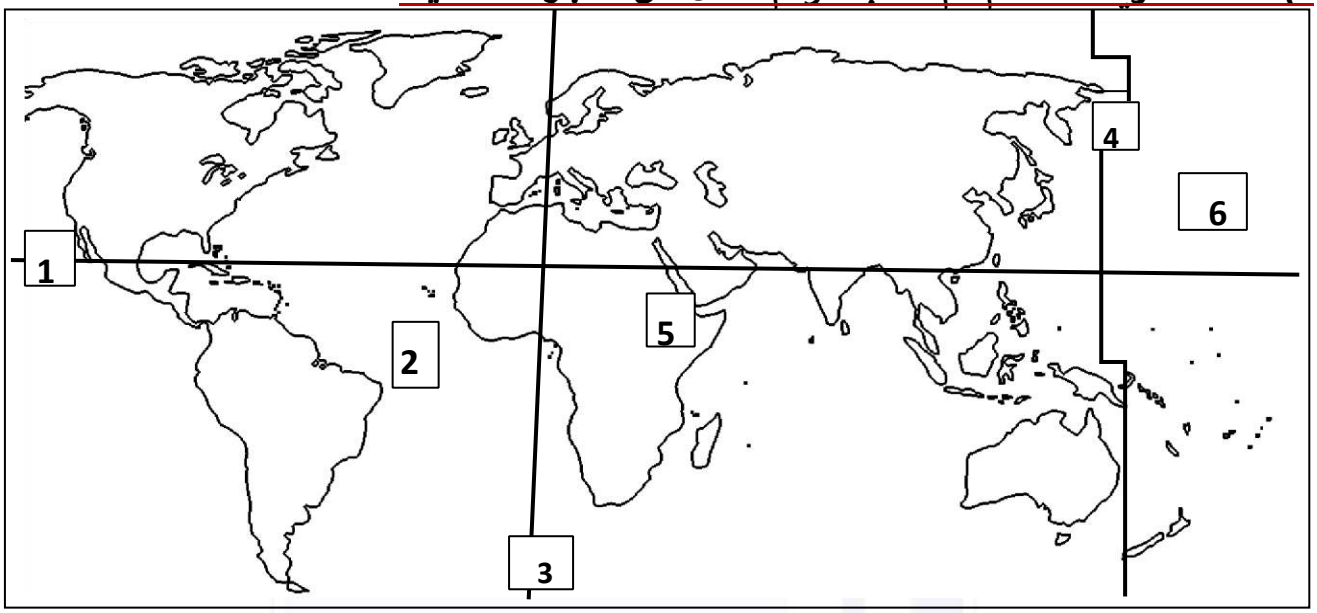

- خط التاريخ الدولي يمثله عل الخريطة الرقم...4
- نطاق الأخدود الأفريقي العظيم يمثله على الخريطة الرقم....5
- حلقة النار عل الخريطة يمثلها الرقم....6
- حافة غاطسة وسط المحيط الأطلسي يمثلها عل الخريطة الرقم...2
- مدار السرطان عل الخريطة يمثله الرقم ...1

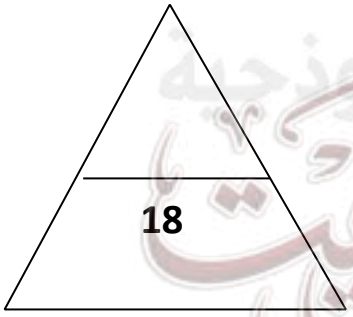

مراجعات غير مخصصة للبيع
المصدر
الكتاب المدرسي
وزارة التربية / الكويت
طبعة
2026 / 2027م
خاصة بطلبة مدارس التميز النموذجية

السؤال الثاني: يتكون من (أ - ب – ج)

(أ) اقرأ الفقرة التالية ثم أجب عما يليها من أسئلة:

" تعتمد عملية الاستشعار عن بعد عل مجموعة من الوسائل المساعدة كالطائرات والأقمار الاصطناعية بهدف الحصول عل مسح جوي او فضائي لسطح الارض عن طريق الموجات الصادرة منها ثم ترسل البيانات لمحطات ارضية تستقبلها وتعالج بواسطة برامج حاسوب للحصول عل المعلومات"

1 . عرف ما تحته خط - **رؤية مالا يرى بالعين المجردة**

2. عدد أهم المجالات التطبيقية لعملية الاستشعار عن بعد:

أ-دراسة الكوارث الطبيعية ب - دراسة تلوث البيئة

3.أذكر اثنين من الوسائل المساعدة للاستشعار عن بعد:

الأقمار الاصطناعية – الطائرات وأجهزة التقاط البيانات- آلات التصوير- أنظمة الرادار

ب) فرق بين كل من:

مورد الأرض	مورد العمل
الموارد الطبيعية: مثل الماء والمعادن	الجهد المبذول مثل: العامل
النمو الاقتصادي	التنمية الاقتصادية
النسبة المئوية للزيادة في الناتج المحلي الإجمالي	مجموع السياسات التي تتخذها الحكومة لزيادة النمو

ج) دلل عل صحة العبارات التالية: -

1. للزلازل آثار تخريبية على سطح الأرض

أ-انهيارات أرضية

ب-حدوث أمواج بحرية ضخمة التسونامي

2. للكائنات الحية دورا مهما في عمليات التجوية الحيوية

أ- الأشجار تعمل عل توسيع الشقوق والمفاصل الصخرية

ب- القوارض والنمل تساعد في تفتت الصخور

السؤال الثالث: لاحظ خريطة دولة الكويت ثم حدد عليها

1 الإطار 2. العنوان 3. مقياس الرسم 4. الاتجاه

:

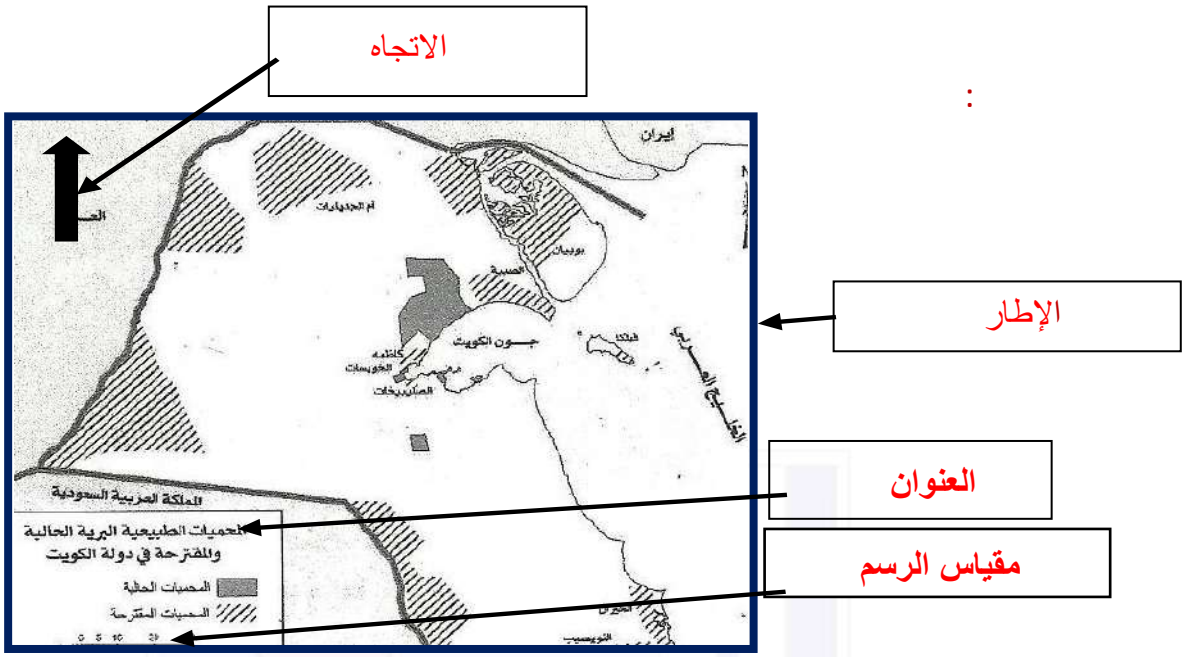

ب) علل لما يلي: -

اختلاف الشبكات النهرية

درجة الانحدار- ظروف الجيولوجية

ج) عدد اثنين لكل مما يلي:

1. مراحل النشاط الاقتصادي: -

مرحلة الموارد الاقتصادية - مرحلة الإنتاج – مرحلة السلع والخدمات

مراجعات غير مخصصة للبيع
المصدر
الكتاب المدرسي
وزارة التربية / الكويت
طبعة
2027/2026م
خاصة بطلبة مدارس التميز النموذجية

2. أنواع الأسواق: -

المنافسة الكاملة - الاحتكار -المنافسة الاحتكارية – احتكار القلة

د) احسب الزمن بعد قراءة الفقرة التالية وفق الخطوات التي درستها:

تم عرض افتتاح مجلس الأمة في تليفزيون الكويت التي تقع على خط طول 45 شرقا الساعة الثامنة صباحا، فمتى يتم مشاهدتها في مسقط على خط طول 60 شرقا؟

1. فارق خطوط الطول = 60 - 45= 15 خط
2. فارق الوقت = 15×4=60 دقيقة=واحد ساعة
3. بما أن الشمس تشرق على مسقط أولا فإن الوقت في مسقط = 8+1= 9 صباحا

السؤال الرابع: يتكون من أ – ب – ج

أ) اقرأ الفقرة التالية ثم أجب عما يليها من أسئلة:

تعتبر الرياح عاملا مهما من عوامل التعرية وتقوم بتشكيل سطح الأرض في العالم وخاصة الأقاليم الصحراوية وشبه الصحراوية وينتج عنها ظاهرات عديدة مثل اليارادنج والجلاميد المصقولة

1. ضع عنوانا مناسبا للفقرة: **دور الرياح في تشكيل سطح الأرض**
2. عدد أهم ظاهرات السطح المرتبطة بفعل الرياح كعامل نحت: **اليارادنج والجلاميد المصقولة الموائد**

ب) ارسم مخطط سهمي لأشكال الإرساب بفعل الرياح:

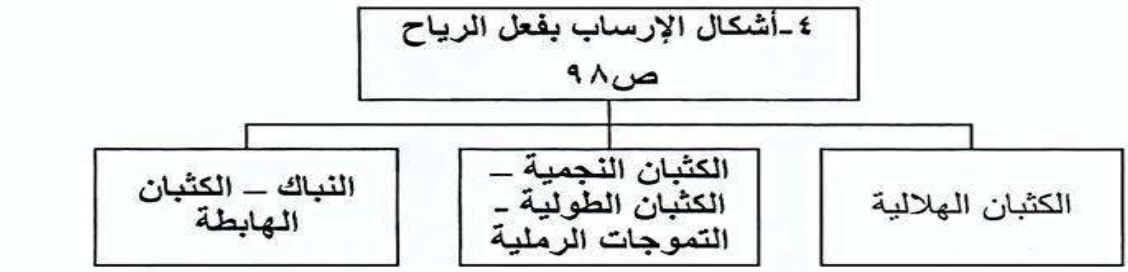

ج) ادرس الجدول التالي الذي يمثل بيانات للدولة) ثم أجب عن الأسئلة

الاستهلاك	الإنفاق الحكومي	الانفاق الاستثماري	الصادرات	الواردات
370	42	80	63	55

احسب قيمة الناتج المحلي الإجمالي للدولة = (370 + 42 +80+63-)55=500 مليون دينار

د) أجب عن الأسئلة التالية:

1 . عدد خصائص المشكلة الاقتصادية؟

الندرة – الاختيار - التضحية

2. أذكر أهمية علم الجغرافيا؟

أ- **تفيد في عمليات التخطيط الإقليمي**

ب- **عمليات التوجيهات الجغرافية**

ت- **التخطيط البيئي**

امتحان نهاية الفترة الدراسية الأولى التجريبي للصف الحادي عشر أدبي مبادئ علم الجغرافيا

السؤال الأول يتكون من (أ, ب , ج , د):-

أ) أكمل العبارات التالية بما يناسبها مما درست:

1. العالم الذي قال الجغرافيا لاشي سوي الانسان والبيئة يسمى .....
2. شي مادي ملموس يحصل عليه الفرد عند شرائه يسمى .....
3. أكبر كواكب المجموعة الشمسية تسمى .....
4. مساحة كبيرة من اليابس بها المرتفعات وتتجمع فيها الثلوج تسمى .....
5. الكوكب الذي يطلق عليه اسم الكوكب الازرق يسمى .....

ب) ضع خطا تحت الخيار الصحيح من بين الخيارات التي تلي كل عبارة:

1. جغرافية السكان هي أحد فروع الجغرافيا

(الإقليمية – التاريخية - البشرية – الطبيعية)

2. . هي كل ما كتب عن موضوع معين على المستوي العالمي

(الموسوعات - الببليوجرافيا - الرسائل الجامعية - الدوريات)

3. . العام الميلادي الذي بدأت فيه الكويت بإصدار المجموعة الاحصائية السنوية:

(1967- 1964 – 1962-1960)

4. الكوكب الوحيد الذي توجد عليه الحياة

(المريخ – الزهرة - الأرض – عطارد)

ج) -أكمل المخطط السهمي التالي بما يناسبه من كلمات:

أنواع الصخور

....

ج) لاحظ خريطة العالم ثم أكتب الرقم الدال عل العبارات التالية:

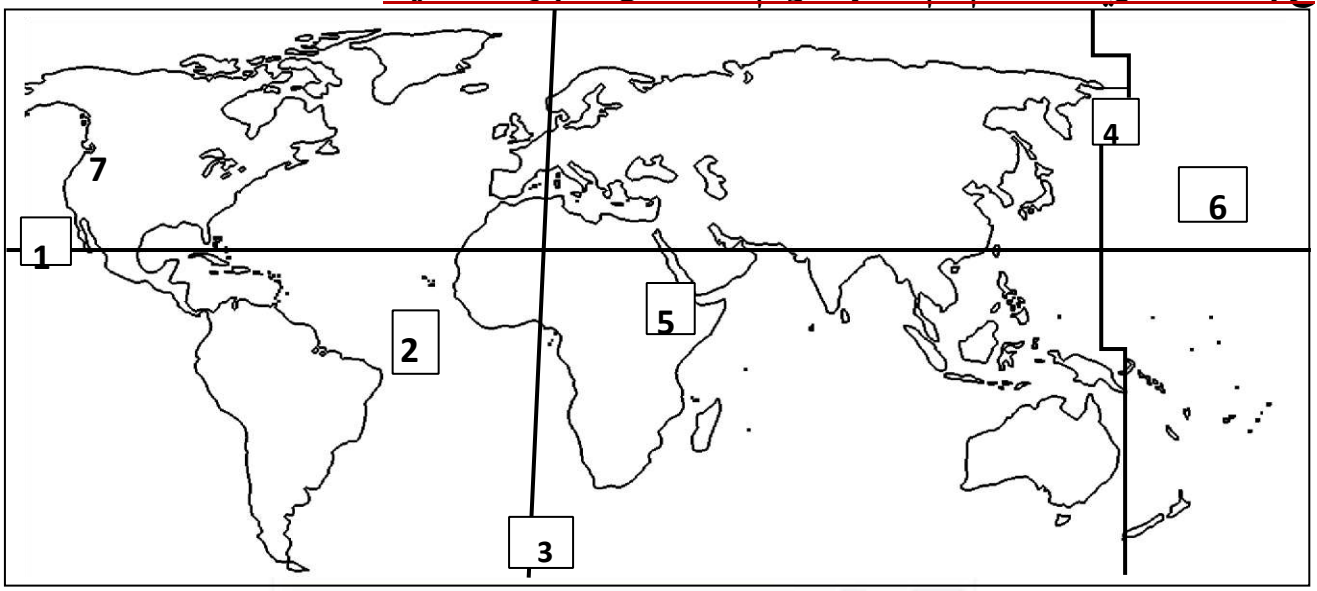

1.خط التاريخ الدولي يمثله عل الخريطة الرقم.....

2.الدولة التي عقد بها مؤتمر الجغرافي 1884 تحمل الرقم .....

3.حلقة النار عل الخريطة يمثلها الرقم .....

4.حافة غاطسة وسط المحيط الأطلسي يمثلها على الخريطة الرقم.....

5.مدار السرطان عل الخريطة يمثله الرقم .....

مراجعات غير مخصصة للبيع
المصدر
الكتاب المدرسي
وزارة التربية / الكويت
طبعة
2027/2026م
خاصة بطلبة مدارس التميز النموذجية

صفوة معلمي الكويت

18

السؤال الثاني: يتكون من (ا - ب – ج)

أ- اقرأ الفقرة التالية ثم أجب عما يليها من أسئلة:

" تعتمد عملية الاستشعار عن بعد على مجموعة من الوسائل المساعدة كالطائرات والأقمار الاصطناعية بهدف الحصول عل مسح جوي او فضائي لسطح الارض عن طريق الموجات الصادرة منها ثم ترسل البيانات لمحطات ارضية تستقبلها وتعالج بواسطة برامج حاسوب للحصول عل المعلومات"

1. عرف ما تحته خط

.....

2. عدد أهم المجالات التطبيقية لعملية الاستشعار عن بعد:

.....

.....

3. أذكر وسيلة من الوسائل المساعدة للاستشعار عن بعد:

.....

ب) فرق بين كل من:

المنظم	راس المال
النمو الاقتصادي	التنمية الاقتصادية

ج) دلل عل صحة العبارات التالية:

1. للزلازل اثار تخريبية كثيرة

- .....
- .....
- .....

2. للكائنات الحية دورا مهما في عمليات التجوية الحيوية

- .....
- .....

مدرسة التميز النموذجية بنين (ابتدائي - متوسط - ثانوي)

السؤال الثالث: يتكون من (أ – ب – ج – د)

أ) لاحظ خريطة دولة الكويت ثم حدد عليها ما يلي

1 الإطار 2 – العنوان 3– مقياس الرسم 4– الاتجاه

:

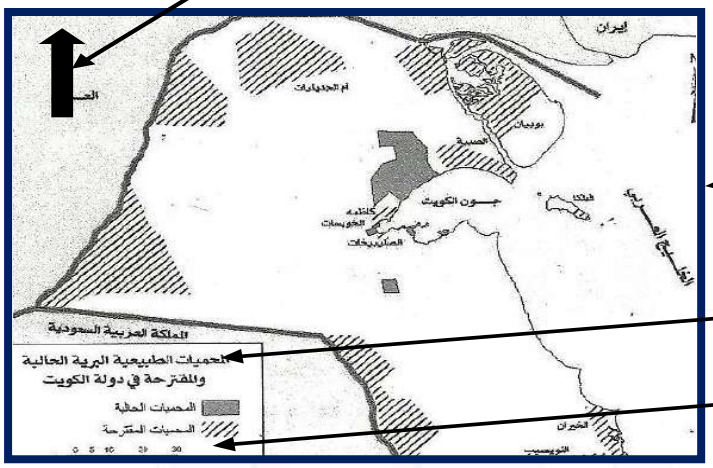

ب) علل لما يأتي:

اختلاف الشبكات النهرية من نهر لآخر

.....

ج) عدد اثنين لكل مما يلي:

1. مراحل النشاط الاقتصادي: -
   - .....
   - .....
2. أنواع الأسواق: -
   - .....
   - .....

د) احسب الزمن بعد قراءة الفقرة التالية وفق الخطوات التي درستها:

تم عرض افتتاح مجلس الأمة في تليفزيون الكويت التي على خط طول 45 شرقا في الساعة الثامنة صباح فمتى يتم مشاهدتها في مسقط على خط طول 60 شرقا؟

.....

.....

السؤال الرابع يتكون من – ب- ج - د

أ فرق بالرسم فقط بين الظاهرات التالية:

كسوف الشمس	خسوف القمر

ب) قارن بين نتائج كل مما يلي:

أوجه المقارنة	حركة الأرض المحورية حول نفسها	دورة القمر حول الارض
النتائج	-	-

ج) دلل عل صحة العبارات التالية:

1.للصخور أهمية كبرى في حياتنا: -

- .....
- .....
- .....

2.للبراكين أثر كبير في النشاط البشري: -

- .....
- .....
- .....

د) لاحظ الجدول التالي ثم أجب عن الأسئلة:

الكمية المطلوبة	السعر دينار	الكمية المعروضة
1500	10	3500
2000	9	3000
2500	8	2500
3000	7	2000
3500	6	1500

1. ارسم منحنى الطلب ومنحنى العرض السوق
2. أوجد السعر التوازن والكمية المتوازنة السوق
3. السعر التوازن..... - الكمية التوازن.....

إجابة امتحان نهاية الفترة الدراسية الأولى التجريبي للصف الحادي عشر أدبي مبادئ علم الجغرافيا والاقتصاد

السؤال الأول يتكون من ا, ب , ج , د:

أ) أكمل العبارات التالية بما يناسبها مما درست:

مراجعات غير مخصصة للبيع
المصدر
الكتاب المدرسي
وزارة التربية / الكويت
طبعة
2027/2026م
خاصة بطلبة مدارس التميز النموذجية

1. العالم الذي قال الجغرافيا لاشي سوى الانسان والبيئة يسمى **فان ريير**
2. كل شي ملموس يحصل عليه الفرد عند شرائه يسمى **السلعة**
3. أكبر كواكب المجموعة الشمسية تسمى **المشتري**
4. مساحة كبيرة تحيط بها المرتفعات وتتجمع فيها الثلوج تسمى **حقول الثلج**
5. الكوكب الذي يطلق عليه اسم الكوكب الازرق يسمى **كوكب الارض**

ب) ضع خطا تحت الخيار الصحيح من بين الخيارات التي تلي كل عبارة:

1. جغرافية السكان أحد فروع الجغرافيا.

(الإقليمية – التاريخية - البشرية – الطبيعية)

2- كل ما كتب عن موضوع معين على مستوى العالم.

(الموسوعات - الببلوجرافيا - الرسائل الجامعية - الدوريات)

3. العام الميلادي الذي بدأت فيه الكويت بإصدار المجموعة الاحصائية السنوية:

(1960-1962 – 1964 -1967)

4. الكوكب الوحيد الذي توجد عليه الحياة.

(المريخ – الزهرة - **الأرض** – عطارد)

ج) أكمل المخطط السهمي التالي بما يناسبه من كلمات:

أنواع الصخور

صخور نارية　　صخور متحولة　　صخور رسوبية

د)لاحظ خريطة العالم ثم أكتب الرقم الدال عل العبارات التالية:

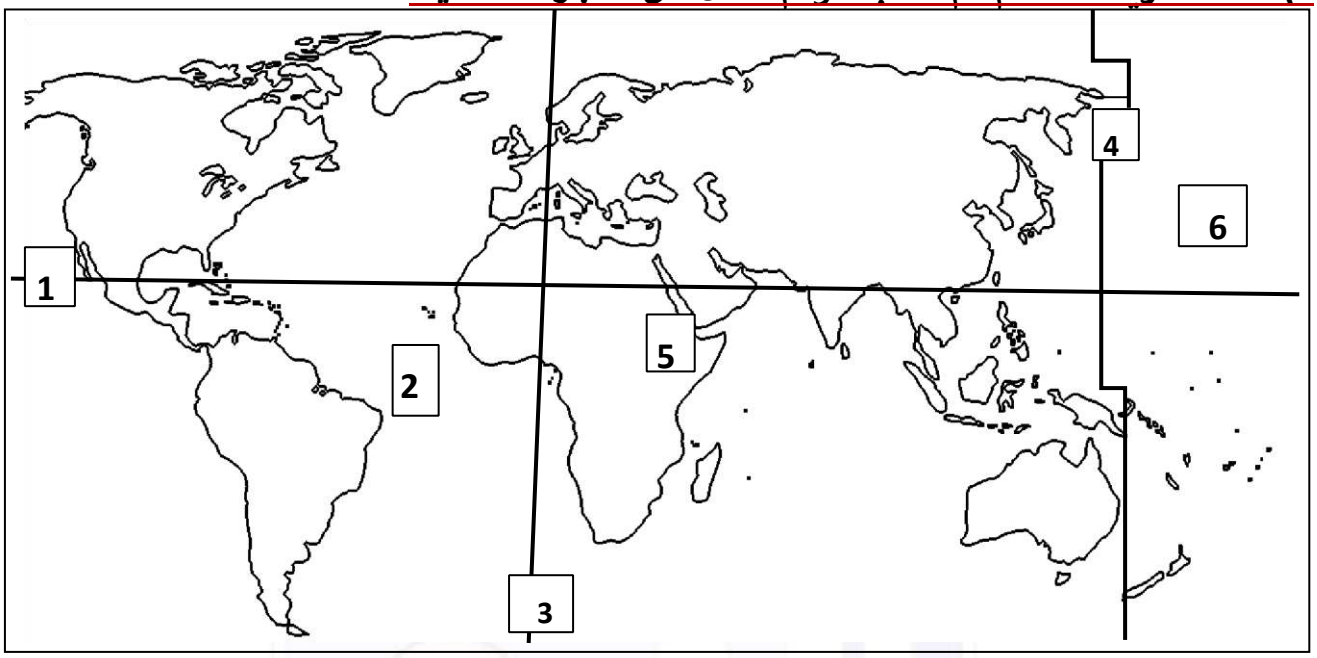

1. خط التاريخ الدولي يمثله عل الخريطة الرقم ..4
2. عقد المؤتمر الجغرافي 1884 ..... 7.
3. حلقة النار عل الخريطة يمثلها الرقم 6
4. حافة غاطسة وسط المحيط الأطلسي يمثلها عل الخريطة الرقم 2.
5. مدار السرطان عل الخريطة يمثله الرقم .1

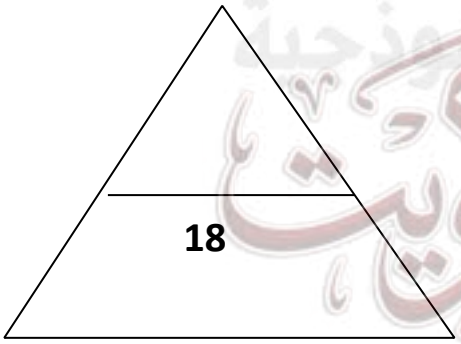

صفوة معلمي الكويت

السؤال الثاني: يتكون من (أ - ب – ج)

(أ) اقرأ الفقرة التالية ثم أجب عما يليها من أسئلة:

" تعتمد عملية الاستشعار عن بعد عل مجموعة من الوسائل المساعدة كالطائرات والأقمار الاصطناعية بهدف الحصول عل مسح جوي او فضائي لسطح الارض عن طريق الموجات الصادرة منها ثم ترسل البيانات لمحطات ارضية تستقبلها وتعالج بواسطة برامج حاسوب للحصول عل المعلومات"

1. عرف ما تحته خط - **رؤية مالا يرى بالعين المجردة**

2. عدد أهم المجالات التطبيقية لعملية الاستشعار عن بعد:

أ- دراسة الكوارث الطبيعية
ب-دراسة تلوث البيئة

مراجعات غير مخصصة للبيع
المصدر
الكتاب المدرسي
وزارة التربية / الكويت
طبعة
2027/2026م
خاصة بطلبة مدارس التميز النموذجية

3. أذكر وسيلة من الوسائل المساعدة للاستشعار عن بعد:

أ- الأقمار الاصطناعية
ب-الطائرات وأجهزة التقاط البيانات
ت-آلات التصوير- أنظمة الرادار

ب) فرق بين كل من:

المنظم	راس المال
المسؤول عن عوامل الانتاج والادارية	الآلات والمعدات
النمو الاقتصادي	التنمية الاقتصادية
النسبة المئوية للزيادة في الناتج المحلي الإجمالي	مجموع السياسات التي تتخذها الحكومة لزيادة النمو

ج) دلل على صحة العبارات التالية

1. للزلازل آثار تخريبية على سطح الأرض

أ- انهيارات أرضية
ب-حدوث أمواج بحرية ضخمة التسونامي

2 . للكائنات الحية دورا مهما في عمليات التجوية الحيوية

أ- الأشجار تعمل عل توسيع الشقوق والمفاصل الصخرية
ب- القوارض والنمل تساعد في تفتت الصخور

السؤال الثالث: لاحظ خريطة دولة الكويت ثم حدد عليها

1 الإطار 2 . العنوان 3. مقياس الرسم 4. الاتجاه

:

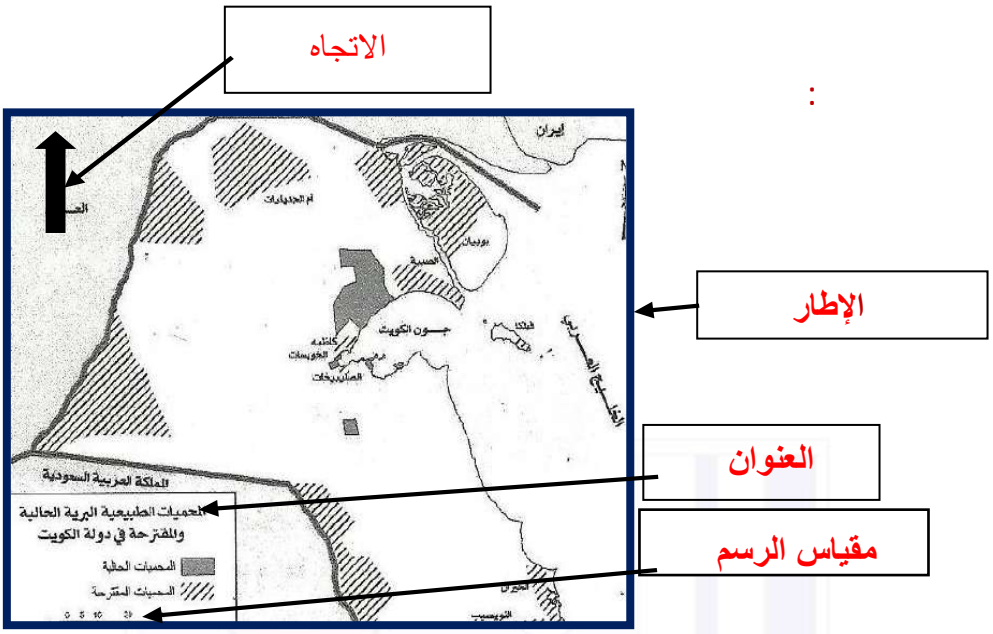

ب) علل لما يلي: -

1- اختلاف الشبكات النهرية

درجة الانحدار- ظروف الجيولوجية

ج) عدد اثنين لكل مما يلي:

3. مراحل النشاط الاقتصادي: -

مرحلة الموارد الاقتصادية - مرحلة الإنتاج – مرحلة السلع والخدمات

4. أنواع الأسواق:

المنافسة الكاملة - الاحتكار -المنافسة الاحتكارية – احتكار القلة

د) احسب الزمن بعد قراءة الفقرة التالية وفق الخطوات التي درستها:

تم عرض افتتاح مجلس الأمة في تليفزيون الكويت التي تقع على خط طول 45 شمالا الساعة الثامنة صباحا، فمتى يتم مشاهدتها في مسقط على خط طول 60 شرقا؟

1. فارق خطوط الطول = 60- 45= 15 خط
2. فارق الوقت = 15×4=60دقيقة=واحد ساعة
3. بما أن الشمس تشرق على مسقط أولا فإن الوقت في مسقط = 8+1= 9 صباحا

السؤال الرابع يتكون من أ – ب- ج - د

أ) فرق بالرسم فقط بين الظاهرات التالية :

كسوف الشمس	خسوف القمر
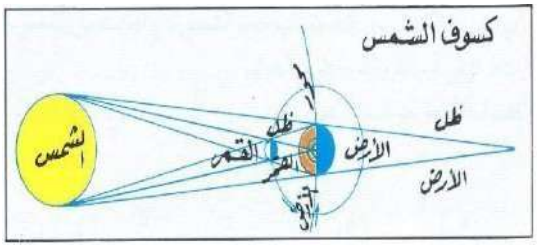	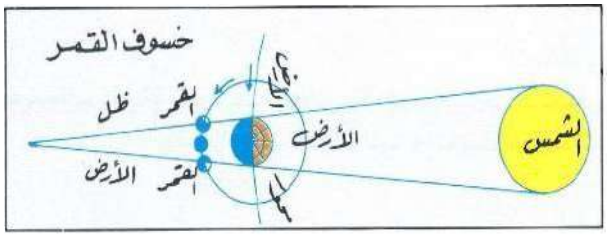

ب قارن بين نتائج كل مما يلي:

أوجه المقارنة	حركة الأرض المحورية حول نفسها	دورة القمر حول الارض
النتائج	تعاقب الليل والنهار الحركة الظاهرية للشمس الانتفاخ الاستوائي	المد والجزر اختلاف اوجه القمر

ج) دلل عل صحة العبارات التالية:

1 . للصخور أهمية كبرى في حياتنا

أ -مواد خام في أعمال البناء ب-مكامن مصادر الطاقة ج-مصدرا للمياه الجوفية د- مكان للمعادن

2 . للبراكين تأثير كبير في النشاط البشري

أ- خصوبة التربة ب- إظهار المعادن ج- السياحة

د) ادرس الجدول التالي ثم أجب عن الأسئلة التي تليها:

الكمية المطلوبة	السعر دينار	الكمية المعروضة
1500	10	3500
2000	9	3000
2500	8	2500
3000	7	2000
3500	6	1500

1.ارسم منحنى الطلب ومنحنى العرض في السوق

2.أوجد السعر التوازني والكمية المتوازنة في هذا السوق

3.السعر التوازني 8**دينار** - الكمية التوازنية **2500**

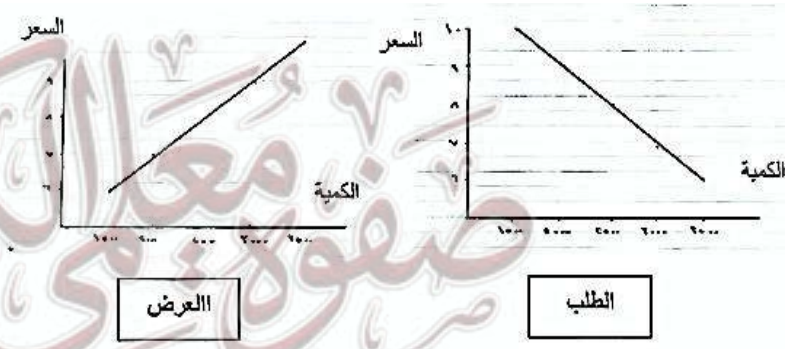

- السعر التوازني هو (٨ دنانير كويتي) - الكمية التوازنية (٢٥٠٠)

مدرسة التميز النموذجية بنين (ابتدائي - متوسط - ثانوي)

عندما يكون تعليم أبنائكم
اهتمامكم الأول في الحياة

مدرسة التميز النموذجية
ابتدائي - متوسط - ثانوي

قنواتنا على تليجرام

