المعدّل



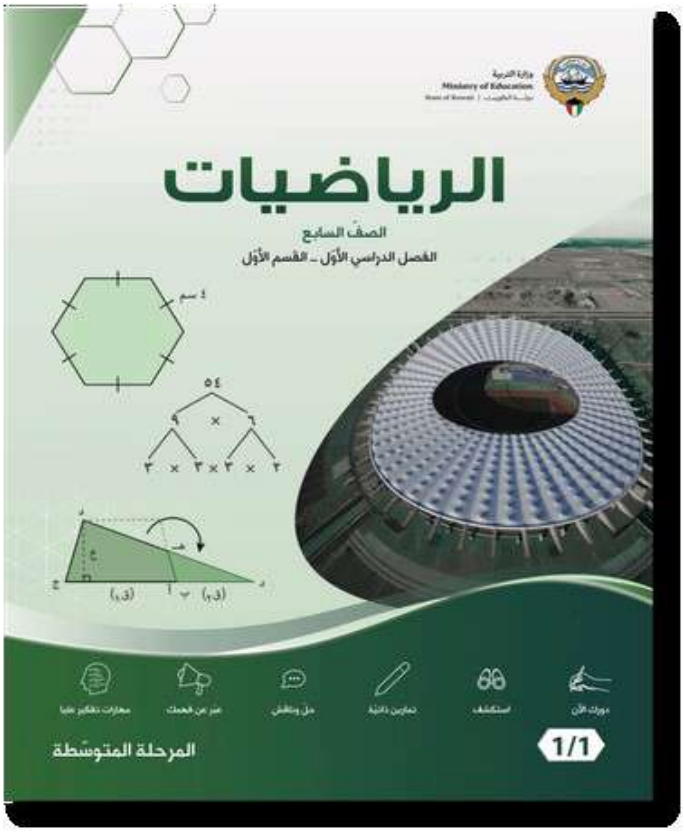

مراجعة الاختبار القصير لمادة الرياضيات للصف السابع مع نماذج اختبارات

٢٠٢٦ـ٢٠٢٧

أ. فاطمة العطية

المراجع:

١. وزارة التربية – دولة الكويت. كتاب الرياضيات للصف السادس (الطبعة ٢٠٢٦ / ٢٠٢٧)

٢ . المذكرة غير مخصصة للبيع

مراجعة الاختبار القصير الفصل الدراسي الأول لمادة الرياضيات للصف السابع
الوحدة الأولى

السؤال الأول :

أُكتب الاسم المطوَّل والاسم اللفظي الموجَز لكلّ عدد ممّا يلي :

أ) ٩٢ ٠٣٠ ٠٠٧ ٠٠٠

الاسم المطوَّل

الاسم اللفظي الموجَز

ب) ٤,٥٣١٦

الاسم المطوَّل

الاسم اللفظي الموجَز

السؤال الثاني :

أُكتب القيمة المكانية للرقم الذي تحته خطّ في كلّ عدد ممّا يلي :

١) ٦٨١ ٢٣١ : .....

٢) ١٩٠٠ ٧٥١ ٢٠٠ ٦٠٦ : .....

السؤال الثالث :

أُكتب القيمة المكانية للرقم الذي تحته خطّ في كلّ عدد ممّا يلي بالشكل النظامي :

أ) ٩,٤٨ .....

ب) ٨,٤٠١٦ .....

ج) ١٣٥,٦٤٥ .....

د) ٣٢٩ ٠٦٨ .....

هـ) ٠,٢١٥٧ .....

و) ٣٧ ٠٠٠ ١٣٢ .....

السؤال الرابع :

أُكتب كلًّا ممّا يلي بالشكل النظامي :

أ) ٧ صحيح و٨ أجزاء من ألف .

.....

ب) ٤٣ صحيح و٦ أجزاء من مئة ألف .

.....

ج) ستّة وعشرون تريليونًا وخمسة مليارات .

.....

مراجعة الاختبار القصير الفصل الدراسي الأول لمادة الرياضيات للصف السابع
الوحدة الأولى

السؤال الخامس :

يبلغ إجمالي أطوال بعض الطرق الخارجية والداخلية التي تخدم مدينة صباح الأحمد السكنية حوالي ٤٨,٣٢٧ كيلومترًا . اُكتب الاسم اللفظي الموجَز للعدد ٤٨,٣٢٧

السؤال السادس :

رمز الدخول إلى هاتف سارة هو عدد مكوَّن من ستّة أرقام . بحيث :

يوجد الرقم ١ في منزلة عشرات الآلاف

يوجد الرقم ٢ في منزلة الآحاد

يوجد الرقم ٣ في منزلة المئات

يوجد الرقم ٤ في منزلة آحاد الآلاف

يوجد الرقم ٥ في منزلة العشرات

يوجد الرقم ٦ في منزلة مئات الآلاف

ما هو رمز الدخول إلى هاتف سارة ؟

السؤال السابع : قارِن بين كلّ عددَين بوضع > أو < أو = لتحصل على عبارة صحيحة :

(أ) ٣٤	◯	٢٤٤	(ب) ٥٧١	◯	٧١٥
(د) ٨,٣١	◯	٨,٣٢٠	(هـ) ١,٩٩٩٩	◯	٠,٢
(ز) ٦٧٦٢٤٢	◯	٦٧٦٢١٤	(ح) ١ تريليون	◯	١٠٠٠ مليار

(ج) ٨ مئات	◯	٨٠٢	(أ) ٠,٣٤	◯	٠,٣٤٤
(و) ٠,٠٤٣١	◯	٠,٠٤١	(ب) ٠,٧٥١	◯	٠,٧١٥
(ط) ٥٤,٣١٤	◯	٥٤,٣٢	(ج) ٩,٠٠٠٣	◯	٩,٠٠٠٠٣

(أ) ٧ تريليونات	◯	٧٠٠٠٠٠٠٠٠٠٠٠٠
(ب) ٥٢٠٠	◯	٥٠٩٠٠
(ج) ٣٠٩٠	◯	ثلاثة آلاف وتسعة
(د) ٠,٢	◯	٠,٢٠٤
(هـ) ٧٣,٥	◯	٧٣,٠٥
(و) ٥,١٣	◯	خمسة صحيح وثلاثة عشر جزءًا من مئة

مراجعة الاختبار القصير الفصل الدراسي الأول لمادة الرياضيات للصف السابع
الوحدة الأولى

السؤال الثامن : قرِّب كلّ عدد ممّا يلي إلى المنزلة التي تحتها خطّ :

أ) ٩٥٧٣ ≈ .....

ب) ٥٥٨٣١ ≈ .....

ج) ٦٦٠٤٨١ ≈ .....

د) ٠,٦٧١ ≈ .....

هـ) ١٤,٣٥٢ ≈ .....

و) ٩,٩٩٧ ≈ .....

ز) ٢,٠٠١٤٩ ≈ .....

ح) ١١,٨٥٠٧٧ ≈ .....

قرِّب إلى المنزلة المعطاة :

١) ٨,٩٢٦ إلى أقرب عدد صحيح .....

٢) ١٣,٧٠١٤ إلى أقرب جزء من ألف .....

السؤال التاسع :

في صيف عام ٢٠٢٤ ، سجّلت الكويت أقصى حمل كهربائي حيث بلغ إجمالي الطاقة المستهلَكة في ذلك اليوم ٤١٦٦٤٠٠٠٠٠٠ واط لكلّ ساعة .

بينما تستهلك بعض المدن الصغيرة خلال اليوم الواحد ما يقارب ٥١٠٠٠٠٠٠٠٠٠ واط لكلّ ساعة .

أ) أُكتب إجمالي استهلاك الكهرباء في الكويت في ذلك اليوم مقرِّبًا إلى أقرب مليار واط لكلّ ساعة .

.....

ب) أُكتب استهلاك المدن الصغيرة مقرِّبًا إلى أقرب عشرة مليارات واط لكلّ ساعة.

السؤال العاشر : رتِّب مجموعات الأعداد الآتية ترتيبًا تصاعديًا :

٥ ، ٠,٤١ ، ٤,١ ، ٥,٣ ، ٠,٠٣	٤٠٠ مليون ، ٢ تريليون ، مليار
٤ مليارات ، ٤ ملايين ، ٤ تريليونات	٥,٢٧ ، ٥,٠٢٧ ، ٥,٧

٦٨٠٠٠٠٠٠٠٠٠٠ ، ٦٠٠٠٨٠٠٠٠٠٠٠ ، ٩٠٠٠٠٠٠٠٠٠

مراجعة الاختبار القصير الفصل الدراسي الأول لمادة الرياضيات للصف السابع
الوحدة الأولى

السؤال الحادي عشر : رتِّب الأعداد الآتية ترتيبًا تنازليًّا :

٠,٨٨١ ، ٠,٨٠٤ ، ٠,٨٧ ، ٠,٩	١٠ آلاف ، ١ تريليون ، ١٠ ملايين
٧,٥٣٢١ ، ٧,٥٨٩ ، ٧,٩٣١	١,٠٢١ ، ٧ ، ٧,٠٠٩١ ، ٧,٢٨ ، ٢,١٧

٤٠٠٢٨٠٠٣٧٨٠٠٠ ، ٤٤٠٠٨٢٠٣٠٠٠٠٠ ، ٤٠٠٩١١٦٠٧٠٠٠

السؤال الثاني عشر : أوجد الناتج :-

٢,٣٥ + ٠,٤٢٥٣ =	٣,٩٨ − ٢,٩٤٥
٤,٥٦ + ٧,٧٥ =	٧,٨٨ − ٢,٤٩ =
٩,٣٤ + ٦,٢٥٧٣ =	٥,٩٣ − ١,٤ =
٣٥,٠٠٩ + ٢,٠٣١ + ٠,٥٥ =	٨٥,٧١٦ − ٣٦,٨١ =
١٥,٧٠٢ + ١٩ + ٦,٩ =	٨٢ − ٦٧,٩٩ =

مراجعة الاختبار القصير الفصل الدراسي الأول لمادة الرياضيات للصف السابع
الوحدة الأولى

السؤال الثالث عشر : حجز عبدالله ورفاقه ملعب بادل لمدّة ساعتَين ،
وكانت التكلفة الإجمالية للحجز ٢٦ دينارًا ،
اِستخدم عبدالله قسيمة خصم بقيمة ١٥,٧٥٥ دينارًا . ما المبلغ الذي دفعه عبدالله بعد الخصم ؟

السؤال الرابع عشر :
إذا كان لدى يوسف ٢٠ دينارًا ، وأثناء التخفيضات في مهرجان هلا فبراير في الكويت ، شاهد يوسف لعبة لنموذج مركبة فضاء ثمنها ١٤,٩٥٠ دينارًا ، ومجسَّمًا للكرة الأرضية ثمنه ٤,٣ دنانير ، فهل يكفي هذا المبلغ لشراء اللعبة والمجسَّم ؟

الأعداد المناسِبة (المتوافقة) :
هي زوج من الأعداد يمكن حسابه بسهولة .

تفكيك العدد إلى مكوِّناته :
نستخدم تفكيك مكوِّنات الأعداد إلى آحاد وعشرات ومئات ، ... .

حفظ التوازن :
حيث نعتمد أحد مضاعَفات العشرة أو نُضيف عددًا ونطرحه حفظًا على التوازن .

السؤال الخامس عشر : أوجد ناتج ما يلي باستخدام الحساب الذهني : -

٣٥ + ٩ + ٢٥	٣٦ + ٢٥
٤,٦ + ٧ + ١٥,٤	٦,٩ - ٢,٩
١٧ + ٢٨ + ١٣ =	٥٦ - ١٤

مراجعة الاختبار القصير الفصل الدراسي الأول لمادة الرياضيات للصف السابع
الوحدة الأولى

تابع : السؤال الخامس عشر : أوجد ناتج ما يلي باستخدام الحساب الذهني : -

١١,١ + ٥,٦ + ٣,٩ =	٢٤,٣ + ٢,٧
٥٣ + ٤٥	٢٦٥ + ٩٢ + ٣٥ =
١٤٧ − ٢٥	١٣٤ − ٩٩ =
٠,٠٢ + ٥ + ٠,٩٨	٤٠٠ + ٥٧ + ٦٠٠

السؤال السادس عشر : التمثيل البياني المقابِل يوضّح عدد الكتب التي يملكها : حمزة ، فهد ، عيسى .

ناقِش وأوجِد كلًّا ممّا يلي باستخدام الحساب الذهني

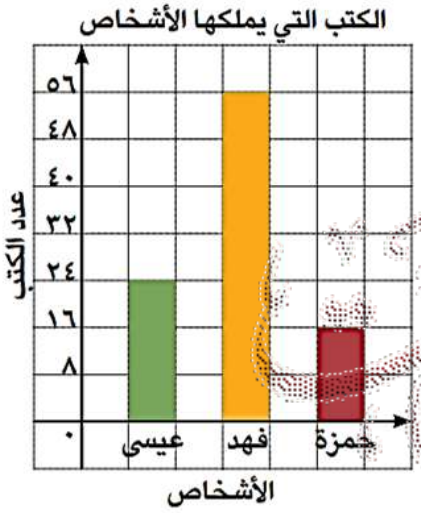

(أ) ما مجموع الكتب التي يملكها الطلاب الثلاثة ؟

.....

.....

(ب) كم عدد الكتب التي يملكها عيسى وحمزة معًا ؟

.....

.....

(ج) إذا تبرّع فهد بـ ٢٩ كتابًا لنادي القراءة ، فكم كتابًا يبقى معه ؟

.....

مراجعة الاختبار القصير الفصل الدراسي الأول لمادة الرياضيات للصف السابع
الوحدة الأولى

السؤال السابع عشر : أوجد ناتج ما يلي : -

١٥٧ × ٢٤,٦٨	١,٠٨ × ٤٢,٧
٠,١٤ × ٠,٢٠٦ =	٠,٢٣ × ٢,٠٧ =
٣,٤ × ١٠,٢ =	٤,٠٨ × ٩,٣٧ =
٦,٣٥ × ١٤,٢ =	٢,٤ × ٦,٠٣

السؤال السادس عشر :

أراد ٧ أصدقاء شراء تذاكر لمشاهدة فيلم عن الفضاء في المركز العلمي ، وكان سعر التذكرة الواحدة ٣,٢٥ دنانير . فكم سيدفعون ثمنًا لشراء التذاكر ؟

مراجعة الاختبار القصير الفصل الدراسي الأول لمادة الرياضيات للصف السابع
الوحدة الأولى

السؤال السابع عشر :

شارك بدر في سباق الدرّاجات لتمثيل دولة الكويت في إحدى البطولات ، إذا كان يقود درّاجته بسرعة ثابتة مقدارها ٤٨,٣ كيلومترًا لكلّ ساعة ، واستمرّ في القيادة لمدّة ٤,٥ ساعات ، فكم كيلومترًا قطع بدر خلال السباق ؟

السؤال الثامن عشر :

في أثناء مهرجان هلا فبراير في الكويت ، قرّرت مريم الذهاب مع عائلتها إلى حديقة جنوب الصباحية ، فدفعت مبلغ ٩,٦ دنانير ثمنًا لاثنتَي عشرة تذكرة . فكم قيمة التذكرة الواحدة ؟

السؤال التاسع عشر :

يُنتج مصنع موادّ غذائية ١٢٣٤,٨٩ كجم من السكّر يوميًّا . في أحد الأيّام تُلف جزء منها ، وكان مقدار الجزء التالف ٢١٩,٦٢٤ كجم . كم بقي من الإنتاج الصالح ؟

السؤال العشرون :

أعدّت سارة ٣٦ وجبة عشاء لتوزيعها على العمالة ، إذا كانت تكلفة الوجبة الواحدة ١,٧٥٠ دينار ، فكم بلغت التكلفة الكلّية لجميع الوجبات ؟

مراجعة الاختبار القصير الفصل الدراسي الأول لمادة الرياضيات للصف السابع
الوحدة الأولى

السؤال الحادي و العشرون : أوجد ناتج ما يلي : -

١٢٤٤,٢٤ ÷ ٤١٢	٢٧٩٨,٩٨ ÷ ٨٠٢
٤٤,١ ÷ ٦,٣	١٥,٨٢٦ ÷ ١,٩٣
٢٠,٤٧ ÷ ٢٣	١,١٦١٣ ÷ ٢,٣٧
٠,١٧١ ÷ ٠,٠٤٥	٢,٣٥ ÷ ٢,٥
٣٣٠,٤٨ ÷ ٥,٤	٨,٦٦٧ ÷ ٣,٢١

مراجعة الاختبار القصير الفصل الدراسي الأول لمادة الرياضيات للصف السابع
الوحدة الأولى

السؤال الثاني و العشرون :

إذا كان لديك ١٥,٧٥ لترًا من العصير وتريد توزيعها بالتساوي على علب سعتها ٠,٢٥ لتر ، فكم عدد العلب التي ستحتاج إليها ؟

السؤال الثالث و العشرون :

تقوم أنفال بصناعة الصابون في المنزل . اِستخدمت ١٠,٩٢ كيلوجرامات من خليط الصابون ، وتريد أن تصبّه في قوالب صغيرة ، كلّ قالب منها يستوعب ٠,٤٢ كيلوجرام من الصابون . فكم عدد القوالب التي حصلت عليها ؟

السؤال الرابع و العشرون :

٢ × ١٧ × ٥ =	٢٥ × ٤ × ٩ =
٢ × ٣٩ × ٥٠ =	١٢٥ × ٩ × ٨ =
٣٥ ٠٠٠ ÷ ٧٠ =	٦ ٠٠٠ × ٩٠٠ =
٤ × ١٣٥ = (طريقة التفكيك)	١٠٣ × ٥ = (طريقة التفكيك)
٢٨ × ٥ = (طريقة التعويض)	٥٧ × ٦ = (طريقة التعويض)

مراجعة الاختبار القصير الفصل الدراسي الأول لمادة الرياضيات للصف السابع
الوحدة الأولى

تابع : السؤال الرابع و العشرون :

٢٥٠ × ٤ × ٣٨ =	٢ × ٤٢ × ٥٠٠ =
٧٠٠٠ × ٣٠٠ =	٢٠٠٠٠ ÷ ٥٠
٥٤٠٠٠٠ ÷ ٩٠٠ =	٤٢٠٠٠ ÷ ٧٠٠ =
١٠٧ × ٤ = (طريقة التفكيك)	٤٩ × ٣ = (طريقة التعويض)
٧١ × ٣ = (طريقة التعويض)	٢٩ × ٦ = (طريقة التعويض)

السؤال الخامس و العشرون :

يخطّط سالم لاستخدام تطبيق تعليمي لمدّة ٢٠ يومًا ، وتكلفة استخدام التطبيق ٢٥٠ فلسًا لكلّ ساعة . إذا كان يستخدم التطبيق ٤ ساعات في اليوم ، فكم تكون التكلفة الإجمالية خلال فترة الاستخدام ؟

السؤال السادس و العشرون : في البنود (١ - ٥) ، ظلِّل [أ] إذا كانت العبارة صحيحة ، و [ب] إذا كانت العبارة غير صحيحة .

١ ٥٢,٧٦١ مقرِّبًا إلى أقرب جزء من عشرة هو ٥٣,٨	أ	ب
٢ ٠,٣ × ٠,٤ = ١,٢	أ	ب
٣ ٣٥ - ٠,٣٤ = ٠,٠١	أ	ب
٤ ٠,٦ + ٣ + ١,٤ = ٥	أ	ب
٥ ٤٠٠٠ ÷ ٥٠ = ٨٠٠	أ	ب

السؤال السابع و العشرون : لِكُلِّ بَنْدٍ أرْبَعَةُ اخْتِياراتٍ ، واحِدٌ فَقَطْ مِنْها صَحيحٌ ، ظَلِّلِ الْإجابَةَ الصَّحيحَةَ :

١ ٢٥ × ٧ × ٢ =

أ ٥٠ ب ١٤ ج ١٧٥ د ٣٥٠

مراجعة الاختبار القصير الفصل الدراسي الأول لمادة الرياضيات للصف السابع
الوحدة الأولى

السؤال السابع و العشرون : لِكُلِّ بَنْدٍ أرْبَعَةُ اخْتِياراتٍ ، واحِدٌ فَقَطْ مِنْها صَحيحٌ ، ظَلِّلِ الإجابَةَ الصَّحيحَةَ :

٢ رمز العدد (ستّة صحيح وخمسة أجزاء من ألف) هو :

أ ٦,٠٠٥ ب ٦,٠٥ ج ٥,٠٠٠٦ د ٥,٠٠٦

٣ العدد الذي يقع بين العددَين ٢,٤٢ ، ٢,٤٥ فيما يلي هو :

أ ٢,٤١ ب ٢,٤٤ ج ٢,٤٧ د ٢,٥٤

٤ القيمة المكانية للرقم ٥ في العدد ٧,٣٥١ هي :

أ ٠,٠٠٥ ب ٠,٠٥ ج ٠,٥ د ٥

٥ ٥,٤٩ − ٣ =

أ ٨,٤٩ ب ٥,٤٦ ج ٥,١٩ د ٢,٤٩

٦ ٢٤٥ ÷ ١٠٠٠٠ =

أ ٠,٠٢٤٥ ب ٠,٢٤٥ ج ٢٤٥٠ د ٤٥٠٠٠٠

٧ ٠,٣١ × ٢,٥ =

أ ٧,٧٥ ب ٧٧,٥ ج ٠,٧٧٥ د ٠,٠٧٧٥

٨ ٤١,٠٣ + ١٩,٥ =

أ ٦٠,٨ ب ٦٠,٥٣ ج ٦٠,٠٨ د ٥٠,٥٣

٩ ١,٨٧٢ ÷ ٣,٦ =

أ ١,٨٧٢ ÷ ٣٦ ب ١٨٧٢ ÷ ٣٦ ج ١٨,٧٢ ÷ ٣٦ د ١٨٧,٢ ÷ ٣٦

١٠ ٣٠,٠٧٦ =

أ ٠,٠٠٦ + ٠,٧ + ٣٠ ب ٠,٠٠٦ + ٠,٠٧ + ٣

ج ٠,٠٠٦ + ٠,٠٧ + ٣٠ د ٠,٠٦ + ٠,٧ + ٣٠

نموذج اختبار (١)

للصف السابع **٢٠ درجة**

الفصل الدراسي الأول ٢٠٢٦ – ٢٠٢٧ **صفحة (١)**

الاسم : **الصف : ٧ /**

السؤال الأول :-

في أثناء مهرجان هلا فبراير في الكويت ، قرّرت مريم الذهاب مع عائلتها إلى حديقة جنوب الصباحية ، فدفعت مبلغ ٩,٦ دنانير ثمنًا لاثنتَي عشرة تذكرة . فكم قيمة التذكرة الواحدة ؟

السؤال الثاني :- أوجد الناتج : -

١٠,٢ × ٣,٤ =

السؤال الثالث :- أوجد الناتج :-

٧,٨٨ – ٣,٤٩ =

نموذج اختبار (١)
للصف السابع
الفصل الدراسي الأول ٢٠٢٦ – ٢٠٢٧

٢٠ درجة
صفحة (٢)

السؤال الرابع :- ظَلِّلْ [أ] إذا كانَتِ الْعِبارَةُ صَحيحَةً، وَظَلِّلْ [ب] إذا كانَتِ الْعِبارَةُ غَيْرَ صَحيحَةٍ :

١	٥٢,٧٦١ مقرِّبًا إلى أقرب جزء من عشرة هو ٥٢,٨	أ	ب
٢	رمز العدد (سبعمائة و خمسة مليارًا و سبعمائة و خمسة ألفًا) هو ٧٠٥ ٠٠٠ ٧٠٥ ٠٠٠	أ	ب

السؤال الخامس :- لِكُلِّ بَنْدٍ أرْبَعَةُ اخْتِياراتٍ ، واحِدٌ فَقَطْ مِنْها صَحيحٌ ، ظَلِّلِ الْإجابَةَ الصَّحيحَةَ :

١ ٤١,٠٣ + ١٩,٥ =

أ ٦٠,٨ ب ٦٠,٥٣ ج ٦٠,٠٨ د ٥٠,٥٣

٢ العدد الذي يقع بين العددَين ٢,٤٢ ، ٢,٤٥ فيما يلي هو :

أ ٢,٤١ ب ٢,٤٤ ج ٢,٤٧ د ٢,٥٤

٣ ١٧ + ٢٥ =

(أ) (٧ + ٥)+(١٠ × ٢٠) (ب) (٧ + ٥)+(١٠ + ٢٠)

(ج) (٧ + ٥)×(١٠ + ٢٠) (د) (٧ + ٥)×(١٠ × ٢٠)

نموذج اختبار (٢)

للصف السابع **٢٠ درجة**

الفصل الدراسي الأول ٢٠٢٦ – ٢٠٢٧ **صفحة (١)**

الاسم : **الصف : ٧ /**

السؤال الأول :-

أراد ٧ أصدقاء شراء تذاكر لمشاهدة فيلم عن الفضاء في المركز العلمي ، وكان سعر التذكرة الواحدة ٣,٢٥ دنانير . فكم سيدفعون ثمنًا لشراء التذاكر ؟

السؤال الثاني :- أوجد الناتج : -

٣٥,٠٠٩ + ٢,٠٣١ + ٠,٥٥ =

السؤال الثالث :- أوجد الناتج :-

٣٣٠,٤٨ ÷ ٥,٤ =

نموذج اختبار (٢)
للصف السابع
الفصل الدراسي الأول ٢٠٢٦ – ٢٠٢٧

٢٠ درجة
صفحة (٢)

السؤال الرابع :- ظَلِّلْ [أ] إذا كانَتِ الْعِبارَةُ صَحيحَةً، وَظَلِّلْ [ب] إذا كانَتِ الْعِبارَةُ غَيْرَ صَحيحَةٍ :

١	٣٥ – ٠,٣٤ = ٠,٠١	[أ]	[ب]
٢	١ تريليون = ١٠٠٠ مليار	[أ]	[ب]

السؤال الخامس :- لِكُلِّ بَنْدٍ أرْبَعَةُ اخْتِياراتٍ ، واحِدٌ فَقَطْ مِنْها صَحيحٌ ، ظَلِّلِ الْإجابَةَ الصَّحيحَةَ :

١ العدد ٣٨,١٧٤ مقرّبًا لأقرب جزء من عشرة هو

(أ) ٣٨ (ب) ٣٨,١

(ج) ٣٨,١٧ (د) ٣٨,٢

٢ رمز العدد (ستّة صحيح وخمسة أجزاء من ألف) هو :

[أ] ٦,٠٠٥ [ب] ٦,٠٥ [ج] ٥,٠٠٠٦ [د] ٥,٠٠٦

٣ القيمة المكانية للرقم الذي تحته خط ٩,٤٨ :

(أ) ٩ (ب) ٩,٤ (ج) ٩,٤٨ (د) ٠,٤

نموذج اختبار (٣)

للصف السابع

٢٠ درجة

الفصل الدراسي الأول ٢٠٢٦ – ٢٠٢٧

صفحة (١)

الاسم :

الصف : ٧ /

السؤال الأول :- (١) رتِّب مجموعة الأعداد التالية ترتيبًا تصاعديًا :

٢٣ تريليون ، ٤٠٠ مليون ، ٢ تريليون ، مليار

(٢) أوجد الناتج : ٩,٣٤ + ٦,٢٥٧٣ =

السؤال الثاني :-

أعدّت سارة ٣٦ وجبة عشاء لتوزيعها على العمالة ، إذا كانت تكلفة الوجبة الواحدة ١,٧٥٠ دينار ، فكم بلغت التكلفة الكلّية لجميع الوجبات ؟

السؤال الثالث :- أوجد الناتج :-

٨,٦٦٧ ÷ ٣,٢١ =

نموذج اختبار (٣)
للصف السابع
الفصل الدراسي الأول ٢٠٢٦ – ٢٠٢٧

٢٠ درجة
صفحة (٢)

السؤال الرابع :- ظَلِّلْ [أ] إذا كانَتِ الْعِبارَةُ صَحيحَةً، وَظَلِّلْ [ب] إذا كانَتِ الْعِبارَةُ غَيْرَ صَحيحَةٍ :

١	٢٥ × ٧ × ٢ = ٣٥٠	[أ]	[ب]
٢	العدد ١٤,٣٥٢ مُقربًا لأقرب جزء من مائة ≈ ١٤,٣	[أ]	[ب]

السؤال الخامس :- لِكُلِّ بَنْدٍ أرْبَعَةُ اخْتِياراتٍ ، واحِدٌ فَقَطْ مِنْها صَحيحٌ ، ظَلِّلِ الْإجابَةَ الصَّحيحَةَ :

١ القيمة المكانية للرقم ٥ في العدد ٧,٣٥١ هي :

[أ] ٠,٠٠٥ [ب] ٠,٠٥ [ج] ٠,٥ [د] ٥

٢ ٥,٤٩ − ٣ =

[أ] ٨,٤٩ [ب] ٥,٤٦ [ج] ٥,١٩ [د] ٢,٤٩

٣ ٣٠,٠٧٦ =

[أ] ٠,٠٠٦ + ٠,٧ + ٣٠

[ب] ٠,٠٠٦ + ٠,٠٧ + ٣

[ج] ٠,٠٠٦ + ٠,٠٧ + ٣٠

[د] ٠,٠٦ + ٠,٧ + ٣٠