

حـــل التدريب على حل أسئلة الامتحانات

المجال: أحياء

الصف: العاشر

الفصل الدراسي: الثـــانـــى

السنة الدراسية: 2021 ـ 2022



KuwaitTeacher.Com

الـوحـدة الثانية: اللافـقـاريـات و الـبـيـئـة:

الفصل الأول: الإسـفـنـجـيـات و اللاسـعـات:

الدرس الأوّل (1 ـ 1): مـقـدّمـة فـي الـمـملكة الحيوانيّة:

الأسئلة الـمـوضـوعـيّـة:

الـسـؤال الأوّل ـ أ ـ: ضع علامة (✓) أمام أنسب إجابة صحيحة لكل عبارة من العبارات التالية:

1 ـ أحد الكائنات التالية ليست من الفقاريات: ص15 فصل2: 18 ـ 19

☐ الأسماك. ☑ شوكيات الجلد. ☐ البرمائيات. ☐ الزواحف.

2 ـ الحيوانات المائية التي تقوم بتصفية النباتات و الحيوانات الدقيقة هي: ص15 العاصمة فـ 3: 14 ـ 15

☐ آكلات الأعشاب. ☐ آكلات اللحوم. ☐ آكلات الفضلات. ☑ المتغذيات بالترشيح.

3 ـ أحد الأمثلة على علاقات المعايشة بين الكائنات الحية هو: ص15 فصل2: 18 ـ 19

☐ المتغذيات بالترشيح. ☑ الطفيليات. ☐ المترممات. ☐ آكلات الأعشاب.

4 ـ تستجيب الحيوانات للمؤثرات في بيئاتها بإستخدام: ص17 التعليم الخاص فـ 3: 15 ـ 16

☐ الطلائية. ☐ العضليّة. ☑ العصبية. ☐ الضامة.

5 ـ تسمح خطة تركيب الجسم ذي التماثل ثنائي الجانب بالتعقيل في واحد من الكائنات التالية:

ص19 الفروانية فـ 3: 13 ـ 14 + د2 ـ فصل 2: 16 ـ 17

☐ قنديل البحر. ☐ الإسفنج. ☐ المرجان. ☑ جراد البحر [الربيان].

الـسـؤال الأوّل ـ ب ـ: ضع علامة (✓) أمام العبارة الصحيحة و علامة (X) أمام العبارة غير الصحيحة لكل عبارة من العبارات التالية:

1 ـ (X) الربيان حيوان ذو تماثل شعاعي. ص19 فصل2: 14 ـ 15

2 ـ (X) كلما زاد تركيب جسم الحيوان تعقيدًا يقلّ وضوح صفة الترئيس فيه. ص19 فصل2: 13 ـ 14

3 ـ (X) يكون الترئيس أكثر وضوحا في الحيوانات الأقل تعقيدًا. ص20 د 2: مـ ـ ك: 16 ـ 17

الـسـؤال الـثـانـي ـ أ ـ: أدرس الأشكال التالية جيّدًا ثّم أجب عن المطلوب:

1 ـ شـ 5 ص 19 الفروانية فـ 3: 12 ـ 13

الشكل أ:

ـ الشكل المقابل يوضح التماثل الشعاعي في شقائق النعمان.



2 ـ شـ 5 ص 19 الفروانية فـ 3: 12 ـ 13

الشكل الذي أمامك يمثل نوع من الروبيان. و المطلوب:

أ ـ حدد على الشكل مستويات التماثل بواسطة رسم للخطوط.

ب ـ نوع التماثل هنا هو: ثنائي الجانب.

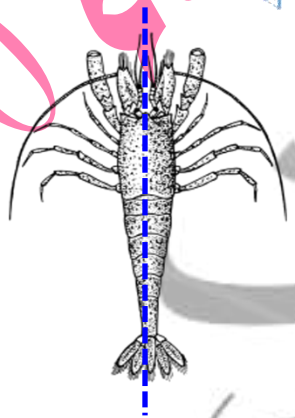

معلمة الكويت
KuwaitTeacher.Com

3 ـ شـ 5 ص 19 الجهراء فـ 3: 12 ـ 13

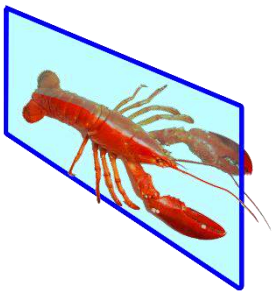

الشكل المقابل يمثل نوع من أنواع التماثل. و المطلوب:

ـ يسمى هذا التماثل بـ: التماثل ثنائي الجانب.

الـسؤال الـثـانـي ـ ب ـ: أكـتـب الإسم أو الـمـصـطـلـح الـعـلـمـي الـذي تدل عليه كل عبارة من العبارات التالية:

1 ـ (الترئيس) تواجد اعضاء الحس والخلايا العصبية بكثرة في مقدمة جسم الحيوان أو طرفه الأمامي.

ص20 فصل2: 12 ـ 13 + الجهراء فـ 3: 15 ـ 16 + فصل2: 15 ـ 16 + فصل2 ـ مـ ـ ك: 15 ـ 16 + فصل2 مـ ـ ك: 18 ـ 19

الأسئلة الـمـقـالـيّـة:

الـسؤال الـثـالـث ـ أ ـ: ما الـمـقـصـود علميا بكل مـمـا يـلـي:

1 ـ الترئيس في الحيوانات؟ ص20 الفروانية فـ 3: 12 ـ 13 + الفروانية فـ 3: 13 ـ 14 + د 2:مـ ـ ك: 15 ـ 16

يعني تواجد أعضاء الحس والخلايا العصبية بكثرة في مقدمة جسم الحيوان أو طرفه الأمامي.

2 ـ تجويف الجسم؟ ص20 العاصمة فـ 3: 14 ـ 15 عبارة عن فراغ ممتلئ بسائل، يقع بين القناة الهضمية وجدار الجسم.

الـسؤال الـثـالـث ـ ب ـ: مـا أهـمية كـل مـا يـلي:

1 ـ الثغرات التنفسيّة البطنيّة الثمانية في الجندب؟ ص16 فصل2: 16 ـ 17 تُـخرج غاز ثاني أكسيد الكربون.

2 ـ الـتـكـاثـر الـجـنـسـي فـي مـمـلـكـة الحيوان؟ ص17 فصل2: 16 ـ 17

1 ـ نشوء التنوع الوراثي في الجماعات و حفظه.

2 ـ يُساهم في تحسين قدرة الأنواع على التطوّر عندما يطرأ أيّ تغيير كبير في البيئة.

3 ـ السيلوم أو تجويف الجسم؟ ص20 الجهراء فـ 3: 12 ـ 13

1 ـ يحمي الأعضاء الداخلية من الضغط الناتج من إنقباض العضلات أو إلتواء الجسم.

2 ـ نمو الأجهزة المتخصصة.

3 ـ يحوي على السوائل التي تساعد في عملية الدوران و التغذية و الإخراج.

الـسؤال الـرابـع ـ أ ـ: عـلـل لما يـلـي تعليلا علميا سليما:

1 ـ تُظهر الحيوانات ذات التماثل ثنائي الجانب ما يعرف بالترئيس؟ ص20 فصل2 مـ ـ ك: 17 ـ 18

لتواجد أعضاء الحس والخلايا العصبية بكثرة في مقدمة جسم الحيوان أو طرفه الأمامي.

2 ـ إحتواء تجاويف أجسام بعض الحيوانات على السوائل؟ ص20 الفروانية فـ 3: 13 ـ 14

لأن السوائل تساعد في عمليات الدوران و التغذية و الإخراج.

3 ـ لتجويف الجسم أهمية كبيرة في حياة الحيوان؟ ص20 التعليم الخاص فـ 3: 15 ـ 16

1 ـ يؤمن الفراغ الذي تتواجد فيه الأعضاء الداخلية حتى لا تتعرض للضغط بواسطة العضلات أو للإلتواء و الإلتفاف نتيجة حركات الجسم.

2 ـ يسمح بنمو الأجهزة التخصصية.

3 ـ تساعد في عملية الدوران و التغذية و الإخراج في بعض الحيوانات.

الـسؤال الـرابـع ـ ب ـ: قارن بإكمال الجدول التالي حسب المطلوب علميا:

ص19 فصل2: 14 ـ 15 فصل2: 15 ـ 16

وجه المقارنة	الإسفنجيات	اللاسعات
نوع التماثل إن وُجد	غير متماثلة.	تماثل شعاعي.

مذكرات شكري في الحياة 10

ص19 الجهراء ف 3: 15 ـ 16

وجه المقارنة	جراد البحر	شقائق النعمان
نوع التماثل	جانبي.	شعاعي.

الـسـؤال الـخـامـس ـ أ ـ: ماذا تتوقع أن يحدث في الحالات التالية:

1 ـ عند تكوّن الأمونيا كمادة إخراجية في جسم الحيوان؟ ص16 فصل2: 12 ـ 13

يقوم الجهاز الإخراجي بتخليص الجسم بسرعة من مادة النشادر أو يحولها إلى مادة أخرى أقل سميّة و يتخلص منها أيضًا.

الـسـؤال الـخـامـس ـ ب ـ: عـدّد مـا يـلـي:

1 ـ إثنين فقط من الخصائص العامة للحيوانات؟ ص14 ص15 فصل2: 13 ـ 14 + فصل2 ـ مـ ـ ك: 15 ـ 16

1 ـ كائنات غير ذاتية التغذية. 2 ـ متعددة الخلايا.

3 ـ خلاياها حقيقيّة النواة. 4 ـ خلاياها لا تحتوي على جدار خلوي.

2 ـ الوظائف الحيويّة عند الحيوانات (دون شرح)؟ ص15 ص16 ص17 فصل2: 15 ـ 16

1 ـ التغذية. 2 ـ الدوران. 3 ـ الإستجابة. 4 ـ الحركة. 5 ـ الإخراج. 6 ـ التكاثر. 7 ـ النمو.

3 ـ إثنين فقط من أنواع التماثل في الحيوانات؟ ص19 فصل2: 13 ـ 14

1 ـ تماثل شعاعي. 2 ـ تماثل ثنائي الجانب. 3 ـ غير متماثلة (عديمة التماثل).

الـسـؤال الـسـادس ـ أ ـ: أكـمـل خـرائـط المفاهيم التالية:

1 ـ ص19 فصل2: 17 ـ 18 + د2 ـ فصل 2: 17 ـ 18

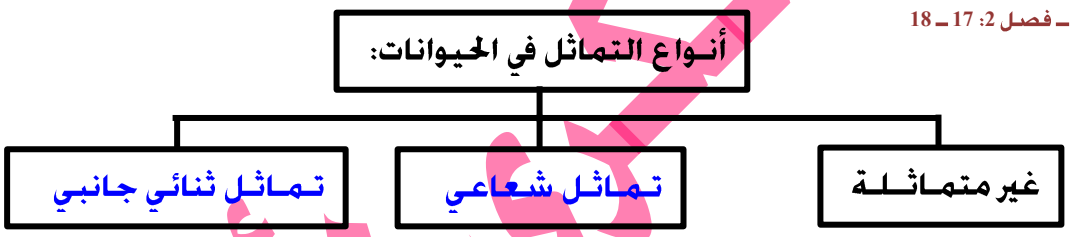

الـسـؤال الـسـادس ـ ب ـ: أدرس الأشكال المعروضة أمامك ثم أجب عن المطلوب:

1 ـ شـ 4 ص 18 فصل2: 14 ـ 15

ادرس الشكل المقابل ثم أجب عن الأسئلة التالية:

أ ـ الشكل المقابل يُمثل: شجرة التاريخ التطوّري أو شجرة العلاقات التطوّريّة.

ب ـ من خلال الشكل المقابل إختر أي مجموعة من الحيوانات التالية تقترب في خصائصها التطوّريّة من مجموعة اللاسعات:

☐ المفصليات.

☐ الرخويات.

☑ الديدان المفلطحة.



مدرس كويتي
صوت الكويت
KuwaitTeacher.Com

الدرس الـثـانـي (1 ـ 3): اللاســعـــات:

الأسئلة الـمـوضـوعـيّـة:

الـسـؤال الأوّل ـ أ ـ: ضع علامة (✓) أمام أنسب إجابة صحيحة الصحيحة لكل عبارة من العبارات التالية:

1 ـ اللاسعات من الحيوانات اللاحمة وتتميز بأنها: ص25 د2 ـ فصل 2: 17 ـ 18

☑لينة الجسم. ☐لها أذرع بها مصات.

☐ذات تماثل ثنائي الجانب. ☐لها خلايا مسامية.

2 ـ المادة التي توجد بين طبقتي الجسم في اللاسعات هـي: ص26 فصل2: 13 ـ 14

☐كربونات الكالسيوم. ☑الميزوجليا. ☐الإسفنجين. ☐مادة لاسعة.

3 ـ هضم الغذاء في اللاسعات: ص26 الفروانية فـ 3: 12 ـ 13

☐خارجي في التجويف الوعائي المعدي.

☑ خارجي في التجويف الوعائي المعدي و يستكمل داخل خلايا الأدمة الجلدية.

☐داخلي في خلايا الأدمة الجلدية.

☐ داخلي في خلايا الميزوجليا.

4 ـ أحد الكائنات التالية ينتمي إلى مجموعة اللاسعات: ص25 + ص27 فصل2: 14 ـ 15

☐البلاناريا. ☐العلق. ☑قنديل البحر. ☐الإسفنج.

5 ـ جميع التراكيب التالية تستخدمها اللاسعات للكشف عن المؤثرات مـا عـدى: ص27 الفروانية فـ 3: 13 ـ 14

☐البقع العينية. ☐الخلايا الحسية. ☑الهيكل الهيدروستاتيكي. ☐الشبكة العصبية.

6 ـ تتكاثر اللاسعات لا جنسيا بواسطة: ص27 فصل2: 17 ـ 18

☑التبرعم. ☐التجرثم. ☐الدريرات. ☐الانشطار الثنائي.

الـسـؤال الأوّل ـ ب ـ: ضع علامة (✓) أمام العبارة الصحيحة و علامة (X) أمام العبارة غير الصحيحة لكل عبارة من العبارات التالية:

1 ـ (X) يبدأ الهضم في اللاسعات داخل الخلايا ثم يستكمل خارجيا في التجويف الوعائي المعدي. ص26 فصل2 مـ ـ ك: 17 ـ 18

2 ـ (✓) في شعبة اللاسعات تتحرك الميدوزات بواسطة الدفع النفاث للماء إلى الخارج. ص27 الفروانية فـ 3: 12 ـ 13

3 ـ (✓) تتكاثر البوليبات عن طريق التبرعم. ص27 د 2:مـ ـ ك: 15 ـ 16

الـسـؤال الـثـانـي ـ أ ـ: أدرس الأشكال التالية جيّدًا ثـم أجب عـن الـمـطـلـوب:

1 ـ شـ 14ص 26 الجهراء فـ 3: 12 ـ 13 + فصل2: 12 ـ 13 + الفروانية فـ 3: 15 ـ 16 + د 2:مـ ـ ك: 15 ـ 16

الشكل المقابل يمثل أحد طوري اللاسعات:

أ ـ نوع الطور هـو: البوليب.

ب ـ ضع البيانات المشار إليها بالأسهم:

ـ السهم رقم 1 يُشـيـر إلـى: اللوامس.

ـ السهم رقم 2 يُشـيـر إلـى: الفم ـ الشرج.

ـ السهم رقم 3 يُشـيـر إلـى: التجويف الوعائي المعدي.

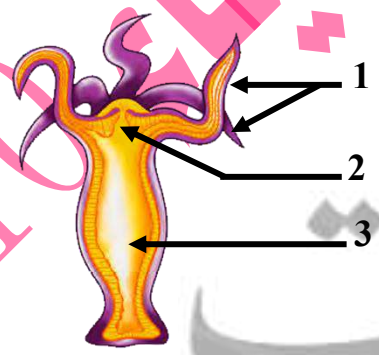

KuwaitTeacher.Com

2 ـ شـ14ص 26 الفروانية فـ 3: 13 ـ 14 + الجهراء فـ 3: 15 ـ 16 + د2 ـ فصل 2: 16 ـ 17 + فصل2 مـ ـ ك: 18 ـ 19

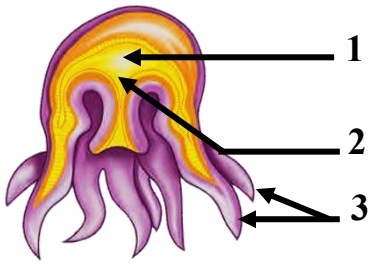

الشكل يمثل طور في اللاسعات، و المطلوب:

ـ ما إسم هـذا الطور؟ الميدوزا.

ـ أكتب البيانات التي تشير إليها الأرقام التالية:

ـ السهم رقم 1 يُشـيـر إلـى: التجويف الوعائي.

ـ السهم رقم 2 يُشـيـر إلـى: الفم ـ الشرج.

ـ السهم رقم 3 يُشـيـر إلـى: اللوامس.

1 ـ شـ17 ص 28 العاصمة فـ 3: 14 ـ 15 + فصل2: 14 ـ 15

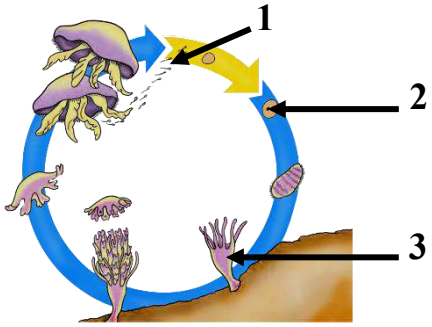

الشكل يمثل دورة حياة الأوريلا من اللاسعات، و المطلوب:

ـ أكتب البيانات التي تشير إليها الأرقام التالية:

ـ السهم رقم 1 يُشـيـر إلـى: حيوانات منوية (1n).

ـ السهم رقم 2 يُشـيـر إلـى: زيجوت (2n).

ـ السهم رقم 3 يُشـيـر إلـى: بوليب.

الـسؤال الـثـانـي ـ ب ـ: أكـتـب الإسم أو الـمـصـطـلـح الـعـلـمـي الـذي تـدل عـلـيـه كـل عـبـارة من الـعـبـارات الـتـالـيـة:

1 ـ (التجويف الوعائي المعدي) حجرة هضمية ذات فتحة واحدة تدخل الطعام و تطرد فضلات الجسم من خلال تلك الفتحة في اللاسعات. ص26 التعليم الخاص فـ 3: 15 ـ 16

الأسئلة الـمـقـالـيّـة:

الـسؤال الـثـالـث ـ أ ـ: ما الـمـقـصـود علميا بكل مـما يـلـي:

1 ـ حويصلات التوازن؟ ص27 فصل2 مـ ـ ك: 17 ـ 18 مجموعات من الخلايا الحسية التي تساعد في تحديد اتجاه الجاذبية.

الـسؤال الـثـالـث ـ ب ـ: مـا أهـمية كـل مـا يـلـي:

1 ـ التجويف الوعائي المعدي عند اللاسعات؟ ص26 فصل2: 15 ـ 16 + فصل2: 17 ـ 18 + د2 ـ فصل 2: 17 ـ 18

هضم خارجي وتفتيت الطعام وامتصاص الطعام المهضوم جزئيا.

2 ـ حويصلات التوازن في الحيوانات اللاسعة؟ ص27 الفروانية فـ 3: 12 ـ 13 + العاصمة فـ 3: 14 ـ 15 + الجهراء فـ 3: 15 ـ 16 + د 2: مـ ـ ك: 16 ـ 17

مجموعة من الخلايا الحسية التي تساعد في تحديد إتجاه الجاذبية.

3 ـ الهيكل الهيدروستاتيكي لشقائق النعمان أو للاسعات؟ ص27 فصل2: 12 ـ 13 + فصل2: 18 ـ 19

تمكين الحيوان اللاسع (أو شقائق النعمان) من الحركة.

4 ـ المستويات العالية من الضوء للمرجان؟ ص28 الفروانية فـ 3: 15 ـ 16 تعتمد الشعاب المرجانية على تبادل المنفعة مع الطحالب التي:

1 ـ تمتص الطاقة الشمسية.

2 ـ تعيد تدوير المواد الغذائية و تساعدها بذلك على بناء هياكلها المكونة من كربونات الكالسيوم.

3 ـ توفر لها 60% من الطاقة التي تحتاجها المرجان فيسمح له بالعيش في المياه التي تحتوي على القليل من المواد الغذائية.

5 ـ الطحالب للشعاب المرجانية؟ ص28 الفروانية فـ 3: 12 ـ 13

1 ـ الطحالب تساعد الشعاب المرجانية على بناء هياكلها المكونة من كربونات الكالسيوم.

2 ـ توفر لها 60% من الطاقة التي تحتاجها.

مذكرات تشاوي تحياتي 10
معلم الكويت
KuwaitTeacher.Com

الـسـؤال الـرابـع ـ أ ـ: عـلـل لما يـلـي تعليلا علميا سليما:

1 ـ تسمية اللاسعات بهذا الاسم؟ ص25 فصل2 ـ م ـ ك: 15 ـ 16 لوجود الخلايا اللاسعة التي تقع على طول لوامسها.

2 ـ يلعب التجويف الوعائي المعدي دورًا هامًا في تغذية الحيوان اللاسع؟ ص26 الجهراء ف 3: 15 ـ 16

لأن التجويف الوعائي المعدي عبارة عن حجرة هضميّة ذات فتحة واحدة. يدخل الطعام وتُطرَد الفضلات من الجسم خلال تلك الفتحة. ويبدأ الهضم، أي تفتيت الطعام وهو هضم خارجيّ و يمتصّ الطعام المهضوم جزئيًا بواسطة خلايا الأدمة المعديّة.

3 ـ تُظهِرُ اللاسعات إستجابة واضحة للمؤثرات بعكس الإسفنجيات؟ ص27 فصل2: 13 ـ 14

لأن الإسفنجيات لا تمتلك جهاز العصبي أمّا اللاسعات فلديها شبكة من الخلايا العصبيّة.

4 ـ للحيوان اللاسع القدرة على الإستجابة للمؤثرات المختلفة؟ ص27 فصل2: 18 ـ 19

بسبب وجود شبكة من الخلايا العصبية التي تكشف المؤثرات بالإضافة لوجود حويصلات التوازن و العيون البسيطة.

الـسـؤال الـرابـع ـ ب ـ: قارن بإكمال الجدول التالي حسب المطلوب علميا:

ص27 العاصمة ف 3: 14 ـ 15

وجه المقارنة	الميدوزا	شقائق النعمان
طريقة الحركة	الدفع النفاث للماء إلى خارجها.	بواسطة الهيكل الهيدروستاتيكي.

الـسـؤال الـخـامـس ـ أ ـ: أجـب عن الأسئلة الـتـالـيـة:

1 ـ تقع مادة الميزوجليا في اللاسعات بين طبقتين فـمـا هـمـا؟ ص26 فصل2: 16 ـ 17

1 ـ طبقة داخلية: الأدمة و 2 ـ طبقة خارجية: البشرة.

2 ـ استجابة اللاسعات أكثر تطورا من استجابة الاسفنجيات. (اشرح هذه العبارة). ص27 د2 ـ فصل 2: 16 ـ 17

1 ـ وجود الشبكة العصبية (مجموعة من الخلايا العصبية تنتشر بين خلايا الجسم).

2 ـ وجود حويصلات التوازن (مجموعات من الخلايا الحسية تحدد اتجاه الجاذبية).

3 ـ العيون البسيطة (بقع عينية تكتشف الضوء).

الـسـؤال الـخـامـس ـ ب ـ: عـدِّد مـا يـلـي:

1 ـ ص26 الجهراء ف 3: 12 ـ 13 يتكون جدار الجسم في اللاسعات من طبقتين نسيجيتين هما:

أ ـ الخارجية تسمى: البشرة.

ب ـ الداخلية تسمى: الأدمة.

الـسـؤال الـسـادس ـ أ ـ: أكـمـل خـرائـط المفاهيم التالية:

1 ـ ص26 فصل2: 17 ـ 18

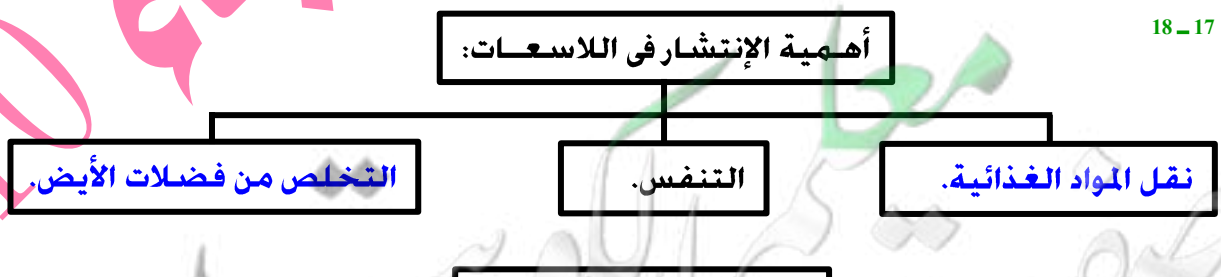

2 ـ ص28 د2 ـ فصل 2: 17 ـ 18

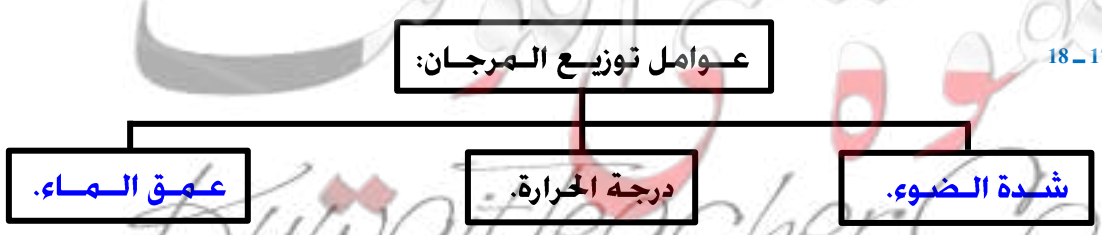

الـسـؤال الـسـادس ـ ب ـ: أدرس الأشكال المعروضة أمامك ثم أجب عن المطلوب:

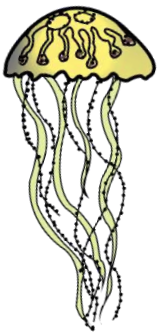

1 ـ ص 25 الفروانية فـ 3: 15 ـ 16

الشكل المقابل يمثل أحد الكائنات الحية البحرية و الذي ينتمي إلى شعبة تتميز كائناتها جميعهم بنوع من الخلايا لا توجد في بقية الشعب الحيوانية. و المطلوب:

ـ إسم هذه الخلايا المميزة للشعبة؟ الخلايا اللاسعة.

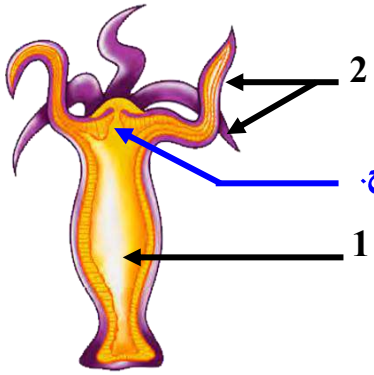

2 ـ شـ 14ص 26 الفروانية فـ 3: 13 ـ 14 + العاصمة فـ 3: 14 ـ 15

الشكل المقابل يمثل أحد أطوار التكاثر في اللاسعات:

أ ـ هذا الطور يسمى: البوليب.

ب ـ ما أهمية التجويف رقم (1)؟

1 ـ يدخل فيه الطعام.

2 ـ يطرد منه الفضلات من الجسم.

3 ـ يحدث فيه هضم خارجي.

جـ ـ حدد على الرسم موقع فتحة الفم و الشرج.

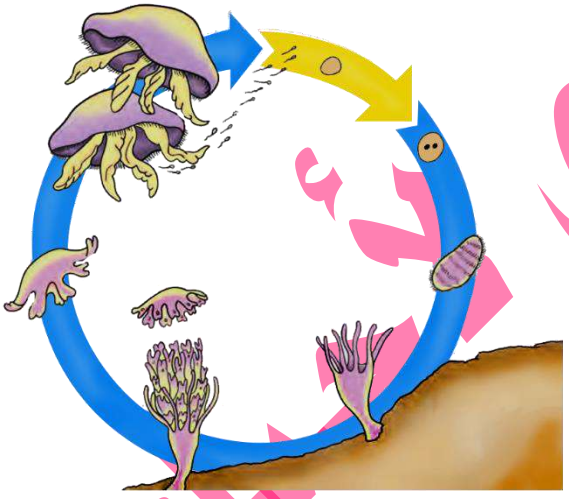

3 ـ شـ 17 ص 28 التعليم الخاص فـ 3: 15 ـ 16

الشكل المقابل يمثل مراحل التكاثر الجنسي في قنديل البحر. و المطلوب:

أ ـ حدد نوع الإخصاب لقنديل البحر كما هو في الشكل؟

إخصاب خارجي.

ب ـ كيف ينتج الحيوان المتماثل وراثيا مع الأب؟

عن طريق التكاثر اللاجنسي بالتبرعم.

جـ ـ ما هو ناتج نمو الزيجوت؟ يرقة مهدبة.

د ـ من هو مصدر الميدوزات الصغيرة؟ البوليب المتبرعم.

مدرس تكنولوجيا 10 ـ 16
معلمي الكويت
صفوة
KuwaitTeacher.Com

الفصل الـثـانـي: الـديـدان و الـرخـويـات:

الدرس الـثـالـث (2 ـ 1): الـديـدان:

الـجـزء الأول: الـديدان الـمفلطحة:

الأسئلة الـموضـوعـيّـة:

الـسؤال الأوّل ـ أ ـ: ضع علامة (✓) أمام أنسب إجابة صحيحة الصحيحة لكل عبارة من العبارات التالية:

1 ـ واحدة من الديدان التالية تصنف ضمن الديدان المفلطحة: ص27 الفروانية فـ 3: 12 ـ 13

☐ الفلاريا. ☑ البلاناريا. ☐ الاسكارس. ☐ العلق.

2 ـ يبدأ ظهور الترئيس و التماثل ثنائي الجانب في: ص31 العاصمة فـ 3: 14 ـ 15

☐ اللاسعات. ☐ المساميات. ☑ الديدان. ☐ المفصليات.

3 ـ حيوانات تتميز بثلاث طبقات نسيجية و تماثل ثنائي الجانب و ترئيس: ص32 الجهراء فـ 3: 12 ـ 13

☐ اللاسعات. ☐ الإسفنجيات. ☑ الديدان المفلطحة. ☐ المساميات.

4 ـ تعتبر التربللاريا من: ص34 الفروانية فـ 3: 15 ـ 16

☑ الديدان المفلطحة. ☐ الديدان الأسطوانية. ☐ الديدان الخيطية. ☐ هي ليست من الديدان.

5 ـ الديدان التي تسبب مرض البلهارسيا للإنسان تسمّى: ص35 الفروانية فـ 3: 13 ـ 14

☐ التريماتودا. ☐ الإسكارس. ☐ الفلاريا. ☑ الشيستوسوما.

الـسؤال الأوّل ـ ب ـ: ضع علامة (✓) أمام العبارة الصحيحة و علامة (X) أمام العبارة غير الصحيحة لكل عبارة من العبارات التالية:

1 ـ (✓) تتخلص بعض الديدان المفلطحة من الأمونيا عن طريق الخلايا اللهبية. ص33 فصل2: 16 ـ 17

2 ـ (X) تقوم الخلايا اللهبية في الرخويات بإزالة مادة الأمونيا من الدم وطردها خارج الجسم. ص33 د2 ـ فصل 2: 17 ـ 18

الـسؤال الـثـانـي ـ أ ـ: أدرس الأشكال التالية جيّدًا ثّم أجب عن الـمطلوب:

1 ـ شـ20ص 32 فصل2: 12 ـ 13

الشكل المقابل يمثل قطاع عرضي لأحد أنواع الديدان. و المطلوب:

ـ السهم رقم 1 يُشير إلى: تجويف هضمي.

ـ الشكل يمثل تركيب مجموعة الديدان: المفلطحة.

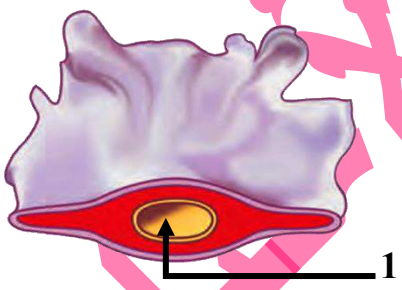

2 ـ شـ 21 ص 33 الجهراء فـ 3: 12 ـ 13 + فصل2: 12 ـ 13 + العاصمة فـ 3: 14 ـ 15 + التعليم الخاص فـ 3: 15 ـ 16 + د2 ـ فصل 2: 16 ـ 17

الشكل المقابل يمثل تركيب دودة البلاناريا (الديدان المفلطحة). و المطلوب:

ـ أكتب البيانات التي تشير إليها الأرقام التالية:

ـ السهم رقم 1 يُشير إلى: بقعة عينية.

ـ السهم رقم 2 يُشير إلى: الفم.

ـ السهم رقم 3 يُشير إلى: البلعوم.

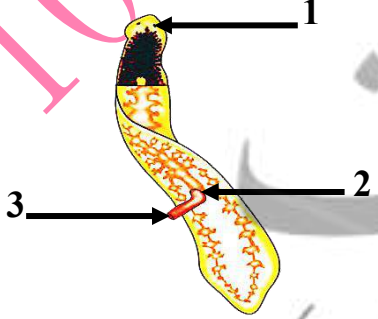

KuwaitTeacher.Com

الـسؤال الـثـانـي ـ ب ـ: أكـتـب الإسم أو الـمـصطلح الـعلمي الـذي تدل عليه كل عبارة من العبارات التالية:

1 ـ (خلايا لهبية) خلايا متخصصة ترشح الماء الزائد و تزيل الفضلات الأيضيّة من جسم الديدان المفلطحة.
ص33 فصل2: 15 ـ 16 + فصل2: 17 ـ 18

2 ـ (العقد العصبيّة) مجموعات من الخلايا العصبيّة التي تتحكّم بالجهاز العصبي. ص33 فصل2: 12 ـ 13

3 ـ (الأهداب) تراكيب توجد في بشرة الديدان المفلطحة حرة المعيشة تمكنها من الانزلاق خلال الماء وفوق الجداول والبرك. ص34 د2 ـ فصل 2: 17 ـ 18

الأسئلة الـمـقـالـيّـة:

الـسؤال الـثـالـث ـ أ ـ: ما الـمـقـصود علميا بكل مـما يـلـي:

1 ـ الخلايا لهبية؟ ص33 العاصمة فـ 3: 14 ـ 15 هي خلايا متخصصة ترشح الماء الزائد و تزيله من الجسم كما تزيل الفضلات الأيضيّة مثل الأمونيا (النشادر) و اليوريا (البول) من جسم الديدان المفلطحة.

الـسؤال الـثـالـث ـ ب ـ: مـا أهـمية كـل مما يلي:

1 ـ الخلايا اللهبية في البلاناريا؟ ص33 الفروانية فـ 3: 13 ـ 14 تقوم بعملية الإخراج، حيث إنها:
1 ـ ترشح الماء الزائد و تزيله من الجسم.
2 ـ تزيل الفضلات الأيضية مثل (الأمونيا (النشادر) و اليوريا (البول).
3 ـ ترتبط العديد من الخلايا اللهبية لتكون شبكة من الأنابيب تتفرع إلى البيئة الخارجية.

2 ـ البقعة العينية في الديدان المفلطحة؟ ص34 فصل2 مـ ـ ك: 18 ـ 19 الكشف عن المتغيرات في كمية الضوء في بيئتها.

3 ـ الأهداب الموجودة على بشرة الديدان المفلطحة؟ ص34 د2 ـ فصل 2: 16 ـ 17 تساعدها على الانزلاق خلال الماء وفوق قاع الجداول والبرك.

4 ـ القوقع للتريماتودا؟ ص35 الفروانية فـ 3: 15 ـ 16 هي الوسيط في مراحل دورة حياتها و الذي تتطور فيه الأجنّة إلى يرقات سابحة.

الـسؤال الـرابـع ـ أ ـ: عـلـل لما يـلـي تعليلا علميا سليما:

1 ـ لا تحتاج الديدان المفلطحة إلى جهاز دوري؟ ص33 الفروانية فـ 3: 12 ـ 13 + فصل2: 13 ـ 14 + فصل2 مـ ـ ك: 17 ـ 18
لأنّ جسمها مفلطح و رقيق للغاية، فيتم نقل الغازات والغذاء بالإنتشار.

2 ـ تعتمد الديدان المفلطحة على الإنتشار في نقل الغذاء و الأكسجين داخل أجسامها؟ ص33 الفروانية فـ 3: 12 ـ 13
لأنّ أجسامها مفلطحة و رقيقة للغاية و ليس لها جهاز نقل.

الـسؤال الـرابـع ـ ب ـ: قارن بإكمال الجدول التالي حسب المطلوب علميا:
ص32 + ص34 ص35 فصل2: 18 ـ 19

وجه المقارنة	دودة البلاناريا	ديدان التريماتودا
نوع المعيشة:	حرة.	متطفلة.

الـسؤال الـخـامـس ـ أ ـ: ماذا تتوقع أن يحدث في الحالات التالية:

1 ـ عندما تصل أجنة ديدان الشيستوسوما إلى الماء مع براز العائل؟ ص35 فصل2: 13 ـ 14
تتطوّر الأجنّة إلى يرقات سابحة تصيب العائل الوسيط (القوقع).

مذكرة شكري بحياوي 10

KuwaitTeacher.Com

السؤال الخامس ـ ب ـ: أدرس الأشكال المعروضة أمامك ثم أجب عن المطلوب:

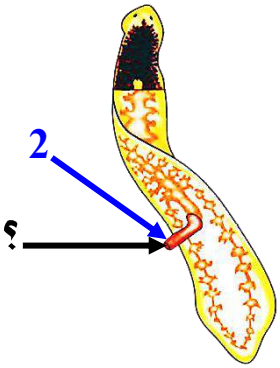

1 ـ شـ 21 ص 33 الفروانية فـ 3: 13 ـ 14 + فصل2: 14 ـ 15

الشكل الذي أمامك يمثل أحد أنواع الديدان المفلطحة، والمطلوب:

ـ أذكر وظيفة واحدة للتركيب المشار إليه بالسهم في الديدان المفلطحة: 1 ـ يمتص الغذاء.

2 ـ يدخل الطعام إلى التجويف الوعائي المعدي.

ـ أذكر مثال واحد للمواد التي تتغذى عليها الديدان الطفيلية؟

1 ـ الدم. 2 ـ سوائل الجسم. 3 ـ قطع من خلايا العائل.

ـ حدد البلعوم على الرسم برقم (2)؟

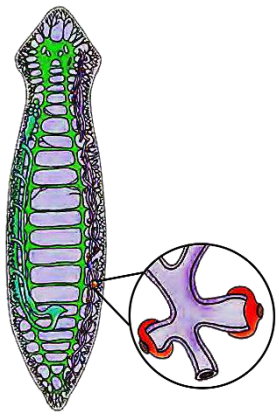

2 ـ شـ 21 ص 33 الجهراء فـ 3: 15 ـ 16 + فصل2 مـ ـ ك: 18 ـ 19

الشكل الذي أمامك يمثل دودة البلاناريا، والمطلوب:

ـ تصنف هذه الدودة ضمن شعبة الديدان: المفلطحة.

ـ ما وسيلة الإخراج؟ الخلايا اللهبية.

ـ فسر السبب في عدم حاجتها لجهاز دوري لنقل المواد؟

لأنّ جسمها مفلطح و رقيق للغاية، فيتم نقل الغازات والغذاء بالإنتشار.

مذكرات شكري لأحياء 10
صفوة معلمي الكويت
KuwaitTeacher.Com

الـجـزء الأول: الـديدان الـخـيـطـيّـة:

الأسئلة الـمـوضـوعـيّـة:

الـسـؤال الأوّل ـ أ ـ: ضع علامة (✓) أمام أنسب إجابة صحيحة لكل عبارة من العبارات التالية:

1 ـ يتميز تركيب الجسم في الديدان الخيطية بأنها: ص35 فصل2 مـ ـ ك: 17 ـ 18

☐ثنائية الطبقات. ☐ثلاثية الطبقات لا سيلومية.

☑ثلاثية الطبقات ذات سيلوم كاذب. ☐ثلاثية الطبقات ذات سيلوم حقيقي.

2 ـ نوع الديدان الذي يُؤدّي إلى إصابة الإنسان بداء الفيل هو: ص37 فصل2: 13 ـ 14 + فصل2: 15 ـ 16 + د 2:مـ ـ ك: 15 ـ 16

☐الاسكارس. ☐التريماتودا. ☐البلاناريا. ☑الفلاريا.

الـسـؤال الأوّل ـ ب ـ: ضع علامة (✓) أمام العبارة الصحيحة و علامة (X) أمام العبارة غير الصحيحة لكل عبارة من العبارات التالية:

1 ـ (X) ديدان الإسكارس عبارة عن ديدان خيطية تعيش في الأوعية الدمويّة و اللمفاويّة للطيور و الثدييات و من ضمنها الإنسان. ص37 فصل2: 18 ـ 19

الـسـؤال الـثـانـي: أدرس الأشكال التالية جيّدًا ثُم أجب عن الـمـطـلـوب:

1 ـ شـ23ص 35 الفروانية فـ3: 12 ـ 13

أرسم شكلًا توضيحيا يبين ترتيب الطبقات مع وجود السيلوم في الديدان الخيطية مع ذكر البيانات على الرسم.

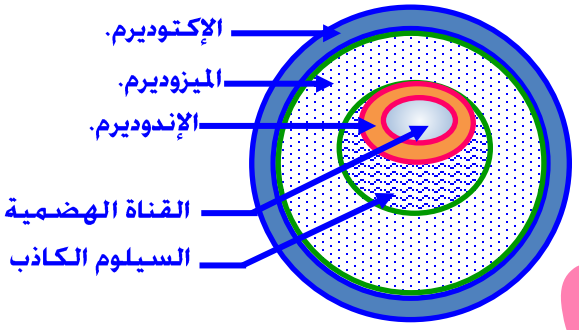

2 ـ شـ24 ص 37 العاصمة فـ3: 14 ـ 15

الشكل المقابل يوضح أحد الأمراض الناتجة عن الديدان الخيطية الطفيلية. و المطلوب:

ـ ما إسم المرض؟ داء الفيل.



3 ـ شـ25 ص 37 الفروانية فـ3: 12 ـ 13

الشكل المقابل يمثل دودة الإسكارس و هي من الديدان وحيدة الجنس. و المطلوب:

ـ السهم يشير إلى: الذكر (♂).



الأسئلة الـمـقـالـيّـة:

الـسـؤال الـثـالـث ـ أ ـ: ما الـمـقـصـود علميا بكل مـمـا يـلـي:

1 ـ السيلوم الكاذب؟ ص35 الفروانية فـ3: 12 ـ 13 هو تجويف جسمي بين نسيجي الإندوديرم و الميزوديرم و مبطن جزئيا بنسيج الميزوديرم.

KuwaitTeacher.Com

الـسؤال الـثـالـث ـ ب ـ: عـلـل لما يـلـي تعليلا علميا سليما:

1 ـ إصابة بعض الأشخاص بداء الفيل؟ ص37 فصل2: 12 ـ 13

بسبب إصابتهم بدودة الفلاريا التي تعترض مرور السوائل داخل الأوعية اللمفاوية.

الـسؤال الـرابـع ـ أ ـ: قارن بإكمال الجدول التالي حسب المطلوب علميا:

ص35 ـ ص37 فصل2: 12 ـ 13 + فصل2: 16 ـ 17

وجه المقارنة	ديدان الشيستوسوما	ديدان الفلاريا	ديدان الإسكارس
المرض الذي تسببه للإنسان	البلهارسيا.	داء الفيل.	سوء التغذية.

الـسؤال الـرابـع ـ ب ـ: ماذا تتوقع أن يحدث في الحالات التالية:

1 ـ تكاثر الديدان الفلاريا داخل الأوعيّة اللمفاويّة للإنسان؟ ص37 فصل2: 14 ـ 15

الإصابة بداء الفيل أو تعترض مرور السوائل فتنتج أجزاء الجسم المصابة.

الـسؤال الـخـامـس ـ أ ـ: أدرس الأشكال المعروضة أمامك ثم أجب عن المطلوب:

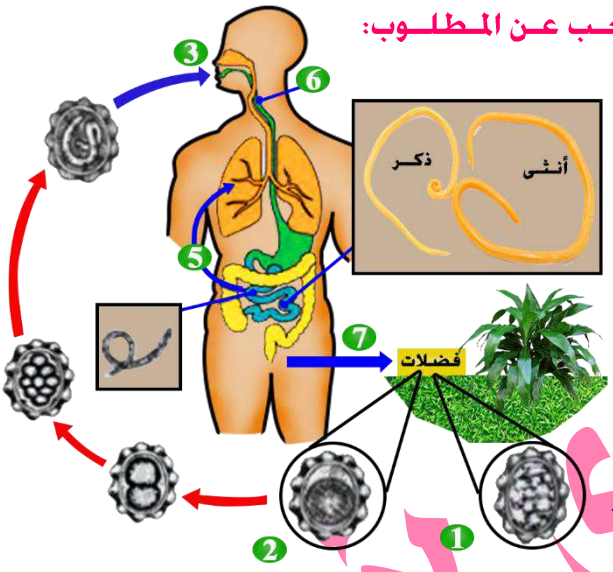

1 ـ شـ 25 ص 37 فصل2: 15 ـ 16 + د2 ـ فصل 2: 17 ـ 18

الشكل الذي أمامك يمثل دورة حياة أحد أنواع الديدان. و المطلوب:

ص 37 [فترة 4 [15 ـ 16]]

ـ في أي مجموعة لا فقارية يتم تصنيف هذه الدودة؟

شعبة الديدان الخيطيّة.

ـ ما إسم المرض أو الأعراض الذي تسببه هذه الديدان؟

سوء التغذية.

ـ ما اسم الدودة التي تظهر في الشكل: دودة الإسكارس.

2 ـ شـ 25 ص 37 الفروانية فـ 3: 15 ـ 16



الشكل المقابل يمثل دودة الإسكارس. و المطلوب:

ـ كيفية الوقاية من الإصابة بها؟

غسل الخضار و الأغذية الأخرى جيدا قبل تناولها.

معلمي الكويت
صفوة
KuwaitTeacher.Com

الجـزء الـثـالـث: الـديدان الـحـلـقـيّـة:

الأسئلة الـمـوضـوعـيّـة:

الـسـؤال الأوّل ـ أ ـ: ضع علامة (✓) أمام أنسب إجابة صحيحة لكل عبارة من العبارات التالية:

1 ـ أحد أنواع الديدان التالية لا تنتمي لمجموعة الديدان الحلقية: ص34 ص40 الجهراء فـ 3: 15 ـ 16

☐دودة الأرض. ☐النيرس. ☐ديدان العلق الطبي. ☑التريماتودا.

الـسـؤال الأوّل ـ ب ـ: ضع علامة (✓) أمام العبارة الصحيحة و علامة (X) أمام العبارة غير الصحيحة لكل عبارة من العبارات التالية:

1 ـ (✓) دودة الأرض تصنف ضمن شعبة الديدان الحلقية حرة المعيشة. ص38 فصل2: 15 ـ 16

2 ـ (X) تستخدم ديدان العلق الطبي الممص الخلفي لتثبيت نفسها بالعائل. ص40 فصل2: 12 ـ 13

الـسـؤال الـثـانـي ـ أ ـ: أدرس الأشـكـال التالية جيّـدًا ثّم أجب عـن الـمـطـلـوب:

1 ـ شـ 23ص 35 + شـ 26ص 38 فصل2: 14 ـ 15

الأشكال التي أمامك تمثل تركيب الجسم لأنواع من الديدان. و المطلوب:

ـ ماهي مجموعة الديدان التي يظهر فيها تركيب الجسم كما في الأشكال التالية:

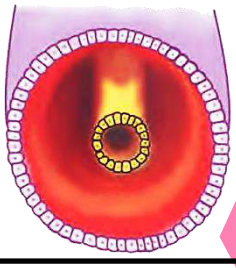

الـديدان الـخيطية.

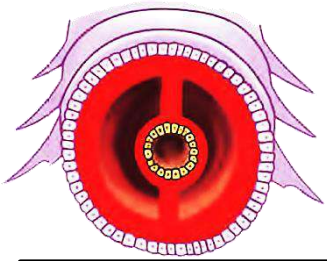

الـديدان الـحلقية.

1 ـ شـ 29 ص 40 د 2: مـ ـ ك: 16 ـ 17

الشكل المقابل يمثل تركيب دودة الأرض. و المطلوب:

ـ السهم يشير إلى: حلقات الجسم.

الـسـؤال الـثـانـي ـ ب ـ: أكـتـب الإسم أو الـمـصـطـلـح الـعـلـمـي الذي تدل عليه كل عبارة من العبارات التالية:

1 ـ (الخيشوم) عضو خيطي متخصص لتبادل الغازات تحت سطح الماء في الديدان الحلقية المائية. ص38 فصل2 ـ مـ ـ ك: 15 ـ 16

2 ـ (النفريدات) أعضاء إخراجية التي ترشح السائل الموجود في السيلوم للديدان الحلقية. ص39 الفروانية فـ 3: 13 ـ 14 + فصل2: 16 ـ 17

3 ـ (ديدان العلق) من الديدان الحلقية و هي طفيليات خارجية تمتص دم عائلها و تستخدم لعلاج الحالات الطبية. ص40 الفروانية فـ 3: 12 ـ 13

مذكرات شكري لحدود 10 KuwaitTeacher.Com

الأسئلة المقاليّة:

السؤال الثالث ـ أ ـ: ما المقصود علميا بكل مما يلي:

1 ـ الجهاز الدوري المغلق؟ ص38 فصل2: 15 ـ 16

هو عضو الجهاز الذي يحفظ فيه الدم داخل شبكة من الأوعية الدموية.

2 ـ الخيشوم في الديدان الحلقية المائية؟ ص38 فصل2: 12 ـ 13

هو عضو التنفس و هو عضو خيطي متخصص لتبادل الغازات تحت سطح الماء.

السؤال الثالث ـ ب ـ: ما أهمية كل ما يلي:

1 ـ النفريدات في الديدان الحلقية؟ ص39 فصل2: 18 ـ 19

ترشيح السائل الموجود في السيلوم. أو إزالة الفضلات الخلوية النيتروجينية. أو الإخراج.

2 ـ الممصات في ديدان العلق الطبي؟ ص40 العاصمة فـ 3: 14 ـ 15

1 ـ تساعدها في الإلتصاق أو التعلق بعوائلها.

2 ـ قد تستخدم الممص الخلفي لتتثبت بالصخور أو أوراق النباتات أثناء إنتظار العائل.

3 ـ ديدان الأرض للطبيعة أو أهمية الديدان الحلقية للتربة؟ ص41 الجهراء فـ 3: 12 ـ 13 + فصل2: 18 ـ 19

1 ـ تهوية و تقليب التربة.

2 ـ تأمين مسالك لجذور النباتات.

3 ـ السماح لنمو البكتيريا التي تساعد في تحليل المواد النباتية.

السؤال الرابع ـ أ ـ: علل لما يلي تعليلا علميا سليما:

1 ـ يتنوع شكل البلعوم في الديدان الحلقية على حسب نوع الغذاء؟ ص38 التعليم الخاص فـ 3: 15 ـ 16 لأن:

1 ـ في آكلات اللحوم مثل دودة النيرس: يحمل البلعوم فكين أو أكثر من الفكوك الحادة التي تستخدم لمهاجمة الفريسة.

2 ـ في الديدان الحلقية التي تتغذى على المواد النباتية المتحللة: يُغطي البلعوم مخاط لزج. وتجمع الدودة فُتاتًا بمدّ بلعومها وضغطه على الموادّ المترسّبة المحيطة بها.

السؤال الرابع ـ ب ـ: قارن بإكمال الجدول التالي حسب المطلوب علميا:

ص32 ص33 ص35 ص36 ص38 ص39 الفروانية فـ 3: 12 ـ 13 + الجهراء فـ 3: 12 ـ 13 + د 2: مـ ـ ك: 16 ـ 17 + د2 ـ فصل 2: 17 ـ 18

وجـه المقارنة		الديدان المفلطحة	الديدان الخيطية	الديدان الحلقية
1	نوع السيلوم	غير موجود.	كاذب أو زائف.	حقيقي.
2	عضو الإخراج	ـ بعضها بواسطة الخلايا اللهبية. ـ بعضها: عبر جدر أجسامها الرقيقة.	عبر جدر أجسامها الرقيقة.	النفريدات.
3	الجهاز الدوري أو الدوران	لا يوجد.	لا يوجد.	جهاز دوري مغلق.

ص37 ـ ص38 فصل2: 17 ـ 18

وجه المقارنة	ديدان الفلاريا	ديدان النيرس
نوع السيلوم	سيلوم كاذب.	سيلوم حقيقي.

ص27 ـ ص39 الفروانية فـ 3: 15 ـ 16

وجه المقارنة	قنديل البحر	دودة الأرض
الجهاز العصبي	شبكة من الخلايا العصبية.	مخ و عدة حبال عصبية.

KuwaitTeacher.Com

السؤال الخامس ـ أ ـ: ماذا تتوقع أن يحدث في الحالات التالية:

1 ـ عند غياب دودة الأرض عن التربة الزراعيّة؟ ص41 فصل2: 13 ـ 14

1 ـ تقل تهوية التربة الزراعيّة و اختلاطها.

2 ـ لن تتحلّل المواد النباتيّة.

3 ـ تقل البكتيريا الهوائيّة المفيدة في التربة.

السؤال الخامس ـ ب ـ: أجب عن الأسئلة التالية:

1 ـ ما دور استخدام العلق الطبي بعد إجراء العمليات الجراحية؟ ص41 فصل2: 17 ـ 18

1 ـ تخفيف الأورام بعد إجراء العمليات الجراحية.

2 ـ تفرز سائل يمنع تجلط الدم ويخفف الضغط والاحتقان في الأنسجة التي يتم علاجها.

السؤال السادس ـ أ ـ: عدِّد ما يلي:

1 ـ أنواع السيلوم في الديدان؟ ص32 + ص35 + ص38 فصل2 مـ ـ ك: 18 ـ 19

1 ـ لا سيلومية. 2 ـ سيلوم كاذب. 3 ـ سيلوم حقيقي.

2 ـ إثنين فقط من إستخدامات ديدان العلق في الطب؟ ص41 فصل2: 13 ـ 14

1 ـ تُخفّف من الأورام بعد العمليات الجراحيّة.

2 ـ في علاج الصداع و الإختلال العقلي و السمنة.

3 ـ تفرز سائل يمنع تجلّط الدم فتخفّف من الضغط و الإحتقان في الأنسجة.

3 ـ إثنين فقط من فوائد دودة الأرض أو الديدان الحلقية حرة المعيشة للتربة؟ ص41 فصل2: 14 ـ 15 + د 2:مـ ـ ك: 15 ـ 16

1 ـ تحفّز التربة فتعمل على تهويتها و خلطها و تقليبها.

2 ـ توفر مسالك لمرور جذور النباتات و الماء.

3 ـ تسمح بنمو البكتريا الهوائيّة المفيدة.

4 ـ تهضم المواد النباتيّة فتساعد في تحلّلها.

السؤال السادس ـ ب ـ: أدرس الأشكال المعروضة أمامك ثم أجب عن المطلوب:

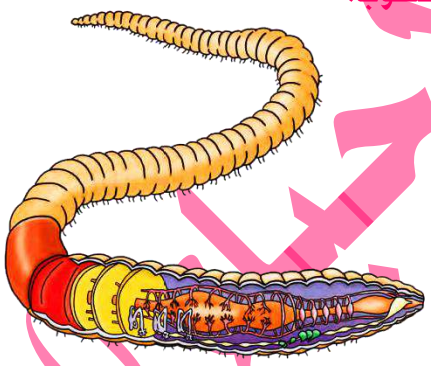

1 ـ شـ 29 ص 40 الجهراء فـ 3: 12 ـ 13

الشكل يمثل أحد أنواع الديدان، و المطلوب:

ـ يصنف هذا النوع من الديدان ضمن شعبة الديدان: الحلقية.

ـ ما نوع الجهاز الدوري في هذا الكائن؟ الجهاز الدوري المغلق.



2 ـ شـ 31 ص 41 الفروانية فـ 3: 12 ـ 13

تحفر بعض الديدان الحلقية جحورا في التربة، و المطلوب:

ـ أكتب فائدتين منها للتربة؟

1 ـ تحفر التربة ما يساهم في تهويتها و خلطها ببعض.

2 ـ تسمح بنمو بكتيريا التربة.

3 ـ تؤمن الأنفاق التي تحفرها مسالك لجذور النباتات و الماء.

KuwaitTeacher.Com

الفصل الثاني: مفصليات الأرجل و شوكيات الجلد:

الدرس الرابع (3 ـ 2): شوكيات الجلد:

الأسئلة الموضوعيّة:

السؤال الأوّل : ضع علامة (✓) أمام العبارة الصحيحة و علامة (X) أمام العبارة غير الصحيحة لكل عبارة من العبارات التالية:

1 ـ (✓) يرقات نجم البحر ثنائية التماثل. ص54 فصل2: 12 ـ 13

2 ـ (✓) تمتاز شوكيات الجلد بوجود جهاز وعائي مائي. ص54 فصل2: 13 ـ 14

3 ـ (X) يتم إخراج الفضلات النيتروجينية في شوكيات الجلد في صورة يوريا. ص55 د 2: مـ ـ ك: 16 ـ 17

السؤال الثاني ـ أ ـ: أدرس الأشكال التالية جيِّدًا ثُم أجب عن المطلوب:

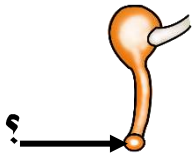

1 ـ شـ 50 ص 54 الفروانية فـ 3: 12 ـ 13

الشكل المقابل يوضح قدم أنبوبية في نجم البحر. و المطلوب:

ـ السهم يُشير إلى: ممص.

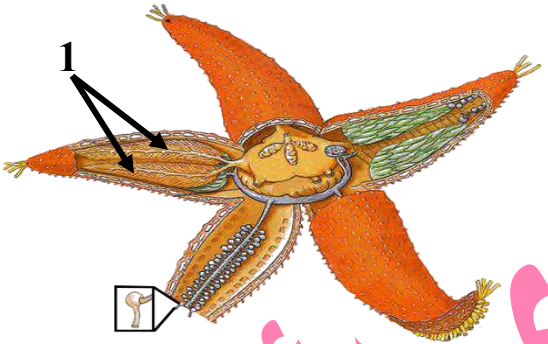

2 ـ شـ 50 ص 54 الفروانية فـ 3: 12 ـ 13

الشكل المقابل يمثل نجم البحر. و المطلوب:

ـ ماهي الأجزاء الداخلية المُشار لها بالرقم 1؟

غدد هضمية.

السؤال الثاني ـ ب ـ: أكتب الإسم أو المصطلح العلمي الذي تدل عليه كل عبارة من العبارات التالية:

1 ـ (القدم الأنبوبية) عبارة عن تركيب يعمل بصورة تشبه إلى حد كبير آلية عمل الممصات. ص55 فصل2: 16 ـ 17

الأسئلة المقاليّة:

السؤال الثالث ـ أ ـ: ما المقصود علميا بكل مما يلي:

1 ـ حيوانات ثانوية الفم؟ ص54 الفروانية فـ 3: 12 ـ 13

هي الحيوانات التي تطور فيها ثقب البلاستيولة إلى الشرج.

2 ـ الأقدام الأنبوبيّة في شوكيات الجلد؟ ص55 فصل2: 13 ـ 14 + فصل2: 14 ـ 15

تركيب يعمل بصورة تشبه آلية عمل الممصات إذ أنّ لكلّ قدم أنبوبيّة ممص في نهايتها.

السؤال الثالث ـ ب ـ: ما أهمية كل مما يلي:

1 ـ الجهاز الوعائي المائي لشوكيات الجلد؟ ص54 فصل2: 12 ـ 13 + الجهراء فـ 3: 15 ـ 16 + د2 ـ فصل 2: 16 ـ 17

يؤدي العديد من وظائف الجسم الأساسيّة: 1 ـ التنفس. 2 ـ الدوران. 3 ـ الحركة.

السؤال الرابع ـ أ ـ: علل لما يلي تعليلا علميا سليما:

1 ـ تختلف بنية الجسم في شوكيات الجلد اليافعة عن باقي مملكة الحيوانية؟ ص53 ص54 فصل2: 14 ـ 15

1 ـ لأنّها ليس لها طرف أمامي أو خلفي.

2 ـ يغيب عنها الترئيس.

3 ـ معظمها له أجسام ذات جانبين فمي و لا فمِّي.

مذكرات شكري لأحياء 10

KuwaitTeacher.Com

WhatsApp: 55506581

المذكرة لا تغني عن الكتاب.

2 ـ بالرغم من أن التماثل شعاعي في شوكيات الجلد إلا أنها أقرب للفقاريات؟ ص54 فصل2 ـ مـ ـ ك: 15 ـ 16 لأن:
1 ـ يرقات شوكيات الجلد ثنائية التماثل.
2 ـ شوكيات الجلد ثانوية الفم.

الـسـؤال الـرابـع ـ ب ـ: قارن بإكمال الجدول التالي حسب المطلوب علميا:
ص 51 و 56 فصل2 ـ مـ ـ ك: 15 ـ 16

وجه المقارنة	مفصليات الارجل البرية:	شوكيات الجلد:
نوع الإخصاب:	داخلي.	خارجي.

ص54 العاصمة فـ 3: 14 ـ 15 + فصل2: 18 ـ 19 + فصل2 مـ ـ ك: 18 ـ 19

وجه المقارنة	الطور اليرقي لشوكيات الجلد:	الطور اليافع لشوكيات الجلد:
نوع التماثل:	ثنائي الجانب.	شعاعي.

الـسـؤال الـخـامـس ـ أ ـ: عـدِّد مـا يـلـي:
1 ـ وظائف الجهاز الوعائي المائي لدى شوكيات الجلد (دون شرح)؟ ص54 الفروانية فـ 3: 15 ـ 16 + فصل2: 15 ـ 16 + د2 ـ فصل 2: 16 ـ 17
1 ـ التنفس. 2 ـ الدوران. 3 ـ الحركة.

الـسـؤال الـخـامـس ـ ب ـ: أدرس الأشكال المعروضة أمامك ثم أجب عن المطلوب:

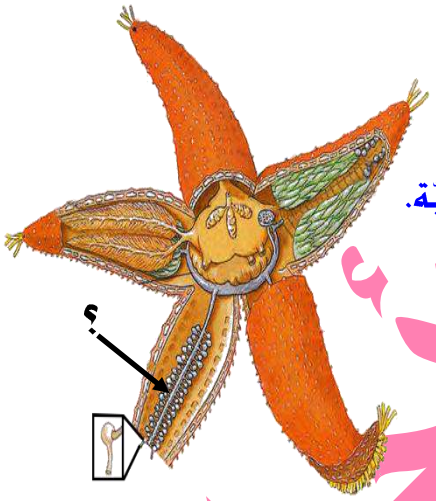

1 ـ شـ 50 ص 54 الفروانية فـ 3: 12 ـ 13 + الجهراء فـ 3: 12 ـ 13 + العاصمة فـ 3: 14 ـ 15 + فصل2: 12 ـ 13
الشكل المقابل يمثل حيوان لا فقاري، و المطلوب:
ـ ما يتكون الجهاز الوعائي المائي في هذا الحيوان؟
1 ـ المصفاة. 2 ـ لقناة الحلقيّة. 3 ـ القناة الشعاعية. 4 ـ القدم الأنبوبيّة.
ـ يؤدي الجهاز الوعائي المائي في نجم البحر العديد من الوظائف الأساسية
مثل: 1 ـ التنفس. 2 ـ الحركة. 3 ـ الدوران.
ـ عدد وظائف الجهاز الوعائي المائي في نجم البحر؟
1 ـ التنفس. 2 ـ الحركة. 3 ـ الدوران.
ـ أكمل: السهم يدل على: قناة شعاعية.

10 أحياء شيكي شيكي
معلمي الكويت
صفوة الكويت
KuwaitTeacher.Com

الوحدة الثالثة: الفقاريات و البيئة:

الفصل الأول: الحبليات و الأسماك و البرمائيات:

الدرس الخامس (1 ـ 1): الحبليات:

الأسئلة الموضوعيّة:

السؤال الأوّل ـ أ ـ: ضع علامة (✓) أمام أنسب إجابة صحيحة الصحيحة لكل عبارة من العبارات التالية:

1 ـ يمكن تصنيف حيوان السهيم ضمن مجموعة: ص68 فصل2: 13 ـ 14

☑الرأس حبليات. ☐الحبليات الفقارية. ☐الذيل حبليات. ☐مئوية الأرجل.

2 ـ تتغذى اليرقة والطور اليافع في الأسيديات بطريقة: ص68 د 2: مـ ـ ك: 15 ـ 16

☐ الانتشار. ☐ التطفل. ☐ التكافل. ☑ الترشيح.

3 ـ يتكوّن الجهاز الدوري في السهيمات (الرأس حبليات) من: ص68 فصل2: 12 ـ 13

☐جهاز دوري مفتوح. ☐ جهاز دوري مغلق و قلب حقيقي.

☐ جهاز دوري مفتوح و قلب حقيقي. ☑ جهاز دوري مغلق و ليس له قلب حقيقي.

السؤال الأوّل ـ ب ـ: ضع علامة (✓) أمام العبارة الصحيحة و علامة (X) أمام العبارة غير الصحيحة لكل عبارة من العبارات التالية:

1 ـ (X) تستخدم السهيمات البلعوم للتبادل الغازي. ص68 فصل2: 18 ـ 19

2 ـ (✓) ينمو الهيكل الداخلي للفقاريات بدون الحاجة إلى أن ينسلخ بشكل دوري، على عكس الهيكل الخارجي للمفصليات. ص70 د 2: مـ ـ ك: 16 ـ 17

السؤال الثاني ـ أ ـ: أدرس الأشكال التالية جيّدًا ثمّ أجب عن المطلوب:

1 ـ شـ 54 ص 67 فصل2: 16 ـ 17 + د2 ـ فصل 2: 17 ـ 18 + فصل2 مـ ـ ك: 18 ـ 19

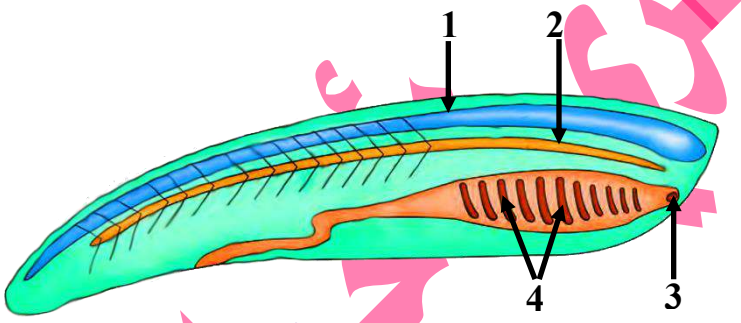

الشكل يمثل حيوان حبلي. والمطلوب:

أكتب البيانات التي تشير إليها الأرقام التالية:

ـ السهم (1) يشير إلى: حبل عصبي أجوف.

ـ السهم (2) يشير الى: حبل ظهري.

ـ السهم (1) يشير إلى: فـم.

ـ السهم (2) يشير الى: جيوب بلعومية.

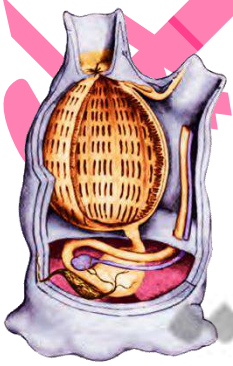

2 ـ شـ 56 ص 68 فصل2: 15 ـ 16

الشكل المقابل يمثل تركيب جسم حيوان أسيدي. و المطلوب:

ـ حيث يمثل الطور: اليافع.

السؤال الثاني ـ ب ـ: أكتب الإسم أو المصطلح العلمي الذي تدل عليه كل عبارة من العبارات التالية:

1 ـ (الحبل الظهري) قضيب دعامي يمتد على طول الجسم أسفل الحبل العصبي لدى أغلب الحبليات. ص67 د2 ـ فصل 2: 16 ـ 17

2 ـ (الجيوب البلعومية) تركيبات مزدوجة في منطقة البلعوم لدى بعض الحبليات. ص67 فصل2 ـ مـ ـ ك: 15 ـ 16

KuwaitTeacher.Com

الأسئلة المقاليّة:

السؤال الثالث ـ أ ـ: ما أهمية كل مما يلي:

1 ـ الهيكل الداخلي للفقاريات؟ ص70 د 2: م ـ ك: 16 ـ 17 يحمي جسم الحيوان ويوفر مكاناً لتثبيت العضلات.

2 ـ العمود الفقري في الفقاريات؟ ص70 فصل2 ـ م ـ ك: 15 ـ 16 يدعم ويحمي الجسم أو يوفر مكاناً لتثبيت العضلات.

السؤال الثالث ـ ب ـ: قارن بإكمال الجدول التالي حسب المطلوب علميا:

ص68 د2 ـ فصل 2: 16 ـ 17

وجه المقارنة	الأسيديات	السهيمات
عضو التنفس	البلعوم.	الجلد.

ص70 د2 ـ فصل 2: 16 ـ 17

وجه المقارنة	الحشرات	البرمائيات
وجود العمود الفقاري	لا يوجد.	يوجد.

السؤال الرابع ـ أ ـ: إقرأ كل عبارة من العبارات العلمية التالية جيّدا ثم أجب عن المطلوب:

1 ـ «أي حيوان ينتمي إلى شعبة الحبليات يجب أن يتمتع بأربع خصائص رئيسيّة بشكل دائم أو خلال فترة معينة من حياته». ص66 فصل2: 18 ـ 19

ـ عدد هذه الخصائص؟

1 ـ الحبل العصبي الأجوف. 2 ـ الحبل الظهري. 3 ـ الجيوب البلعومية. 4 ـ الذيل.

السؤال الرابع ـ ب ـ: أجب عن الأسئلة التالية:

1 ـ ما شعب الحبليات اللافقارية؟ ص67 فصل2: 17 ـ 18 1 ـ الأسيديات. 2 ـ السهيمات.

السؤال الخامس ـ أ ـ: عدِّد ما يلي:

1 ـ الخصائص الرئيسيّة للحبليات؟ ص66 فصل2: 12 ـ 13 + فصل2: 14 ـ 15 + فصل2: 15 ـ 16 + فصل2: 16 ـ 17

1 ـ وجود حبل عصبي أجوف ظهري. 2 ـ حبل ظهري. 3 ـ جيوب بلعوميّة. 4 ـ ذيل ممتد خلف الشرج.

2 ـ إثنين فقط من خصائص الحبليات الفقاريّة؟ ص69 فصل2: 13 ـ 14

1 ـ لها تركيب دعامي يسمّى العمود الفقاري. 2 ـ لها حبل عصبي أجوف يُسمّى الحبل الشوكي.
3 ـ لديها مخ.

السؤال الخامس ـ ب ـ: أكمل خرائط المفاهيم التالية:

1 ـ ص70 د2 ـ فصل 2: 17 ـ 18



10 أيام مذكرتي
معلم الكويت
صفوة الكويت
KuwaitTeacher.Com

الـسـؤال الـسـادس ـ أ ـ: أدرس الأشكال المعروضة أمامك ثم أجب عن المطلوب:

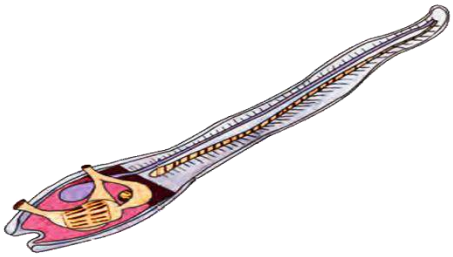

1 ـ شـ 56 ص 68 فصل2: 14 ـ 15

إفحص الشكل المقابل ثم أكمل الفراغات:

أ ـ الشكل المقابل يُمثل الطور اليرقي لحيوان: الأسيديا.

ب ـ ماهي وسيلة التغذية في هذه اليرقة؟ الترشيح.

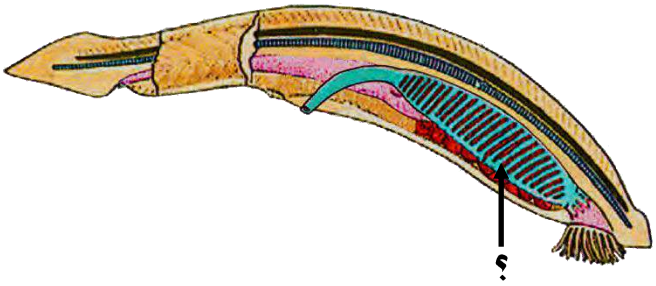

1 ـ شـ 57 ص 69 فصل2: 13 ـ 14

إفحص الشكل التالي لحيوان السُهيم ثمّ أكتب وظيفة الجزء المشار إليه بالسهم على الرسم:

ـ الوظيفة:

للتغذية حيث تلتصق به جُزيْئات الطعام.

مذكرات شكري لأحياء 10

معلمي الكويت
صفوة
KuwaitTeacher.Com

الدرس السادس (1 ـ 3): البرمائيات:

الأسئلة الموضوعيّة:

السؤال الأوّل ـ أ ـ: ضع علامة (✓) أمام أنسب إجابة صحيحة لكل عبارة من العبارات التالية:

3 ـ تتنفس الأطوار اليرقية للبرمائيات من خلال: ص80 د 2: م ـ ك: 15 ـ 16

☐الرئتان. ☑الجلد أو الخياشيم. ☐بطانة تجويف الفم. ☐الرئات الكتابية.

2 ـ عند الضفادع، ما هو العضو الذي يقوم بنفس الوظيفة التي تقوم بها الرئتان عند التمساح: ص80 فصل2: 17 ـ 18

☐الكلية. ☐القلب. ☑الجلد. ☐الكبد.

السؤال الأوّل ـ ب ـ: ضع علامة (✓) أمام العبارة الصحيحة و علامة (X) أمام العبارة غير الصحيحة لكل عبارة من العبارات التالية:

1 ـ (✓) تستطيع الضفدعة اليافعة أن تتنفّس بواسطة جلدها الرطب. ص79 فصل2: 13 ـ 14

2 ـ (✓) يتنفس الطور اليرقي للبرمائيات بالخياشيم. ص80 د 2: م ـ ك: 15 ـ 16

3 ـ (X) يتم التبادل الغازي في الطور اليافع للبرمائيات خلال الخياشيم. ص80 د2 ـ فصل 2: 16 ـ 17

4 ـ (✓) تضع أنثى الضفدع بيضها في الحفر التي تصنعها عند شواطئ الأنهار. ص82 فصل2: 14 ـ 15

5 ـ (✓) تتميّز عيون البرمائيات بأنها كبيرة و يمكنها أن تتحرك في حركة دائرية داخل محاجرها. ص83 فصل2: 15 ـ 16

السؤال الثاني: أكتب الإسم أو المصطلح العلمي الذي تدل عليه كل عبارة من العبارات التالية:

1 ـ (أبو ذنيبة أو الشرغوف) إسم يطلق على صغير البرمائيات. ص80 د2 ـ فصل 2: 16 ـ 17

2 ـ (التغذية بالترشيح) طريقة التغذية في صغير الضفدع (أبو ذنيبة). ص80 فصل2: 17 ـ 18

3 ـ (إخصاب خارجي) نوع الاخصاب في الضفادع. ص82 د2 ـ فصل 2: 17 ـ 18

الأسئلة المقاليّة:

السؤال الثالث ـ أ ـ: ما المقصود علميا بكل مما يلي:

1 ـ البرمائيات؟ ص79 فصل2: 12 ـ 13

هي حيوانات طورها اليرقي يعيش بالماء و يتنفس بالخياشيم و طورها اليافع يعيش على اليابسة و بتنفس بواسطة الرئات أو عبر الجلد الرطب.

2 ـ الشرغوف؟ ص80 + ص82 د 2: م ـ ك: 15 ـ 16

ـ هو صغير البرمائيات والذي يتغذى بالترشيح أو من آكلات الأعشاب.

ـ هو الطور البرقي لدي البرمائيات والذي يعيش حياته في الماء أو حيوان مائي يتنفس بالخياشيم.

3 ـ المجمع أو المذرق؟ ص80 فصل2: 17 ـ 18

عبارة عن تجويف عضلي يوجد في نهاية الأمعاء الغليظة تخرج من خلاله فضلات الهضم والبول والبويضات أو الحيوانات المنوية إلى خارج الجسم.

4 ـ الغشاء الرامش في البرمائيات؟ ص83 د2 ـ فصل 2: 17 ـ 18

عبارة عن غشاء شفاف يحمي سطح العين من الأذى أو الضرر عندما يكون الحيوان في الماء كما يحافظ على رطوبة سطح العين عندما يكون الحيوان على اليابسة.

السؤال الثالث ـ ب ـ: ما أهمية كل ما يلي:

1 ـ المادة الجيلاتينية التي تغلف كتلة البيض لدى الضفادع؟ ص82 فصل2: 18 ـ 19

1 ـ تثبيت البيض بالنباتات المائيّة.

2 ـ حماية البيض من الكائنات المفترسة. 3 ـ تغذي الأجنة النامية.

2 ـ الغشاء الرامش الشفاف في البرمائيات؟ ص83 فصل2: 16 ـ 17 1 ـ يحمي سطح العين من الأذى.
2 ـ يحافظ على رطوبة سطح العين.

السؤال الرابع ـ أ ـ: علل لما يلي تعليلا علميا سليما:

1 ـ تسمية البرمائيات بهذا الإسم؟ ص79 فصل2: 18 ـ 19
ـ لأنها تستطيع أن تعيش في الماء و على اليابسة.
ـ أو لأنها تقضي الفترة الأولى من حياتها في الماء و تتنفس بالخياشيم و الطور اليافع يتنفس بالرئتين و بالجلد.

2 ـ تغلف كتلة البيض عند الضفادع بمادة جيلاتينية لزجة؟ (يكتفي بنقطتين) ص82 د2 ـ فصل 2: 16 ـ 17
تسعد في تثبيت كتلة البيض بالنباتات المائية وحمايتها من الكائنات المفترسة وتغذي الأجنة ا لنامية حتى يفقس البيض إلى شرغوف.

3 ـ تتميز ضفادع الأشجار بوجود أقراص في أصابع أطرافها؟ ص83 د2 ـ فصل 2: 17 ـ 18
لأنها تعمل كممصات تساعدها على التسلق.

4 ـ تعمل البرمائيات على حماية مصادر الغذاء و منع إنتقال الأمراض؟ ص83 فصل2: 16 ـ 17
لأنها تساعد على ضبط النمو العددي للحشرات.

السؤال الرابع ـ ب ـ: قارن بإكمال الجدول التالي حسب المطلوب علميا:

ص70 د2 ـ فصل 2: 16 ـ 17

وجه المقارنة	الحشرات	البرمائيات
وجود العمود الفقاري	لا يوجد.	يوجد.

ص80 فصل2: 15 ـ 16 + فصل2 مـ ـ ك: 18 ـ 19

	وجه المقارنة	أبو ذنيبة أو الشرغوف	الضفدع اليافع
1	طريقة التغذية	الترشيح. أو آكلات الأعشاب.	تناول الحشرات غالبا.
2	طول الأمعاء	طويلة.	قصيرة.

السؤال الخامس ـ أ ـ: أجب عن الأسئلة التالية:

1 ـ التكاثر من الوظائف الحيوية لدى البرمائيات، وضح ما يلي: ص82 فصل2 مـ ـ ك: 17 ـ 18
ـ بم يتميز البيض في البرمائيات؟ خال من القشور الخارجية الصلبة.
ـ ما نوع الاخصاب في الضفادع؟ خارجي.

السؤال الخامس ـ ب ـ: عدِّد ما يلي:

1 ـ طرق التغذية عند البرمائيات؟ ص80 د 2: مـ ـ ك: 16 ـ 17 1 ـ متغذيات بالترشيح.
2 ـ آكلات أعشاب.
3 ـ آكلات الحشرات.

السؤال السابع ـ ب ـ: أدرس الأشكال المعروضة أمامك ثم أجب عن المطلوب:

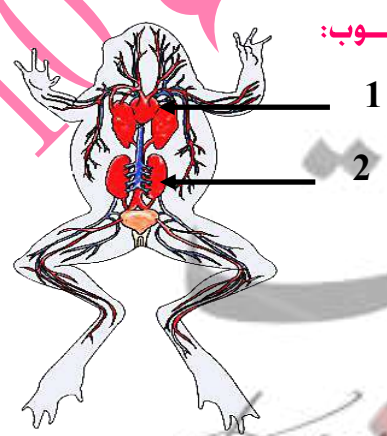

1 ـ شـ 73 ص 81 فصل2 ـ مـ ـ ك: 15 ـ 16
الشكل الذي أمامك يمثل الجهاز الدوري عند الضفدعة، المطلوب:
ـ إلى أي مجموعة تصنيفية تنتمي الضفادع؟ شعبة البرمائيات.
ـ السهم رقم (1) يشير الى القلب.
ـ كم عدد حجرات قلب الضفدعة؟ ثلاث حجرات.

مذكرات شكري لأحياء 10
KuwaitTeacher.Com

الفصل الثـانـي: الـزواحـف و الـطـيـور:

الدرس الـسـابـع (2 ـ 2): الـطـيـور:

الأسئلة الـمـوضـوعـيّـة:

الـسـؤال الأوّل ـ أ ـ: ضع علامة (✓) أمام أنسب إجابة صحيحة الصحيحة لكل عبارة من العبارات التالية:

1 ـ يظهر شكل المنقار طويل و مدبّب في الطيور التي تتغذى على: ص95 فصل2: 14 ـ 15

☐الأسماك. ☐الحبوب. ☐اللحوم. ☑الرحيق.

2 ـ عضو عضلي يساعد الطيور آكلات الحشرات والبذور على سحق الغذاء ميكانيكيا أو العضو الذي يُساعد الطيور على هضم الحشرات أو الحبوب هو: ص96 فصل2: 13 ـ 14 + د2 ـ فصل 2: 16 ـ 17

☐المذرق. ☑القانصة. ☐المريء. ☐الحوصلة.

3 ـ أحد الأشكال التالية يمثل تركيب الدماغ عند الطيور: ص98 فصل2: 17 ـ 18



الـسـؤال الأوّل ـ ب ـ: ضع علامة (✓) أمام العبارة الصحيحة و علامة (X) أمام العبارة غير الصحيحة لكل عبارة من العبارات التالية:

1 ـ (X) تستخدم المناقير الطويلة و المفلطحة عند الطيور في أكل الحبوب. ص95 فصل2: 15 ـ 16

2 ـ (✓) من التكيّفات التي ساعدت الطيور على الطيران أن لها عضلات صدر قويّة. ص98 فصل2: 14 ـ 15

الـسـؤال الـثـانـي ـ أ ـ: أدرس الأشكال التالية جيّدًا ثّم أجب عن الـمـطـلـوب:

1 ـ شـ86 ص 94 فصل2: 14 ـ 15 + فصل2: 15 ـ 16



الشكل المقابل يمثل أحد أنواع الريش، و المطلوب:

ـ ما نوع الريش في الشكل؟

ريش محيطي أو القلم.

2 ـ شـ89 ص 97 فصل2: 12 ـ 13 + فصل2: 13 ـ 14 + د2: مـ ـ ك: 15 ـ 16 + فصل2: 17 ـ 18

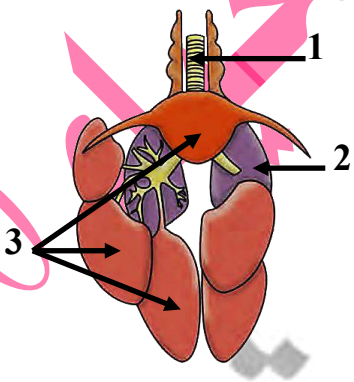

الشكل المقابل يمثل الجهاز التنفسي في الطيور، و المطلوب:

ـ ضع البيانات المشار إليها بالأسهم:

ـ السهم (1) يشير إلى: قصبة هوائية.

ـ السهم (2) يشير إلى: رئـة.

ـ السهم (3) يشير إلى: أكياس هـوائـيّـة.

صفوة الكويت KuwaitTeacher.Com

3 ـ شـ 91 ص 98 فصل2: 14 ـ 15 + فصل2: 15 ـ 16 + دـ2 ـ فصل 2: 16 ـ 17 + دـ2 ـ فصل 2: 17 ـ 18

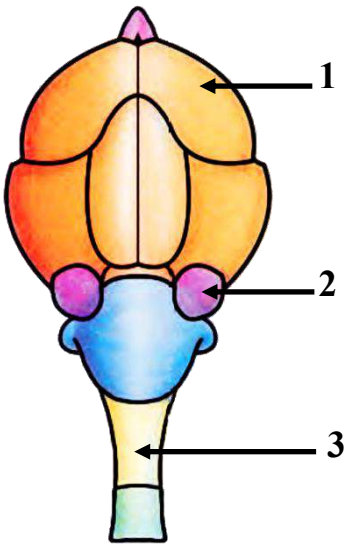

الشكل يمثل الدماغ لدى نوع من الحبليات الفقارية. و المطلوب:

أ ـ في أي مجموعة من الحيوانات الفقارية يظهر المخ كما بالشكل التالي؟ الطيـــور.

ب ـ ما الهدف من كبر حجم التركيب رقم (1)؟ (يكتفي بنقطتين)

1 ـ ضبط جميع سلوكيات الطيور. 2 ـ بناء العش.

3 ـ العناية بالصغار. 4 ـ المغازلة و التزاوج.

جـ ـ ما دور التركيب رقم (3)؟ ينسق عمل القلب و بعض أجزاء الجسم الأساسية.

د ـ أكتب البيانات المشار إليها بالأرقام في الشكل.

ـ السهم (1) يشير الى: المخ.

ـ السهم (2) يشير الى: فص بصري.

ـ السهم (1) يشير الى: نخاع مستطيل.

هـ ـ بما تمتاز الفصوص الشمية في الدماغ من حيث الحجم: صغير جدا.

السؤال الثاني ـ ب ـ: أكتب الإسم أو المصطلح العلمي الذي تدل عليه كل عبارة من العبارات التالية:

1 ـ (التمثيل الغذائي أو الأيض) مجموع العمليات الكيميائية التي تجري داخل خلايا الجسم و التي ينتج عنها حرارة جسميّة تتراوح بين 40 و 41 لدى الطيور. ص95 فصل2: 18 ـ 19

2 ـ (الحوصلة) تركيبات خاصة لدى أكثرية الطيور تساعدها في هضم الطعام. ص96 فصل2: 16 ـ 17

الأسئلة المقاليّة:

السؤال الثالث ـ أ ـ: ما المقصود علميا بكل مما يلي:

1 ـ الكائنات ذوات الدم الحار؟ ص95 فصل2: 15 ـ 16 + فصل2 مـ ـ ك: 17 ـ 18

هي الحيوانات التي تستطيع أن تولد طاقة داخل أجسامها وتحافظ على درجة حرارة جسمها ثابت أو حيوانات ثابتة الحرارة لأن أجسامها تولد الطاقة الحرارية داخليا.

2 ـ التمثيل الغذائي (الأيض)؟ ص95 فصل2: 14 ـ 15 هو مجموع العمليات الكيميائيّة التي تجري داخل خلايا الجسم.

3 ـ الحوصلة في الطيور؟ ص96 فصل2: 12 ـ 13 هو تركيب خاص يقع أسفل نهاية المريء في الطيور و تساعد على تخزين الغذاء و ترطيبه قبل أن ينتقل إلى القناة الهضميّة.

السؤال الثالث ـ ب ـ: ما أهمية كل ما يلي:

1 ـ العضو العضلي (القانصة) الموجود في بعض الطيور؟ ص96 فصل2: 14 ـ 15 + فصل2: 16 ـ 17 + فصل2 مـ ـ ك: 18 ـ 19

1 ـ يُساعد في سحق الغذاء ميكانيكيًا.

2 ـ يوجد في الطيور التي تأكل الحشرات أو البذور و هو جزء من المعدة.

السؤال الرابع ـ أ ـ: علل لما يلي تعليلا علميا سليما:

1 ـ الطيور الصغيرة آكلات شرهة؟ ص95 فصل2 مـ ـ ك: 15 ـ 16 لأنها تفقد الطاقة بشكل أسرع نسبيًا من الطيور الكبيرة وبالتالي تكون كمية غذائها كبيرة نسبة إلى حجم أجسامها.

2 ـ الطيور لا تستطيع تفتيت الغذاء عن طريق المضغ؟ ص96 فصل2: 17 ـ 18 لأنها لا تمتلك أسنان.

3 ـ تحتوي القانصة عند الطيور على قطع صغيرة من الحجارة والحصى؟ ص96 فصل2: 17 ـ 18 لأنها تساعد على سحق الغذاء وطحنه إلى جزيئات صغيرة لتسهيل عملية الهضم / سحق الغذاء ميكانيكيا.

10 صفحات شكرا لزيارتكم

السؤال الرابع ـ ب ـ: قارن بإكمال الجدول التالي حسب المطلوب علميا:

ص95 د 2: مـ ـ ك: 16 ـ 17

وجه المقارنة	الزواحف	الطيور
درجة حرارة الجسم	متغيرة الحرارة.	ثابته الحرارة أو تتراوح بين 40 ـ 41.

ص95 فصل2: 12 ـ 13 + فصل2: 16 ـ 17

وجه المقارنة	طائر آكل السمك	طيور آكلات الحشرات	طيور آكلات حبوب	طائر جامع الرحيق
شكل المنقار	وردي ملعقي.	قصير و دقيق.	قصير و سميك.	طويل رفيع مدبب.

ص97 فصل2: 14 ـ 15

وجه المقارنة	السلحفاة	الطيور
التقسيم الداخلي للقلب	أذينان و بطين واحد ذو حاجز أو جدار غير كامل.	أذينان و بطينان.

السؤال الخامس ـ أ ـ: إقرأ كل عبارة من العبارات العلمية التالية جيّدا ثم أجب عن المطلوب:

1 ـ "الحوصلة في الطيور تساعد على تخزين الغذاء و ترطيبه". ص96 فصل2: 18 ـ 19

ـ ماهي الوظيفة الإضافية للحوصلة عند الحمام؟ ينتج عن تفتيت الطعام في الحوصلة مادة غنية بالبروتين و الدهون فتقوم أباء الطيور بإعادة هذه المادة إلى الفم فتغذي بها صغارها.

السؤال الخامس ـ ب ـ: أدرس الأشكال المعروضة أمامك ثم أجب عن المطلوب:



1 ـ شـ 86 ص 94 فصل2: 18 ـ 19

الشكل يمثل أنواع الريش لدى الطيور، و المطلوب:

ـ ما هو نوع الريش في رقم (1)؟

الريش محيطي (القلم).

ـ ماهي وظيفة الريش في رقم (2) ؟

عزل الجسم ضد فقدان الحرارة. أو الاحتفاظ بالهواء بالقرب من جسم الطائر. أو يبقي جسم الطائر دافئ.

صفوة معلمي الكويت
KuwaitTeacher.Com

الفصل الثالث: الثدييات:

الدرس الثامن (3 ـ 1): الثدييات:

الأسئلة الموضوعيّة:

السؤال الأوّل ـ أ ـ: ضع علامة (✓) أمام أنسب إجابة صحيحة لكل عبارة من العبارات التالية:

1 ـ أصغر الثدييات حجمًا هي: ص103 فصل2 ـ مـ ـ ك: 15 ـ 16

☐الكلاب. ☐القطط. ☐الفئران. ☑الذبابة القزم.

2 ـ من مظاهر تميز الثدييات عن الزواحف: ص104 فصل2: 12 ـ 13

☐إنخفاض معدّل الأيض بالخلايا. ☐المفصل بين الفك السفلي و الجمجمة أضعف.

☑ عضلات الفك أكبر و أكثر قوّة. ☐ جميع ما سبق خطأ.

3 ـ أسنان مدببة تستخدمها أكلات اللحوم للطعن والقبض والتمزيق: شـ 97 ص 104 دـ2 ـ فصل 2: 17 ـ 18

☑ الأنياب. ☐ الطواحن. ☐ الضروس. ☐ القواطع.

السؤال الأوّل ـ ب ـ: ضع علامة (✓) أمام العبارة الصحيحة و علامة (X) أمام العبارة غير الصحيحة لكل عبارة من العبارات التالية:

1 ـ (X) تمتلك جميع الحيوانات الثديّية غددًا عرقيّة. ص103ص104 فصل2: 13 ـ 14

2 ـ (✓) الذئب من الثدييات التي لا يوجد به غدد عرقية. ص104 فصل2: 16 ـ 17

3 ـ (✓) تتميز آكلات اللحوم بوجود أمعاء قصيرة نسبيا. ص105 دـ2 ـ فصل 2: 16 ـ 17

4 ـ (✓) عند الأبقار حجرة معدية تسمى الكرش حيث يتم هضم السيليلوز فيها بالبكتيريا التكافليّة. ص 105 فصل2: 12 ـ 13

5 ـ (✓) يستكشف الخفافيش الأشياء الموجودة في بيئته عن طريق صدى الصوت. ص107 فصل2: 13 ـ 14

السؤال الثاني ـ أ ـ: أدرس الأشكال التالية جيّدًا ثّم أجب عن المطلوب:

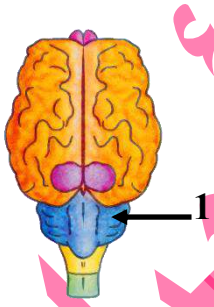

1 ـ شـ 100ص 107 فصل2: 15 ـ 16

الشكل المقابل يمثل تركيب الدماغ في الثدييات، و المطلوب:

ـ السهم (1) يُشير إلى: المخيخ.

السؤال الثاني ـ ب ـ: أكتب الإسم أو المصطلح العلمي الذي تدل عليه كل عبارة من العبارات التالية:

1 ـ (الجرابيات أو الثدييات الكيسية) ثدييات تلد صغارًا غير مكتملة النمو تبقى في جيب خارجي للأم. ص109 فصل2: 16 ـ 17 + تـ دـ2 ـ فصل 2: 17 ـ 18

2 ـ (الثدييات المشيمية) ثدييات تنمو صغارها داخل جسم الأم و تتغذى منم جسم الأم حتى الولادة. ص110 فصل2: 15 ـ 16

3 ـ (المشيمة) نسيج إسفنجي يحيط تماما بالجنين و تتداخل فيه الأوعية الدموية للأم و الجنين و يسمح بتبادل المواد بينهما. ص110 فصل2: 18 ـ 19

الأسئلة المقاليّة:

السؤال الثالث ـ أ ـ: ما المقصود علميا بكل مما يلي:

1 ـ الجرابيات (الثدييات الكيسيّة)؟ ص109 فصل2: 14 ـ 15 + فصل2 ـ مـ ـ ك: 15 ـ 16

هي الثدييات التي تلد صغارًا غير مكتملة النمو و تبقى في جيب خارجي للأم.

السؤال الثالث ـ ب ـ: ما أهمية كل مما يلي:

1 ـ الحجاب الحاجز عند الثدييات؟ ص105 فصل2: 15 ـ 16 يلعب دورا مهما في التنفس. أو عضلة تسحب قاعدة التجويف الصدري لأسفل مما يزيد من حجمه.

2 ـ (أهمية واحدة) كيس البطن في أنثى الكانجرو؟ ص109 فصل2: 13 ـ 14 تحتفظ فيه بصغارها غير مكتملة النمو حتى تكبر.

السؤال الرابع ـ أ ـ: علل لما يلي تعليلا علميا سليما:

1 ـ معظم الثدييات تمتلك غدد عرقية؟ ص103 فصل2: 15 ـ 16

لتساعدها على تبريد الجسم أو خفض درجة حرارته من خلال تبخر العرق الذي تفرزه.

2 ـ توجد لدى الأبقار حجرة معدية إضافية تسمّى (الكرش)؟ ص105 فصل2: 13 ـ 14

تُخزن و تُجهز الطعام الذي تبتلعه حيث يحتوي الكرش على نوع من البكتيريا التكافليّة التي تهضم السيليلوز.

السؤال الرابع ـ ب ـ: قارن بإكمال الجدول التالي حسب المطلوب علميا:

ص105 فصل2: 17 ـ 18

وجه المقارنة	الثدييات آكلات الأعشاب	الثدييات آكلات اللحوم
طول الأمعاء	طويلة.	قصيرة نسبيا.

شـ101ص 108 فصل2 مـ ـ ك: 17 ـ 18

وجه المقارنة	الحصان	القرد
المجموعة التي تنتمي إليها حسب الحركة	العداؤون.	المتسلقون.

ص109 فصل2: 12 ـ 13

وجه المقارنة	الثدييات البيوضة	الثدييات الكيسيّة
مثال	حيوان خلد الماء.	حيوان الكانجرو.

ص109 د 2: مـ ـ ك: 16 ـ 17

وجه المقارنة	خلد الماء	الكانجرو
طريقة التكاثر	ثديات بيوضة تضع البيض.	ثديات كيسيّة تلد.

السؤال الخامس ـ أ ـ: ماذا تتوقع أن يحدث في الحالات التالية:

1 ـ عندما ترفع عضلات القفص الصدري في الثدييات القفص الصدري لأعلى و للخارج و في الوقت نفسه تسحب عضلة الحجاب الحاجز قاعدة التجويف الصدري لأسفل؟ ص105 فصل2: 12 ـ 13

تحدث عملية الشهيق أو يزيد حجم التجويف الصدري.

السؤال الخامس ـ ب ـ: أجب عن الأسئلة التالية:

1 ـ كيف يمكن للثدييات أن تحافظ على درجة حرارة أجسامها ثابتة؟ ص103 د2 ـ فصل 2: 16 ـ 17

1 ـ أجسامها تولد طاقة حرارية ناتجة عن عمليات الأيض الداخلية.

2 ـ وجود الشعر الخارجي.

3 ـ وجود طبقة دهنية تحت الجلد. 4 ـ وجود غدد عرقية.

السؤال السادس ـ أ ـ: عدّد ما يلي:

1 ـ إثنين فقط من الخصائص المميّزة للثدييات؟ ص102ص103 فصل2: 14 ـ 15 1 ـ درجة حرارة الجسم الثابتة. 2 ـ جسمها مغطى بالشعر.3 ـ توجد في الإناث غدد ثديية تفرز الحليب لتغذية الصغار.

4 ـ لها قلب مكوّن من أربع حجرات.

2 ـ أنواع الثدييات من حيث تكاثرها؟ ص109 د 2: مـ ـ ك: 15 ـ 16

1 ـ الثدييات الجرابية (الكيسية). 2 ـ الثدييات البيوضة. 3 ـ الثدييات المشيمية.

السؤال السادس ـ ب ـ: أدرس الأشكال المعروضة أمامك ثم أجب عن المطلوب:

1 ـ شـ 97 ص 104 د 2: مـ ـ ك: 16 ـ 17

الشكل المقابل يوضح شكل الأسنان والفكوك عند الثدييات، والمطلوب:

ـ الشكل رقم (2) هو الفك المناسب لأكلات اللحوم.

ـ ما هو السبب؟ لأن لها أنيابا حادة وقواطع لتمسك بالفريسة وتقطع لحمها.



الشكل رقم 1

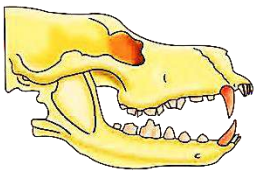

الشكل رقم 2

1 ـ شـ 98 ص 105 فصل2: 18 ـ 19

الشكل يمثل الحويصلات التنفسية في الثدييات، و المطلوب:

ـ عدد ميزات الحويصلات التنفسية في الثدييات؟

1 ـ أعداد كبيرة.

2 ـ غنية بالشعيرات الدموية.

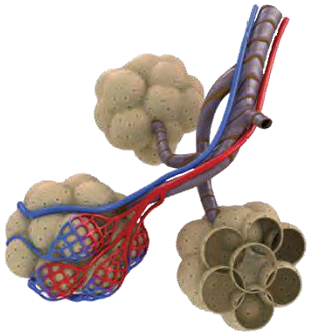

1 ـ شـ 99 ص 106 فصل2: 16 ـ 17

الشكل يمثل القلب، و المطلوب:

ـ كم عدد الحجرات في هذا القلب؟ أربع حجرات.

ـ أيّ من جوانب هذا القلب يتلقى دم قليل الأكسجين؟ الجانب الأيمن.

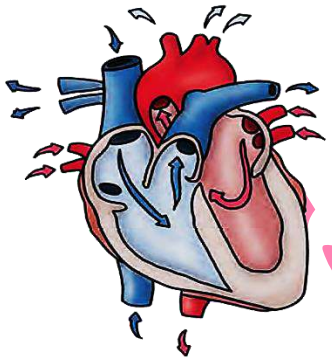

1 ـ شـ 100ص 107 فصل2: 12 ـ 13

الشكل المقابل يمثل دماغ أحد الفقاريات، و المطلوب:

ـ حدِّد الجزء الأكبر في هذا الدماغ؟ المخ.

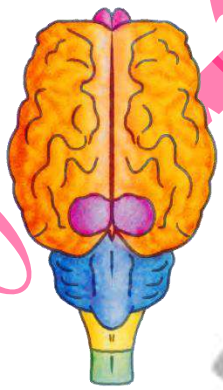

السؤال الشامل ـ أ ـ: إختر من العمود (ب) ما يناسب العبارات في العمود (أ):

مذكرات شكري لعلي 10
معلمي الكويت صفوة
KuwaitTeacher.Com

العمود (أ)		العمود (ب)	
ـ وسيلة للتنفس في العناكب. ص 49 ملغي	(2)	1 ـ تجويف البرنس. ملغي	4 ـ الجلد.
ـ وسيلة للتنفس في البرمائيات. ص 80	(4)	2 ـ الرئات الكتابية. ملغي	
ـ وسيلة للتنفس في القواقع الأرضيّة. ص 44 ملغي	(1)	3 ـ الأنابيب القصبيّة. ملغي	

العمود (أ)		العمود (ب)	
ـ حيوان ينتمي إلى الحبليات لكن ليس لديه عمود فقاري. ص 67	(4)	1 ـ خلد الماء.	6 ـ الحشرة.
ـ حيوان يبيض و يرضع صغاره الحليب. ص 109	(1)	2 ـ قنديل البحر.	
ـ حيوان يُغطّي جسمه هيكل خارجي من مادة الكيتين. ص 48 ملغي	(6)	3 ـ دودة الاسكارس.	
ـ حيوان يعتمد في حركته على ظاهرة الدفع النفاث. ص 27	(2)	4 ـ الأسيديا.	7 ـ دودة الأرض.
ـ حيوان يمتلك سيلوم كاذب. ص 35	(3)	5 ـ الكانجرو.	

السؤال الشامل ـ ب ـ: أدرس الأشكال التالية جيِّدًا ثم أجب عن المطلوب:

1 ـ فصل2: 13 ـ 14

- أكتب إسم المجموعة الفقاريّة التي يظهر بها القلب كما في الأشكال التالية:

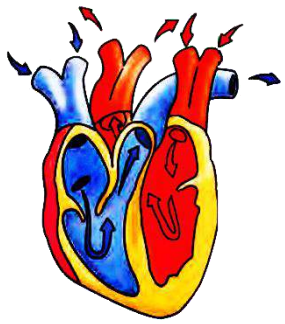

الطيور.

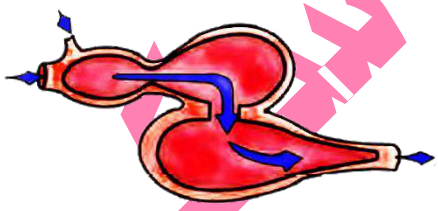

الأسماك

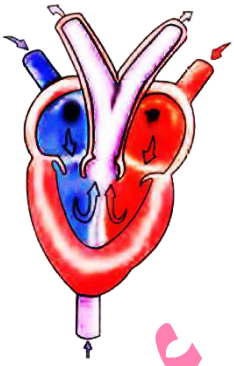

البرمائيات

وفقكم اللّه

لا تنسوا الدعاء لي بالخير و الرحمة لوالدي

مذكرات شهري لأحياء 10
صفوة معلمي الكويت
KuwaitTeacher.Com