وزارة التربية
الإدارة العامة لمنطقة الجهراء التعليمية
مدرسة أم ورقة – إ - بنات

تدريبات للصف الأول الابتدائي للفصل الدراسي الأول

إعداد معلمات الصف الأول

رئيسة القسم : أ / منيفة الحسيني

الموجهة الفنية :
أ/ وضحه العويهان

مديرة المدرسة :
أ/إيمان الغانم

معلمتي الكويتية
Kuwaitteacher.com

وزارة التربية
الإدارة العامة لمنطقة الجهراء التعليمية
مدرسة أم ورقة – إ - بنات

تدريبات الـوحدة الأولى
مدخل إلى المفاهيم الرياضية

إعــداد المعلمة
أ / فاطمة بوقذيلة

معلمي الكويت
Kuwait Teacher .com

العلاقات المكانية (فوق-تحت-أعلى-أسفل)

السؤال الأول: لون التي تقع فوق

والتي تقع تحت

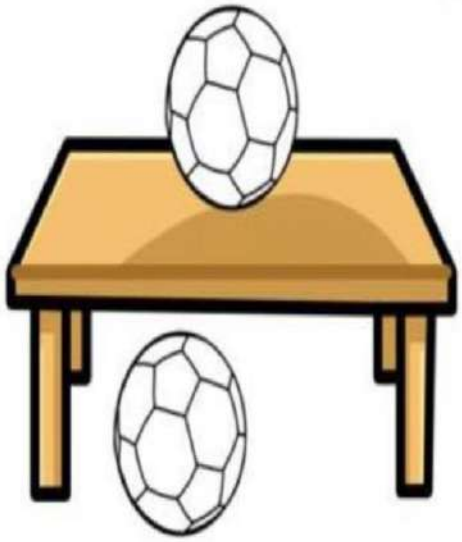

السؤال الثاني: حوط.

أ) التي تقع في الأمام

ب) التي تقع في الخلف



صفوة معلمي الكويت
KuwaitTeacher.Com

العلاقات المكانية (يمين - يسار)

السؤال الأول: حوط

أ) الشيء الذي يقع يسار الولد

ب) الشيء الذي يقع يسار البنت

السؤال الثاني: لون  الذي يقع يمين الفتاة باللون والتي تقع يسار

الفتاة باللون

صفوف الكويت
KuwaitTeacher.Com

العلاقات المكانية (داخل – خارج – بين)

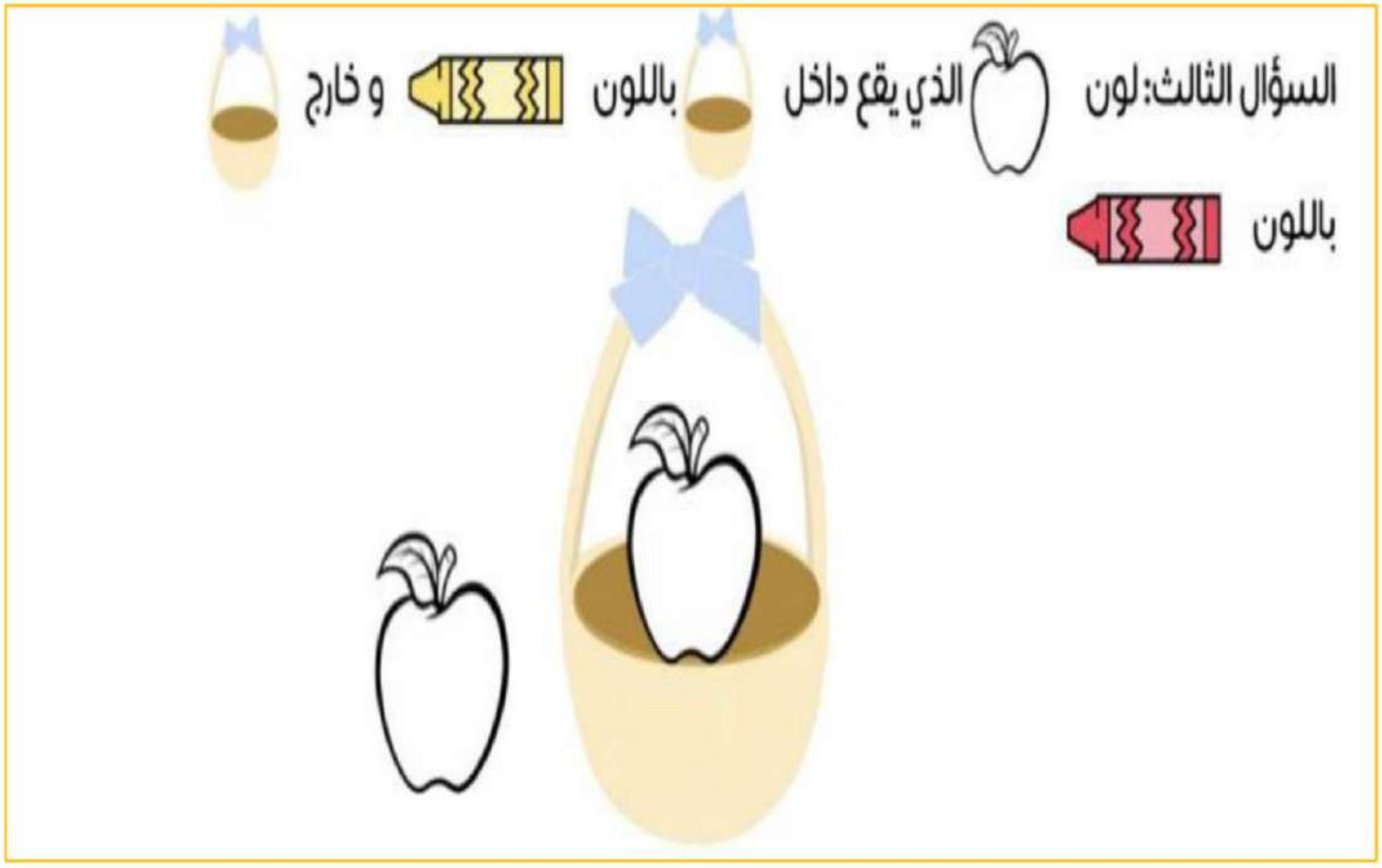

معلمة الكويت
صفوة
KuwaitTeacher.Com

صغير – كبير

السؤال الأول: حوط

أ) الشيء الأكبر



ب) الشيء الأصفر

السؤال الثاني: هيا بنا نلون الأشياء الصغيرة والأشياء الكبيرة

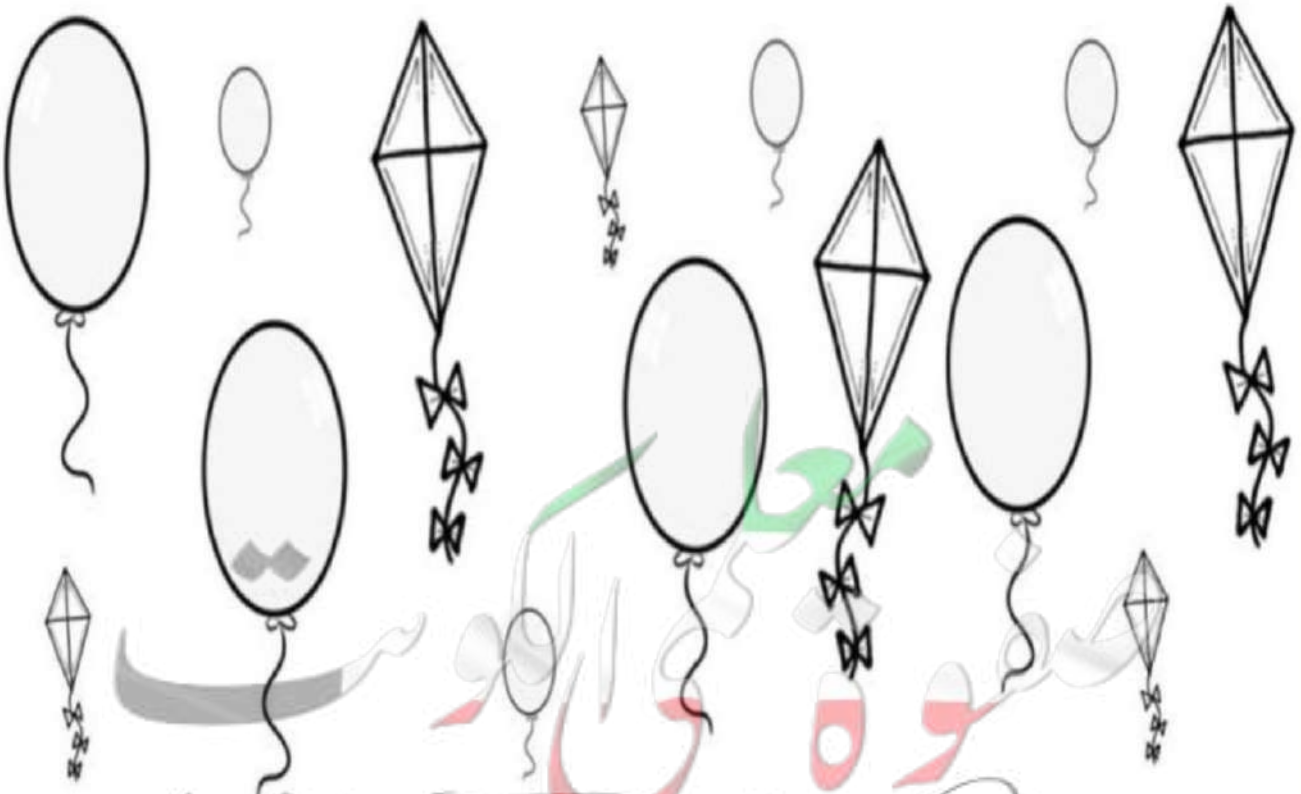

معلم الكويت
KuwaitTeacher.Com

التطابق

السؤال الثالث: ضع علامة (✓) للشكلين المتطابقين

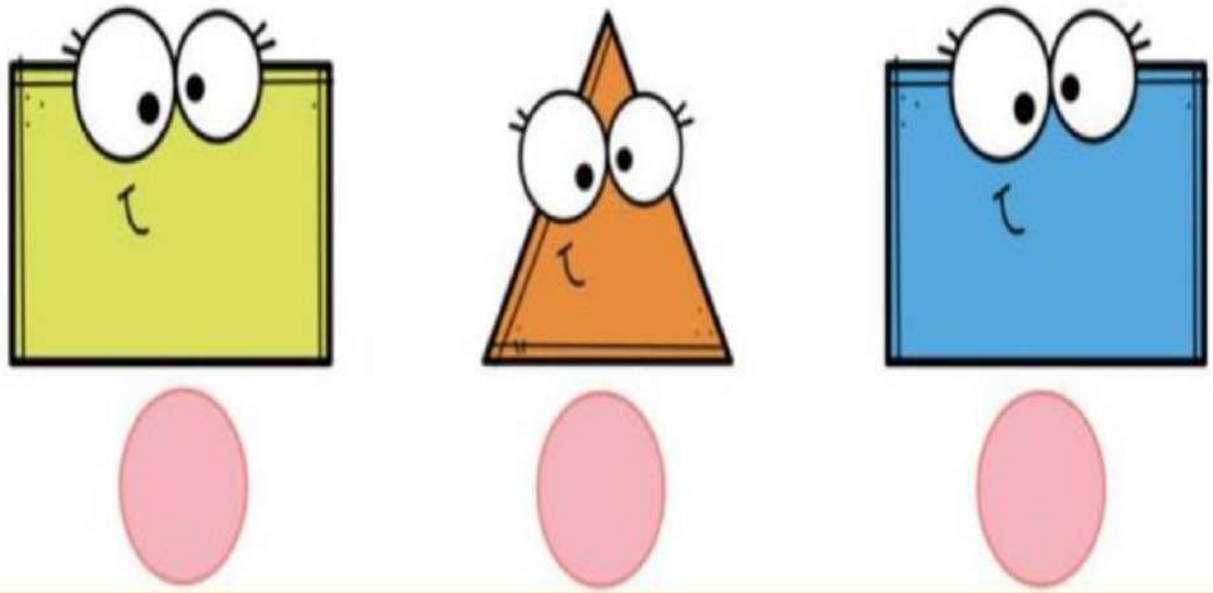

السؤال الثالث: ضع علامة (✓) للشكلين غير المتطابقين

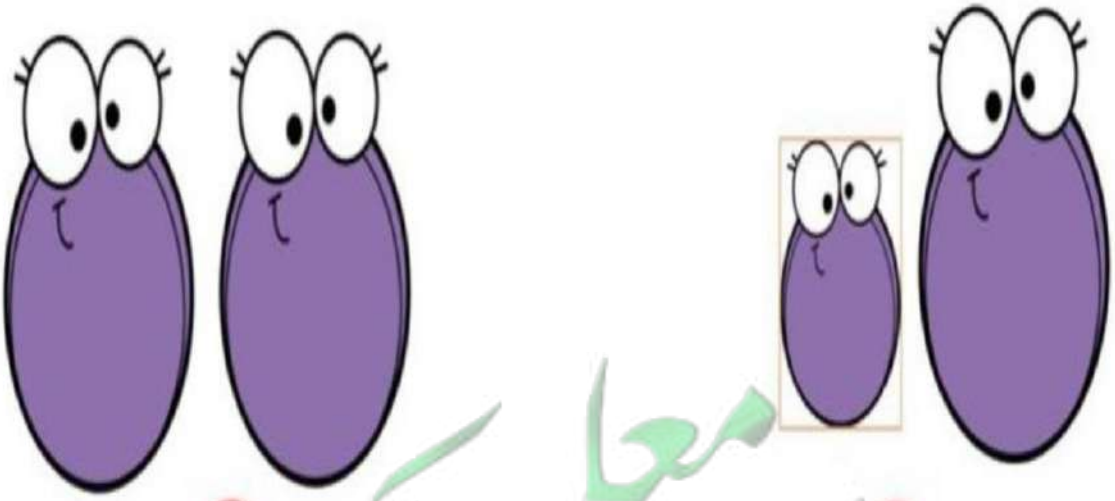

معلمي الكويت
صفوة
KuwaitTeacher.Com

التصنيف وفق خاصيه واحده

السؤال الأول: حوط المظلات الحمراء.

السؤال الثاني: حوط الأقلام

معلمة الكويت
KuwaitTeacher.Com

التصنيف وفق خاصيتين

السؤال الثالث: حوط البالونات الصفراء

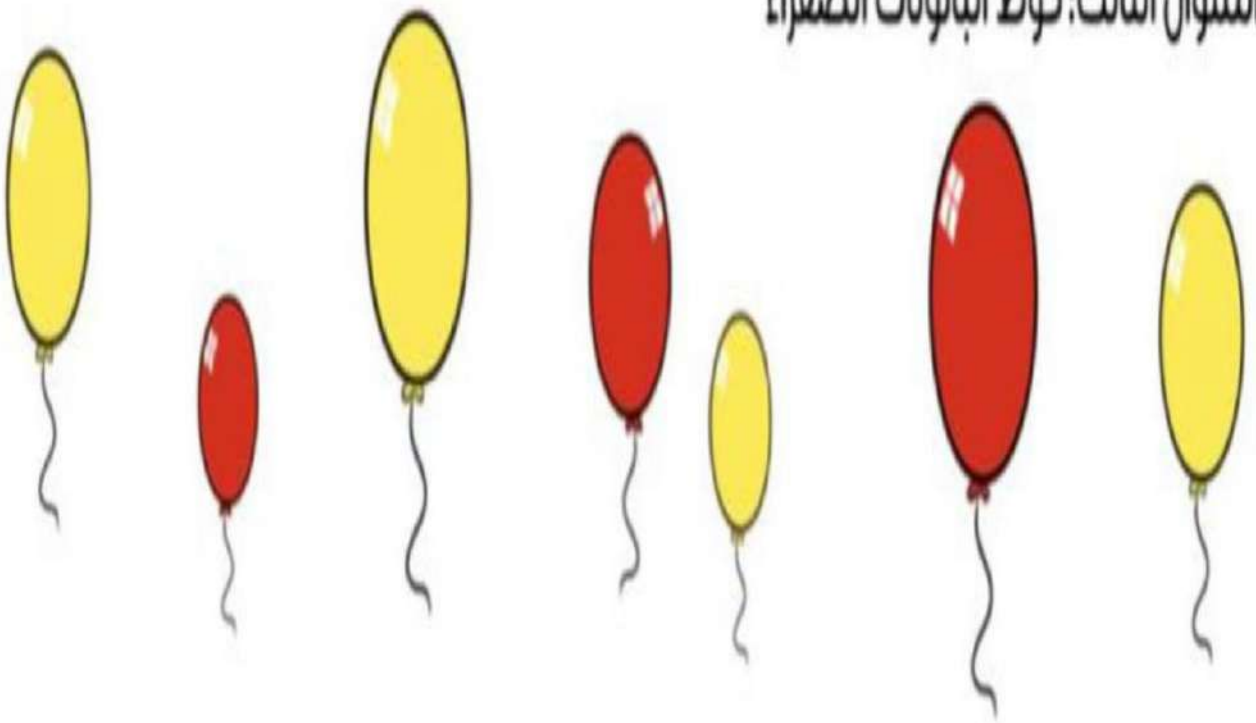

السؤال الرابع: حوط الطائرات الخضراء

KuwaitTeacher.Com

النمـــط

السؤال الخامس: أكمل النمط

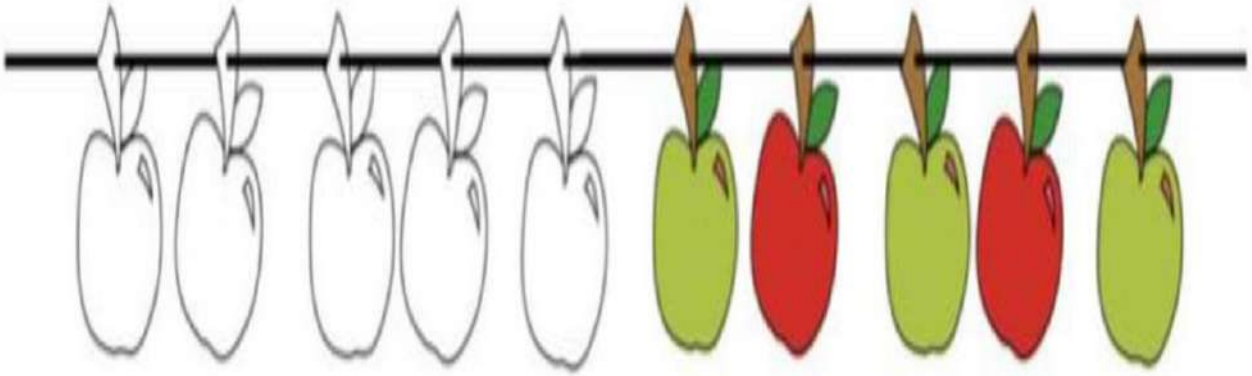



....

صفوة المعلمين الكويت
KuwaitTeacher.Com

وزارة التربية
الإدارة العامة لمنطقة الجهراء التعليمية
مدرسة أم ورقة – إ - بنات

تدريبات الـوحدة الثانية
الأعداد الكلية من ١ إلى ٥

إعــداد المعلمة
أ / أوضـاح العنزي

معلمي الكويت
KuwaitTeacher.Com

الإدارة العامة لمنطقة الجهراء التعليمية

للفصل الدراسي الأول

مدرسة أم ورقة ابتدائية بنات

ضعي علامه ✔ أسفل المجموعة الأكثر :-

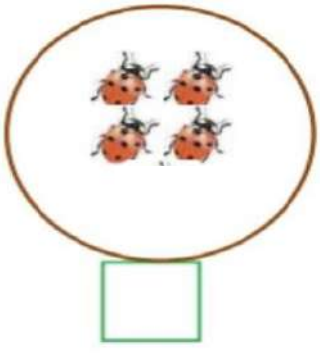

ضعي علامة ✔ أسفل المجموعة الأقل :-



ارسمي مجموعة مكافئة للمجموعة التالية :-



ارسمي مجموعة أقل من المجموعة التالية :-



معلمي الكويت
صفوة
KuwaitTeacher.Com

واحد

١

أكـــملي :-

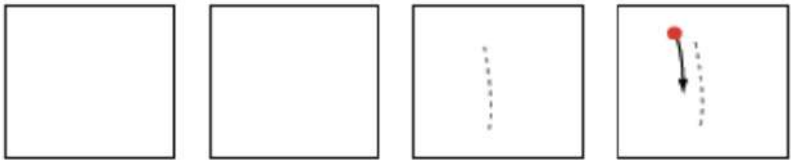

واحِـدٌ

حوطي المجموعة التي تحوي عنصرا واحد :-





لوني عنصرا واحد من المجموعة التالية :-

معلمة الكويت
صفوة
KuwaitTeacher.Com

اكتـــــبي رمـــز العدد :-

١	١	١

معلمة الكويت
صفوة
KuwaitTeacher.Com

أكـــملي:-

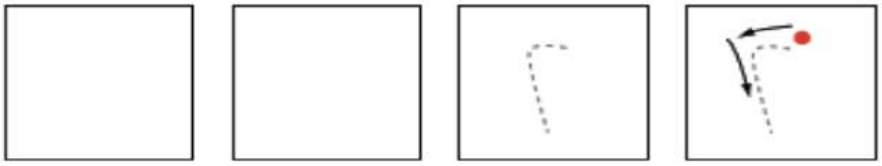

اثْنـانِ

لـوني عنصرين اثنين فقط :-



حوطـي رمـز العدد الدال على عدد العناصر :-

٤ ١ ٢ ٣

أكـملـي :-

معلمة الكويت
KuwaitTeacher.Com

اكتـــــبي رمـــز العدد :-

٢	٢	٢

معلمة الكويت
صفوة
KuwaitTeacher.Com

أكمـــلي:-

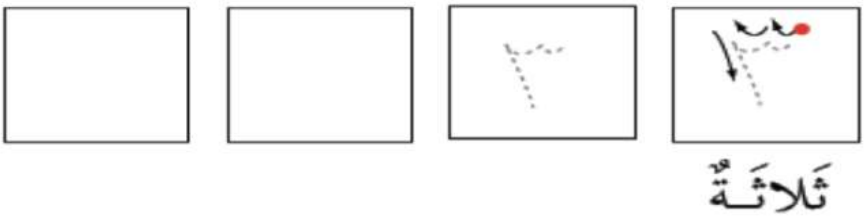

حـــوطي رمـــز العدد الدال على عدد العناصر :-

٤ ١ ٢ ٣

اكتبي رمـــز العدد ثم لـــوني :-



أكمـــلي :-

معلمي الكويت
صفحة
KuwaitTeacher.Com

اكتـــــبي رمـــز العدد :-

٣	٣	٣

معلمة الكويت
صفوة
KuwaitTeacher.Com

أكمـــلي:-

أَرْبَعَةٌ

حـــوطي رمـــز العدد الدال على عدد العناصر:-

١٠ ٢ ٣ ٤

اكتبي رمـــز العدد ثم لـــوني :-

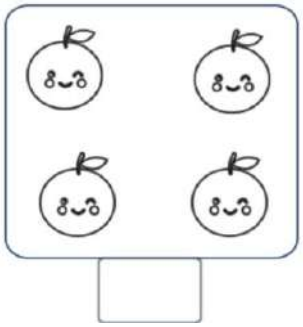

أكمـــلمي:-

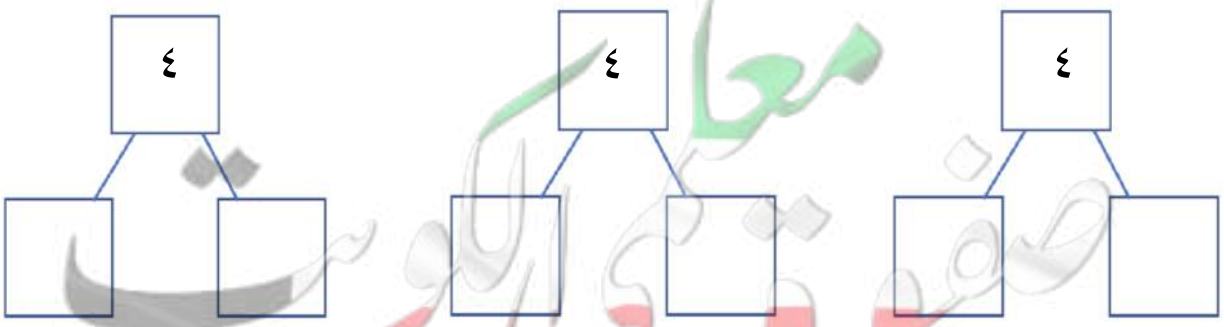

معلمات صفوتي الكويت
KuwaitTeacher.Com

اكتـــــبي رمـــز العدد :-

٤	٤	٤

معلمة الكويت
صفوة
KuwaitTeacher.Com

خمسة

٥

أكـمـلـــي:

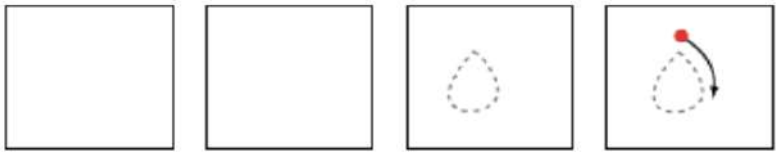

خَمْسَةٌ

اكتبي رمــز العدد ثم لـوني :

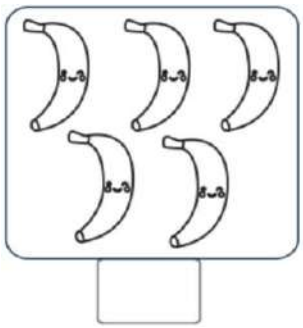

أكمـــلي :-

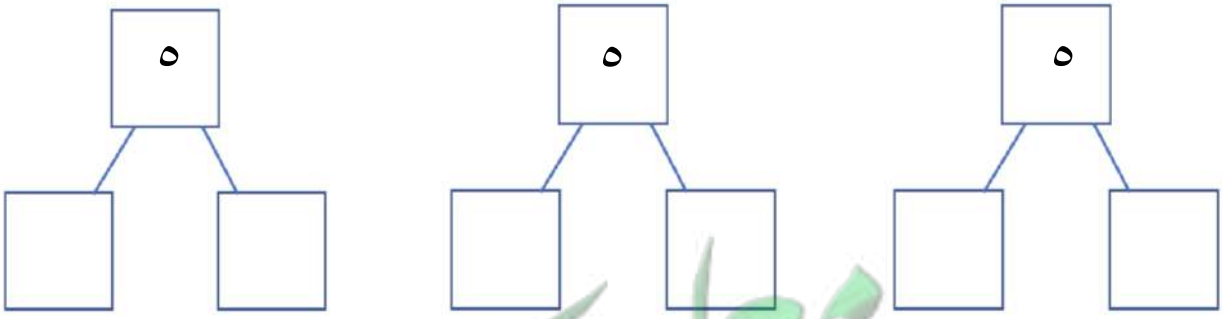

معلمة الكويت
صفوة
KuwaitTeacher.Com

اكتـــــبي رمـــز العدد :-

٥	٥	٥

معلمة الكويت
صفوة
KuwaitTeacher.Com

وزارة التربية
الإدارة العامة لمنطقة الجهراء التعليمية
مدرسة أم ورقة – إ - بنات

تدريبات الـوحدة الثالثـة
الأعداد الكلية من ٦ إلى ١٢
بما في ذلك الصفر(٠)

إعداد المعلمة :
أ / خلود الشمري

معلمي الكويت
KuwaitTeacher.Com

وزارة التربية
الادارة العامة لمنطقة الجهراء التعليمية
مدرسة ام ورقة الابتدائية / بنات

تمارين الوحدة الثالثة للصف الأول
للفصل الدراسي الأول
(٣-١): مقارنة الأعداد

صل لتقارن بين العددين بوضع > أو < أو = :



أكمل لتحصل على عبارة صحيحة:

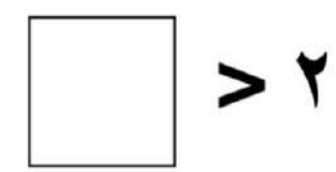

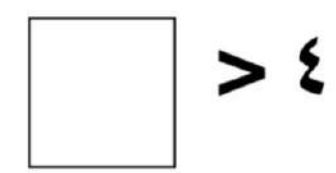

ارسم عناصر المجموعة الأخرى لتحقق العلاقة، اكمل:

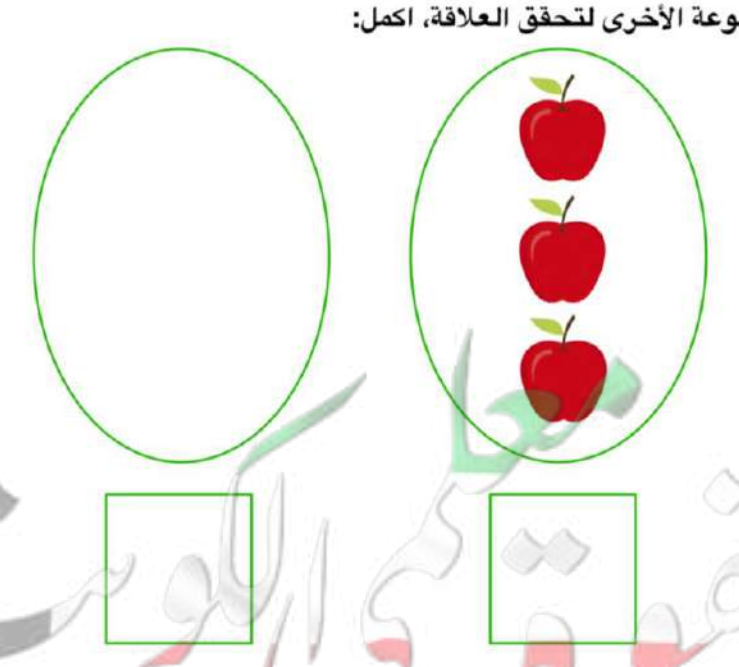

صفوة معلمي الكويت
KuwaitTeacher.Com

٦ ستة

٦ ٦ ٦ ٦ ٦

أكمل:

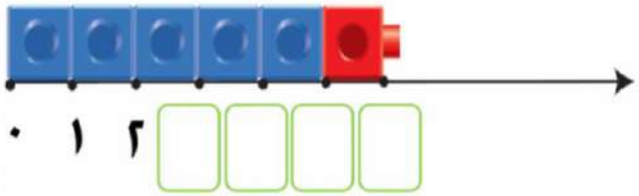

استكمل رسم العناصر بحسب العدد الموضح رمزه:



٦

معلمة الكويت
صفوة
KuwaitTeacher.Com

٦ ستة

اكتب رمز العدد:

٦	٦	٦
٦	٦	٦
٦	٦	٦

معلمة الكويت
صفوة
KuwaitTeacher.Com



٧ سبعة

٧ ٧ ٧ ٧ ٧

صل العدد (٧) بالمفهوم المناسب:

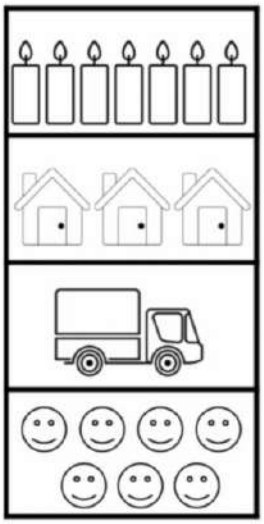

٧

اكمل:

صفوة معلمي الكويت
KuwaitTeacher.Com

٧ سبعة

اكتب رمز العدد:

٧	٧	٧
٧	٧	٧
٧	٧	٧

معلمة الكويت
صفوة الكويت
KuwaitTeacher.Com

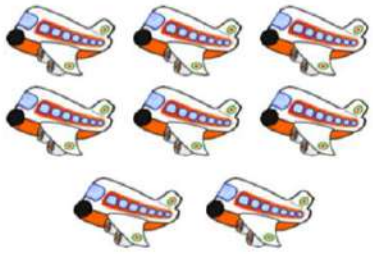

٨ ثمانية

٨ ٨ ٨ ٨ ٨

اكمل:



اكمل:

صفوة معلمي الكويت
KuwaitTeacher.Com

٨ ثمانية

اكتب رمز العدد:

٨	٨	٨
٨	٨	٨
٨	٨	٨

معلمتي في الكويت
KuwaitTeacher.Com

٩ تسعة

٩ ٩ ٩ ٩ ٩

اكمل:



استكمل رسم العناصر بحسب العدد الموضح رمزه:



معلمات الكويت
صفوة
KuwaitTeacher.Com

٩ تسعة

اكتب رمز العدد:

٩	٩	٩
٩	٩	٩
٩	٩	٩

معلمتي الكويت
صفوة
KuwaitTeacher.Com

٠ صفر

٠	٠	٠	٠	٠

اكمل:

قارن، اكتب رمز العلاقة المناسب > أو < أو = :

١ ○ ٠

٠ ○ ٧

٦ ○ ٠

معلمي الكويت
صفوة
KuwaitTeacher.Com

٠ صفر

اكتب رمز العدد:

٠	٠	٠
٠	٠	٠
٠	٠	٠

معلمي الكويت
صفوة
Kuwaitteacher.Com

١٠ عشرة

١٠ ١٠ ١٠ ١٠ ١٠

اكمل:



اكتب رمز العدد الممثل:

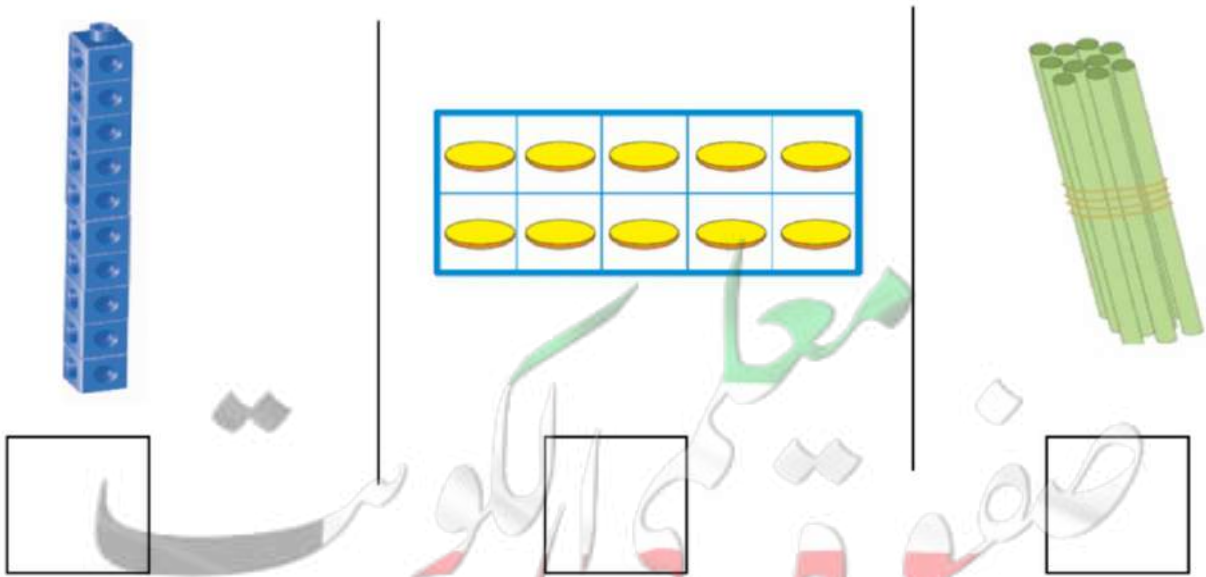

معلمي الكويت
صفوة
KuwaitTeacher.Com

١٠ عشرة

اكتب رمز العدد:

١٠	١٠	١٠
١٠	١٠	١٠
١٠	١٠	١٠

معلمة الكويت
KuwaitTeacher.Com

١١ أحد عشر

١١ ١١ ١١ ١١ ١١

اكمل:

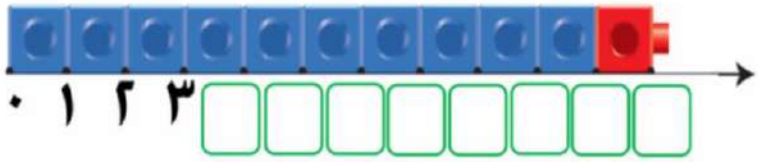

استكمل رسم العناصر بحسب العدد الموضح رمزه:



١١

صفوة المعلمات
KuwaitTeacher.Com

١١ أحد عشر

اكتب رمز العدد:

١١	١١	١١
١١	١١	١١
١١	١١	١١

معلمة الكويت
صفوة الكويت
KuwaitTeacher.Com

١٢ اثنا عشر

١٢ ١٢ ١٢ ١٢ ١٢

اكمل:



اكمل:

معلمتي صفوة الكويت
KuwaitTeacher.Com

١٢ اثنا عشر

اكتب رمز العدد:

١٢	١٢	١٢
١٢	١٢	١٢
١٢	١٢	١٢

معلمات صفوتي الكويت
KuwaitTeacher.Com

وزارة التربية
الإدارة العامة لمنطقة الجهراء التعليمية
مدرسة أم ورقة – إ - بنات

تدريبات الـوحدة الـرابعـة
الجمع و الطرح بالاعداد
١،٢،٣ بناتج لا يزيد على١٢

إعداد المعلمة :
أ / حبيبة الضامـن

معلمتي الكويتية
KuwaitTeacher.com

وزارة التربية
الإدارة العامة لمنطقة الجهراء التعليمية
مدرسة أم ورقة الإبتدائية بنات

درس (٤-١)
الجمع بالعدد ١

سؤال الأول : أكمل

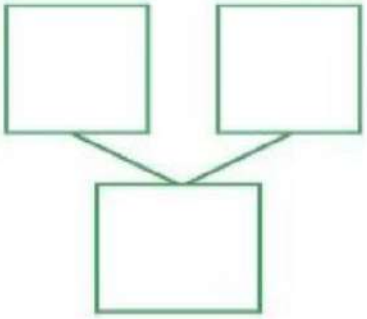

☐ و ☐ يكونان ☐

سؤال الثاني : اكتب عبارة الجمع

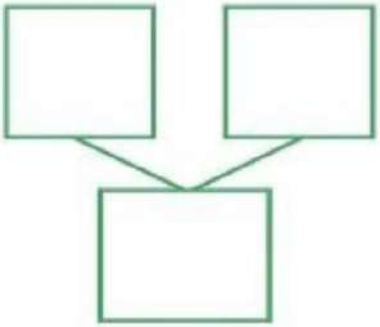

_____ + _____ = _____

سؤال الثالث : استخدام خط الاعداد . اجمع

٨ + ١ =

معلمة الكويت
صورة من الكويت
KuwaitTeacher.Com

وزارة التربية
الإدارة العامة لمنطقة الجهراء التعليمية
مدرسة أم ورقة الإبتدائية بنات

درس (٤-٢)
طرح بالعدد ١

سؤال الأول : اكتب عبارة الطرح

_____ - _____ = _____

سؤال الثاني : اشطب

٦ – ١ =

سؤال الثالث : استخدام خط الاعداد . ااطرح

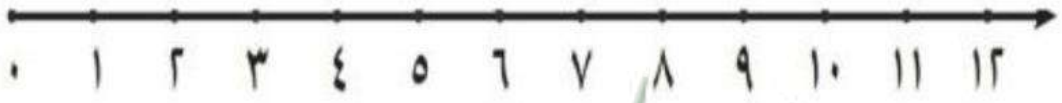

٧- ١ =

معلمي الكويت
صفوة
KuwaitTeacher.Com

وزارة التربية
الإدارة العامة لمنطقة الجهراء التعليمية
مدرسة أم ورقة الإبتدائية بنات

درس (٤-٣)
الجمع بالعدد ٢

سؤال الأول : أكمل

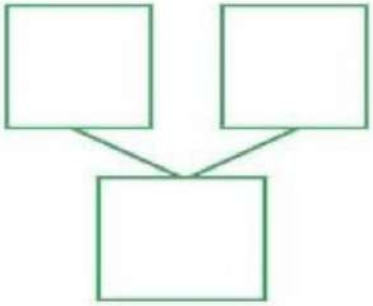

☐ و ☐ يكونان ☐

سؤال الثاني : اكتب عبارة الجمع

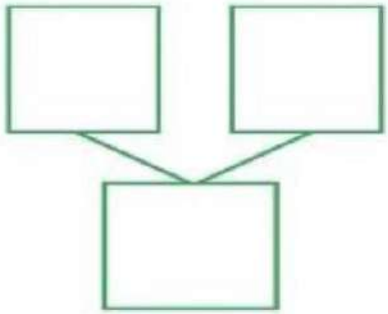



_____ + _____ = _____

سؤال الثالث : استخدام خط الاعداد . اجمع

٩ + ٢ =

معلمي الكويت
صفوة
KuwaitTeacher.Com

وزارة التربية
الإدارة العامة لمنطقة الجهراء العليمية
مدرسة أم ورقة الإبتدائية بنات

درس (٤-٤)
طرح بالعدد ٢

سؤال الأول : اكتب عبارة الطرح

_____ - _____ = _____

سؤال الثاني : اشطب

١٠ – ٢ =

سؤال الثالث : استخدام خط الاعداد . ااطرح

١٢-٢ =

معلمي الكويت
صفوة
KuwaitTeacher.Com

وزارة التربية

الإدارة العامة لمنطقة الجهراء التعليمية

مدرسة أم ورقة الإبتدائية بنات

درس (٤-٥)

الجمع بالعدد ٣

سؤال الأول : أكمل

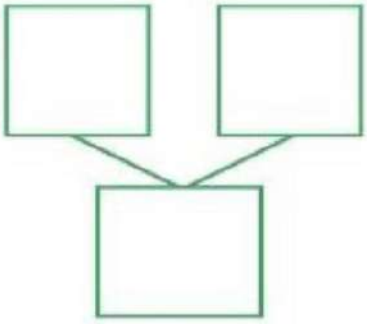

☐ و ☐ يكونان ☐

سؤال الثاني : اكتب عبارة الجمع

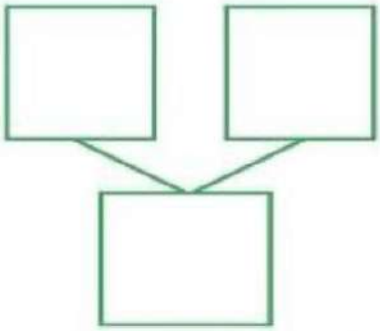

_____ + _____ = _____

سؤال الثالث : استخدام خط الاعداد . اجمع

٧ + ٣ =

معلمي الكويت
صفوة
KuwaitTeacher.Com

وزارة التربية
الإدارة العامة لمنطقة الجهراء التعليمية
مدرسة أم ورقة الإبتدائية بنات

درس (٤-٦)
طرح بالعدد ٣

سؤال الأول : اكتب عبارة الطرح



_____ - _____ = _____

سؤال الثاني : اشطب

٩ – ٣ =

سؤال الثالث : استخدام خط الاعداد . االطرح

١١ - ٣ =

معلمة الكويت
صورة
KuwaitTeacher.Com

وزارة التربية

الإدارة العامة لمنطقة الجهراء العليمية

مدرسة أم ورقة الإبتدائية بنات

درس (٤-٧)جمع \ طرح بالاعداد (١-٢-٣)

درس (٤-٨) حل المسائل

رسم صورة:

صلي عبارة الطرح بما يناسبها من عباره الجمع ذات الصلة

٧-٣=٤	٤+٢=٦
١٠-١=٩	٤+٣=٧
٦-٢=٤	٩+١=١٠

درس (٤-٨)

على الغصن ٥ طيور .انضم لها ٢ من الطيور

كم اصبح عدد الطيور ؟

_____ ☐ _____ = _____ طيور

على الشجرة ٧ برتقالات سقطت منها ٤ برتقالات

كم عدد البرتقالات المتبقية ؟

_____ ☐ _____ = _____ برتقالات

صفوة الكويت
KuwaitTeacher.Com

وزارة التربية
الإدارة العامة لمنطقة الجهراء العليمية
مدرسة أم ورقة الإبتدائية بنات

درس (٤-٩)

القاعدة

سؤال الأول : استخدام القاعده لتجمع

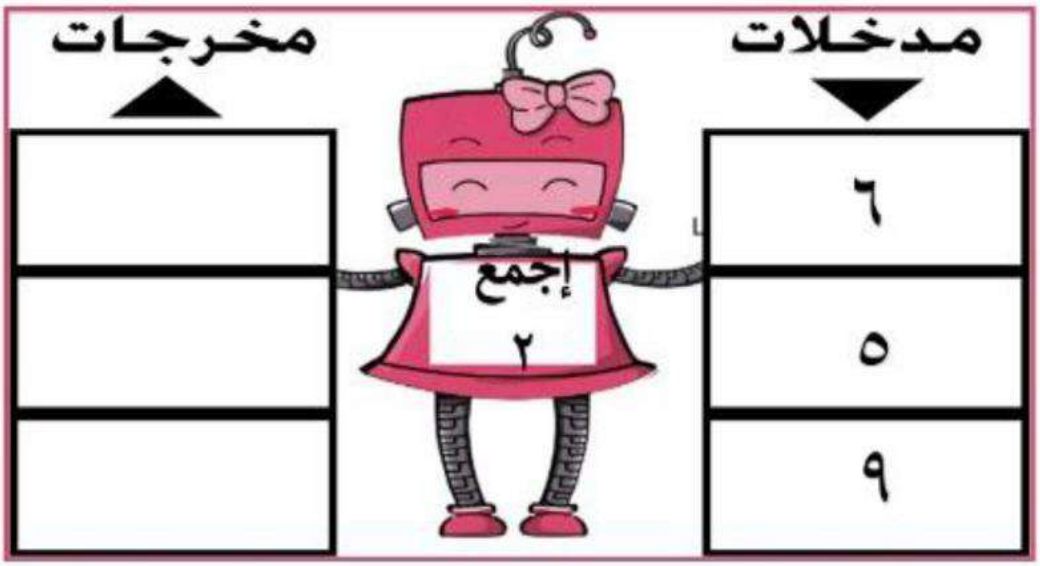

سؤال الثاني : استخدام القاعده لتطرح



KuwaitTeacher.Com

وزارة التربية
الإدارة العامة لمنطقة الجهراء التعليمية
مدرسة أم ورقة – إ - بنات

تدريبات الـوحدة الـخامسة
الجمع و الطرح بالعددين
٤، ٥ بناتج لا يزيد على ١٢

إعداد المعلمة :
أ / العنود الرشيدي

معلمي الكويت
KuwaitTeacher.Com

وزارة التربية
الإدارة العامة لمنطقة الجهراء التعليمية
مدرسة ام ورقة الإبتدائية بنات

ورقة عمل

(الوحدة الخامسة)

الجمع والطرح بالعددين ٤ ، ٥ بنواتج لا يزيد عن العدد ١٢

بند (٥-١): الجمع بالعدد ٤

(من صفحة ١١٣ إلى ١١٥)

س١: أكملِ مستعيناً بالصوره :

____ + ____ = ____

س٢: في الطبق ٦ ، وفي الطبق الثاني ٤
كم عدد كل الـ ؟

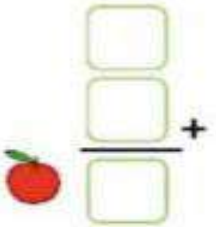

س٣: أكملِ :

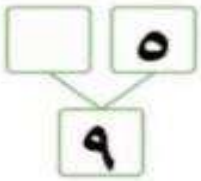

س٤: اجمع . بإمكانك استخدام عناصر :

أ) ٣+٤=____

ب)

٨
٤ +
____
□

بند (٥-٢) : طرح العدد ٤

(من صفحة ١١٦ إلى ١١٧)

س١: أكملِ مستعيناً بالصور :

أ)

____ - ____ = ____

ب)

____ - ____ = ____

س٢: اشطبِ ثم اطرحِ :

أ)

١١ - ٤=____

ب)

٧
٤ -
____
□

معلمتي
KuwaitTeacher.Com

وزارة التربية
الإدارة العامة لمنطقة الجهراء التعليمية
مدرسة ام ورقة الإبتدائية بنات

ورقعة عمل

(الوحدة الخامسة)

الجمع والطرح بالعددين ٤ ، ٥ بنواتج لا يزيد عن العدد ١٢

بند (٥-٣) : الجمع بالعدد ٥

(من صفحة ١١٨ إلى ١١٩)

س١: أكملِ مستعينةً بالصورة :

أ)

____ + ____ = ____

ب)

____ + ____ = ____

س٢: أكملِ :

أ)

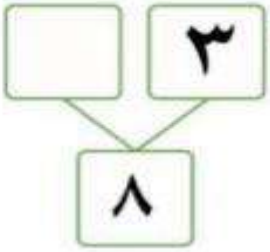

ب)

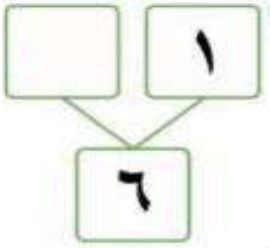

بند (٥-٤) طرح العدد ٥

(من صفحة ١٢٠ إلى ١٢١)

س١: أكملِ مستعينةً بالصوره :

أ)

____ - ____ = ____

ب)

____ - ____ = ____

س٢: اشطبِ ثم اطرحِ :

أ)

١١-٥ = ____

ب)

٨
٥ -
____

KuwaitTeacher.Com

وزارة التربية
الإدارة العامة لمنطقة الجهراء التعليمية
مدرسة أم ورقة – إ - بنات

تدريبات الـوحدة السادسـة
الجمع و الطرح بالعددين
٦،٧،٨،٩بناتج لا يزيدعلى ١٢

إعداد المعلمة :
أ / فـاطمة الشمري

معلمي الكويت
KuwaitTeacher.Com

وزارة التربية

الادارة العامة لمنطقة الجهراء التعليمية

مدرسة ام ورقة بنات . أ

ورقة عمل

الوحدة السادسة للصف الاول

عنوان الوحدة : الجمع والطرح بالاعداد ٦ – ٧ – ٨ – ٩ – ٠ بناتج لا يزيد عن العدد ١٢

بند (٦ – ١) : الجمع بالعدد ٦

استكمل رسم العناصر :-

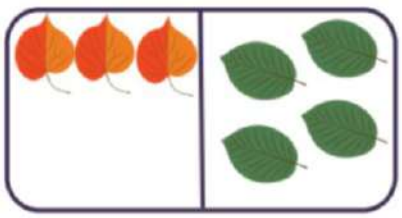

٤ + ٦ = ١٠



٥ + ٦ = ١١

اكمل :-

٣	١
+ ٦	+ ٦
☐	☐

بند (٦ –٢) : الطرح بالعدد ٦

اشطب ثم اطرح :-

١٢ – ٦ = ___

٨ – ٦ = ___

٩ – ٦ = ___

صفوف معلمات الكويت
KuwaitTeacher.Com

بند (٦ –٣) : الجمع بالعدد ٧

استكمل رسم العناصر :-

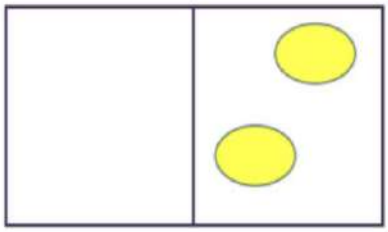

٢ + ٧ = ٩



٤ + ٧ = ١١



٣ + ٧ = ١٠

بند (٦ - ٤) : الطرح بالعدد ٧

اشطب ثم اطرح :-

٨ - ٧ = ___

٩ - ٧ = ___

١١ - ٧ = ___

٧ - ٧ = ___

KuwaitTeacher.Com

بند (٦ - ٥) : الجمع بالعدد ٨

استكمل رسم العناصر :-

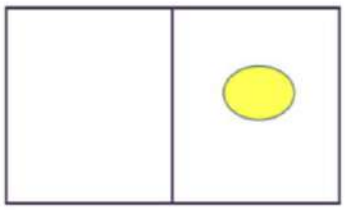

١ + ٨ = ٩

٤ + ٨ = ١٢



٢ + ٨ = ١٠

بند (٦ - ٦) : الطرح بالعدد ٨

اشطب ثم اطرح :-

١١ - ٨ = ____

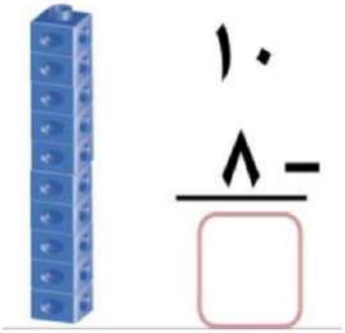

١٠

- ٨

____

١٠ - ٨ = ____

صفوة المعلمين
KuwaitTeacher.Com

بند (٦ - ٧) : الجمع بالعدد ٩

استكمل رسم العناصر :-

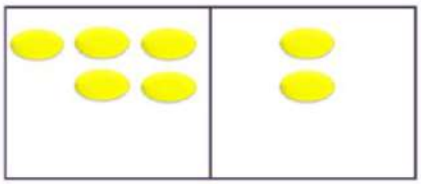

٩ + ٢ = ١١

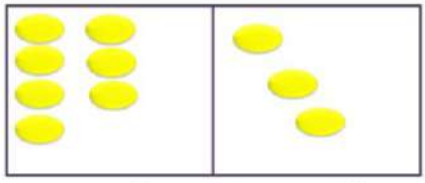

٩ + ٣ = ١٢

اكمل :-

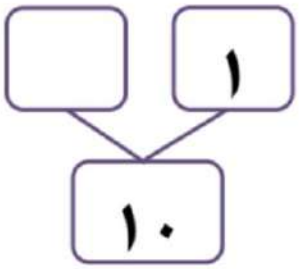

بند (٦ - ٨) : الطرح بالعدد ٩

اشطب ثم اطرح :-

١٢ - ٩ = ___

١٠
- ٩
___
□

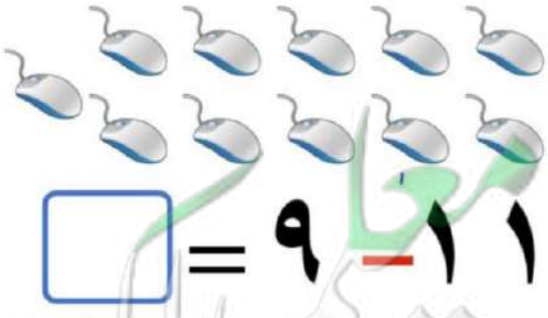

١١ - ٩ = □

مرحبا
صفوة الكويت
KuwaitTeacher.Com

بند (٦ - ٨) : الجمع والطرح بالعدد صفر

اشطب ثم اطرح :-

٨ - ٠ = ___



١٠ - ٠ = ☐

اوجد الناتج :-

٩	٨
- ٠	+ ٠
☐	☐

معلمي الكويت
صفوة
KuwaitTeacher.Com

وزارة التربية
الإدارة العامة لمنطقة الجهراء التعليمية
مدرسة أم ورقة – إ - بنات

مـــع تمنيات قسم الريـاضيات

لكن بالنجــاح و التوفـيق



معلمي الكويت
KuwaitTeacher.Com