
الزبدة
التاريخ
الكورس الأول
2024 - 2025
12
صفوة معلمي الكويت
UULA.COM

النهضة الأوروبية

إن مصطلح نهضة في أوروبا يدل على أن أوروبا كانت تعاني من تخلف في العصور الوسطى .

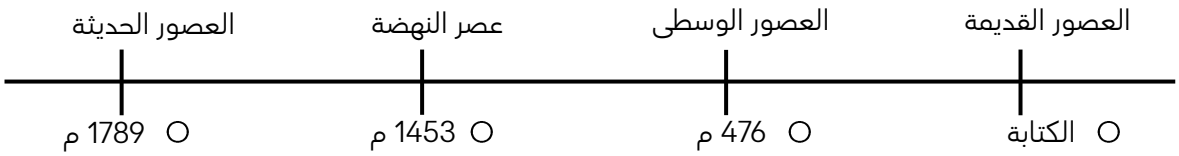

عرف - العصور الوسطى

- هي الفترة التي عاشت فيها أوروبا في جهل وتخلف وبدأت منذ سقوط روما على يد القبائل الجرمانية عام 476 م
- الفترة التي عاشت فيها أوروبا قبل سطوع شمس النهضة

عدد - سمات العصور الوسطى .

ممكن أن يأتي السؤال بصيغ أخرى: (علل عاشت أوروبا في العصور الوسطى في جهل وتخلف)
(فند العبارة التالية - عاشت أوروبا في العصور الوسطى في حالة من الازدهار) (دلل - عاش الناس في جهل وتخلف وحرموا من حرية التفكير والبحث العلمي)

- هيمنة الكنيسة الكاثوليكية على أوروبا روحياً وثقافياً
- ظهور النظام الإقطاعي
- الصراع الدائم بين البابوية والإمبراطورية

عرف - النظام الإقطاعي .

هو نظام تسبب في تقسيم المجتمع الأوروبي إلى مجتمع طبقي

عرف - النهضة الأوروبية .

هي الحركة التي انطلقت من إيطاليا إلى أنحاء أوروبا كافة بهدف إعادة اكتشاف أمجادها



حدد على خريطة العالم - الدولة التي انطلقت منها النهضة الأوروبية
(إيطاليا)

ما تفسيرك - اعتبر المؤرخون سقوط العاصمتين (روما والقسطنطينية) نقطتي تحول في التاريخ .

- سقوط روما على يد القبائل الجرمانية عام 476م بداية العصور الوسطى
- الفتح العثماني لمدينة القسطنطينية عاصمة الدولة البيزنطية عام 1453 م بداية عصر النهضة والعصور الحديثة

عرف - عصر النهضة .

الفترة من القرن الثالث عشر الميلادي إلى القرن السادس عشر الميلادي

اكتب المصطلح التاريخي الدال على العبارة - مرحلة انتقالية بين العصور الوسطى والعصور الحديثة .

(عصر النهضة)

صفوة معلمي الكويت

Q علل - تعتبر إيطاليا أسبق الدول الأوروبية إلى النهضة .

ممكن أن يأتي السؤال بصيغة أخرى: (دلل - أسبقية إيطاليا في حركة النهضة الأوروبية) (برهن - لعبت عوامل عدة في جعل إيطاليا نقطة انطلاق للنهضة الأوروبية)

- لعبت دور الوسيط التجاري بين موانئ البحر المتوسط
- وجود مركز البابوية فيها
- حلقة اتصال بين الشرق والغرب
- ماضي الإمبراطورية الرومانية

Q عدد - النتائج المترتبة على عصر النهضة الأوروبية في إيطاليا .

- الاستفادة من الحضارات المجاورة
- تشجيع الأدباء والفنانين لتحقيق أهداف الكنيسة
- الرغبة في استعادة أمجادها العظيمة
- تحقيق المكاسب الاقتصادية

عوامل قيام النهضة الأوروبية

Q عدد - عوامل قيام النهضة الأوروبية .

الحضارة الإسلامية ← إحياء الدراسات اليونانية القديمة ← نمو المدن الأوروبية

Q دلل على صحة العبارة التالية - ساهمت الحضارة الإسلامية بدور عظيم في قيام النهضة الأوروبية .

ممكن أن يأتي السؤال بصيغة أخرى: (فند - يرى بعض المستشرقين بأن دور الحضارة الإسلامية ليس له أي أهمية في قيام النهضة الأوروبية)

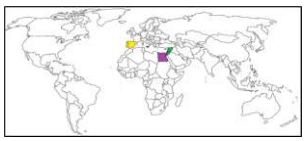

- أمدت أوروبا بالإنجازات العلمية والأدبية والفنية
- مراكز انتقال الحضارة الإسلامية إلى أوروبا (الأندلس - صقلية - الشام - مصر)

Q ماذا يحدث لو - لم يتم اتصال أوروبا بالعلماء المسلمين .

لما أمد المسلمون أوروبا بالإنجازات العلمية والأدبية والفنية

Q عرف - حركة إحياء الدراسات اليونانية القديمة .

هي الفترة التي امتدت من عام 1300م إلى عام 1500 م

Q برهن على صحة العبارة التالية - بذل المفكرون الأوروبيون جهداً كبيراً في إحياء الدراسات اليونانية القديمة .

ممكن أن يأتي السؤال في صيغ أخرى: (عدد - جهود المفكرين الأوروبيين في إحياء الدراسات اليونانية القديمة) - (فند - لم يبذل المفكرون الأوروبيون جهداً كبيراً في إحياء الدراسات اليونانية القديمة) - (ما دور - المفكرين الأوروبيين في إحياء الدراسات اليونانية القديمة)

- تبادل علماء القسطنطينية وإيطاليا الزيارات العلمية
- تنافس الأمراء والأثرياء في إنشاء المكتبات
- ظهور الأكاديميات العلمية
- جهود أسرتي آل مديتشي في فلورنسا وآل سوفرزا في ميلانو لرعاية الحركة العلمية
- اختراع أحرف الطباعة المعدنية على يد الألماني حنا جوتنبرج في الفترة (1396 - 1468 م)

لاحظ الصورة التالية ثم أجب عما يلي :



Q من هو صاحب الصورة **حنا جوتنبرج**

Q الإنجاز الذي قدمه مكبس الطباعة (أحرف الطباعة المعدنية)

Q نتائج هذا الاختراع ▪ سهولة طباعة الكتب ▪ نشر جهود العلماء

Q ماذا يحدث لو - لم يخترع حنا جوتنبرج أحرف الطباعة المعدنية

- صعوبة في طباعة الكتب
- صعوبة في نشر جهود العلماء

Q عدد - مراحل نمو المدن الأوروبية .

ممكن أن يأتي السؤال بصيغ أخرى: (علل - عادت المدن الأوروبية إلى الظهور مرة أخرى في أواخر العصور الوسطى) (دلل – هناك من يعتبر إن النهضة الأوروبية هي وليدة نمو المدن) - (دلل – تحقق للمدن الأوروبية النمو والازدهار في عصر النهضة)

- تحالف المدن الصغيرة في شكل كومونات
- إنشاء المدارس بعيداً عن سيطرة الأديرة
- ظهور الطبقة الوسطى البرجوازية

عرف ما يأتي :

Q الكومونات . هي تحالف المدن الصغيرة بعضها مع بعض مما يعطيها القوة والاستقلال

Q البرجوازية . هي الطبقة الوسطى التي تحالفت مع الملوك لتحطيم النظام الإقطاعي

المظاهر الأدبية

Q عدد - مظاهر النهضة الأوروبية .

- المظاهر الأدبية
- المظاهر الفنية
- المظاهر الدينية
- المظاهر السياسية

Q علل - ازدهار الناحية الأدبية في عصر النهضة .

ممكن أن يأتي السؤال بصيغة أخرى: (لخص كيف ساهم الأدب في عصر النهضة)

- الاهتمام بدراسة الإنسان باعتباره محور الحياة
- تخليص الإنسان من القيود التي كبلت وحطت من فكره في العصور الوسطى
- جهود الإنسانيين

Q عرف - الإنسانيين .

هم أدباء عبروا في كتاباتهم الأدبية عن صورة الإنسان الذي يتصف بالإبداع والثقة في النفس والمحب للحياة

Q عدد - أبرز أدباء عصر النهضة .

دانتي - بترارك - بوكاشيو -أرازموس

Q علل – يعتبر دانتي من أعظم شعراء إيطاليا

- قدرته الفائقة على الوصف والتحليل
- تفوق موسيقى شعره
- سمو أفكاره وحيوية خياله

Q عدد - أهم أعمال دانتي

- رواية الحياة الجديدة
- رواية الكوميديا الإلهية

أكمل العبارات التالية :

Q الشاعر العربي الذي تأثر به دانتي في رواية الكوميديا الإلهية يسمى **أبا العلاء المعري**

UULA
صفوة معلمي الكويت

Q الرسالة التي تأثر بها دانتي في رواية الكوميديا الإلهية تسمى ____ **الغفران**

Q القصة التي تأثر فيها الأديب دانتي في كتابة الكوميديا الإلهية تسمى ____ **المعراج**

المظاهر الفنية

Q عدد - أهم معالم الحركة الفنية في عصر النهضة .

☆ ممكن أن يأتي السؤال بصيغ أخرى: (علل - ازدهار الناحية الفنية في عصر النهضة) - (لخص كيف ساهم الفن في عصر النهضة) - (دلل - لعبت التغيرات التي صاحبت عصر النهضة دوراً كبيراً في تفجير الطاقات الفنية لدى الفنانين) - (فند - لم يطرأ أي تغيير على الحركة الفنية في عصر النهضة)

- حرص الفنانون على محاكاة الفنون القديمة
- أصبح الإنسان هو المحور الرئيسي الذي تدور حوله الأعمال الفنية
- وجد الفنانون التشجيع والدعم الفني والمعنوي

Q عدد - أبرز المجالات التي برز فيها الفنانون في عصر النهضة .

المجالات	العمارة	النحت	التصوير
الرواد	فيليو برونيلسكي 1377 - 1447 م	دوناتللو 1386 - 1466 م مايكل أنجلو 1464 - 1575 م	ليوناردوا دافنشي 1452 م - 1519 م رفائيل 1483 - 1520 م

Q اكتب فيما درست ما تعرفه عن دافنشي



☆ ممكن أن يأتي السؤال بصيغة أخرى: (علل - يطلق على دافنشي اسم عبقري النهضة)

- فنان متعدد المواهب
- نبغ في الرسم والنحت والمعمار والرياضة والهندسة
- اهتم بالأدب والموسيقى والشعر وعلم التشريح

Q عدد - أهم أعمال دافنشي



- لوحة العشاء الأخير
- لوحة الموناليزا أو الجيوكندة

Q عرف - الجيوكندة

☆ ممكن أن يأتي السؤال بصيغة أخرى: **اكتب مدلول الصورة**

هي لوحة الموناليزا

المظاهر الدينية

Q علل - قيام حركة الإصلاح الديني في أوروبا

☆ ممكن أن يظهر السؤال في صيغة اخرى: (عدد- أسباب قيام حركة الإصلاح الديني)

- التنبيه لأهمية إصلاح الكنيسة
- الرغبة في التقدم العلمي
- اهتمام أوروبا بالحياة الدنيوية
- ظهور الكثير من المصلحين الذين نادوا بإصلاح الكنيسة

© جميع الحقوق محفوظة

أكمل العبارات التالية:

- العام الميلادي الذي علق فيه مارتن لوثر احتجاجاته على باب الكنيسة هو **1517 م**
- الكنيسة التي علق عليها مارتن لوثر احتجاجاته تسمى **وتنبرج**
- عدد الحجج التي علقها مارتن لوثر على باب كنيسة وتنبرج **٩٥**

- عدد - مطالب مارتن لوثر

ممكن أن يأتي السؤال بصيغ أخرى: (ما - دور مارتن لوثر في حركة الإصلاح الديني)
فسر - على الرغم من أن مارتن لوثر لم يكن أول رجل ينادي بإصلاح الكنيسة فإن حركته أحدثت أكبر أثر في مجال الإصلاح الديني في أوروبا

- معارضة صكوك الغفران
- عارض الحج إلى روما
- رفض احتكار البابا لتفسير الكتاب المقدس
- السماح بزواج رجال الدين
- طلب إنقاص عدد الأديرة

- نفذ المطلوب مما بين القوسين :حركة الإصلاح الديني في أوروبا (النتائج)

ممكن أن يأتي السؤال بصيغة أخرى: **عدد**

- صراع كبير بين أتباع مارتن لوثر والكنيسة
- نبهت إلى تحرير الكنيسة من مفاسدها
- ثورات وحروب
- التخلص من هيمنة الكنيسة على حياة الناس في أوروبا

المظاهر السياسية



- أكمل: الصورة المقابلة لسياسي رسم ملامح الحياة السياسية لعصر النهضة يسمى **نيقولا ماكيافيللي**

- اكتب مما درست ما تعرفه عن نيقولا ماكيافللي

- عاش في مدينة فلورنسا بإيطاليا
- كان على درجة كبيرة من الثقافة
- تولى العديد من المناصب السياسية
- اشتغل سفيراً لحكومة فلورنسا في العديد من الدول الأوروبية
- ألف كتاب الأمير

- عدد - أراء نيقولا ماكيافللي

ممكن أن يأتي السؤال بصيغ أخرى: دلل- يعتبر كتاب الأمير مرجعاً هاماً في أمور الحكم والسياسة في أوروبا
فند - أيد كتاب الأمير لنيقولا ماكيافيللي المشاركة الشعبية في الحكم والسياسة

- تأييد نظام الحكم المطلق القائم على نظرية التفويض الإلهي
- إقرار مبدأ أن الغاية تبرر الوسيلة

عرف:

- نظرية التفويض الإلهي

الملوك يمثلون الله على الأرض ويستمدون سلطتهم من الله وليس من الشعب

- مبدأ الغاية تبرر الوسيلة

من حق الحاكم اتخاذ كل وسيلة تحقق استقرار حكمه حتى لوكان هذا يتعارض مع الدين أو الأخلاق

صفوة معلمي الكويت

الكشوف الجغرافية

Q اذكر أهم ما يميز تاريخ أوروبا خلال القرنين الخامس عشر والسادس عشر الميلادي

قيام حركة الكشوف الجغرافية

Q عرف - الكشوف الجغرافية

هي حركة قامت بها أوروبا خلال القرنين ١٥ ، ١٦ م للتعرف على أراضي جديدة لم تكن معروفة من قبل

Q علل - قيام حركة الكشوف الجغرافية

ممكن أن يأتي السؤال بصيغ أخرى: (اذكر- الدوافع وراء قيام حركة الكشوف الجغرافية)
نفذ المطلوب منك مما بين القوسين
كان لقيام حركة الكشوف الجغرافية واشتدادها بين الدول الأوروبية أسباب متعددة (عددها)

- الدافع الاقتصادي
- الدافع الديني
- نمو الروح القومية
- زيادة المعارف الجغرافية وتقدم مجال الملاحة

Q علل - يعتبر الدافع الاقتصادي أحد أهم أسباب حركة الكشوف الجغرافية

- البحث عن التوابل ومحاولة تخطي الوساطة التجارية الإسلامية
- حاجة أوروبا إلى الذهب والفضة (المجاعة النقدية)
- كثرة الحروب في أوروبا أدت إلى أزمات اقتصادية
- العثور على أراضي جديدة بسبب زيادة عدد السكان

Q نفذ المطلوب منك مما بين القوسين الكشوف الجغرافية (الدافع الديني)

ممكن أن يأتي السؤال بصيغة أخرى:
فند العبارة " لم يهتم المكتشفون الأوروبيون بنشر المسيحية في المناطق المكتشفة "

- رغبة الدول الأوروبية في نشر المسيحية بالمناطق المكتشفة
- محاولة تطويق العالم الإسلامي
- تقوية الممالك المسيحية

دلل على صحة العبارات التالية

Q نمو الروح القومية ساعدت أوروبا على القيام بالكشوف الجغرافية

- رغبة الدول الأوروبية القوية في السيطرة على شعوب الدول الضعيفة
- رغبة هذه الدول في التوسع وتكوين إمبراطوريات
- نشر نفوذها ومبادئها

Q "سيطرت على الأوروبيين في عصر النهضة رغبة قوية لزيادة معلوماتهم الجغرافية "

- ظهور روح البحث العلمي
- تقدم علم الفلك واستخدام البوصلة والاسطرلاب
- التوصل إلى بناء سفن عملاقة عرفت باسم الكرافيل

Q عرف - الكرافيل

هي سفن عملاقة تميزت بكبر حجمها وزيادة أشرعتها ولديها القدرة على المغامرة في وسط المحيطات .

UULA
صفوة معلمي الكويت

رحلات الكشوف البرتغالية

Q أكمل : الدولة الأولى في مجال حركة الكشوف الجغرافية في نهاية القرن الخامس عشر الميلادي هي **البرتغال**

Q علل - تعتبر البرتغال هي أول من قامت بحركة الكشوف الجغرافية

- توافر الأدوات اللازمة لديهم من علم وخبرة وسفن متطورة
- استقرار الوضع في بلادهم

Q عدد - أهم أعمال الأمير هنري الملاح

☆ ممكن أن يأتي السؤال بصيغة أخرى: دلل - للأمير هنري الملاح دور هام في حركة الكشوف الجغرافية

- أنشأ مدرسة بحرية
- اهتم برسم الخرائط
- أنشأ مرصد بحري
- جلب علماء الفلك والرياضيات من إيطاليا وصقلية
- استعان بالمسلمين الذين كانت لهم دراية في المجال البحري

Q عدد - نتائج رحلة هنري الملاح

☆ ممكن أن يظهر السؤال في صيغة اخرى: عدد - اهم اكتشافات البرتغاليين في عهد هنري الملاح

- اكتشاف جزر ماديرا
- جزر أزور
- رأس بوجادور
- وصول الرحلات إلى ساحل جامبيا والسنغال

الرحلة الثانية : رحلة بارثلميودياز (١٤٨٦ م)

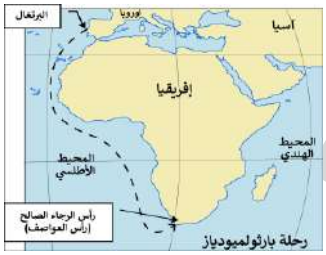

Q دلل - حققت الكشوف الجغرافية البرتغالية في عهد الملك جون الثاني نصراً عظيماً

- الوصول إلى الساحل الجنوبي لقارة أفريقيا في عام ١٤٨٨ م بقيادة بارثلميوديز
- اكتشاف طريق رأس الرجاء الصالح

الرحلة الثالثة : رحلة فاسكودي جاما

اختر الإجابة الصحيحة :

Q الفترة الزمنية لرحلة فاسكودي جاما هي :

- ○ **(1497 م - 1499 م)**
- ○ (1499 م - 1501 م)
- ○ (1501 م - 1503 م)
- ○ (1503 م - 1505 م)

Q الملك البرتغالي الذي خرجت في عهده رحلة فاسكو دي جاما

- ○ جون الأول
- ○ جون الثاني
- ○ **مانويل الأول**

Q خرجت رحلة فاسكو دي جاما في 8 يوليو عام :

- ○ **1497 م**
- ○ 1498 م
- ○ 1499 م

Q عدد السفن في رحلة فاسكو دي جاما

- ○ ثلاث سفن
- ○ **أربع سفن**
- ○ خمس سفن
- ○ ست سفن

صفوة معلمي الكويت

Q المدينة التي خرجت منها رحلة فاسكو دي جاما تسمى :

○ **لشبونة** ○ بورتو ○ براغا ○ أمادورا

Q عدد- نتائج رحلة فاسكو دي جاما

ممكن أن يظهر السؤال في صيغة اخرى: فند - لم تحقق رحلة فاسكو دي جاما نتائج إيجابية للبرتغال

- حقق أمل البرتغال في كشف طريق مباشر في الوصول إلى الهند
- أصبحت البرتغال في مركز متقدم في منطقة المحيط الهندي

رحلات الكشوف الإسبانية

Q أكمل - الدولة الثانية في حركة الكشوف الجغرافية هي **إسبانيا**

Q ما هي أوجه الاختلاف بين الكشوف البرتغالية والكشوف الاسبانية من حيث الجهة

الكشوف البرتغالية	الكشوف الإسبانية
الشرق	الغرب

علل لما يلي

Q رفض ملك البرتغال مشروع كولمبس

بناء على توصية مستشاريه الذين رأوا أنه لا ضرورة للبحث عن طرق جديدة

Q اتجه كولمبس إلى إسبانيا وقدم مشروعه إلى الملك فرديناند والملكة إيزابيلا ولكنها رفضت للمرة الأولى

ممكن أن يأتي السؤال بصيغة أخرى: علل رفض الملكة إيزابيلا مشروع كولمبس للمرة الأولى

لأنها كانت مشغولة بالحرب مع المسلمين في الأندلس

Q عدد - المشاكل التي واجهت مشروع كولمبس

- رفض ملك البرتغال مشروع كولمبس
- رفض ملوك إسبانيا فرديناند وإيزابيلا مشروع كولمبس للمرة الأولى

Q قارن بين رحلات كولمبس حسب الجدول التالي :

ممكن أن يأتي السؤال بصيغة أخرى: **عدد**

وجه المقارنة	الرحلة الأولى	الرحلة الثانية
السنة	1492 م	1493 م
النتائج	▪ اكتشاف جزر الأنتيل الكبرى والصغرى ▪ وصل إلى كوبا ▪ الإبحار إلى جزيرة هايتي	▪ اكتشف جزر الدومنيكا ▪ سانت كروز ▪ بورتوركو ▪ أبحر إلى الساحل الجنوبي لكوبا ▪ اكتشاف الساحل الشمالي لجاميكا

UULA
صفوة تعلمي الكويت

أكمل العبارات التالية :

- البحار الإيطالي الذي اكتشف جزر الأنتيل الكبرى والصغرى يسمى ____كولمبس____
- الاسم الذي أطلق على جزيرتي الأنتيل الكبرى والصغرى هو ____سان سلفادور____
- العام الميلادي الذي أبحر فيه كولمبس إلى جزيرة هايتي هو ____1492م____

- قارن بين رحلات كولمبس حسب الجدول التالي :

وجه المقارنة	الرحلة الثالثة	الرحلة الرابعة
السنة	1498 م	1502 م
النتائج	▪ وصل إلى جزيرة ترينداد ▪ اتجه إلى ساحل فنزويلا ▪ شاهد اندفاع كميات من المياه تندفع من خليج مصب نهر أورنيكو	▪ وصل إلى ساحل أمريكا الوسطى

رحلة أمريكو فسبوتشي

- اكتب فيما درست ما تعرفه عن أمريكو فسبوتشي
  - إيطالي من فلورنسا
  - ولد عام 1451 م
  - أصبح مدرساً لعلم الفلك والجغرافيا والملاحة

- عدد - النتائج المترتبة على رحلات أمريكو فسبو تشي
  - اكتشاف ساحل المكسيك
  - جزر الساحل الشرقي للولايات المتحدة
  - ساحل أمريكا الجنوبية
  - الوصول إلى البرازيل

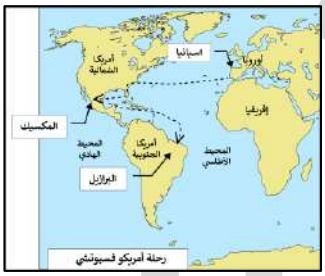

- علل - تسمية العالم الجديد باسم أمريكا

  نسبة إلى أمريكو فسبو تشي

- أكمل : أطلق على العالم الجديد الذي وصل إليه أمريكو فسبوتشي اسم ____أمريكا____

- ما هي أوجه الشبه بين كل من كولمبس وأمريكو فسبوتشي
  - كلاهما مكتشفين وملاحان
  - كلاهما إيطاليان
  - كلاهما وصل إلى العالم الجديد

رحلة فرديناند ماجلان



- اكتب مدلول الصورة المقابلة ____الرحالة ماجلان____

صفوة معلمي الكويت

Q اختياري : الفترة الزمنية التي تمثل رحلة فرديناند ماجلان تحمل على المخطط الزمني الحرف :

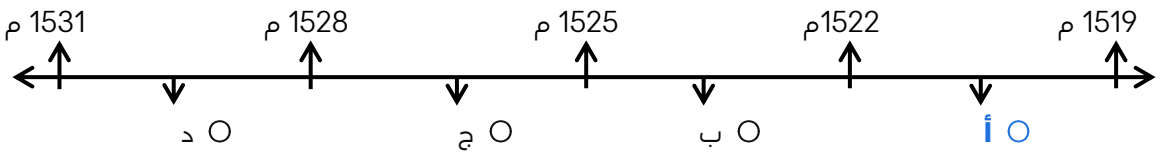

أكمل العبارات التالية :

Q الإمبراطور الإسباني الذي كلف ماجلان بالبحث عن طريق يؤدي إلى الهند مباشرة يسمى **شارل الخامس**

Q المدينة الإسبانية التي خرجت منها رحلة ماجلان تسمى **إشبيلية**

Q خرج ماجلان من إشبيلية في 18 أكتوبر عام **1519 م**

Q الميناء الذي أبحرت منه رحلة ماجلان يسمى **سان لوكار**

Q بعد خروج ماجلان من ميناء سان لوكار اتجه إلى الجنوب حتى وصل إلى ساحل البرازيل و **سان جوليان**

Q القارة التي طاف حول شاطئها الشرقي فرديناند ماجلان هي **أمريكا الجنوبية**

Q ممر مائي يفصل بين الطرف الجنوبي لأمريكا الجنوبية وجزيرة أرض النار يسمى **مضيق ماجلان**

Q الجزيرة التي يفصل مضيق ماجلان بينها وبين أمريكا الجنوبية تسمى **أرض النار**

Q المسطح المائي الذي عبر إليه ماجلان بعد عبوره مضيق ماجلان يسمى **المحيط الهادي**

Q وصل فرديناند ماجلان إلى جزر الفلبين واكتشف جزيرة تسمى **ساما**

Q قتل ماجلان في نزاع مع سكان إحدى جزر الفلبين في 27 إبريل عام **1521 م**

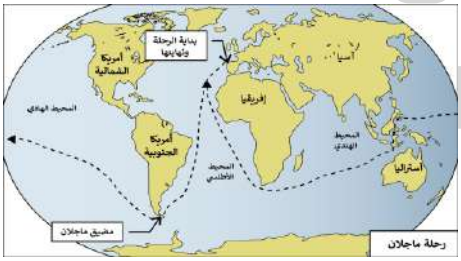

Q علل - أهمية رحلة ماجلان

☆ ممكن أن يأتي السؤال بصيغة أخرى: عدد - نتائج رحلة ماجلان

- اكتشاف مضيق ماجلان
- جزيرة ساما
- محيط سماه بالهادي

أكمل العبارات التالية :

Q الملاح الذي تولي قيادة الرحلة بعد مقتل ماجلان في الفلبين يسمى **جون سباستيان ديلكانو**

Q الدولة التي قتل فيها ماجلان تسمى **الفلبين**

Q علل - تسمية الفلبين بهذا الاسم تكريماً للملك فيليب الثاني ابن شارل الخامس الذي قد تولى العرش

الكشوف الإنجليزية

Q عدد - رحلات الكشوف الإنجليزية في الكشوف الجغرافية

- رحلة جون كابوت
- رحلة مارتن فروبشير
- رحلة جون ديفيز
- رحلة هنري هدسون
- رحلة جيمس كوك

أكمل العبارات التالية :

Q الدولة التي ينتمي إليها جون كابوت هي **إيطاليا**

UULA.COM © جميع الحقوق محفوظة

Q مدينة إيطالية نزح منها جون كابوت إلى إنجلترا تسمى ____ **البندقية**

Q الملك الإنجليزي الذي وصل في عهده جون كابوت إلى إنجلترا يسمى ____ **هنري السابع**

اختر الإجابة الصحيحة :

Q خرج جون كابوت على رأس بعثة لاكتشاف أقاليم جديدة في عام :

○ 1495 م ○ **1496م** ○ 1497 م ○ 1498 م

Q الملك الإنجليزي الذي خرجت في عهده رحلة جون كابوت :

○ جيمس الثاني ○ **هنري السابع** ○ وليم الثالث ○ شارل الثاني

Q الميناء الذي خرجت منه رحلة جون كابوت :

○ **بريستول** ○ ليفربول ○ سان لوكار ○ لندن

Q عدد - النتائج المترتبة على رحلة جون كابوت



☆ ممكن أن يأتي السؤال بصيغة أخرى:
اكتب دور جون كابوت في الكشوف الإنجليزية - اختياري - أكمل

- اكتشف جزيرة نيوفوندلند
- شبه جزيرة لبرادور
- الشاطئ الشرقي لأمريكا الشمالية حتى فلوريدا

Q ما هي أوجه الشبه بين كل من كولمبس وجون كابوت

- كلاهما مكتشفين وملاحان
- كلاهما وصل إلى العالم الجديد
- كلاهما إيطاليان

الرحلة الثانية : مارتن فروبشير

Q اختياري: الفترة الزمنية التي تمثل رحلة المكتشف مارتن فروبشير تحمل على المخطط الزمني الحرف

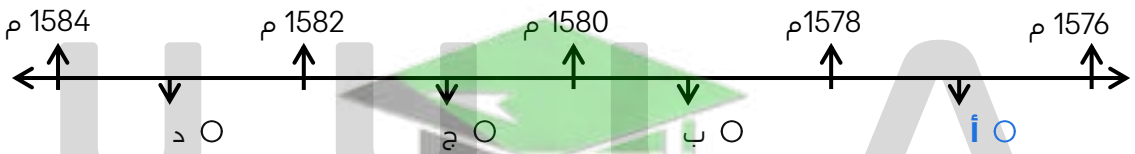

Q عدد - النتائج المترتبة على رحلات مارتن فروبشير

☆ ممكن أن يأتي السؤال بصيغة أخرى: اكتب دور مارتن فروبشير في حركة الكشوف الجغرافية - اختياري - أكمل - حدد

- وصل إلى جزيرة شتلند
- وصل إلى جزيرة جرينلند
- اكتشاف مضيق هدسن

الرحلة الثالثة : جون ديفيز

Q الفترة الزمنية التي تمثل رحلة المكتشف جون ديفيز تحمل على المخطط الزمني الحرف





عدد - نتائج رحلة جون ديفيز

- وصل إلى مضيق جلبرت
- اتجه إلى شمال مضيق كمبرلند
- أبحر شمال غرب إلى مضيق ديفيز
- وصل إلى خط عرض 72 شمالاً

الرحلة الرابعة : هنري هدسن

أكمل العبارات التالية :

العام الميلادي الذي أبحر فيه هدسون إلى مضيق يقع في الشمال الشرقي من كندا **1610 م**

خليج كان يظن هنري هدسون بأنه المحيط الهادي ولكنه في الواقع خليج ضخم يعرف حالياً باسم **خليج هدسون**

عرف - خليج جيمس هو ذراع من خليج هدسون

فسر - تسمية النهر الكبير بنهر هدسون تكريماً لهنري هدسون

أكمل العبارات التالية :

النهر الكبير يطلق عليه اسم **نهر هدسون**

المدينة العملاقة التي تقع على مصب نهر هدسون تسمى **نيويورك**

اكتب دور هنري هدسن في الكشوف الجغرافية الإنجليزية

- خليج هدسون
- خليج جيمس
- نهر هدسون

الرحلة الخامسة : جيمس كوك

اختر الإجابة الصحيحة

الفترة الزمنية لرحلات جيمس كوك تحمل على المخطط الزمني الحرف :



أكمل العبارات التالية :

الجهة التي اختارت جيمس كوك للعمل في خدمة الأميرالية الإنجليزية تسمى **الجمعية الملكية**

العام الميلادي الذي تم فيه اختيار جيمس كوك للعمل في خدمة الأميرالية الإنجليزية **1768م**

عدد الرحلات التي أنجزها جيمس كوك خلال القرن الثامن عشر الميلادي **3 رحلات**

اختياري : عدد الرحلات الاستكشافية الإنجليزية في القرن الثامن عشر :

○ **ثلاث رحلات** ○ أربع رحلات ○ خمس رحلات ○ ست رحلات

عدد -النتائج المترتبة على رحلات جيمس كوك

الرحلة الأولى 1768 م - 1771 م

- الوصول إلى نيوزيلندا
- الساحل الشرقي لقارة أستراليا

UULA.COM
© جميع الحقوق محفوظة

Q الرحلة الثانية 1772م - 1775 م :

- اخترق مياه القطب الجنوبي المتجمد
- الثلج منعه من رؤية القارة القطبية الجنوبية

Q فسر - عدم رؤية جيمس كوك لقارة أنتاركتيكا (القارة القطبية الجنوبية)

لأن الثلج وقف عقبه في طريقه ومنعه من رؤية القارة

Q الرحلة الثالثة 1776 م :

- وصل إلى جزر هاواي
- وصل إلى المحيط المتجمد الشمالي

الكشوف الفرنسية

أكمل العبارات التالية :

☆ ممكن أن يأتي السؤال بصيغة أخرى: **حدد على الخريطة**

Q الكشوف التي كانت متأخرة عن البرتغال وإسبانيا وإنجلترا تسمى **الكشوف الفرنسية**

Q الدولة التي أرسلت رحلات كشفية لقارة أمريكا الشمالية خلال القرن السادس عشر هي **فرنسا**

Q من أهم رحلات الكشوف الفرنسية في القرن السادس عشر الميلادي تسمى **رحلات جاك كارتييه**

Q عدد الرحلات التي قام بها جاك كارتييه **أربع رحلات**

Q الملك الذي خرجت في عهده رحلات جاك كارتييه يسمى **فرانسيس الأول**

Q اتجه جاك كارتييه غرباً نحو العالم الجديد في 2 أبريل عام **1534 م**

Q الميناء الذي أبحر منه جاك كارتييه يسمى **سانت مالو**

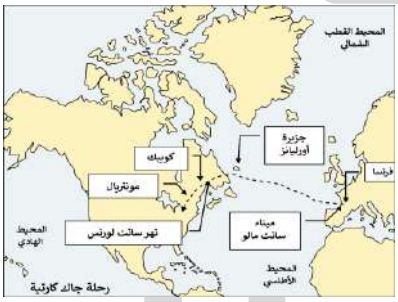

Q عدد - النتائج المترتبة على رحلات جاك كارتييه

- اكتشف كندا
- وصل إلى منطقة مونتريال
- نهر سانت لورنس
- أسس مدينة كويبك على نهر سانت لورنس
- جزيرة أورليانز

Q دلل - مبادرة فرنسا في إنشاء إمبراطورية فرنسية في أمريكا الشمالية

- الوصول إلى (ما وراء نهر سانت لورانس) مونتريال
- نجاح جاك كارتييه في تأسيس مدينة كويبك على نهر سانت لورانس

Q اكتب فقرة تاريخية مترابطة في حدود ثلاثة أسطر مستعينا بالكلمات الآتية
(جاك كارتييه - سانت مالو - كندا - سانت لورنس- كويبك)

قام جاك كارتييه بأربع رحلات في عهد الملك فرانسيس الأول حيث أبحر من ميناء سانت مالو عبر المحيط الأطلسي نحو أمريكا الشمالية فاكتشف كندا ونهر سانت لورنس وجزيرة أورليانز ووصل إلى ما وراء نهر سانت لورنس وهي منطقة حالياً تسمى مونتريال وتأسيس مدينة كويبك على نهر سانت لورنس

رحلات الكشوف للقطب الشمالي والجنوبي

Q أكمل : بدأت اكتشافات المنطقة القطبية الشمالية في عام **1771م**

Q دلل - ساهمت مجموعة من المكتشفين في اكتشافات المنطقة القطبية الشمالية

- صمويل هيرن 1789م
- ألكسندر ماكينزي 1792م - 1793 م
- جون فرانكلين 1845م - 1847 م
- روبرت ماكلور 1850 م - 1854 م
- روالد أموندسن 1903 م - 1906 م
- روبرت بيري 1909 م

Q اكتب دور المكتشفين التاليين في مجال الكشوف الجغرافية

صمويل هيرن :
- اكتشف الأرض الواقعة بين خليج هدسن ونهر كوبر ماين
- قام بأول حملة استكشافية له في كندا منطلقا من بحيرة أتاباسكا والهدف إيجاد طريق نحو المحيط الهادي

جون فرانكلين :
بحث عن الممر الشمالي الغربي من خلال متاهة الجزر التي تقع شمال البر الرئيسي الكندي

روالد أموندسن:
أبحر من خلال متاهة الجزر ووصل إلى المحيط الهادي

الكسندر ماكنزي :
- اكتشف نهر ماكينزي
- نهر بيس
- بحيرة سليف الكبرى

روبرت ماكلور :
قاد الحملة الاستكشافية الأولى لعبور ممر الشمال الغربي لأمريكا الشمالية

روبرت بيري :
تمكن من الوصول إلى القطب الشمالي

أكمل العبارات التالية :



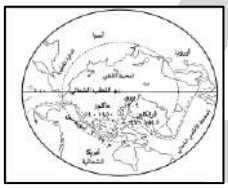

Q الصورة المقابلة لمكتشف يسمى **ألكسندر ماكينزي**

Q الخريطة المقابلة تمثل **اكتشاف القطب الشمالي**

Q دلل - ساهم مجموعة من المكتشفين في اكتشاف القطب الجنوبي وقارة أنتاركتيكا

- تشارلز ويلكز 1840م : قطع مسافة طويلة على طول ساحل قارة أنتاركتيكا و أثبت أنها كتلة ضخمة مغطاة بالثلج
- روالد أموندسن 1911 م : الوصول إلى القطب الجنوبي

Q عرف - قارة أنتاركتيكا **هي قارة غير آهلة بالسكان**

Q أكمل : الخريطة المقابلة تمثل **اكتشاف القطب الجنوبي وقارة أنتاركتيكا**

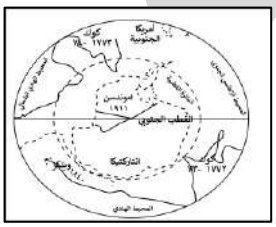

نتائج الرحلات والكشوف الجغرافية

Q عدد - النتائج السياسية لحركة الكشوف الجغرافية

- تكوين دول وإمبراطوريات كبرى استعمارية
- تأسيس مراكز تجارية ساحلية والاستيطان بها

Q دلل - أدت الكشوف الجغرافية إلى تكوين إمبراطوريات كبرى استعمارية

- إسبانيا : احتلت أمريكا الوسطى وأجزاء مهمة من أمريكا الجنوبية وجزر الفلبين
- البرتغال : احتلت البرازيل ومراكز تجارية على السواحل الأفريقية وسواحل الهند والخليج العربي

Q عدد - النتائج الاقتصادية للكشوف الجغرافية

☆ ممكن أن يأتي السؤال بصيغ أخرى: دلل على صحة العبارة
« إن العلاقة التي تمت بين أوروبا والقارات الأخرى كانت ذات نتائج عظيمة في الاقتصاد العالمي »

- تحول طرق التجارة العالمية بين أوروبا وآسيا فقد ضعفت مكانة البحر المتوسط تجارياً
- تدفقت الثروات على أوروبا من البضائع والمعادن الثمينة
- نتيجة لتوفير البضائع والمال وازدياد النشاط التجاري الاقتصادي قامت صناعات جديدة
- ظهور البورصات المالية

Q عدد - النتائج الدينية لحركة الكشوف الجغرافية

☆ ممكن أن يأتي السؤال بصيغة أخرى: فند - لم تترك حركة الكشوف الجغرافية أي نتائج دينية اكتب - النتائج الدينية للكشوف الجغرافية

- حاولت الدول المكتشفة نشر دينها في البلاد التي اكتشفتها
- التبشير بالمسيحية على المذهب الكاثوليكي

Q نفذ المطلوب منك مما بين القوسين
الكشوف الجغرافية (النتائج العلمية والثقافية والفكرية)

- أدى الاتصال بين أوروبا والقارات الأخرى إلى إنماء المعرفة وتقدم بعض العلوم
- تصحيح بعض المعلومات الجغرافية
- اتساع مجال البحوث التاريخية
- اختفاء بعض معالم الحضارات الوطنية القديمة لبعض الشعوب المكتشفة
- في علم الفلك ظهرت لعلماء الفلك مجموعة نجوم لم يتمكنوا من رصدها إلا من النصف الجنوبي من الكرة الأرضية

دلل على صحة العبارة

Q أدى الاتصال بين أوروبا والقارات الأخرى إلى تقدم علم الجغرافيا

- تصحيح بعض المعلومات الجغرافية
- انقلاب جذري في المبادئ الأساسية التي يقوم عليها علم الجغرافيا
- القضاء على الأفكار التي كانت سائدة عن الأرض وحجمها وشكلها وقاراتها ومحيطاتها

Q أدى الاتصال بين أوروبا والقارات الأخرى إلى تقدم علم التاريخ

- اتساع مجال البحوث التاريخية
- علم التاريخ لم يعد قاصراً على العالم القديم بل شمل البلاد التي اكتشفت

Q فرق بين كل مما يلي حسب الجدول

نظرية العالم اليوناني بطليموس	نظرية العالم البولندي نيكولاس كوبرنيكوس
الأرض هي محور الكون	الشمس هي محور الكون

UULA.COM
© جميع الحقوق محفوظة

عدد - النتائج الاجتماعية لحركة الكشوف الجغرافية

ممكن أن يأتي السؤال بصيغ أخرى: دلل – أحدثت حركة الكشوف الجغرافية تغيرات اجتماعية فند – لم تكن هناك آثار بالغة الأهمية للكشوف الجغرافية في حياة أوروبا والعالم الجديد من الناحية الاجتماعية

- اعتمدت على سياسة إبادة السكان الأصليين
- ظهور الطبقة الرأسمالية
- جلب العبيد من أفريقيا وظهور تجارة الرق

الاستعمار الأوروبي



عرف المفاهيم التالية :

الاستعمار

تسيطر دولة ما بالاتفاقيات السياسية أو القوة العسكرية أو القوة الاقتصادية أو المال أو التفوق العلمي على دولة أو عدة دول لاستغلال مواردها وثرواتها لصالحها

الاستعمار الأوروبي

استغلال دولة قوية لدولة أخرى ضعيفة بهدف السيطرة على مواردها الاقتصادية أو الانتفاع من موقعها الاستراتيجي أو من قوة الأيدي العاملة

عدد - عوامل قيام النظام الاستعماري الأوروبي

- العامل الاقتصادي
- العامل الاستراتيجي
- العامل السكاني
- العامل الديني والثقافي

نفذ المطلوب منك مما بين القوسين

الاستعمار الأوروبي (العامل الاقتصادي)

- رغبة الدول الأوروبية الاستعمارية في الحصول على المواد الأولية والأيدي العاملة الرخيصة
- تصريف المنتجات الصناعية الأوروبية في أسواق المستعمرات
- العمل على استثمار أموالهم في المستعمرات

الاستعمار الأوروبي (العامل الاستراتيجي)

- استغلال المواقع الاستراتيجية لإقامة المحطات التجارية والقواعد العسكرية
- حماية خطوط المواصلات البحرية
- توفير خدمات للسفن التجارية

الاستعمار الأوروبي (العامل السكاني)

- الثورة الصناعية ساعدت على الزيادة السكانية
- تحسن الخدمات الطبية ساعد على الزيادة السكانية الطبيعية في أوروبا
- زيادة عدد السكان في أوروبا أدى إلى اتباع سياسة التهجير
- العمل على تجنيد سكان المستعمرات لصالح الدول الاستعمارية

عرف - سياسة التهجير هجرة أعداد كثيرة من سكان أوروبا إلى أقاليم المستعمرات

الاستعمار الأوروبي (العامل الديني والثقافي)

- ادعاء الدول الأوروبية بأن من واجبها نقل الحضارة الأوروبية للشعوب المتخلفة
- نشر الدين المسيحي عن طريق الإرساليات التبشيرية
- قيام الاستعمار بتشويه صورة الدول المستعمرة وبخاصة المستشرقون الذين شوهوا صورة الإسلام

أشكال الاستعمار

عدد - أشكال الاستعمار

- الغزو العسكري
- الاستيطان
- المعاهدات والاتفاقيات الخاصة
- التفويض من المنظمات الدولية
- التمييز العنصري

عرف - الغزو العسكري: الاحتلال بالقوة العسكرية

دلل - دول تعرضت للاستعمار بشكل الغزو العسكري

- احتلال فرنسا للجزائر عام 1830 م
- احتلال إنجلترا لمصر عام 1882 م

لاحظ خريطة العالم ثم نفذ المطلوب منك :

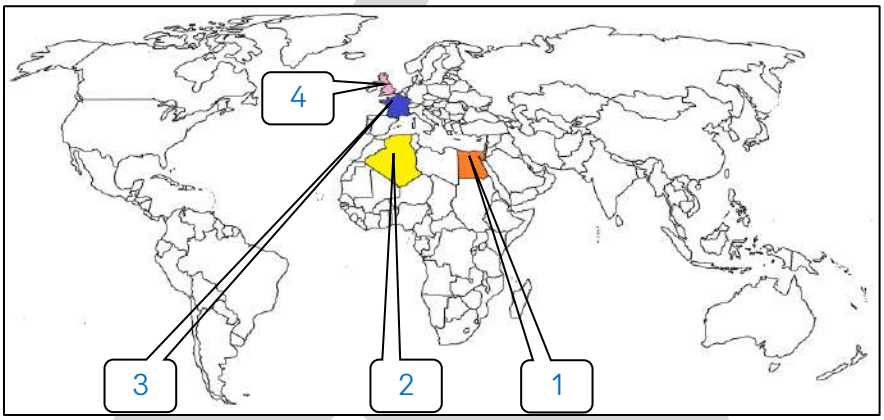

الدولة التي قامت بغزو الجزائر عام 1830 م تحمل على الخريطة الرقم: 3

الدولة التي تعرضت للاحتلال بالقوة العسكرية عام 1882 م تحمل على الخريطة الرقم: 1

الدولة التي قامت باحتلال مصر عام 1882 م تحمل على الخريطة الرقم: 4

الدولة العربية التي تعرضت للاحتلال بالقوة العسكرية عام 1830 م تحمل على الخريطة الرقم: 2

عرف - الاستيطان

هجرة مجموعة من سكان دولة أجنبية قوية إلى دولة ضعيفة بهدف تملك الأرض وطرد السكان المحليين

دلل - تعرضت دول للاحتلال بشكل الاستيطان

- هجرة الأوروبيين للعالم الجديد وطرد الهنود الحمر
- الغزو الصهيوني لفلسطين
- هجرة الأوروبيين لأستراليا وطرد السكان الأصليين

عرف - المعاهدات والاتفاقيات الخاصة

عقد معاهدة حماية بين دولة أوروبية والدولة الضعيفة تحت ستار من الحجج والأسباب

اضرب أمثلة للمعاهدات والاتفاقيات الخاصة

- حماية إنجلترا لمنطقة الخليج العربي
- حماية فرنسا لكل من تونس ومراكش

قارن بين كل من حسب الجدول التالي :

ممكن أن يأتي السؤال بصيغة أخرى: عدد أشكال التفويض من المنظمات الدولية

وجه المقارنة	الانتداب	الوصاية
التعريف	ظهر بعد الحرب العالمية الأولى وينص على انتداب الدول المنتصرة على إدارة شؤون الدول المهزومة بحجة التطور والاستقلال	ظهر بعد الحرب العالمية الثانية وينص على وضع المناطق التي كانت تحت النفوذ الألماني والإيطالي والياباني تحت اختيار دولة من الأمم المتحدة
أمثلة	▪ سوريا ولبنان تحت الانتداب الفرنسي ▪ فلسطين والأردن تحت الانتداب البريطاني	▪ الصومال تحت الوصاية الإيطالية ▪ إقليم ناميبيا تحت وصاية اتحاد جنوب أفريقيا

عرف - التمييز العنصري

أسلوب استعماري قائم على التفرقة بين الناس في اللون والدين والجنس
مثال : جنوب أفريقيا - ممارسات الصهاينة في فلسطين

الاستعمار البرتغالي

أكمل - أول شعب أوروبي قام بتأسيس إمبراطورية استعمارية فيما وراء البحار هم ___البرتغاليون___

عدد - مناطق النفوذ الاستعماري البرتغالي

ممكن أن يأتي السؤال بصيغة أخرى: اكتب - عن مرحلة تأسيس الإمبراطورية البرتغالية

- احتل البرتغال في المحيط الأطلسي (جزر ماديرا / الخالدات / (آزور)/ جزر الرأس الأخضر / مراكز على شاطئ غينيا)
- احتلوا مراكز قوية على الشاطئ الشرقي لأفريقيا
- ووصل البرتغاليون في الشرق إلى الشاطئ الغربي للهند في عام 1498 م
- وفي مداخل البحر الأحمر احتل البحار البرتغالي البوكيرك جزيرة سوقطرة 1506 م ومسقط ثم هرمز في عام 1507 م
- احتل جوا في عام 1510 م وجعلها عاصمة للإمبراطورية البرتغالية في الشرق
- اتجهوا نحو مالقة وجزر الملوك حتى وصلوا الصين عام 1516 م
- وفي الغرب وصلوا إلى البرازيل في عام 1500 م

عدد - العوامل التي ساعدت البرتغاليين في تأسيس الإمبراطورية

ممكن أن يأتي السؤال بصيغة أخرى: علل نجاح البرتغال في احتكار تجارة الشرق

- انشغال الدولة العثمانية بحربها مع الصفويين
- عدم توحيد القوى الإسلامية الكبرى (الدولة العثمانية - الصفوية - المملوكية)
- تفكك بلاد الهند
- استخدام البرتغاليون سلاح البارود والأساطيل الضخمة

UULA
صفوة معلمي الكويت

Q علل- انهيار الإمبراطورية البرتغالية في الشرق

ممكن أن يأتي السؤال بصيغة أخرى: دلل - انهيار الإمبراطورية البرتغالية في أواخر القرن السادس عشر ميلادي

- سوء إدارة المستعمرات وانتشار الرشوة
- قسوة البرتغاليين في معاملة السكان الأصليين وإجبارهم على اعتناق المسيحية
- السلطة كانت في يد نائب الملك في جوا ولقصر مدة حكمه كان يقوم بابتزاز الأموال وعدم الاعتناء بالمستعمرة
- منافسة الهولنديين والإنجليز للبرتغاليين في مجال الاستعمار
- فقدت البرتغال استقلالها وضمت للتاج الإسباني في عهد فيليب الثاني عام 1580 م ولمدة 60 عام

الاستعمار الإسباني

Q الدولة الثانية في مجال الاستعمار الأوروبي هي **إسبانيا**

Q اكتب فيما درست - كيف تأسست الإمبراطورية الاسبانية

- اتجه الإسبان في الكشوف الجغرافية نحو الغرب حيث جزر الهند الغربية والأمريكيتين
- اهتموا بالبحث عن الذهب والفضة في جزر الأنتيل
- كانت كوبا مقراً للاستعمار الإسباني
- احتلوا فلوريدا
- سيطروا على جواتيمالا وسلفادور وهندوراس وبنما وبيرو في النصف الأول من القرن السادس عشر
- أصبحت معظم أمريكا الجنوبية تحت سيطرة الإسبان ماعدا البرازيل
- في الشرق بسطوا نفوذهم على الفلبين

أكمل العبارات التالية :

Q جزر اهتم فيها الإسبان بالبحث عن الذهب والفضة تسمى **الأنتيل**

Q دولة كانت مقراً للاستعمار الإسباني تسمى **كوبا**

Q الدولة التي يوجد بها حضارتا الآزتك والماياس تسمى **المكسيك**

Q الدولة التي يوجد بها حضارة الأنكا تسمى **بيرو**

Q فسر - تسمية الفلبين بهذا الاسم نسبة إلى فيليب ابن ملك إسبانيا

Q دلل على صحة العبارة التالية - سياسة الإسبان في مستعمراتهم

ممكن أن يأتي السؤال بصيغ أخرى: عدد - سياسة الإسبان في مستعمراتهم

- التبشير بالدين المسيحي
- فتح الجامعات
- المعاملة القاسية للسكان
- إبادة الشعوب الأصلية
- الاستعانة بالزنوج من أفريقيا للعمل في المناجم والمزارع

علل لما يلي

Q انهيار الإمبراطورية الإسبانية

ممكن أن يأتي السؤال بصيغة أخرى: فند - استمرت الإمبراطورية الإسبانية لفترات طويلة ولم تسقط

- استبداد الإسبان والمعاملة السيئة للشعوب الأصلية
- استغلال المستعمرات لمصلحة إسبانيا والملك
- تدفق الثروات على إسبانيا حرض القراصنة الإنجليز والهولنديين والفرنسيين بالسطو على السفن الإسبانية
- تحطم الأسطول الإسباني - الأرمادا على يد الإنجليز عام 1588 م

Q ضعف القوة البحرية الإسبانية في الربع الأخير من القرن السادس عشر

بسبب تحطم الأسطول الإسباني الأرمادا على يد الإنجليز في عام 1588 م

Q عرف - الأرمادا هو الأسطول الإسباني الذي تحطم على يد الإنجليز

Q فرق بين كل من :

أسباب انهيار الإمبراطورية البرتغالية	أسباب انهيار الإمبراطورية الاسبانية
▪ سوء إدارة المستعمرات وانتشار الرشوة ▪ قسوة البرتغاليين في معاملة السكان الأصليين وإجبارهم على اعتناق المسيحية ▪ منافسة الهولنديين والإنجليز للبرتغاليين في مجال الاستعمار	▪ استبداد الإسبان والمعاملة السيئة للشعوب الأصلية ▪ استغلال المستعمرات لمصلحة إسبانيا والملك ▪ تحطم الأسطول الإسباني - الأرمادا على يد الإنجليز عام 1588 م

الاستعمار الهولندي

أكمل العبارات التالية :

Q الإمبراطور الإسباني الذي ورث هولندا في القرن السادس عشر يسمى **شارل الخامس**

Q الإمبراطور الإسباني الذي سمح للهولنديين بالتجارة في المستعمرات الإسبانية يسمى **شارل الخامس**

Q المذهب الذي اعتنقه الهولنديون مع ظهور حركة الإصلاح الديني يسمى **البروتستانتي**

Q العام الميلادي الذي حصلت فيه هولندا على استقلالها هو **1579 م**



Q عدد - النتائج المترتبة على اعتناق هولندا المذهب البروتستانتي

- تعرضوا للاضطهاد من قبل الإسبان
- قاموا بالثورة ضد الحكم الإسباني
- حصول هولندا على استقلالها عام 1579 م

Q فسر - قيام الثورة الهولندية ضد الحكم الإسباني بسبب اعتناق الهولنديون المذهب البروتستانتي

Q عدد - العوامل التي ساعدت على تفوق الهولنديين في نشاطهم البحري

- تحطيم الأسطول الإسباني الأرمادا
- استطاع الهولنديين تدمير أسطول الإسبان عام 1607 م
- ضم جميع الشركات فيما وراء البحار في شركة الهند الشرقية الهولندية عام 1602 م

Q اكتب عن جهود الهولنديين في تأسيس امبراطوريتهم في بداية ق16 م

- إنشاء شركة الهند الشرقية الهولندية 1602 م
- مهاجمة المستعمرات البرتغالية في الهند وسيلان
- احتكار تجارة القرفة
- إنشاء العديد من المحطات على الساحل الغربي للهند
- نزلوا في مخا باليمن ونقلوا منها البن إلى أوروبا عام 1616 م
- تمكنوا من التجارة داخل الخليج العربي
- إنشاء محطة لهم في بندر عباس وأخرى في رأس الرجاء الصالح عام 1652 م

UULA.COM
© جميع الحقوق محفوظة

Q ما تفسيرك للحدث التالي : بالرغم من قوة الاستعمار الهولندي فإنه انهار أمام القوى الأوروبية الأخرى

ممكن أن يأتي السؤال بصيغة أخرى: علل لم تعمر الإمبراطورية الهولندية لفترات طويلة

- هولندا أمة صغيرة غير قادرة على حماية الإمبراطورية
- الهولنديون كان اعتمادهم على التجارة فأهملوا الزراعة والصناعة
- السياسة الاستبدادية في المستعمرات
- منافسة الدول الأوروبية لها مثل إنجلترا وفرنسا

Q ما هي أوجه الشبه بين كل من عوامل انهيار الإمبراطورية الهولندية والإمبراطورية البرتغالية

- السياسة الاستبدادية والمعاملة السيئة للسكان
- منافسة الإنجليز للإمبراطوريتين
- سوء الإدارة

الاستعمار الفرنسي و الاستعمار الإنجليزي

أكمل العبارات التالية :

Q توسع الاستعمار الفرنسي في القرن 16 على جبهتين هما أمريكا الشمالية و **الهند**

Q العام الميلادي الذي تأسست فيه شركة الهند الشرقية الفرنسية **1664 م**

Q الملك الفرنسي الذي شجع على تأسيس شركة الهند الشرقية الفرنسية يسمى **لويس 14**

Q ما دور الشخصية التالية : لويس الرابع عشر

قامت شركة الهند الشرقية الفرنسية عام 1664 م بتشجيع منه وبرأس مال من خزانة الدولة

عدد لما يلي

Q المناطق التي نجح الاستعمار الفرنسي باحتلالها عام 1701 م

- بوندشيري
- شندر ناجور
- سورات
- كاليكوت

Q العوامل التي ساعدت الفرنسيين في نجاحهم بالهند

ممكن أن يأتي السؤال بصيغة أخرى: علل - نجاح فرنسا في إقليم الكرناتك

- اضمحلال النفوذ الهولندي
- انقسام الهند السياسي

Q أكمل الجدول الناقص

حرب السنين السبع	
السنة	1756 م - 1763 م
الأطراف	إنجلترا × فرنسا
النتائج	انفراد إنجلترا بكل من الهند وأمريكا الشمالية على حساب فرنسا

أكمل العبارات التالية :

Q الميناء الذي أبحر منه الملاحون الإنجليز في القرن السادس عشر يسمى : **بريستول**

Q الملاح الذي وصل إلى العالم الجديد وشبه جزيرة لبرادور يسمى **جون كابوت**

اختر الإجابة الصحيحة :

Q الملكة التي تم في عهدها تأسيس مستعمرة فرجينيا :

○ **إليزابيث** ○ ماري الثانية ○ فيكتوريا

Q العام الميلادي الذي تم فيه تأسيس مستعمرة فرجينيا :

○ 1605 م ○ 1606 م ○ **1607 م** ○ 1608 م

Q عدد المستعمرات الإنجليزية على الساحل الشرقي لأمريكا الشمالية :

○ إحدى عشرة مستعمرة ○ اثنتا عشرة مستعمرة
○ **ثلاث عشرة مستعمرة** ○ أربع عشرة مستعمرة

Q الساحل الذي تأسست عليه المستعمرات الإنجليزية يسمى :

○ الساحل الشرقي للهند ○ الساحل الغربي للهند
○ الساحل الشرقي لآسيا ○ **الساحل الشرقي لأمريكا الشمالية**

Q عدد - المناطق التي اتجه إليها الإنجليز في أمريكا الوسطى

- هندوراس
- جامايكا

Q دلل -ركز الإنجليز اهتمامهم على الهند

- نظراً لثرواتها الاقتصادية
- نجحوا في تأسيس مراكز لهم في سورات عام 1612 م
- تأسيس مركز مدراس في الهند

الاستعمار الروسي وآثار الاستعمار

أكمل العبارات التالية :

Q الاستعمار الذي اخترق قارة آسيا من الوسط للوصول إلى المحيط الهادي شرقاً يسمى **الاستعمار الروسي**

Q وصل الاستعمار الروسي إلى المحيط الهادي شرقاً في القرن **السادس عشر**

Q عدد - المناطق التي بسط فيه الاستعمار الروسي نفوذه



- الأراضي التي تقع إلى الشرق من جبال أورال
- إخضاع سيبيريا
- وصلوا إلى أطراف الصين من جهة الشمال الشرقي

Q أكمل : الاستعمار الذي اشتهر بتجارة الفراء يسمى **الاستعمار الروسي**

Q حدد على خريطة العالم - الدولة الاستعمارية التي اشتهرت في العمل بتجارة الفراء **(روسيا)**

Q فرق بين كل مما يلي :

احتياجات أوروبا قديماً	احتياجات أوروبا حديثاً
التوابل المعادن النفيسة	السلع الاستهلاكية مثل السكر والشاي والقهوة والكاكاو والتبغ

Q عرف - الميثاق الاستعماري

إن المستعمرة يجب عليها ألا تتاجر مع أي دولة إلا مع البلد المستعمر

Q قارن بين آثار الاستعمار

☆ ممكن أن يأتي السؤال بصيغ أخرى: دلل- للاستعمار آثار إيجابية وآثار سلبية
فند – للاستعمار آثار إيجابية فقط - دلل – للاستعمار آثار إيجابية - دلل – للاستعمار آثار سلبية

الآثار الإيجابية	الآثار السلبية
▪ التنمية الاقتصادية للمستعمرات ▪ إدخال طرق الزراعة والصناعة والعلوم الطبية الغربية ▪ ربط المستعمرات بالنظام الاقتصادي العالمي ▪ إدخال النظام الديمقراطي في الحكم	▪ استغلال المستعمرات ▪ إلزام المستعمرات بإنتاج المواد الخام وشراء السلع المصنعة ▪ حطم المستعمرون الأنشطة التجارية والصناعية في المستعمرات ▪ فرض ثقافتهم على الشعوب المُستعمرة

الثورة الصناعية

عرف المفاهيم الآتية

Q الثورة تغير كبير وسريع في المجتمع كله أو في جانب معين منه

Q الثورة الصناعية

عملية تغيير شامل في أدوات الإنتاج ووسائله وحجمه وعلاقاته ومستواه وتبدل في أساليب التمويل والتسويق والتوزيع

Q لخص أحوال أوروبا الاقتصادية قبل قيام الثورة الصناعية

- الزراعة هي المحور الأساسي للدخل القومي لمعظم دول أوروبا
- غالبية السكان يعملون معتمدين على طاقتهم العضلية
- الحركة التجارية محدودة ومفككة

Q أكمل : المحور الأساسي للدخل القومي في أوروبا قبل الثورة الصناعية يسمى **الزراعة**

Q عدد - العوامل التي ساعدت إنجلترا على القيام بالثورة الصناعية

☆ ممكن أن يأتي السؤال بصيغ أخرى: علل – قيام الثورة الصناعية في إنجلترا
فند – لم تمتلك إنجلترا أيا من المقومات لقيام الثورة الصناعية

- الاستقرار الداخلي
- وفرة رأس المال
- سهولة الحصول على المواد الخام
- وجود القوى المحركة
- الأيدي العاملة الرخيصة
- تشجيع العلماء والمخترعين
- وجود أسطول تجاري كبير

Q أكمل : العام الميلادي الذي قامت فيه الثورة المجيدة **1689 م**

Q دلل على صحة العبارة "السياسة والاقتصاد وجهان لعملة واحدة "

- الاستقرار الداخلي في إنجلترا مهد لنجاح الاقتصاد الإنجليزي وازدهاره
- حرص الحكومة الإنجليزية وأصحاب رؤوس الأموال على دعم جهود العلماء والمخترعين

مظاهر الثورة الصناعية

عدد - أبرز العلماء الذين ساهموا في إحداث الثورة الصناعية في مجال المنسوجات

- جون كي
- جيمس هارجر يفز
- ريتشارد أر كرايت

دلل على صحة العبارة التالية " أحدثت الثورة الصناعية تغيرات كبيرة في مجال المنسوجات "

- في عام 1733 م اخترع العالم جون كي المكوك الطائر الذي أدى إلى زيادة سرعة النسيج
- في عام 1764 م اخترع جيمس هارجر يفز آلة يدوية للغزل والتي أدت إلى غزل ثمانية خيوط
- في عام 1769 م قام العالم ريتشارد أر كرايت باختراع الإطار المائي لكي يستخدم قوة الماء في عملية الغزل

اكتب مدلول الصور التالية



المكوك الطائر للمخترع جون كي



آلة يدوية للغزل للمخترع جيمس هارجر يفز

عدد - أبرز العلماء الذين ساهموا في إحداث الثورة الصناعية في مجال صناعة الآلات

- توماس نيوكمان
- جيمس وات

دلل على صحة العبارة التالية " أحدثت الثورة الصناعية تغيرات كبيرة في مجال صناعة الآلات "

☆ ممكن أن يأتي السؤال بصيغة أخرى: فند- لم تسهم الثورة الصناعية بأي اختراعات في مجال الآلات

- في عام 1712 م قام توماس نيو كمان باختراع المضخة البخارية الكابسة لإدارة الآلات بقوة البخار
- في عام 1765 م اخترع جيمس وات المضخة البخارية الدائرية الحركة لإدارة آلات الغزل والنسيج

أكمل : صاحب تحضير الفولاذ من الحديد يسمى **هنري بسمر**

اذكر - نتيجة اختراع هنري بسمر إنتاج آلات من الصلب

عدد - أبرز العلماء الذين ساهموا في الثورة الصناعية في مجال النقل

- روبرت فولتن
- جورج ستيفنسن
- نيقولاس أوتو
- ديملر وبنز
- رودلف ديزل

دلل على صحة العبارة التالية " أحدثت الثورة الصناعية تغيرات كبيرة في مجال النقل والمواصلات "

- في عام 1807 م اخترع روبرت فولتن السفن البخارية لتسيير السفن التجارية البخارية
- في عام 1814 م اخترع جورج ستيفنسن القاطرة البخارية وذلك لبداية سير السكك الحديدية
- نيقولاس أوتو في عام 1876 م اخترع محرك رباعي الأشواط لتطوير السيارات
- في عام 1885 م قام ديملر وبنز باختراع سيارة البنزين لإنتاج سيارة البنزين الأولى
- قام رودلف ديزل في عام 1892 م باختراع محرك الاحتراق الداخلي ليستخدم الديزل كوقود للسيارات

Q دلل على صحة العبارة التالية " أحدثت الثورة الصناعية تغيرات كبيرة في مجال الطيران "

- اختراع بلانشارد المنطاد عام 1785 م لعبور القنال الإنجليزي
- قيام الأخوان رايت باختراع طائرة ذات محرك بنزيني عام 1903م لتطوير عالم الطيران

Q اكتب نتيجة اختراع المنطاد عبور القنال الإنجليزي

Q عدد - أبرز العلماء الذين ساهموا في الثورة الصناعية في مجال الكهرباء

- اليساندرو فولتا
- مايكل فاراداي
- توماس إديسون

Q دلل على صحة العبارة التالية " أحدثت الثورة الصناعية تغيرات كبيرة في مجال الكهرباء "

- اختراع البطارية الكهربائية على يد فولتا عام 1799م لتوليد تيار كهربائي ثابت
- اختراع مايكل فاراداي الدينمو عام 1831 م لاستخدام الطاقة الميكانيكية لتوليد طاقة كهربائية
- اختراع توماس إديسون المصباح الكهربائي عام 1877 م لاستخدام الكهرباء في الإضاءة

Q عدد - أبرز العلماء الذين ساهموا في الثورة الصناعية في مجال الاتصال والمواصلات

- صمويل موريس
- وليم ماركوني
- جراهام بل

Q دلل على صحة العبارة التالية " أحدثت الثورة الصناعية تغيرات كبيرة في مجال الاتصالات"

- اختراع صمويل موريس التلغراف الكهربائي عام 1837 م لإرسال الرسائل التلغرافية
- في عام 1896 م اخترع وليم ماركوني اللاسلكي - الراديو لبث الإشارات والأصوات
- قيام جراهام بل باختراع الهاتف عام 1876 م للاتصالات الهاتفية

Q اكتب مدلول الصور التالية

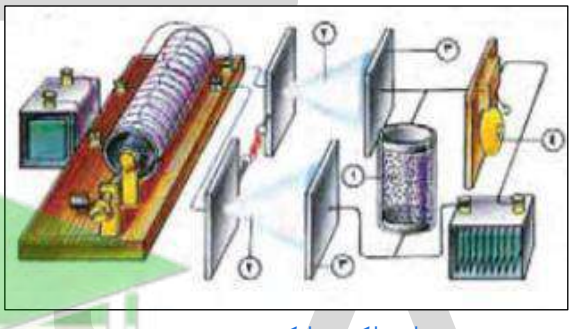

لاسلكي ماركوني

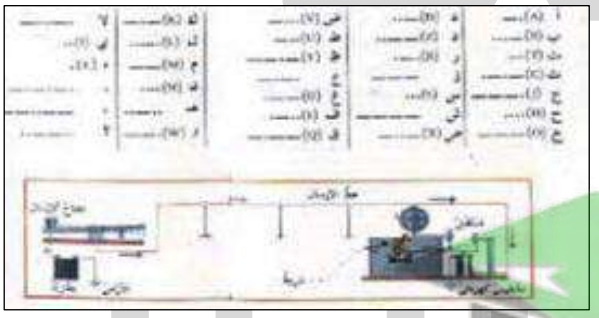

تلغراف صمويل موريس

نتائج الثورة الصناعية

Q عدد - نتائج الثورة الصناعية

- نتائج اقتصادية
- نتائج سياسية
- نتائج اجتماعية

صفوة معلمي الكويت

نفذ المطلوب منك مما بين القوسين
الثورة الصناعية (النتائج الاقتصادية)

ممكن أن يأتي السؤال بصيغة أخرى: برهن - أحدثت الثورة الصناعية تغيرات في أوروبا من الناحية الاقتصادية

- قيام المصانع الكبيرة
- انتعاش النشاط الاقتصادي
- اتساع النشاط التجاري
- ارتفاع الدخل القومي نتيجة زيادة عائدات التجارة
- ظهور المدن الصناعية
- سيادة النظام الرأسمالي

نفذ المطلوب منك مما بين القوسين
الثورة الصناعية (النتائج الاجتماعية)

ممكن أن يأتي السؤال بصيغة أخرى: برهن - أحدثت الثورة الصناعية في أوروبا تغيرات من الناحية الاجتماعية

- زيادة السكان في أوروبا وارتفاع مستوى المعيشة نتيجة لنمو الدخل القومي
- ظهور الصراع الطبقي بين طبقة العمال الكادحين والطبقة الرأسمالية
- انتشار الآراء الاشتراكية المضادة للفكر الرأسمالي

نفذ المطلوب منك مما بين القوسين
الثورة الصناعية (النتائج السياسية)

ممكن أن يأتي السؤال بصيغة أخرى: برهن - أحدثت الثورة الصناعية في أوروبا تغيرات من الناحية السياسية

- سيطرة الطبقة الرأسمالية على السلطة
- التسابق الاستعماري حول المستعمرات
- ظهور الأحزاب السياسية المدافعة عن حقوق العمال

علل - التسابق الاستعماري حول المستعمرات

- جلب المواد الخام
- جعلها أسواقاً للإنتاج الصناعي

صفوة معلمي الكويت