تمكن Tmkn

نمـــــاذج اختبـــــارات

القصير (٢)

رياضيـــات

6

الفصل الأول

يمكنك طلب مذكرات تمكن المحلولة و المطبوعة وكذلك مذكرة الفئة المختصرة محلولة و مطبوعة عن طريق الموقع

صفوة المعلمين الكويت

نماذج تجريبية للاختبار التقويمي الثاني

الصف السادس | رياضيات | الفصل الدراسي الأول | نموذج (١)

السؤال الأول أوجد ناتج قسمة كل مما يلي

أ) ٠,٥٢ ÷ ٠,٠١٣ =

ب) ١,٣٣ ÷ ٠,٠٧ =

٤

السؤال الثاني ظلل (أ) إذا كانت العبارة صحيحة وظلل (ب) إذا كانت العبارة خاطئة

٢

١) ٨ + ١٢ ÷ ٤ = ٥	أ	ب
٢) في الشكل المقابل : قياس الزاوية المجهولة = ٥٦° 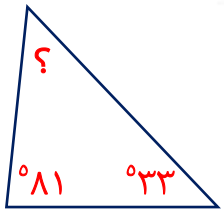	أ	ب

صفوة معلمي الكويت
WWW.TMKNKW.COM

☎222 50 101

السؤال الأول أوجد ناتج قسمة ما يلي

٢٦,٠٨ ÷ ٠,٨ =

٤

السؤال الثاني ظلل (أ) إذا كانت العبارة صحيحة وظلل (ب) إذا كانت العبارة خاطئة

٢

١ ٦ + ١٠ ÷ ٢ = ١١	أ	ب
٢ في الشكل المقابل قياس الزاوية المجهولة = ١٢٠° 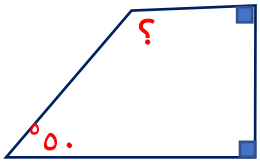	أ	ب

صفوة معلمي الكويت
WWW.TMKNKW.COM

السؤال الأول أوجد ناتج قسمة ما يلي

١٠٧,٥٥ ÷ ٠,٤٥ =

٤

السؤال الثاني ظلل (أ) إذا كانت العبارة صحيحة وظلل (ب) إذا كانت العبارة خاطئة

٢

١ ٦ - ٣ × ٢ + ٤ = ١٠	أ	ب
٢ في الشكل المقابل : إذا كان أ ب جـ د متوازي أضلاع ، فإن ق(ب د أ)= ٤٠° 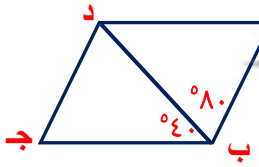	أ	ب

صفوة معلمي الكويت
WWW.TMKNKW.COM

السؤال الأول أوجد ناتج كل مما يلي:

أ) (١٠ - ٥) × ٣ + ٢

ب) ١٢ + (٥ + ٧) ÷ ٢

٤

السؤال الثاني ظلل (أ) إذا كانت العبارة صحيحة وظلل (ب) إذا كانت العبارة خاطئة

٢

١) ٢,٨ ÷ ٠,٤ = ٧	أ	ب
٢) الشكل المقابل لا يمثل مضلعاً : 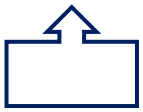	أ	ب

صفوة معلمي الكويت
WWW.TMKNKW.COM

☎222 50 101

نماذج تجريبية للاختبار التقويمي الثاني

الصف السادس | رياضيات | الفصل الدراسي الأول | نموذج (٥)

السؤال الأول أوجد ناتج كل مما يلي:

أ) ٣ + (٤ × ٦) - ٧

ب) ٠,٢٤ ÷ (٠,٨ + ٠,٤)

٤

السؤال الثاني لكل بند من البنود التالية أربعة خيارات ، واحد منها صحيح ، ظلل الدائرة الدالة على الإجابة الصحيحة

٢

١) قياس الزاوية المجهولة =

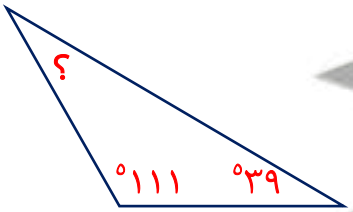

أ) ٣٩° ب) ٤٠° جـ) ٣٠° د) ٥٠°

---

٢) ٦ ÷ ١٠٠٠ =

أ) ٦٠٠٠ ب) ٠,٠٠٠٦ جـ) ٠,٦ د) ٠,٠٠٦

صفوة معلمي الكويت
WWW.TMKNKW.COM

☎222 50 101

السؤال الأول

أ) أوجد قياس الزاوية المجهولة

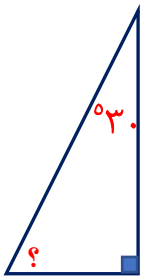

ب) استخدم البيانات على الرسم ثم أكمل :

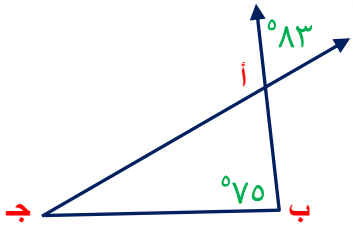

قياس (ب $\hat{أ}$ جـ) = ...

السبب : .....

قياس (ب $\hat{جـ}$ أ) = ...

السبب : .....

٤

السؤال الثاني لكل بند من البنود التالية أربعة خيارات ، واحد منها صحيح ، ظلل الدائرة الدالة على الإجابة الصحيحة

٢

١) ٤,٨٣ ÷ ٠,٠٣ =

أ) ٤٨٣ ÷ ٣ ب) ٤٨٣٠ ÷ ٣ جـ) ٤,٨٣ ÷ ٣ د) ٠,٤٨٣ ÷ ٣

٢) ١٠ + ٣ × ٥ - ٤

أ) ٢١ ب) ٣٣ جـ) ١٣ د) ٦١

WWW.TMKNKW.COM ☎222 50 101

نماذج تجريبية للاختبار التقويمي الثاني

الصف السادس | رياضيات | الفصل الدراسي الأول | نموذج (٧)

السؤال الأول

أ) أوجد قياس الزاوية المجهولة

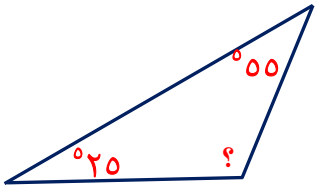

ب) استخدم البيانات على الرسم ثم أكمل :

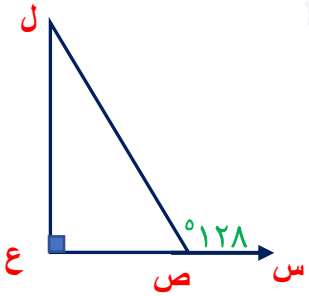

قياس (ل $\hat{ص}$ ع) = ...

السبب : .....

قياس (ص $\hat{ل}$ ع) = ...

السبب : .....

٤

السؤال الثاني

ظلل (أ) إذا كانت العبارة صحيحة وظلل (ب) إذا كانت العبارة خاطئة

٢

١) ١٥ - ٩٦ ÷ ١٢ = ٧	أ	ب
٢) لجعل المقسوم عليه عدداً كلياً في المسألة التالية : ٢٤ ÷ ٠,٠٠٤ يجب علينا الضرب بـ ١٠٠	أ	ب

صفوة معلمي الكويت
WWW.TMKNKW.COM

☎222 50 101

نماذج تجريبية للاختبار التقويمي الثاني

الصف السادس رياضيات الفصل الدراسي الأول نموذج (٨)

السؤال الأول

أ انظر الشكل الذي أمامك ، ثم أكمل مما يلي :

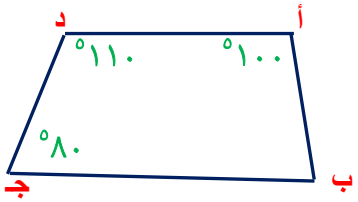

قياس (أ ب̂ جـ) = ...

السبب : .....

ب انظر الشكل الذي أمامك ، ثم أكمل مما يلي :

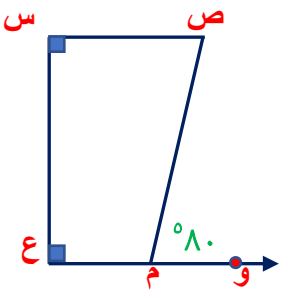

قياس (ص م̂ ع) = ...

السبب : .....

قياس (ص̂) = ...

السبب : .....

٤

السؤال الثاني

ظلل أ إذا كانت العبارة صحيحة وظلل ب إذا كانت العبارة خاطئة

٢

١) ١٦ ÷ (٤ × ٢) = ٦	أ	ب
٢) لجعل المقسوم عليه عدداً كلياً في المسألة التالية : ١,٥ ÷ ١,٧ يجب علينا الضرب بـ ١٠	أ	ب

صفوة معلمي الكويت
WWW.TMKNKW.COM

☎222 50 101

نماذج تجريبية للاختبار التقويمي الثاني

الصف السادس | رياضيات | الفصل الدراسي الأول | نموذج (٩)

السؤال الأول

أ أوجد قياس الزاوية المجهولة في الشكل الرباعي التالي :

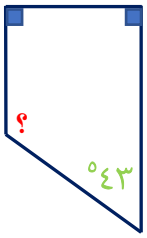

ب انظر الشكل الذي أمامك ، ثم أكمل كلاً مما يلي :

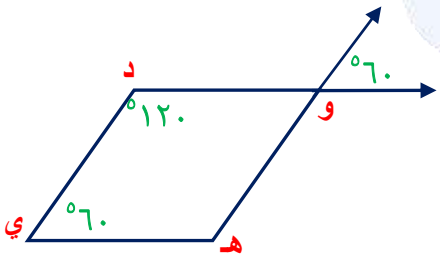

قياس (د $\hat{\text{و}}$ هـ) = ...

السبب : .....

قياس (و $\hat{\text{هـ}}$ ي) = ...

السبب : .....

٤

السؤال الثاني

ظلل (أ) إذا كانت العبارة صحيحة وظلل (ب) إذا كانت العبارة خاطئة

٢

١	١٠ - ١,٦ ÷ ٢ = ٩,٢	أ	ب
٢	٣,٥ ÷ ٠,٥ = ٠,٧	أ	ب

صفوة معلمي الكويت
WWW.TMKNKW.COM

☎222 50 101