النجاح

2025-2024



اجتماعيات

مذكرة تفاعلية

5

الصف الخامس

صفوة تعليمي الكويت


صفوة معلمي الكويت

لماذا ؟
مذكرات النجاح



اختبارات الكترونية
لكل درس
لكل وحدة

مجانا بدون اشتراك

الأسئلة الذهبية

تكرر في اختبارات سابقة
أكثر من ٥ مرات

تكرر في اختبارات سابقة
من ٣ إلى ٥ مرات

تكرر في اختبارات سابقة
من ١ إلى ٢ مرات

- شاملة ومختصرة
- نماذج **اختبارات** محلولة
- باركود **حل الكتاب** المدرسي
- ملونة **ومرتبة**
- مرتبة حسب الدروس
- باركود **الاختبارات** الالكترونية
- **محلولة**

صفوة في الكويت

النجاح

2025-2024



مذكرات النجاح

طريقك للنجاح

66279318

وقف لحظة



قبل لا تكمل
روابط تهمك

حل الكتاب

ملاحظات المذكرة

صفوة في الكويت

فهرس المذكرة

الوحدة الأولى: بلادي الكويت	
سطح الكرة الأرضية	٣
بلادي الكويت ودول الخليج العربية	٦
بلادي الكويت ودول الوطن العربي	٩
بلادي الكويت ودول العالم الاسلامي	١٢
الوحدة الثانية : الموارد الطبيعية في الكويت	
الموارد الطبيعية في بلادي الكويت	١٠
النبات الطبيعي في بلادي الكويت	١٧
الثروة الحيوانية في بلادي الكويت	٢١
الثروة السمكية في بلادي الكويت	٢٤
الثروة النفطية في بلادي الكويت	٢٦
دور الفرد والمجتمع في المحافظة على الموارد الطبيعية	٢٩
الوحدة الثالثة : الطاقة البديلة والنظيفة	
مفهوم الطاقة البديلة والنظيفة	٣٢
نماذج من الطاقة في بلادي الكويت	٣٤
استثمار الطاقة البديلة والنظيفة في بلادي الكويت	٣٦
نماذج اختبارات تدريبية	٣٨

صفوة معلمي الكويت

درس سطح الكرة الأرضية

اختبار الكتروني تدرب و تعلم

١ ضع كلمة صح أمام العبارة الصحيحة وخطأ أمام العبارة الخاطئة:

- تبلغ نسبة اليابسة من سطح الأرض ٧٠٪. (خطأ)
- تعد قارة أوروبا أكبر القارات مساحة. (خطأ)
- تتنوع المسطحات المائية على سطح الأرض. (صح)
- يبلغ عدد المحيطات في العالم ٥ محيطات. (صح)
- البحر هو بحر ضيق يمتد طولياً بين اليابس. (خطأ)

٢ اكتب المفهوم أو المصطلح الدال على العبارات التالية:

- (الخليج): بحر ضيق يمتد طوليا بين اليابس.
- (المحيط): مسطح كبير جدا من الماء المالح.
- (البحر): مسطح مائي أصغر من المحيط يفصل بين القارات.
- (القارة): هي مساحة كبيرة من اليابسة يحيط بها الماء

٣ أكمل العبارات التالية بما يناسبها مما درست:

- تمثل نسبة الماء من سطح الكرة الأرضية ٧٠٪
- القارة الغير مأهولة بالسكان تسمى القارة القطبية الجنوبية.
- تمثل اليابسة من مساحة الكرة الأرضية حوالي ٣٠ ٪.
- أكبر قارات العالم مساحة وأكثرها سكانا تسمى آسيا.
- أصغر قارات العالم من حيث المساحة تسمى أستراليا.
- تقع دولة الكويت في قارة تسمى آسيا.
- يتكون العالم من ٧ قارات.
- أكبر المحيطات مساحة المحيط الهادي.
- مساحة الماء على سطح الأرض أكبر من مساحة اليابسة.

٤ اكتب أسماء قارات العالم.

أوروبا -آسيا - أفريقيا - أمريكا الجنوبية - أستراليا -أمريكا الشمالية - القارة القطبية الجنوبية

صفوة معلمي الكويت

النجاح 2025-2024

٥ أكمل الجدول التالي:

أوروبا -آسيا - أفريقيا - أمريكا الجنوبية - أستراليا -أمريكا الشمالية - القارة القطبية الجنوبية





اسم القارة	استراليا	آسيا
مميزاتها	أصغر القارات من حيث المساحة	أكبر قارات العالم مساحة وأكثرها سكاناً

٦ لاحظ الخريطة ثم نفذ ما يلي:



١ استنتج أسماء المسطحات المائية من الخريطة ثم صنفها في الجدول التالي:

المحيطات	البحار	الخلجان
➤ المحيط الهادي	➤ البحر الأحمر	➤ الخليج العربي
➤ المحيط الهندي	➤ البحر المتوسط	➤ خليج عدن
➤ المحيط الأطلسي	➤ بحر العرب	
➤ المحيط المتجمد الشمالي / الجنوبي		

٢ اكتشف اسم محيط تكرر أكثر من مرة؟

المحيط الهادي

٣ هل تعلم لماذا تكرر؟

لان الأرض كروية الشكل.

صفوة معلمي الكويت

النجاح 2025-2024

٧ اكتب الرقم الدال على العبارات التالية:

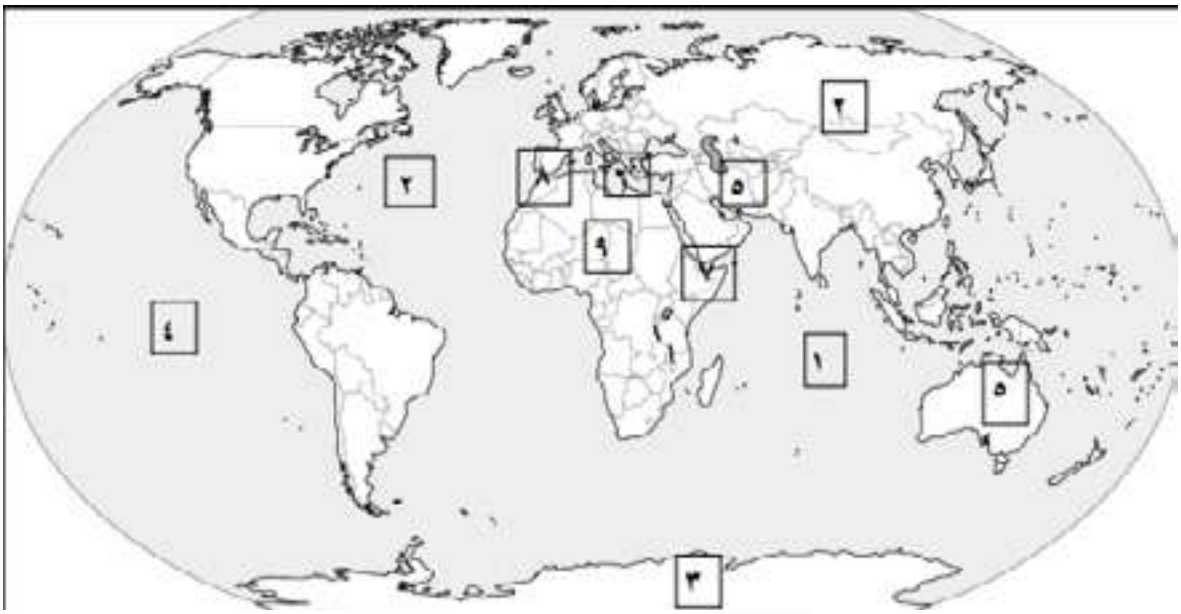

- القارة غير المأهولة بالسكان يمثلها على الخريطة الرقم ٣.
- أكبر القارات من حيث المساحة يمثلها على الخريطة الرقم٢.
- المحيط الهندي يمثله على الخريطة الرقم ١.
- المحيط الهادي يمثله على الخريطة الرقم٤.
- أصغر القارات من حيث المساحة يمثلها على الخريطة الرقم ٥.
- البحر المتوسط يمثله على الخريطة الرقم ٦.



صفوة تعلمي الكويت

درس بلادي الكويت ودول الخليج العربية

اختبار الكتروني تدرب و تعلم

١ ضع كلمة صح أمام العبارة الصحيحة وخطأ أمام العبارة الخاطئة:

- تقع بلادي في الكويت في الشمال الشرقي لشبه الجزيرة العربية. (صح)
- يبلغ عدد الجهات الأصلية أربع جهات وهي الشمال والجنوب والشرق والغرب. (صح)
- تقع دول الخليج العربية جميعها على الساحل الشرقي للخليج العربي. (خطأ)
- يبلغ عدد دول الخليج سبعة دول. (خطا)
- تطل بلادي الكويت على مسطح مائي يسمى الخليج العربي.

٢ علل ما يلي:

١ تسمية دول الخليج العربية بهذا الاسم.

لأنها تطل على مسطح مائي يسمى الخليج العربي.

٣ اكتب المفهوم أو المصطلح الدال على العبارات التالية:

- (دول الخليج العربية): هي ست دول: دولة الكويت، المملكة العربية السعودية، مملكة البحرين، دولة قطر، دولة الإمارات العربية المتحدة وسلطنة عمان.
- (المضيق): منفذ أو ممر مائي ضيق من الماء يفصل بين مسطحين مائيين.

٤ أكمل العبارات التالية بما يناسبها مما درست:

- المسطح المائي الذي تطل عليه جميع دول الخليج العربية يسمى الخليج العربي.
- تبلغ عدد دول الخليج العربية ٦ دول.
- تقع الكويت بالنسبة لشبة الجزيرة العربية في الشمال الشرقي.

٥ استنتج الرابط المشترك بين العناصر التالية:

- الشمال – الجنوب – الشرق – الغرب. (الجهات الأصلية)
- شمال شرقي – شمال غربي – جنوب شرقي – جنوب غربي. (الجهات الفرعية)
- الكويت – السعودية – عمان – البحرين – الإمارات – قطر. (دول الخليج العربية)

صفوة معلمي الكويت

٦ أمامك خريطة شبه الجزيرة العربية الصماء حدد عليها ما يلي:

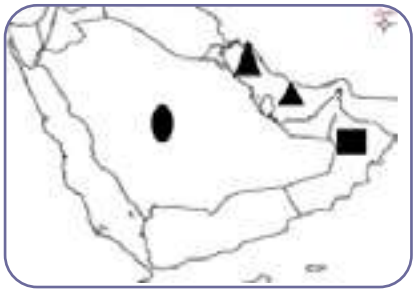

- المملكة العربية السعودية باستخدام رمز الدائرة.
- سلطنة عمان باستخدام رمز المربع.
- الخليج العربي باستخدام رمز المثلث

٧ أكمل المخطط التالي:



صفوة معلمي الكويت

٦ لاحظ خريطة شبه الجزيرة العربية ونفذ ما يليها:



- ارسم على الشكل في الخريطة اتجاه موقع بلادك الكويت بالنسبة لشبه الجزيرة العربية.
- اكتب أسماء دول الخليج العربية حسب الجدول

دول تطل على مسطح مائي واحد	دول تطل على أكثر من مسطح مائي
الكويت	السعودية
البحرين	الإمارات
قطر	عمان

١ استنتج اسم المسطح المائي الذي تطل عليه جميع دول الخليج العربية

الخليج العربي



صفوة معلمي الكويت

درس بلادي الكويت ودول الوطن العربي

اختبار الكتروني تدرب و تعلم

١ اختر الإجابة الصحيحة:

١ يمتد الوطن العربي بين قارتي آسيا و:

أ أوروبا ب أستراليا ج إفريقيا د أمريكا الجنوبية

٢ يبلغ عدد دول الوطن العربي:

أ ٢٢دولة ب ٢٣ دولة ج ٢٤ دولة د ٢٥ دولة

٣ تقع الكويت بالنسبة للوطن العربي في الجهة:

أ الشمالية ب الشرقية ج الغربية د الجنوبية

٢ علل ما يلي:

١ أهمية موقع الوطن العربي.

- يقع في وسط العالم.
- يطل على العديد من المسطحات المائية.
- عدد دول الوطن العربي ٢٢ دولة.
- يمتد بين قارتي آسيا وأفريقيا

٣ صوب ما تحته خط في العبارات التالية:

- ممر مائي صناعي يشق للربط ما بين مسطحين مائيين يسمى المضيق. (القناة)
- يفصل بين دول الوطن العربي في قارة آسيا وقارة إفريقيا مسطح مائي يسمى المحيط الأطلسي. (البحر الأحمر)

٤ اكتب المفهوم أو المصطلح الدال على العبارات التالية:

- (الوطن العربي) مجموعة من الدول تجمعها سمات مشتركة مثل الدين واللغة والتراث وتمتد بين قارتي آسيا وأفريقيا.

صفوة معلمي الكويت

النجاح 2025-2024

٥ عدد المضائق المائية التي يطل عليها الوطن العربي.

- مضيق هرمز
- مضيق باب المندب
- مضيق جبل طارق
- قناة السويس

٦ عدد أسماء المسطحات المائية التي تطل عليها دول الوطن العربي.

- المحيط الهادي
- المحيط الهندي
- المحيط الأطلسي
- الخليج العربي
- خليج عمان
- خليج عدن
- البحر المتوسط
- البحر الأحمر
- بحر العرب

٧ صنف دول الوطن العربي واذكر اسم البحر الذي يفصل بينهما:

دول الوطن العربي في قارة آسيا	دول الوطن العربي في قارة أفريقيا
الكويت -السعودية -الإمارات -البحرين -قطر -عمان -فلسطين -سوريا -لبنان -العراق -اليمن -الأردن	تونس -المغرب -الجزائر -مصر -ليبيا -موريتانيا -السودان -الصومال -جيبوتي -جزر القمر

٨ صنف الكلمات التالية في مكانها المناسب في الجدول.

باب المندب – جبل طارق – هرمز - قناة السويس

الخليج العربي وخليج عمان	البحر الأحمر وخليج عدن	البحر الأحمر والبحر المتوسط	البحر المتوسط والمحيط الأطلسي
هرمز	باب المندب	قناة السويس	جبل طارق

٩ لاحظ خريطة العالم ثم أجب عما يليها:



١ ماذا يمثل اللون الأصفر على الخريطة؟

دول الوطن العربي

٢ اكتب أسماء القارات التي يمتد فيها الوطن العربي؟

آسيا وأفريقيا

١٠ أكمل المخطط التالي:

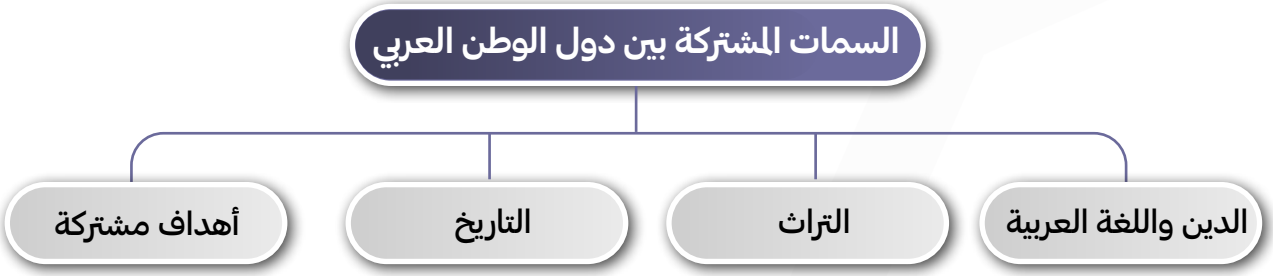





صفوة معلمي الكويت

النجاح 2025-2024

درس بلادي الكويت ودول العالم الإسلامي

اختبار الكتروني تدرب و تعلم

١ ضع كلمة صح أمام العبارة الصحيحة وخطأ أمام العبارة الخاطئة:

- تقع بلادي الكويت في وسط العالم الإسلامي. (صح)
- يحتل العالم الإسلامي موقعا وسطا بالنسبة الى العالم. (صح)
- مساحة العالم الإسلامي ربع مساحة الكرة الأرضية. (صح)
- يطل العالم الإسلامي على ١٢ بحر. (خطأ)
- يشرف العالم الإسلامي على ٤ محيطات. (خطأ)

٢ صوب ما تحته خط في العبارات التالية:

- يمتد العالم الإسلامي في ثلاث قارات. (أربعة)
- تقع دولة الكويت في جنوب العالم الإسلامي. (وسط)
- العالم الإسلامي مجموعة من الدول التي يكون فيها عدد المسلمين ٤٠٪ فأكثر من مجموع السكان. (٥٠٪)
- عدد المسلمين في العالم الإسلامي نصف سكان العالم. (ربع)

٣ أكمل العبارات التالية بما يناسبها مما درست:

- القارة التي يوجد فيها دولة إسلامية واحدة تسمى أمريكا الجنوبية.
- يطل العالم الإسلامي على ١٨ بحراً.
- يشرف العالم الإسلامي على ٣ محيطات.
- ديانة دول العالم الإسلامي هي الإسلام

٤ عدد مميزات العالم الإسلامي.

- مساحة العالم الإسلامي ربع مساحة الكرة الأرضية.
- يطل على ١٨ بحرا ويشرف على ٣ محيطات والعديد من المضائق المائية.
- كثرة الموارد الطبيعية.
- عدد المسلمين في العالم الإسلامي ربع سكان العالم.

صفوة معلمي الكويت

٥ صنف الأرقام إلى مكانها المناسب في الجدول:

٢٧ - ٢٦ - ٢ - ١

عدد الدول الإسلامية			
أوروبا	آسيا	أفريقيا	أمريكا الجنوبية
٢	٢٧	٢٦	١

٦ لاحظ الخريطة التالية ثم اجب عن الأسئلة التالية لها:



- العالم الإسلامي مجموعة من الدول التي يكون فيها عدد المسلمين ٥٠ ٪ فأكثر من مجموع السكان.
- أين تقع بلادي الكويت بالنسبة للعالم الإسلامي.

وسط العالم الإسلامي.

- استنتج من الخريطة أهمية موقع العالم الإسلامي.

يحتل العالم الإسلامي موقعاً وسطاً بالنسبة للعالم.

صفوة معلمي الكويت

النجاح 2025-2024



أحسنـــــت

نهاية الوحدة الاولى

لا تنسَ تدرب واختبر نفسك

اختبار الكتروني شامل للوحدة الاولى

امسح الباركود

اختبار نموذج ١

امسح الباركود

اختبار نموذج ٢

درس الموارد الطبيعية في بلادي الكويت

اختبار الكتروني تدرب و تعلم

١ ما معنى الموارد الطبيعية.

هي كل ما أوجده الله في الطبيعة دون ان يكون للإنسان دخل في وجودها.

٢ استنتج أهمية الموارد الطبيعية.

- لازمة لاستمرار حياة الإنسان على وجه الأرض.
- الغذاء.

٣ ابحث واقرأ دستور الكويت مادة (٢١).

الثروات الطبيعية جميعها ومواردها كافة ملك الدولة، تقوم على حفظها وحسن استغلالها بمراعاة مقتضيات أمن الدولة واقتصادها الوطني.

٧ صنف الموارد الطبيعية التالية في الجدول:

نباتات – نفط -رياح – أسماك – حيوانات – ماء – شمس- غاز

الموارد الحية	الموارد غير الحية
نباتات، أسماك، حيوانات	ماء، شمس، رياح، نفط، غاز



صفوة معلمي الكويت

النجاح 2025-2024

2025-2024

لطلب المذكرة كـــــامـــلـــة



مذكـــرات النجـــاح

طريقك للنجاح

6398804