مؤسسة الجهراء الأهلية التعليمية
مدرسة الرفعة النموذجية (ابتدائي – بنون)

المادة : العلوم ورقة عمل الصف الثاني(١) اسم الطالب : .....

السؤال الأول : ضع علامة ( ) حول الاجابة الصحيحة :

- جزء النبات الذي يمتص الماء من التربة ويثبت النبات في التربة هو :



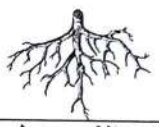

-جزء النبات الذي يحمل الأوراق والأزهار وينقل الماء والغذاء بين أجزاء النبات :

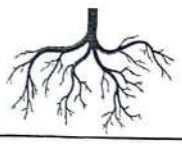



السؤال الثاني : صل بخط الصورة والشيء المميز لها :

الكائن الحي

الشيء الغير حي




السؤال الثالث : أكتب أجزاء النبات على الرسم :



المشرف الفني : ..... ملاحظات ولي أمر الطالب :.....

معلمة صفوة في الكويت