السؤال الأول: ظللي دائرة الملابس المناسبة لهذا الولد :








السؤال الثاني : لوني الأطعمة غير الصالحة للأكل :

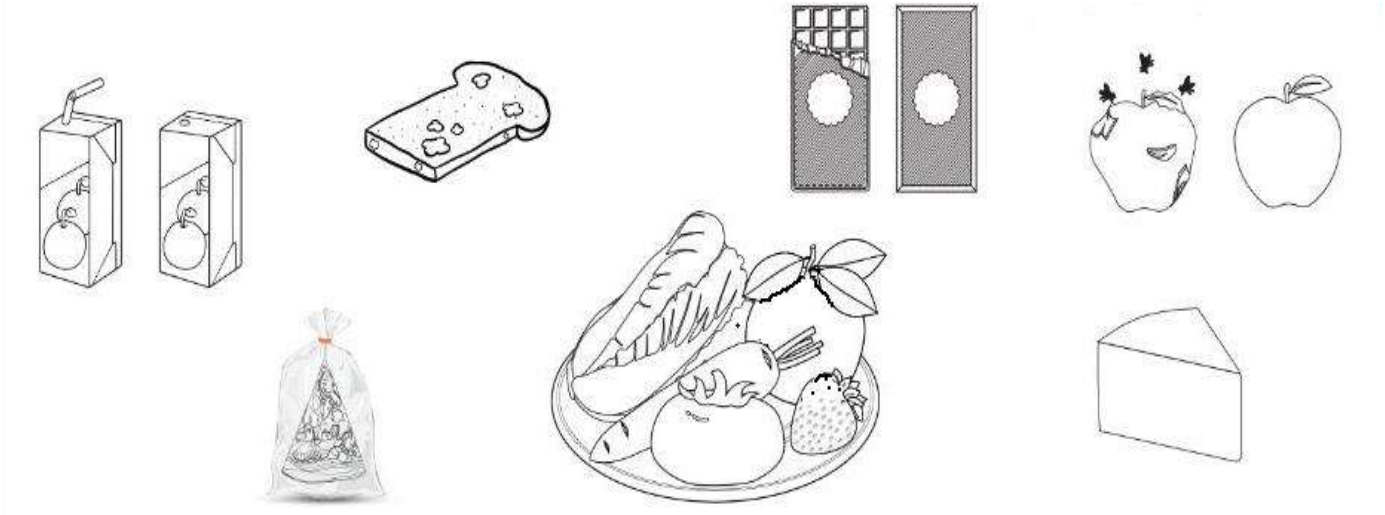

السؤال الثالث : رتبي مراحل نمو الإنسان .





( ) ( ) ( )

معلمة الكويت
KuwaitTeacher.Com

الإدارة العامة للتعليم الخاص
مدرسة القطوف النموذجية

ورقة تدريبات الصف الأول
العلـــــــوم

الفصل الدراسي الأول
العام الدراسي: 2020/2019

السؤال الأول: ظللي دائرة الملابس المناسبة لهذا الولد :





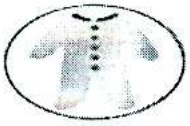


السؤال الثاني : لوني الأطعمة غير الصالحة للأكل :

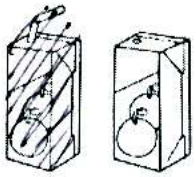

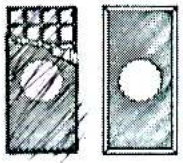





السؤال الثالث : رتبي مراحل نمو الإنسان بالأرقام :

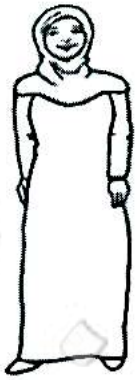



(٣) (١) (٢)

صفوة معلمي الكويت
KuwaitTeacher.Com