

التاريخ

الكورس الثاني

11

صفوة معلمي الكويت
KuwaitMoe.Com

UULA

التاريخ

الكورس الثاني

١١

معلم الكويت
صفوة
KuwaitTeacher.Com

UULA.COM
© جميع الحقوق محفوظة

شلون تتفوق بدراستك

طريقة علا المتكاملة للدراسة تشمل الاستفادة من المذكرة و الفيديوهات و الاختبارات



⚠ علا تخلي المذكرة أقوى

تبي أعلى الدرجات؟ لا تعتمد على المذكرة بروحها – ادرس صح من الفيديوهات و الاختبارات

فيديوهات تشرح لك

تابع الفيديوهات و انت تدرس المذكرة عشان تضبط الدرس



اختبارات ذكية تدربك

حل الاختبارات الالكترونية أول بأول عشان ترفع مستواك



اشترك بالمادة

احرص على تفعيل اشتراكك عشان تستفيد كثر ما تقدر

اكتشف عالم التفوق مع باقات علا

ادرس جميع مواد مرحلتك باشتراك واحد بسعر خيالي

KuwaitTeacher.Com

© جميع الحقوق محفوظة

المـــــنـــــقـــــذ

أقوى مذكرة صارت الحين أقوى و أقوى مع خاصية **المنقذ** للمساعدة الفورية

شنو المنقذ ؟
امسح الباركود بكاميرا تلفونك
وتعرف على طريقة استخدام المنقذ





شنو فايدة هالخاصية ؟
أول ما تحتاج مساعدة بالمادة , المنقذ بينقذك .

امسح الباركود بكاميرا التلفون أو اضغط عليه إذا كنت فاتح المذكرة من جهازك و يطلع لك فيديو الشرح.

معلم الكويت
KuwaitTeacher.Com

© جميع الحقوق محفوظة

قائمة المحتوى

01 دولة الخلفاء الراشدين

6 الخليفة عثمان بن عفان 23-35 هـ / 644 م – 656 م

10 الخليفة عثمان بن عفان
اتساع الدولة الإسلامية في عهد الخليفة عثمان بن عفان

16 الخليفة عثمان بن عفان (دروس وعبر)

19 الخليفة علي بن أبي طالب (35 هـ - 40 هـ) (657 م – 663 م)

24 مراحل توسع الدولة الإسلامية في العصرين الأموي والعباسي
الدولة الأموية (41هـ- 132هـ) (661م-750م)

29 مراحل توسع الدولة الإسلامية في العصرين الأموي والعباسي
الفتوحات شرقاً (المهلب بن أبي صفرة)

33 مراحل توسع الدولة الإسلامية في العصرين الأموي والعباسي
الفتوحات شرقا (قتيبة بن مسلم الباهلي)

36 مراحل توسع الدولة الإسلامية في العصرين الأموي والعباسي
الفتوحات شرقا فتح بلاد السند – محمد بن القاسم

39 مراحل توسع الدولة الإسلامية في العصرين الأموي والعباسي
الفتوحات غرباً بلاد المغرب (المرحلة الأولى – المرحلة الثالثة)

45 مراحل توسع الدولة الإسلامية في العصرين الأموي والعباسي
الفتوحات غرباً بلاد المغرب (المرحلة الرابعة – المرحلة السادسة)

50 مراحل توسع الدولة الإسلامية في العصرين الأموي والعباسي
الفتوحات غرباً بلاد المغرب (المرحلة السابعة)

54 مراحل توسع الدولة الإسلامية في العصرين الأموي والعباسي
الفتوحات غرباً فتح الأندلس

60 مراحل توسع الدولة الإسلامية في العصرين الأموي والعباسي
الفتوحات غرباً (فتح بلاد الغالة وعوامل سقوط الدولة الأموية)

65 مراحل توسع الدولة الإسلامية في العصرين الأموي والعباسي
الدولة العباسية (132هـ – 656هـ) (750م – 1258 م)

69 مراحل توسع الدولة الإسلامية في العصرين الأموي والعباسي
(العصر العباسي الأول والثاني)

KuwaitTeacher.Com

© جميع الحقوق محفوظة

72 مقدمة الدول المستقلة
74 الدولة الأموية في الأندلس (138هـ – 422 هـ) (756 م – 1031 م)
80 الدولة الغزنوية (351هـ – 582هـ) (962م – 1186 م)
85 الدولة الفاطمية (297هـ – 567هـ) (909م- 1171 م)
91 الدولة الأيوبية (567هـ – 648هـ) (1171م – 1250 م)
93 الدولة الأيوبية (567هـ – 648هـ) (1171م – 1250 م) معركة حطين
100 دولة المماليك (648هـ – 923هـ) (1250 – 1517 م)
104 دولة المماليك (معركة عين جالوت)
108 دولة السلاجقة (429هـ – 700 هـ) (1037- 1300 م)
111 دولة السلاجقة (429هـ – 700 هـ) (1037- 1300 م) معركة ملاذكرد
116 الدولة العثمانية (699 هـ – 1341هـ / 1299م – 1923 م) نشأة الدولة (عثمان بن آرطغرل - أورخان)
120 نشأة الدولة (السلطان مراد الأول)
122 نشأة الدولة (السلطان بايزيد الأول ومراد الثاني)
127 فتح القسطنطينية
133 التوسع العثماني في المشرق
136 السلطان سليمان القانوني
140 السلطان عبد الحميد الثاني (1293 – 1326 هـ/ 1876 م – 1908 م)
143 نهاية الدولة العثمانية وحماية العالم الإسلامي
146 الحضارة العربية الإسلامية
148 مظاهر الحضارة الإسلامية
159 أثر الحضارة الإسلامية في قيام النهضة الأوروبية

KuwaitTeacher.Com

© جميع الحقوق محفوظة

الخليفة عثمان بن عفان 23-35 هـ / 644 م – 656 م

اختر الإجابة الصحيحة :

س فترة حكم الخليفة عثمان بن عفان تمثل على المخطط الزمني الحرف :

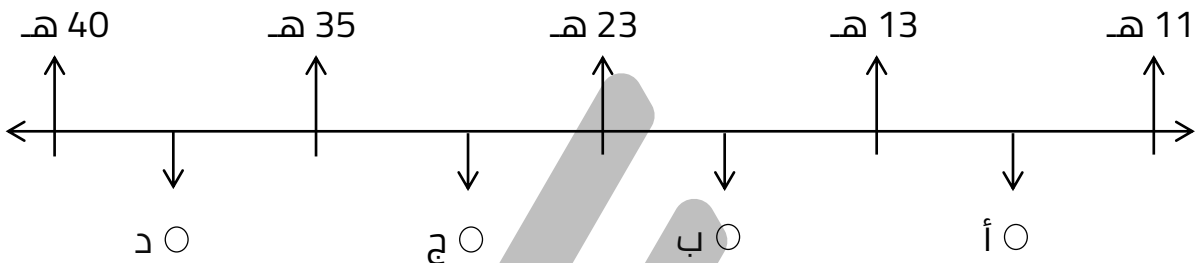

س تولى الخليفة عثمان بن عفان الخلافة في عام :

○ 20 هـ ○ 21 هـ ○ 22 هـ ○ 23 هـ

اقرأ ثم أجب عما يلي :

" ألا أستحي من رجل تستحي منه الملائكة "

س من القائل ؟ _____

س من المقصود ؟ _____

" إن عثمان أول من هاجر إلى الله بعد لوط عليه السلام "

س من القائل ؟ _____

س من المقصود ؟ _____

معلمي الكويت
صفوة
KuwaitTeacher.Com

© جميع الحقوق محفوظة

أكمل العبارات التالية :

س العام الميلادي الذي ولد فيه الخليفة عثمان بن عفان _____

س الصحابي الذي اشتهر بالفقه والحياء والكرم وطيب النفس وكثرة الإحسان يسمى _____

س الصحابي الذي أسلم على يديه الخليفة عثمان بن عفان يسمى _____

س الصحابي الذي لقب بذي النورين يسمى _____

س سفير المسلمين لدى قريش في السنة السادسة من الهجرة يسمى _____

س صحابي هو أحد الستة الذين توفى الرسول ﷺ وهو راض عنه يسمى _____

س الصحابي الذي هاجر إلى الحبشة الهجرتين الأولى والثانية يسمى _____

س الخليفة الذي اشترى بئر الرومة في المدينة ليشرب الناس منه يسمى _____

س الخليفة الراشدي الذي جهز جيش العسرة يسمى _____

س صحابي اتخذ داراً للقضاء بين الناس وأمر بالأذان الأول ليوم الجمعة يسمى _____

س عدد - دور الخليفة عثمان بن عفان رضي الله عنه في خدمة الإسلام والمسلمين

UULA
معلمي الكويت
صفوة
KuwaitTeacher.Com

© جميع الحقوق محفوظة

اقرأ ثم أجب

" إنكم في دار قلعة وفي بقية أعمار فبادروا أجالكم بخير ما تقدرون عليه . فلقد أتيتم صبحتم أو مسيتم ألا وإن الدنيا طويت على الغرور فلا تغرنكم الحياة الدنيا ولا يغرنكم بالله الغرور . واعتبروا بمن مضى ثم جدوا ولا تغفلوا فإنه لا يغفل عنكم , أين أبناء الدنيا وإخوانها الذين أثاروها وعمروها ... اطلبوا الآخرة فإن الله تعالى يقول : مَثَلَ الْحَيَاةِ الدُّنْيَا كَمَاءٍ أَنْزَلْنَاهُ مِنَ السَّمَاءِ فَاخْتَلَطَ بِهِ نَبَاتُ الْأَرْضِ فَأَصْبَحَ هَشِيمًا تَذْرُوهُ الرِّيَاحُ "

س من القائل ؟ _____

س ما المناسبة ؟ _____

س من خلال الخطبة : عدد – الأمور التي حذر منها الخليفة عثمان بن عفان رضي الله عنه

س عدد – المعاني السامية التي تضمنتها خطبة عثمان بن عفان رضي الله عنه

UULA
معلمي الكويت
صفوة
KuwaitTeacher.Com

© جميع الحقوق محفوظة

اقرأ ثم أجب عما يلي :

فأخذ يكاتب أمراء الأمصار والأجناد وعمال الخراج ويوصيهم بتقوى الله وأمانة المهمة الملقاة على عاتقهم , وذكرهم بأن أمر هذه الأمة صائر إلى الابتداع بعد اجتماع ثلاث فيكم : تكامل النعم , وبلوغ أولادكم من السبايا , وقراءة الأعراب والأعاجم القرآن

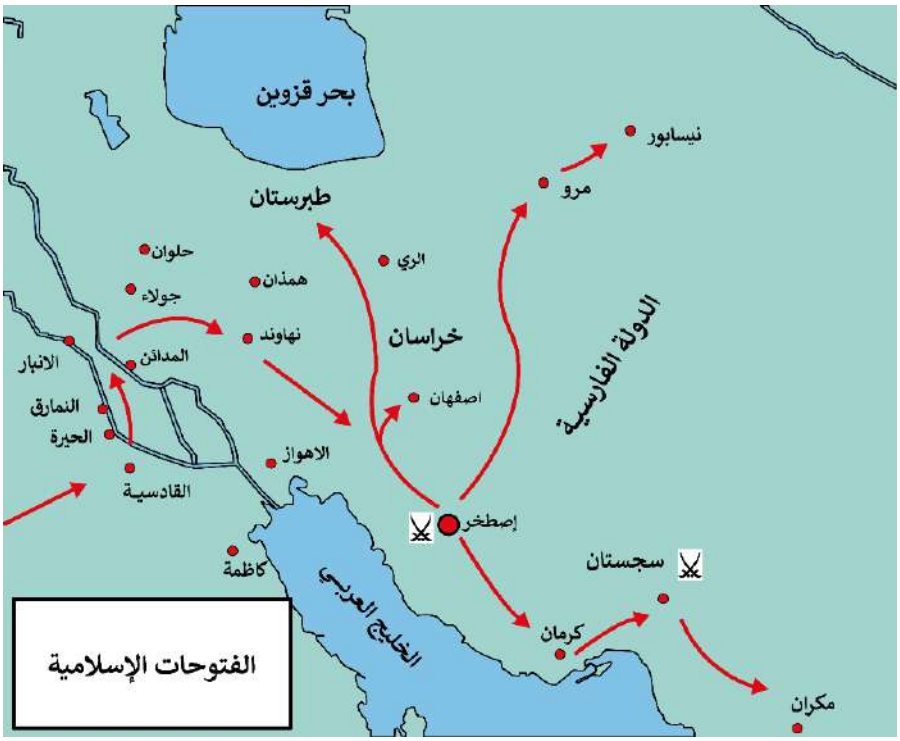

س ما الفرق بين ما تحته خط من الخطبة

أمراء الأمصار	عمال الخراج
----------	----------
----------	----------
----------	----------

س علل – قوبل حكم عثمان بن عفان رضي الله عنه بثورات عارمة

صفوة الكويت
KuwaitTeacher.Com

الخليفة عثمان بن عفان
اتساع الدولة الإسلامية في عهد الخليفة عثمان بن عفان

س عدد - النتائج المترتبة على اتساع الدولة الإسلامية في عهد الخليفة عثمان بن عفان من ناحية الغرب

أكمل العبارات التالية :

س القائد المسلم الذي انتصر على الجيش البيزنطي في معركة العبادلة يسمى _____

س القائد البيزنطي الذي قُتل على يد عبد الله بن الزبير في موقعة العبادلة يسمى _____

س المعركة التي ترتب عليها سيطرة المسلمون على تونس عام 27 هـ هي _____

س العام الذي استولى فيه المسلمون على أرض تونس _____

س علل – تسمية معركة العبادلة بهذا الاسم

س عدد – النتائج المترتبة على معركة العبادلة 27 هـ

ممكن أن يظهر السؤال في صيغة اخرى:
(فند – لم يكن لمعركة العبادلة أي أهمية في تاريخ الدولة الإسلامية)

UULA.COM
KuwaitTeacher.Com

© جميع الحقوق محفوظة

اختياري :

س المعركة التي ترتب عليها سيطرة المسلمون على تونس عام 27 هـ :

○ ملاذكرد ○ المصارة ○ العبادلة ○ شذونة

س علل - ارتداد أرمينيا عن الإسلام بعد مقتل عمر بن الخطاب رضي الله عنه

.....

.....

.....

.....

أكمل العبارات التالية :

س المنطقة التي ارتدت عن الإسلام بعد مقتل عمر بن الخطاب وامتنعت عن دفع الجزية هي _____

س القائد المسلم الذي كلفه عثمان بن عفان بإعادة ضم أرمينيا يسمى _____

س العام الهجري الذي كلف فيه عثمان بن عفان القائد الوليد بن عقبة بالتوجه إلى أرمينيا بعد أن امتنعوا عن دفع الجزية هو _____

س القائد المسلم الذي نجح في ضم أرمينيا وأذربيجان 24 هـ يسمى _____

س العام الهجري الذي افتتحت فيه أجزاء من طبرستان هو _____

س عرف – طبرستان

.....



أكمل العبارات التالية :

ممكن أن يظهر السؤال في صيغة اخرى: اختياري

س يطلق على مناطق بلخ وهراة وكابول وغزنة من بلاد الأتراك حالياً اسم _____

س منطقة في شرق العالم الإسلامي فُتح البعض منها والبعض صالح أهلها على الجزية تسمى _____

س القائد الذي يرجع إليه الفضل في تحويل الحملات الاستكشافية الخاطفة إلى فتح دائم مستقر في بعض المناطق يسمى _____

KuwaitTeacher.Com

© جميع الحقوق محفوظة

س عدد – النتائج المترتبة على اتساع الدولة الإسلامية في عهد عثمان بن عفان من ناحية الشرق

أكمل العبارات التالية :

ممكن أن يظهر السؤال في صيغة اخرى: اختياري

س القائد المسلم الذي كان يلح على عمر بن الخطاب بغزو الروم بحراً يسمى

س الخليفة الراشد الذي كان يلح عليه معاوية بن أبي سفيان بغزو الروم بحراً يسمى

س والي مصر الذي طلب منه الخليفة عمر بن الخطاب وصف البحر يسمى

اقرأ ثم أجب عما يلي :

" إني رأيت خلقاً كبيراً يركبه خلق صغير , إن ركن خرق القلوب , وإن تحرك أزاغ العقول , يزداد فيه اليقين قلة والشك كثرة , هم فيه كدود على عود إن مال غرق وإن نجا برق "

س من القائل ؟ ----------

س ما المناسبة ؟ ----------

" لا والذي بعث محمداً بالحق لا أحمل فيه مسلماً أبداً "

س من القائل ؟ ----------

س ما المناسبة ؟ ----------

س أكمل الخليفة الراشد الذي وافق على طلب معاوية بن أبي سفيان بغزو البحر بعد إلحاح طويل يسمى ----------

UULA
KuwaitTeacher.Com

اقرأ ثم أجب عما يلي :

> " لا تنتخب الناس ولا تقرع بينهم خيرهم فمن اختار الغزو طائعاً فأحمله وأعنه "

س من القائل ؟ _____

س ما المناسبة ؟ _____

أكمل العبارات التالية

ممكن أن يظهر السؤال في صيغة اخرى: اختياري

س الخليفة الإسلامي الذي تم في عهده بناء أول أسطول إسلامي يسمى _____

س تم بناء أول اسطول إسلامي في الشام على يد _____

س تم بناء أول اسطول إسلامي في مصر على يد _____

س المنطقة التي فتحت على يد المسلمين في عام 31 هـ - 649 م تسمى _____

س العام الهجري الذي فتحت فيه قبرص على يد المسلمين هو _____

س الوالي الذي سيطر على شواطئ الشام وآسيا الصغرى وجزيرة رودس يسمى _____

س قائد أسطول الروم لضرب المسلمين يسمى _____

س عدد السفن في أسطول الروم _____

س قائد المسلمين في معركة ذات الصواري يسمى _____

س العام الهجري الذي وقعت فيه أحداث معركة ذات الصواري هو _____

س أول معركة بحرية إسلامية دارت عام 34 هـ تسمى _____

UULA
معلم الكويت
Kuwaitteacher.Com

© جميع الحقوق محفوظة

س الجزيرة التي دارت بقربها رحى معركة ذات الصواري تسمى _ _ _ _ _ _ _

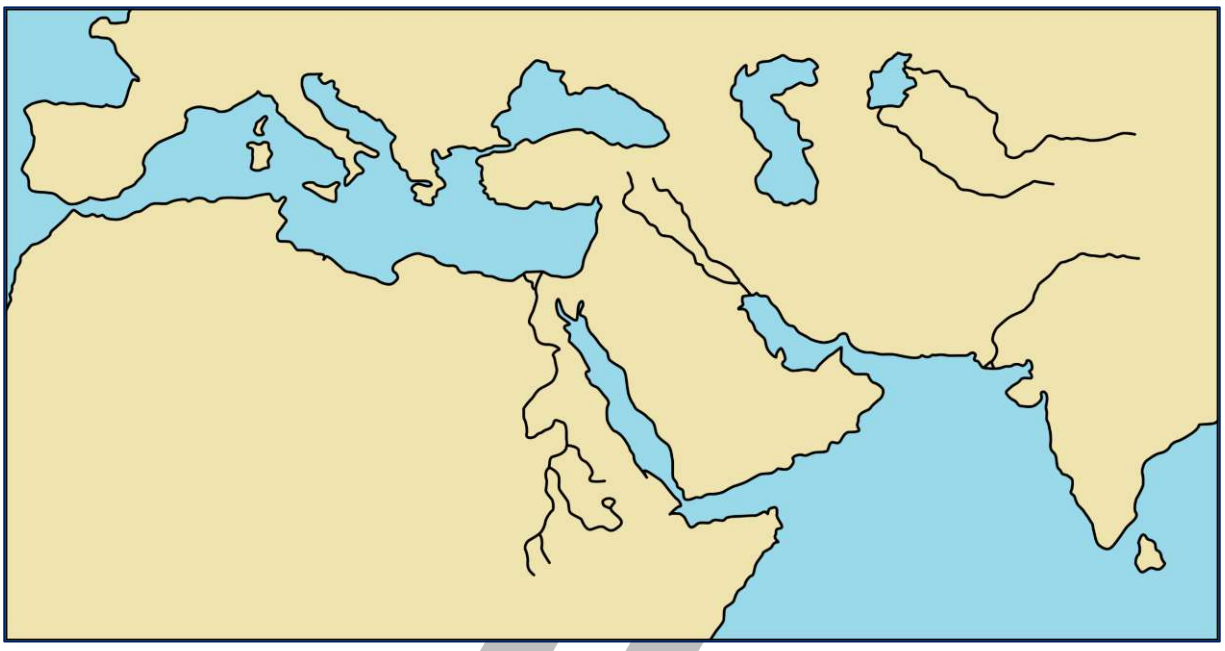

س أذكر نتيجة معركة ذات الصواري

س - فند العبارة التالية تاريخياً " لم يهتم المسلمون بركوب البحر"

ممكن أن يظهر السؤال في صيغة اخرى: (دلل – اهتم المسلمين بركوب البحر)

س عدد – النتائج المترتبة على إنشاء الأسطول الإسلامي

UULA
معلمي الكويت
صفوة
KuwaitTeacher.Com

س صنف الأحداث التالية حسب الجدول الآتي

(ضم برقة وطرابلس – ضم غرب مصر وأجزاء من النوبة – معركة العبادلة – ضم أذربيجان - فتح أجزاء طبرستان – أفغانستان حالياً – خراسان – ذات الصواري)

فتح الغرب	فتح الشمال	فتح الشرق	الناحية البحرية
▪ _____	▪ _____	▪ _____	▪ _____
▪ _____	▪ _____	▪ _____	▪ _____
▪ _____	▪ _____	▪ _____	▪ _____

اختياري

س منطقة تم فتحها في عهد الخليفة عثمان بن عفان من ناحية الشرق :

○ خراسان ○ أذربيجان ○ طبرستان ○ برقة

معلمي الكويت
صفوة
KuwaitTeacher.Com

© جميع الحقوق محفوظة

الخليفة عثمان بن عفان (دروس وعبر)

س عدد – الدروس والعبر المستفادة من الخليفة عثمان بن عفان

أكمل العبارات التالية

س خليفة راشدِ كان من كتاب الوحي لرسول الله ﷺ وكان أميناً وكاتباً لأبي بكر وعمر يسمى _____

س الحدث التاريخي الذي رفض فيه عثمان بن عفان الطواف حول الكعبة قبل النبي ﷺ هو _____

اقرأ ثم أجب

" لا أطوف قبل النبي ﷺ "

س من القائل ؟ _____

س المناسبة ؟

أكمل العبارات التالية

س كان سفير الرسول ﷺ في بيعة صلح الحديبية وكانت له محبة في نفوس قريش يسمى _____

س صحابي كان تقياً ورعاً طيب النفس نقي السريرة حليم متواضع ويصوم الدهر ويحج البيت كل عام يسمى _____

KuwaitTeacher.Com

جميع الحقوق محفوظة ©

اختر الإجابة الصحيحة :

س الصحابي الذي استنسخ المصاحف وفرقها في الأمصار يسمى :

- ○ أبو بكر الصديق
- ○ عثمان بن عفان
- ○ عمر بن الخطاب
- ○ علي بن أبي طالب

س الغزوة التي جهز لها عثمان بن عفان رضي الله عنه جيش العسرة تسمى

- ○ تبوك
- ○ مؤتة
- ○ خيبر
- ○ حنين

س قال : ((مثلي ومثل أمة محمد , كمثل الوصي على مال اليتيم)) من القائل :

- ○ أبو بكر الصديق
- ○ عثمان بن عفان
- ○ عمر بن الخطاب
- ○ علي بن أبي طالب

س العام الهجري الذي قتل فيه عثمان بن عفان :

- ○ 25هـ
- ○ 30 هـ
- ○ 35 هـ
- ○ 40 هـ

س أكمل المخطط السهمي التالي :

ممكن أن يظهر السؤال في صيغ اخرى: أكمل اختياري





UULA.COM
© جميع الحقوق محفوظة
KuwaitTeacher.Com

اختياري

س العام الهجري الذي تم فيه فتح أصطخر :

○ 27هـ ○ 28 هـ
○ 29 هـ ○ 30 هـ

لاحظ خريطة العالم الإسلامي ثم نفذ المطلوب منك

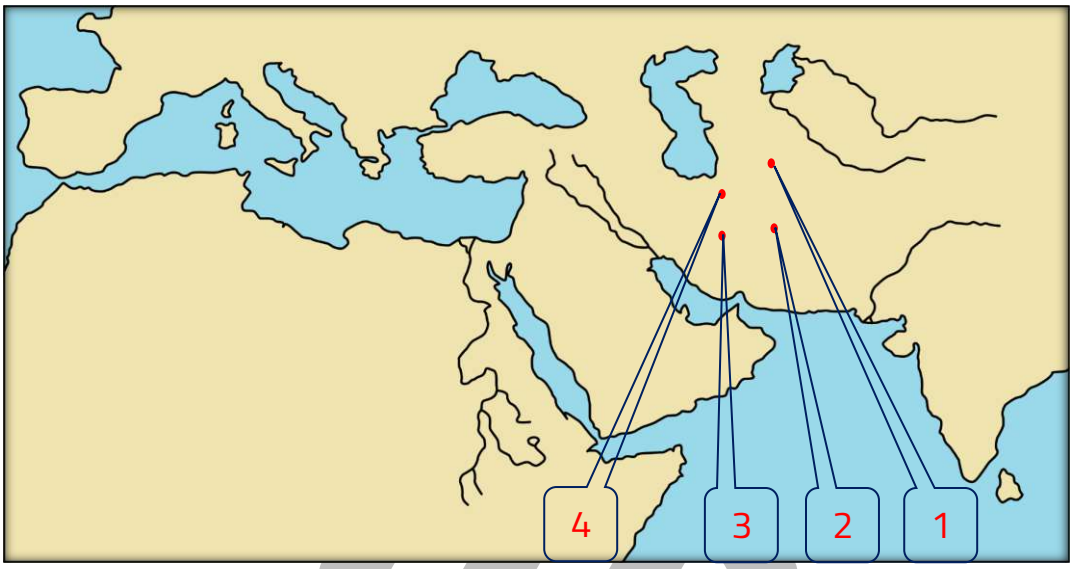

س منطقة الري تحمل على الخريطة الرقم ( )

س نيسابور تحمل على الخريطة الرقم ( )

س أصطخر تحمل على الخريطة الرقم ( )

س خراسان تحمل على الخريطة الرقم ( )

اقرأ ثم أجب

" قتلوه وإنه والله لأوصلهم للرحم وأتقاهم للرب , ثم هو أحد العشرة المبشرين بالجنة وأحد الستة الذين توفى رسول الله وهو عنهم راض"

س من القائل ؟ _____

س ما المناسبة ؟ _____

تـــدرب و تـفـوق
اختبارات الكترونية

© جميع الحقوق محفوظة

الخليفة علي بن أبي طالب
(35 هـ - 40 هـ) (657 م – 663 م)

س اختر الإجابة الصحيحة :

س فترة حكم الخليفة علي بن أبي طالب تمثل على المخطط الزمني الحرف

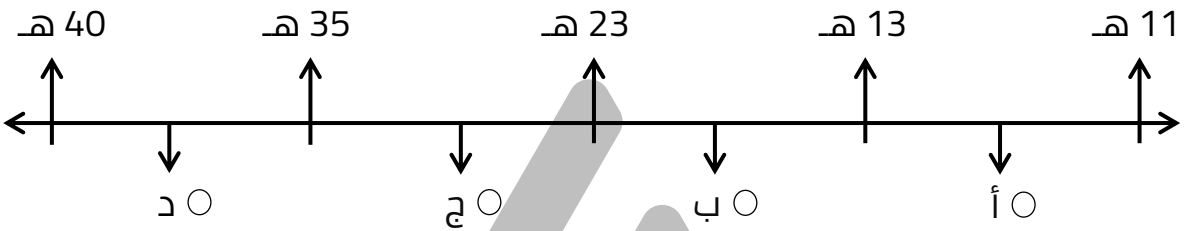

اقرأ ثم أجب

((لأعطين الراية غداً رجلاً يفتح على يديه يحب الله ورسوله ويحبه الله ورسوله))

س من القائل ؟ _____

س من المقصود ؟ _____

اختر الإجابة الصحيحة :

س ولد الخليفة علي بن أبي طالب قبل البعثة بـــ :

- ○ خمس سنوات
- ○ عشر سنوات
- ○ خمسة عشر سنة
- ○ عشرون سنة

س أول فدائي في الإسلام يسمى :

- ○ أبو بكر الصديق
- ○ عمر بن الخطاب
- ○ عثمان بن عفان
- ○ علي بن أبي طالب

س الخليفة الذي رشح علي بن أبي طالب للخلافة وهو من أهل الشورى الستة يسمى :

- ○ أبو بكر الصديق
- ○ عمر بن الخطاب
- ○ عثمان بن عفان
- ○ عبد الرحمن بن عوف

KuwaitTeacher.Com

©جميع الحقوق محفوظة

عدد

س صفات الخليفة علي بن أبي طالب

س أسباب تولي علي بن أبي طالب الخلافة

ممكن أن يظهر السؤال في صيغة اخرى:
عدد الظروف التي أدت إلى تولي علي بن أبي طالب الخلافة في عام 35 هـ

اقرأ ثم أجب

" ليس لكم الحكم "

س من القائل ؟

س المناسبة ؟

" إن الله عز وجل أنزل كتاباً هادياً بين فيه الخير والشر فخذوا بالخير ودعوا الشر . الفرائض أدوها إلى الله سبحانه وتعالى يؤدكم الجنة ... والمسلم من سلم الناس من لسانه ويده إلا بالحق ... فإنما ينتظر الناس أخراهم اتقوا الله عباد الله في عباده وبلاده , إنكم مسئولون حتى عن البقاع والبهائم وأطيعوا الله عز وجل ولا تعصوه وإذا رأيتم الخير فخذوا به وإذا رأيتم الشر فدعوه وَاذْكُرُوا إِذْ أَنْتُمْ قَلِيلٌ مُسْتَضْعَفُونَ فِي الْأَرْضِ

س من القائل ؟

س المناسبة ؟

س عدد – النتائج المترتبة على انقسام جيش ((علي)) على نفسه

معلمة الكويت
Kuwaitteacher.Com

© جميع الحقوق محفوظة

س عرف -الخوارج :

س أكمل الجدول الناقص :

الحدث	معركة الجمل
السنة	_____
المكان	_____
الأطراف	_____ × _____
السبب	_____
النتائج	▪ _____ ▪ _____

س أكمل : العام الهجري الذي وقعت فيه أحداث موقعة الجمل _____

س أكمل الجدول الناقص :

الحدث	موقعة صفين
السنة	_____
المكان	_____
الأطراف	_____ × _____
السبب	_____
النتائج	_____

معلمة الكويت
KuwaitTeacher.Com

© جميع الحقوق محفوظة

اختر الإجابة الصحيحة :

س منطقة تقع على نهر الفرات وقع عندها أحداث موقعة بين علي بن أبي طالب ومعاوية بن أبي سفيان :

○ صفين ○ البصرة ○ بغداد ○ الرمادي

س أطراف موقعة صفين 37 هـ :

○ علي بن أبي طالب ومعاوية بن أبي سفيان
○ علي بن أبي طالب وطلحة بن عبيد الله
○ معاوية بن أبي سفيان و الزبير بن العوام
○ معاوية بن أبي سفيان وطلحة بن عبيد الله

س أكمل الجدول الناقص

الحدث	معركة النهروان
السنة	
المكان	
الأطراف	
السبب	
النتائج	

اختياري :

س العام الهجري الذي وقعت فيه أحداث معركة النهروان

○ 36 هـ ○ 37 هـ ○ 38 هـ ○ 39 هـ

س أكمل: توفي علي بن أبي طالب على يد أحد الخوارج ويسمى

اقرأ ثم أجب

((يا بني لا تخوضوا دماء المسلمين خوضاً , تقولون قتل أمير المؤمنين ألا لا تقتلن بي إلا قاتلي , انظروا إذا أنا مت من ضربته هذه فاضربوه ولا تمثلوا به .....))

UULA.COM
KuwaitTeacher.Com

© جميع الحقوق محفوظة

س من القائل ؟ _ _ _

مراحل توسع الدولة الإسلامية في العصرين الأموي والعباسي
الدولة الأموية (41هـ- 132هـ)
(661م-750م)

س اختياري : الفترة الزمنية التي تمثل حكم الدولة الأموية تمثل على المخطط الزمني الحرف :

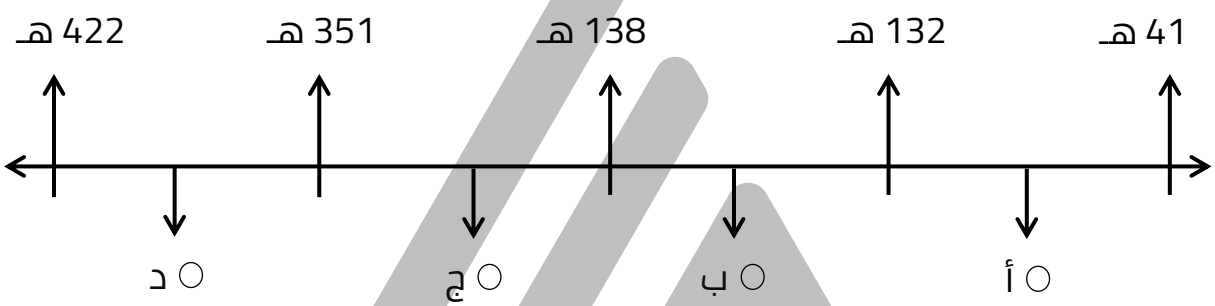

أكمل العبارات التالية :

س مؤسس الدولة الأموية في عام 41هـ يسمى _____

س العام الهجري الذي اغتيل فيه الخليفة علي بن أبي طالب _____

س بعد اغتيال الخليفة علي بن أبي طالب رضي الله عنه عام 40 هـ بايع أهل العراق ابنه _____

س بعد اغتيال الخليفة علي بن أبي طالب رضي الله عنه عام 40 هـ بايع أهل الشام _____

س عدد – النتائج المترتبة على اغتيال الخليفة علي بن أبي طالب

UULA
معلمي الكويت
صفوة
KuwaitTeacher.Com

© جميع الحقوق محفوظة

أكمل العبارات التالية :

س أعد معاوية بن أبي سفيان جيشاً لمحاربته ولكنه كره الحرب حقناً لدماء المسلمين يسمى _ _ _ _ _ _ _

س القائد الذي أعد جيشاً لمحاربة الحسن ولكن الحسن كره الحرب حقناً لدماء المسلمين يسمى _ _ _ _ _ _ _ _ _ _ _ _ _ _ _ _

س علل - تنازل الحسن عن الخلافة لمعاوية بن أبي سفيان

أكمل العبارات التالية :

س المدينة التي التقى فيها معاوية بن أبي سفيان مع الحسن بن علي تسمى _ _ _ _ _ _ _

س المنطقة التي رحل إليها الحسن بعد تنازله عن الخلافة لمعاوية تسمى _ _ _ _ _ _ _

س بعد مبايعة الناس لمعاوية في الكوفة عاد معاوية إلى _ _ _ _ _ _ _

س عام 41 هـ الذي تولى فيه معاوية حكم الدولة الإسلامية عرف باسم _ _ _ _ _ _ _ _ _ _

س العام الهجري الذي تولى فيه معاوية حكم الدولة الإسلامية _ _ _ _ _ _ _

س الحدث الذي اجتمعت فيه كلمة المسلمين على اختيار معاوية بن أبي سفيان خليفة للمسلمين هو _ _ _ _ _ _ _ _ _

س علل - تسمية عام 41هـ بعام الجماعة

س عرف - عام الجماعة

UULA
معلمي الكويت
صفوة
Kuwaitteacher.Com

© جميع الحقوق محفوظة

أكمل العبارات التالية :

س البيت الذي انحصرت فيه الخلافة الإسلامية منذ عام 41 هـ حتى عام 132 هـ يسمى _____

س نظام الحكم في عهد دولة الخلفاء الراشدين قائم على أساس _____

س نظام الحكم في عهد الدولة الأموية قائم على أساس _____

س أول خلفاء الدولة الأموية يسمى _____

س الخليفة الأموي الذي كان أول من تولى ولاية العهد في العصر الأموي يسمى _____

علل

س الخلافة الإسلامية في البيت الأموي تعتبر نقلة نوعية كبرى في نظام الحكم الإسلامي

س انحصرت الخلافة الإسلامية منذ العام 41 هـ - 132 هـ في البيت الأموي

س عدد - سمات وخصائص وصفات الدولة الأموية

ممكن أن يظهر السؤال في صيغ اخرى:
(عدد - سياسة الخليفة معاوية بن أبي سفيان في نظام الحكم الإسلامي)
(عدد – المظاهر السياسية التي استحدثها معاوية بن أبي سفيان في الدولة)
(فند - لم يتغير نظام الحكم الإسلامي في العصر الأموي)

UULA
معلمي الكويت
صفوة
KuwaitTeacher.Com

© جميع الحقوق محفوظة

س قارن بين كل من حسب الجدول التالي :

وجه المقارنة	عهد الخلفاء الراشدين	عهد الأمويين
أسس اختيار الخليفة		
العاصمة		

س اختياري : الحدث الذي يعتبر نقلة نوعية في نظام الحكم الإسلامي زمن الخلافة الأموية هو :

○ نظام البيعة ○ نظام الشورى
○ نظام الدواوين ○ نظام الوراثة

س أمامك خريطة العالم الإسلامي – أكتب الرقم الدال على العبارات التالية :

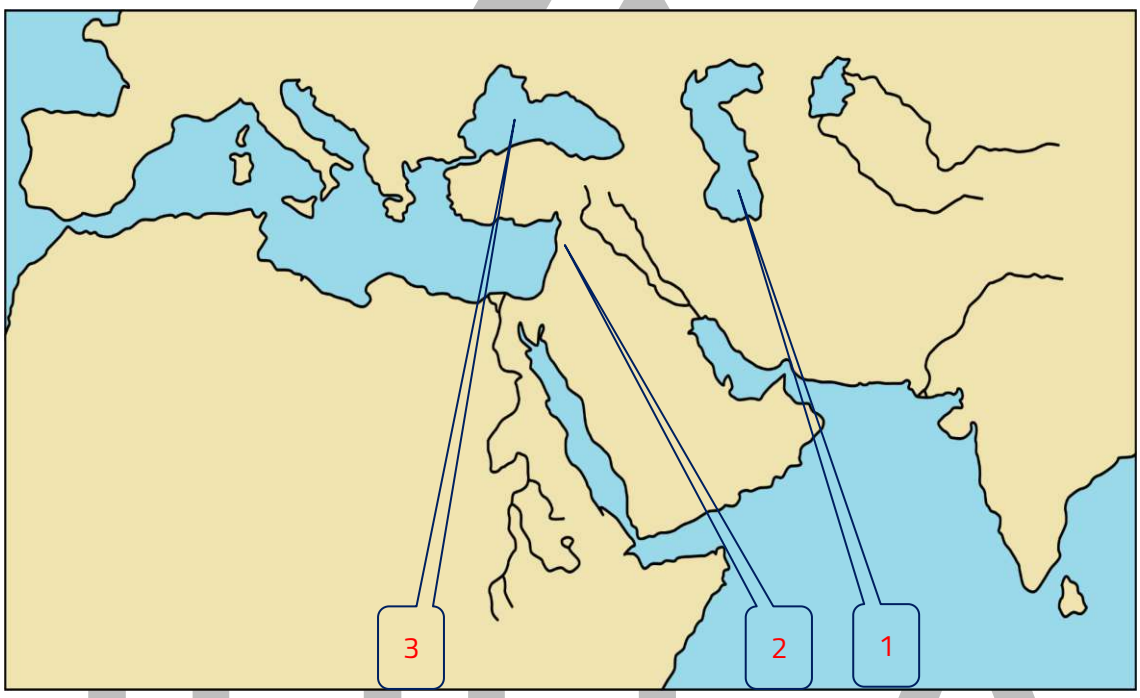

س عاصمة الدولة الأموية يمثلها على الخريطة الرقم ( )

س البحر الأسود يمثله على الخريطة الرقم ( )

س عدد – النتائج المترتبة على تطوير معاوية بن أبي سفيان للدولة من حيث الإدارة



KuwaitTeacher.Com

© جميع الحقوق محفوظة

س أكمل : الخريطة المقابلة تمثل اتساع دولة إسلامية امتدت من الصين شرقاً إلى جنوب فرنسا غرباً تسمى _ _ _ _ _ _ _ _ _ _ _

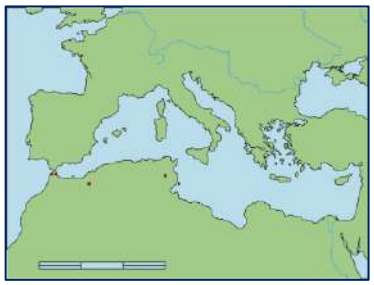

اختر الإجابة الصحيحة :

س عاصمة الدولة الأموية تسمى :

○ المدينة المنورة ○ دمشق ○ بغداد ○ القاهرة

س الدولة الإسلامية التي حققت أقصى اتساع لها من الصين شرقاً حتى جنوب فرنسا غرباً :

○ الدولة العباسية ○ الدولة العثمانية
○ الدولة الغزنوية ○ الدولة الأموية

س عدد الخلفاء الذين تعاقبوا على حكم الأمويين من البيت الأموي :

○ إحدى عشر ○ إثنى عشر
○ ثلاثة عشر ○ أربعة عشر

س عدد – النتائج المترتبة على تعاقب أربعة عشر خليفة على حكم الأمويين

_ _ _ _ _ _ _ _ _ _ _

مراحل توسع الدولة الإسلامية في العصرين الأموي والعباسي الفتوحات شرقاً (المهلب بن أبي صفرة)

س صمم مخطط سهمي للفتوحات الإسلامية في عهد الأمويين

س عدد الفتوحات الإسلامية في عهد الأمويين شرقاً

س عرف - بلاد ما وراء النهر

ممكن أن يظهر السؤال في صيغة اخرى: أكتب المصطلح

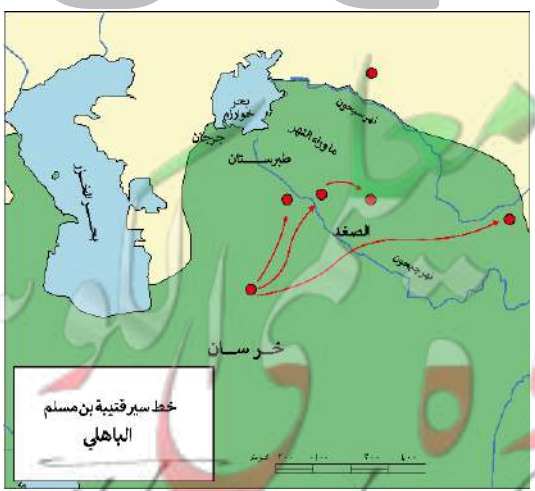

UULA.COM
© جميع الحقوق محفوظة

س لاحظ الخريطة التالية ثم نفذ المطلوب منك

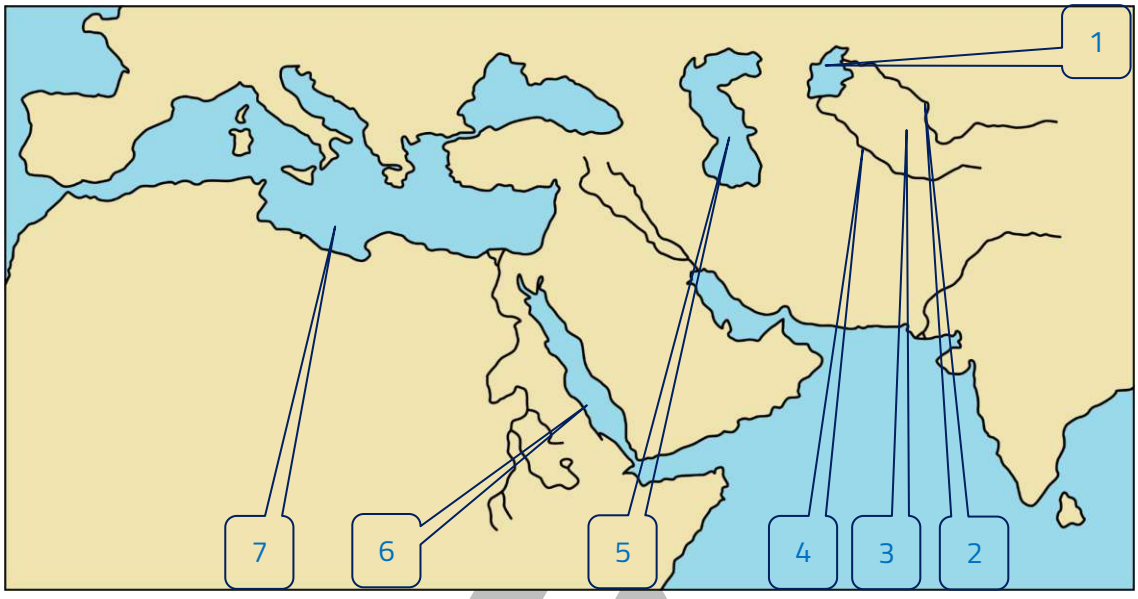

س بلاد ما وراء النهر يمثلها على الخريطة الرقم ( )

س نهر جيحون يمثله على الخريطة الرقم ( )

س بحر خوارزم يمثله على الخريطة الرقم ( )

س نهر سيحون يمثله على الخريطة الرقم ( )

س بحر الخزر يمثله على الخريطة الرقم ( )

أكمل العبارات التالية :

س فتحت بلاد ما وراء النهر في عهد الخليفة عبد الملك بن مروان وابنه _____

س والي العراق والمشرق الذي فُتحت في عهده بلاد ما وراء النهر يسمى _____

س اختياري : والي العراق الذي تحمل عبئ الفتوحات الإسلامية شرقاً في عهد الدولة الأموية :

○ المهلب بن أبي صفر ○ محمد بن القاسم
○ الحجاج بن يوسف الثقفي ○ قتيبة بن مسلم الباهلي

UULA.COM
© جميع الحقوق محفوظة
KuwaitTeacher.Com

نفذ المطلوب منك مما بين القوسين :

س فتحت بلاد ما رواء النهر على يد ثلاثة من قادة الحجاج (عدد)

أكمل العبارات التالية :

س والي العراق والمشرق الذي عين المهلب بن أبي صفرة عاملاً على خراسان يسمى _____

س القائد الذي عينه الحجاج بن يوسف الثقفي عاملاً على خراسان عام 78 هـ - 697 م يسمى _____

س العام الهجري الذي تم فيه تعيين المهلب بن أبي صفرة عاملاً على خراسان _____

س بين دور المهلب بن أبي صفرة في فتح بلاد ما وراء النهر

ممكن أن يظهر السؤال في صيغة اخرى:
(عدد – النتائج المترتبة على تعيين المهلب بن أبي صفرة عاملاً على خراسان في عام 78 هـ)

س اختياري : الدولة التي فرضت سيطرتها على أراضي كثيرة فيما وراء النهر:

○ الدولة السلجوقية ○ الدولة الأموية
○ الدولة العباسية ○ الدولة العثمانية

أكمل العبارات التالية :

س إقليم استولى عليه المهلب بن أبي صفرة في عام 78 هـ يسمى _____

س المنطقة التي غزاها المهلب بن أبي صفرة في بلاد ما وراء النهر تسمى _____

UULA
معلمي الكويت
KuwaitTeacher.Com

س دلل – فتح بلاد ما وراء النهر كان له أثر كبير في إثراء الحضارة الإسلامية

.....

س عدد النتائج المترتبة على – الفتح الإسلامي لبلاد ما وراء النهر

.....

.....

س لاحظ الخريطة التالية ثم نفذ المطلوب منك بكل دقة :

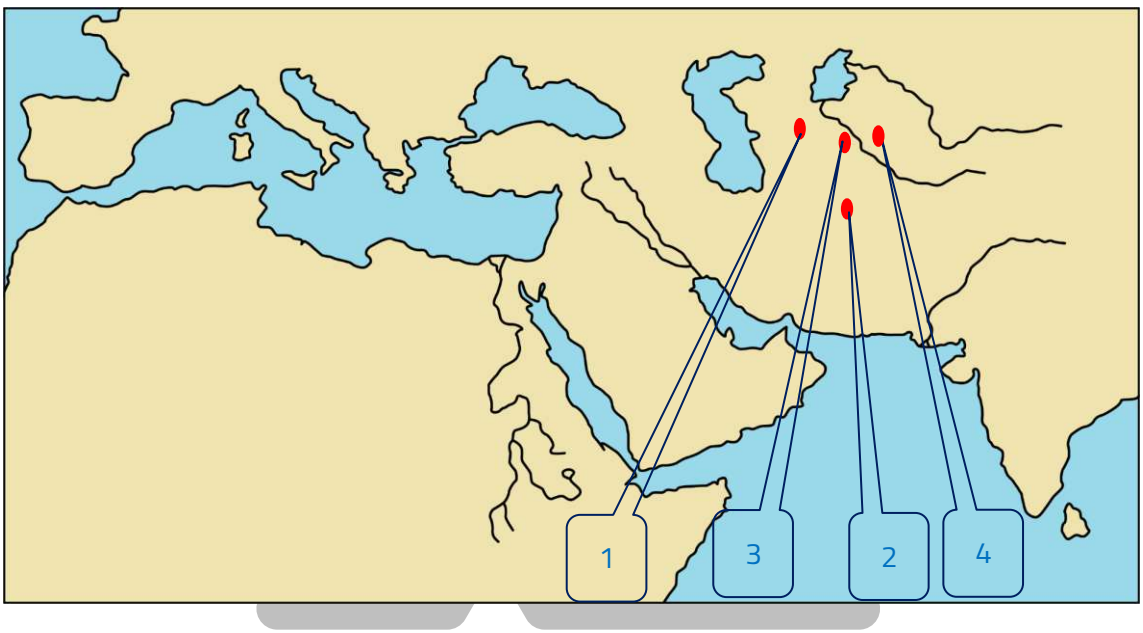

س المنطقة التي عين عليها المهلب بن أبي صفرة والياً من قبل الحجاج بن يوسف الثقفي تحمل على الخريطة الرقم ( )

س إقليم استولى عليه المهلب بن أبي صفرة يحمل على الخريطة الرقم ( )

س المنطقة التي غزاها المهلب بن أبي صفرة تحمل على الخريطة الرقم ( )

س منطقة جرجان فتحها المهلب بن أبي صفرة تحمل على الخريطة الرقم ( )

تـــدرب و تـفـوق
اختبارات الكترونية
UULA
صفوة معلمي الكويت
KuwaitTeacher.Com

مراحل توسع الدولة الإسلامية في العصرين الأموي والعباسي الفتوحات شرقا (قتيبة بن مسلم الباهلي)

أكمل العبارات التالية :

س العام الهجري الذي عين فيه الحجاج بن يوسف الثقفي قتيبة بن مسلم على خراسان وبلاد الشرق _____

س والي العراق الذي عين قتيبة بن مسلم على خراسان في 86 هـ يسمى _____

س المنطقة التي عين عليها قتيبة بن مسلم في عام 86 هـ / 705 م تسمى _____

س دلل – سار قتيبة بن مسلم الباهلي على نفس خطة المهلب بن أبي صفرة في فتح بلاد ما وراء النهر

س عدد – النتائج المترتبة على تعيين قتيبة بن مسلم عاملاً على خراسان في 86 هـ

ممكن أن يظهر السؤال في صيغ اخرى:
(أكتب فيما درست – دور قتيبة بن مسلم في فتح بلاد ما وراء النهر)
(فند العبارة " لم يكن لقتيبة بن مسلم أي دور في فتح بلاد ما وراء النهر ")

معلمي الكويت
صفوة
KuwaitTeacher.Com

© جميع الحقوق محفوظة

أكمل العبارات التالية :

س إقليم شن عليه قتيبة بن مسلم أولى حملاته العسكرية يسمى _____

س قاد قتيبة بن مسلم حملة عسكرية كبرى على منطقة تسمى _____

س بعد نجاح قتيبة بن مسلم الباهلي في فتح مدينة بيكند وتومشكت وسمرقند إتجه إلى نهر يسمى _____

س مقاطعة توغل فيها قتيبة بن مسلم الباهلي تسمى _____

س المدينة التي اتخذها قتيبة بن مسلم قاعدة إسلامية له في آسيا تسمى _____

س آخر ما وصلت إليه الجيوش الإسلامية في شرق آسيا منطقة تسمى _____

س الخليفة الأموي الذي وصلت الفتوحات في عهده للصين شرقاً يسمى _____

س دلل – دور قتيبة بن مسلم في نشر الإسلام بالمناطق المفتوحة

.....

.....

.....

س علل – اعتماد قتيبة بن مسلم على بناء المساجد لنشر الإسلام

.....

.....

.....

س أكمل : اعتمدت سياسة قتيبة بن مسلم في المناطق المفتوحة على حركة عمرانية شملت بناء _____

معلمي الكويت
صفوة
KuwaitTeacher.Com

© جميع الحقوق محفوظة

س لاحظ الخريطة التالية ثم نفذ المطلوب منك :

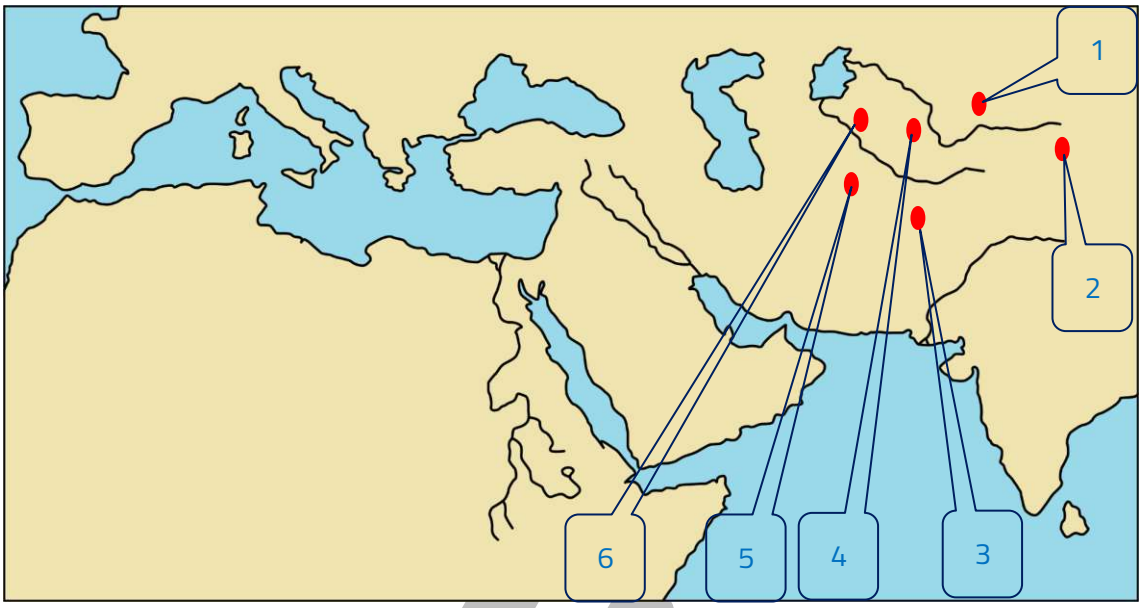

س إقليم طخارستان يحمل على الخريطة الرقم ( )

س بخارى تحمل على الخريطة الرقم ( )

س مدينة بيكند تحمل على الخريطة الرقم ( )

س سمرقند تحمل على الخريطة الرقم ( )

س آخر ما وصلت إليه الجيوش الإسلامية في شرق آسيا تحمل على الخريطة الرقم ( )

س مدينة فرغانة تحمل على الخريطة الرقم ( )

تـــدرب و تـفـوق
اختبارات الكترونية
UULA

معلمي الكويت
صفوة
KuwaitTeacher.Com

مراحل توسع الدولة الإسلامية في العصرين الأموي والعباسي الفتوحات شرقا فتح بلاد السند – محمد بن القاسم

أكمل العبارات التالية :

س القائد الذي تصدى لفتح بلاد السند يسمى _____

س القائد الذي كلفه الحجاج بن يوسف الثقفي بفتح بلاد السند يسمى _____

س العام الهجري الذي سار فيه محمد بن القاسم إلى مدينة مكران _____

س مدينة فتحت على يد محمد بن القاسم في عام 89 هـ تسمى _____

س المنطقة التي حاصرها محمد بن القاسم وفتحها بعد قتال عنيف وبنى بها المساجد تسمى _____

س عرف - الديبل

س عدد – النتائج المترتبة على فتح الديبل على يد محمد بن القاسم

UULA
معلمي الكويت
صفوة
KuwaitTeacher.Com

© جميع الحقوق محفوظة

أكمل العبارات التالية :

س النهر الذي عبره محمد بن القاسم وفاجأ داهر ملك السند يسمى _ _ _ _ _ _ _

س ملك السند الذي التقى معه محمد بن القاسم في معركة حامية يسمى

_ _ _ _ _ _ _

س البلدة التي قتل فيها الملك داهر على يد محمد بن القاسم الثقفي تسمى

_ _ _ _ _ _ _

س دلل – اهتمام محمد بن القاسم بنشر الدين الإسلامي في المناطق المفتوحة

ممكن أن يظهر السؤال في صيغة اخرى: (أكتب – دور محمد بن القاسم في الفتوحات الإسلامية)

س اختياري : معركة من خلالها أصبحت بلاد السند جزء من الدولة الإسلامية :

○ قند ○ ذات السلاسل
○ جلولاء ○ نهاوند

س عدد – النتائج المترتبة على معركة قند

اختر الكلمة التي لا تنتمي للمجموعة التالية بوضع خطا تحتها

س قادة مسلمين شاركوا في فتح بلاد ما وراء النهر :

○ المهلب بن أبي صفرة ○ قتيبة بن مسلم
○ عقبة بن نافع ○ محمد بن القاسم

معلمي الكويت
صفوة
KuwaitTeacher.Com

س دون رقم كل عبارة على الخريطة

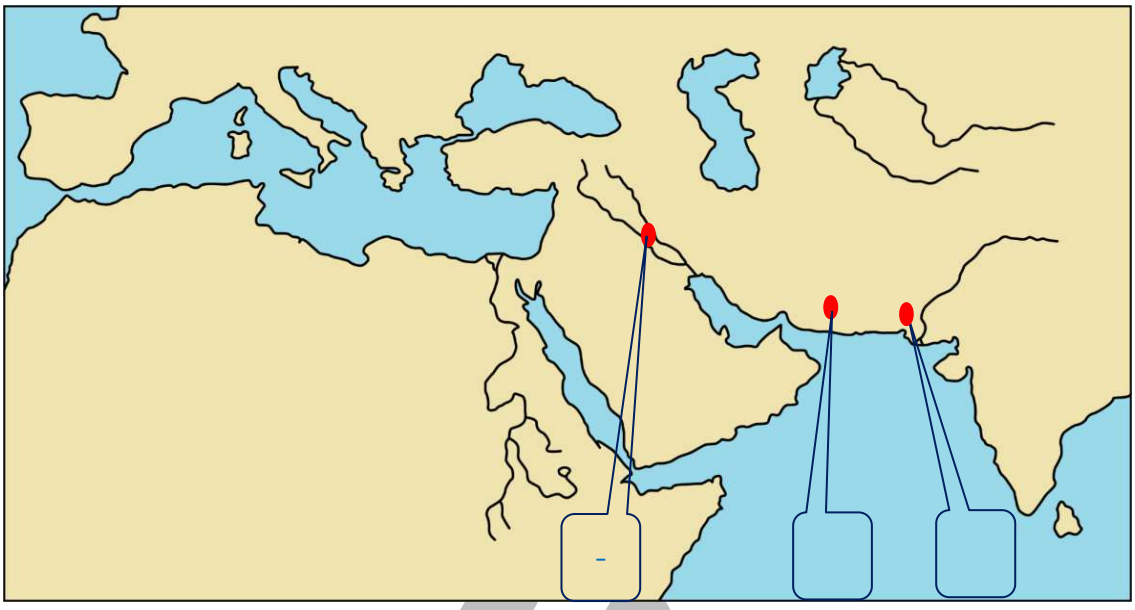

- (1) مدينة فتحها محمد بن القاسم عام 89 هـ - 707 م
- (2) منطقة الديبل مدينة كراتشي الحالية

صنف المناطق التالية حسب الجدول الآتي :

س (مكران – طبرستان – تومشكت – الديبل – فرغانة – إقليم الصغد)

المهلب بن أبي صفرة	قتيبة بن مسلم	محمد بن القاسم
_____	_____	_____
_____	_____	_____

س اختر من المجموعة (أ) ما يناسبها من المجموعة (ب) بوضع الرقم المناسب :

المجموعة (أ)	الرقم المناسب	المجموعة (ب)
1- فتح مدينة بيكند ووصل إلى كاشغر		المهلب بن أبي صفرة
2- فتح الديبل		قتيبة بن مسلم
3- غزا خوارزم وافتتح جرجان وطبرستان		محمد بن القاسم

تـــدرب و تـفـوق
اختبارات الكترونية
UULA

KuwaitTeacher.Com

مراحل توسع الدولة الإسلامية في العصرين الأموي والعباسي الفتوحات غرباً بلاد المغرب (المرحلة الأولى – المرحلة الثالثة)

س عدد – المناطق الرئيسية التي فتحها الأمويين غرباً

س اختياري : تنقسم الفتوحات غرباً في عصر الدولة الأموية إلى :

- ○ ثلاث مناطق
- ○ خمسة مناطق
- ○ أربعة مناطق
- ○ ستة مناطق

س عرف - بلاد المغرب

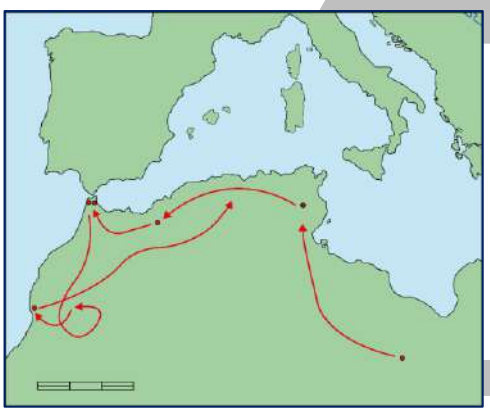

س عرف - البربر

س عدد – أشهر القبائل البربرية

س علل - تسمية العرب للبربر بهذا الاسم

معلمة الكويت
KuwaitTeacher.Com

© جميع الحقوق محفوظة

اختر الإجابة الصحيحة :

ممكن أن يظهر السؤال في صيغة اخرى: أكمل

س عدد مراحل فتح بلاد المغرب :

- ○ أربع مراحل
- ○ ست مراحل
- ○ خمس مراحل
- ○ سبع مراحل

س قائد المرحلة الأولى في فتح بلاد المغرب يسمى :

- ○ عقبة بن نافع
- ○ معاوية بن حديج
- ○ أبي المهاجر دينار
- ○ زهير بن قيس

س المرحلة الأولى من فتح بلاد المغرب كانت في عام :

- ○ 45 هـ
- ○ 55 هـ
- ○ 50 هـ
- ○ 60 هـ

س الخليفة الأموي الذي تم في عهده المرحلة الأولى في فتح بلاد المغرب :

- ○ معاوية بن أبي سفيان
- ○ عبد الملك بن مروان
- ○ يزيد بن أبي سفيان
- ○ الوليد بن عبد الملك

س مناطق قرطاجنة وبنزرت تم فتحها في المرحلة :

- ○ الأولى
- ○ الثانية
- ○ الثالثة
- ○ الرابعة

س أكمل : الدولة التي عاد لولايتها معاوية بن حديج في عام 45 هـ بعد هزيمته للبيزنطيين هي _____

س أكتب فيما درست دور معاوية بن حديج في فتح بلاد المغرب

ممكن أن يظهر السؤال في صيغ اخرى:
(دلل – لمعاوية بن حديج دور في فتح بلاد المغرب)
(فند – يرى بعض المستشرقين بأن معاوية بن حديج جهده العسكري محدود في فتح بلاد المغرب)

UULA
صفوة معلمي الكويت
KuwaitTeacher.Com

© جميع الحقوق محفوظة

اختر الإجابة الصحيحة :

ممكن أن يظهر السؤال في صيغة اخرى: أكمل

س قائد المرحلة الثانية في فتح بلاد المغرب يسمى :

- ○ معاوية بن حديج
- ○ عقبة بن نافع
- ○ حسان بن النعمان
- ○ زهير بن قيس

س المرحلة الثانية من فتح بلاد المغرب كانت في عام :

- ○ 45 هـ
- ○ 49 هـ
- ○ 55 هـ
- ○ 62 هـ

أكمل العبارات التالية :

س بدأت فتوحات عقبة بن نافع في المرحلة الثانية بفتح منطقة تسمى _____

س القائد المسلم الذي رأى أن أهل أفريقيا من البربر يدخلون في طاعة المسلمين طالما بقى المسلمون في بلادهم يسمى _____

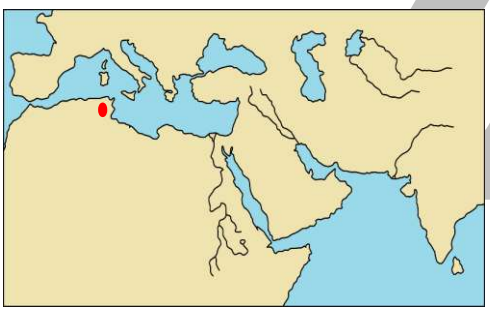

س المدينة التي أنشأ فيها عقبة بن نافع قاعدة عربية إسلامية في أفريقيا تسمى _____

س العام الهجري الذي اختط فيه عقبه بن نافع مدينة القيروان _____

UULA
معلمي الكويت
صفوة
KuwaitTeacher.Com

© جميع الحقوق محفوظة

س لاحظ الخريطة التالية ثم نفذ المطلوب منك :

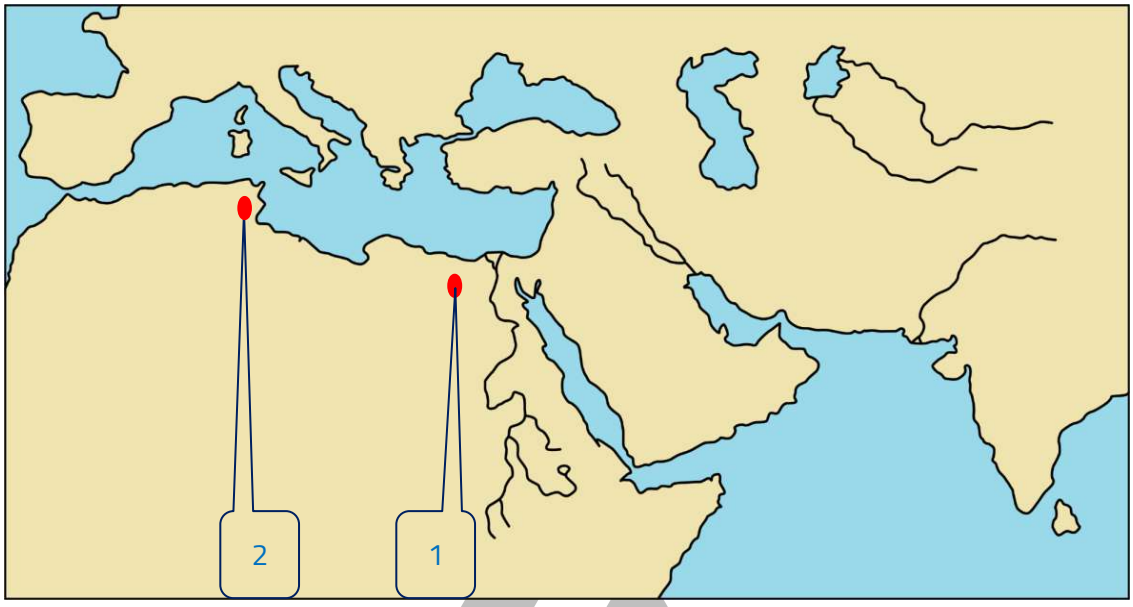

س مدينة أنشأها عقبة بن نافع تحمل على الخريطة الرقم ( )

س علل – بناء مدينة القيروان في شمال أفريقيا

س أكتب دور عقبة بن نافع في المرحلة الثانية من فتح بلاد المغرب

UULA
معلمي الكويت
صفوة
KuwaitTeacher.Com

© جميع الحقوق محفوظة

اختر الإجابة الصحيحة :

ممكن أن يظهر السؤال في صيغة اخرى: أكمل

س قائد المرحلة الثالثة من فتح بلاد المغرب يسمى :

- ○ معاوية بن حديج
- ○ عقبة بن نافع
- ○ أبي المهاجر دينار
- ○ زهير بن قيس

س العام الهجري الذي تولى فيه أبي المهاجر دينار قيادة المرحلة الثالثة من فتح بلاد المغرب :

- ○ 49 هـ
- ○ 55 هـ
- ○ 62 هـ
- ○ 64 هـ

س القائد الذي شارك في فتح بلاد المغرب وتميز بالدهاء وحسن السياسة يسمى :

- ○ موسى بن نصير
- ○ عقبة بن نافع
- ○ زهير بن قيس
- ○ أبي المهاجر دينار

س القائد الذي استخدم سياسة اللين مع القبائل البربرية يسمى :

- ○ أبي المهاجر دينار
- ○ عقبة بن نافع
- ○ معاوية بن حديج
- ○ زهير بن قيس

س المدينة التي استولى عليها أبو المهاجر دينار عام 55 هـ - 674 م هي :

- ○ قرطاجنة
- ○ بنزرت
- ○ طنجة
- ○ تلمسان

س أكمل : زعيم البربر الذي دخل في الإسلام مع قومه في عام 55 هـ - 674 م يسمى _____

س عدد – الآثار المترتبة على سياسة اللين التي اتبعها أبي المهاجر دينار مع البربر

ممكن أن يظهر السؤال في صيغة اخرى:
(فند العبارة - اتبع أبي المهاجر دينار سياسة القسوة في التعامل مع البربر)

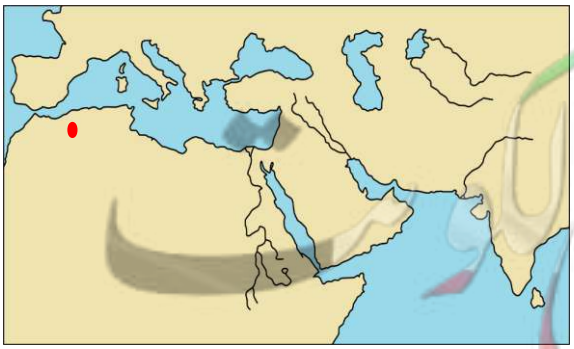

UULA.COM
© جميع الحقوق محفوظة
KuwaitTeacher.Com

س لاحظ الخريطة التالية ثم نفذ المطلوب منك :

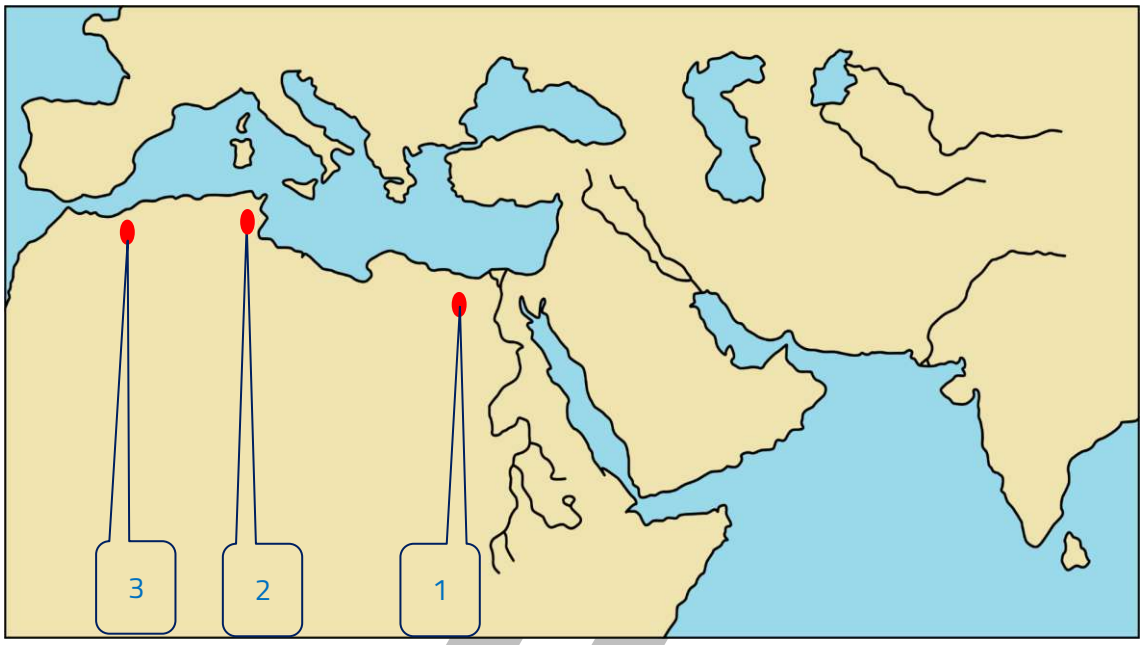

س مدينة استولى عليها أبي المهاجر دينار تحمل على الخريطة الرقم ( )

تـــدرب و تـفـوق
اختبارات الكترونية

UULA
معلمي الكويت
صفوة
KuwaitTeacher.Com

© جميع الحقوق محفوظة

مراحل توسع الدولة الإسلامية في العصرين الأموي والعباسي الفتوحات غرباً بلاد المغرب (المرحلة الرابعة – المرحلة السادسة)

أكمل العبارات التالية :

س العام الهجري الذي تولى فيه عقبة نافع قيادة المرحلة الرابعة _____

س العام الهجري الذي تولى فيه عقبة بن نافع الولاية الثانية لفتح بلاد المغرب _____

س أقصى مدينة وصلت إليها جيوش عقبة بن نافع في المغرب تسمى _____

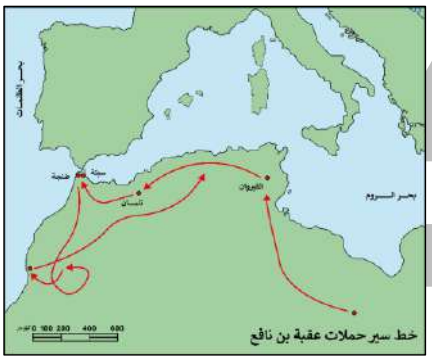

س المسطح المائي التي تطل عليه مدينة طنجة يسمى _____

س المدينة التي استشهد عندها القائد عقبة بن نافع تسمى _____

س القائد المسلم الذي استشهد عند مدينة تهوده عام 64 هـ يسمى _____

اختر الإجابة الصحيحة :

س العام الهجري الذي استشهد فيه عقبة بن نافع :

- ○ 49 هـ
- ○ 55هـ
- ○ 62 هـ
- ○ 64 هـ

س عادت القيروان مرة أخرى تحت سيطرة البربر في المرحلة :

- ○ الأولى
- ○ الثانية
- ○ الثالثة
- ○ الرابعة

معلمة الكويت
KuwaitTeacher.Com

© جميع الحقوق محفوظة

س فرق بين كل من :

الولاية الأولى لعقبة بن نافع	الولاية الثانية لعقبة بن نافع
▪ ---------- ▪ ---------- ▪ ---------- ▪ ----------	▪ ---------- ▪ ---------- ▪ ---------- ▪ ----------

س ارسم خط سير حملات عقبة بن نافع على الخريطة المقابلة

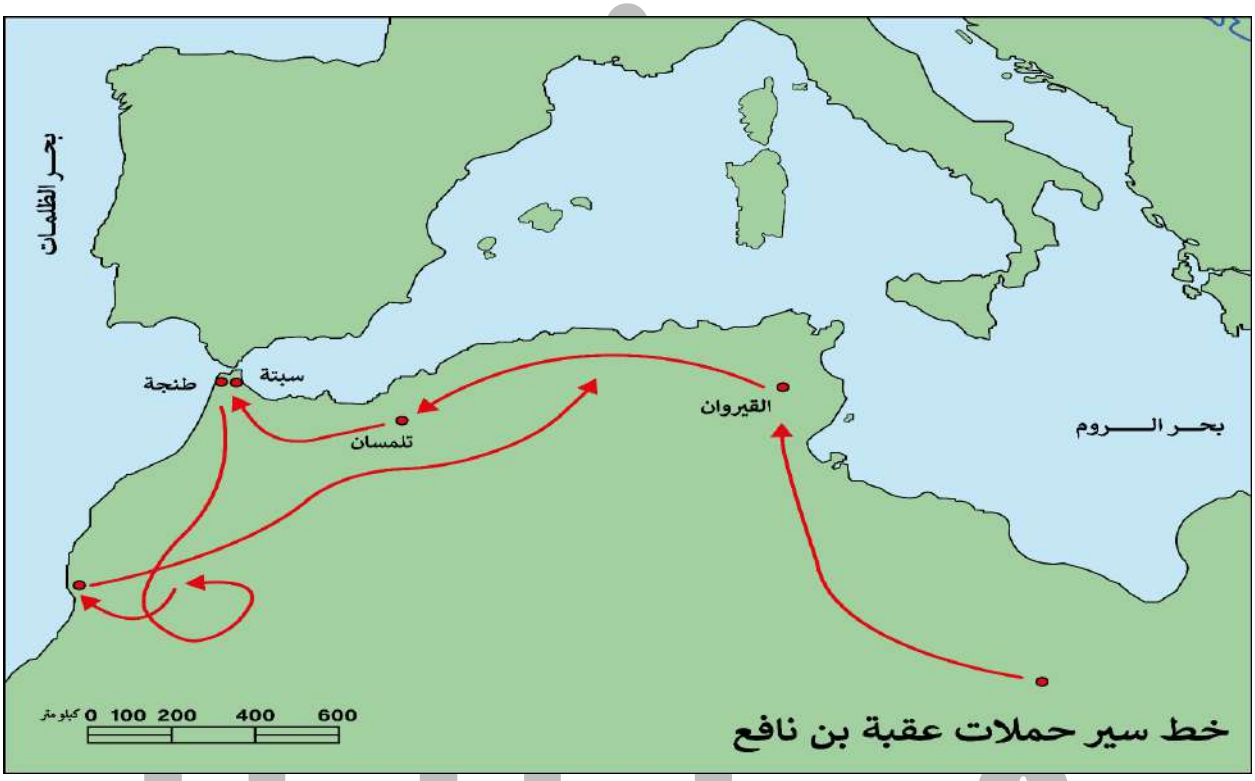

UULA
معلمي الكويت
صفوة
KuwaitTeacher.Com

© جميع الحقوق محفوظة

س لاحظ الخريطة التالية ثم نفذ المطلوب منك :

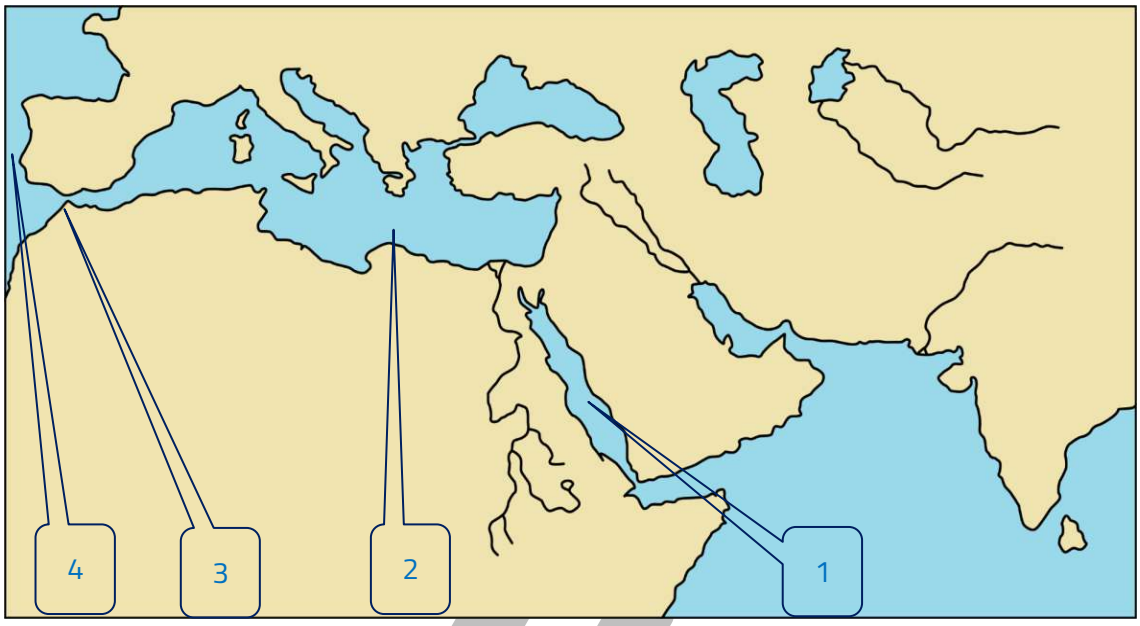

س بحر الروم يحمل على الخريطة يمثله الرقم ( )

س بحر الظلمات يحمل على الخريطة الرقم ( )

س المدينة التي وصل إليها عقبة بن نافع في أقصى المغرب تحمل على الخريطة الرقم ( )

س بحر القلزم يمثل على الخريطة الرقم ( )

أكمل العبارات التالية :

س قائد المرحلة الخامسة في فتح بلاد المغرب يسمى _____

س العام الهجري الذي تولى فيه زهير بن قيس البلوي قيادة المرحلة الخامسة _____

س القائد المسلم الذي نجح في استعادة القيروان عام 64 هـ يسمى _____

س المرحلة التي شهدت استرجاع القيروان من أيدي البربر هي _____

س العام الهجري الذي قتل فيه كسيلة قائد البربر _____

س استشهد زهير بن قيس ونفر ممن معه قرب منطقة تسمى _____

UULA
معلمي الكويت
KuwaitTeacher.Com

©جميع الحقوق محفوظة

س أكتب دور زهير بن قيس في فتح بلاد المغرب

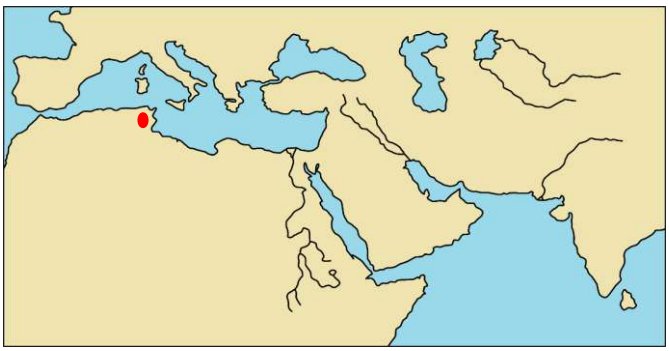

س اختياري : قائد المرحلة السادسة في فتح بلاد المغرب يسمى :

ممكن أن يظهر السؤال في صيغة اخرى: أكمل

- ○ زهير بن قيس
- ○ موسى بن نصير
- ○ حسان بن النعمان
- ○ معاوية بن حديج

أكمل العبارات التالية :

ممكن أن يظهر السؤال في صيغة اخرى: اختياري

س العام الهجري الذي تولى فيه حسان بن النعمان قيادة المرحلة السادسة من فتح بلاد المغرب _____

س زعيمة البربر التي دخلت في معركة شديدة مع حسان بن النعمان تسمى _____

س القائد المسلم الذي أنشأ مدينة تونس يسمى _____

س المدينة التي أنشأها حسان بن النعمان في شمال أفريقيا تسمى _____

س المسجد الذي أنشأه حسان بن النعمان في مدينة تونس يسمى _____

UULA
معلمي الكويت
صفوة
KuwaitTeacher.Com

© جميع الحقوق محفوظة

س دلل – للقائد حسان بن النعمان دور في نشر الإسلام في بلاد المغرب

ممكن أن يظهر السؤال في صيغة اخرى:
(علل – يعتبر حسان بن النعمان هو الفاتح الحقيقي لبلاد المغرب العربي)

فسر – علل

س اهتمام حسان بن النعمان بنشر اللغة العربية وتوزيع الفقهاء بين القبائل البربرية

س ما هي أوجه الشبه بين الأساليب التي اتبعها كل من قتيبة بن مسلم الباهلي في المشرق وحسان بن النعمان في المغرب

س من خلال دراستك لموضوع (فتوحات الدولة الأموية) كون فقرة مناسبة باستخدام الكلمات التالية :
(حسان بن النعمان – مدينة تونس – الكاهنة – البربر)

UULA

تـــدرب و تـفـوق
اختبارات الكترونية

صفوة الكويت
KuwaitTeacher.Com

مراحل توسع الدولة الإسلامية في العصرين الأموي والعباسي الفتوحات غرباً بلاد المغرب (المرحلة السابعة)

اختر الإجابة الصحيحة :

س قائد المرحلة السابعة من فتح بلاد المغرب هو :

- ○ طارق بن زياد
- ○ موسى بن نصير
- ○ حسان بن النعمان
- ○ معاوية بن حديج

س الفترة التي تولى فيها موسى بن نصير ولاية المغرب من قبل الخليفة الوليد بن عبد الملك تمثل على المخطط الزمني الحرف :

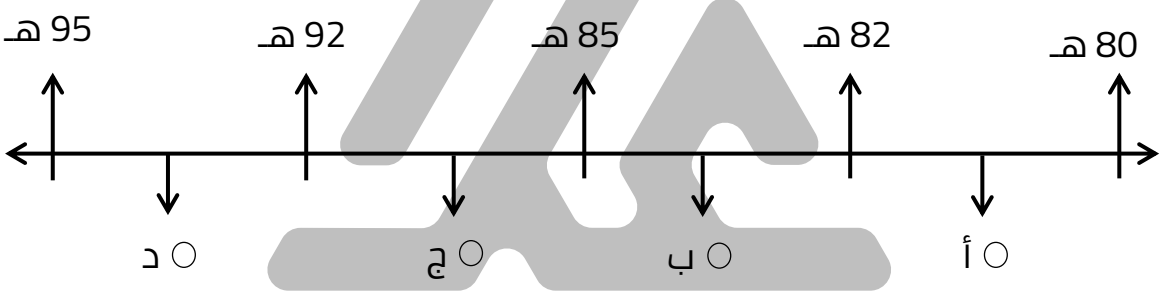

س الفترة التي تولى فيها موسى بن نصير ولاية المغرب من قبل الخليفة الوليد بن عبد الملك تمثل على المخطط الزمني الحرف :

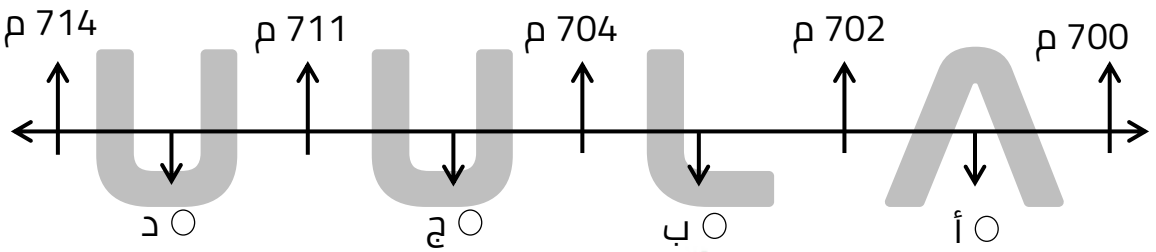

س الخليفة الأموي الذي ولى موسى بن نصير على المغرب يسمى :

- ○ يزيد بن أبي سفيان
- ○ هشام بن عبد الملك
- ○ عبد الملك برن مروان
- ○ الوليد بن عبد الملك

KuwaitTeacher.Com

©جميع الحقوق محفوظة

أكمل العبارات التالية :

س القائد المسلم الذي نجح في فتح المغرب كله ولم يستعص عليه سوى مدينة سبتة يسمى _____

س المدينة التي استعصت على موسى بن نصير في فتحها ببلاد المغرب تسمى _____

س القائد الذي عينه موسى بن نصير على حامية طنجة يسمى _____

س حامية عين عليها موسى بن نصير قائده طارق بن زياد تسمى _____

س دلل – كان فتح المغرب من أعظم الفتوح التي قام بها المسلمون

س علل – تأخر المسلمون في فتح المغرب

ممكن أن يظهر السؤال في صيغ اخرى:
(فند العبارة – كان فتح المغرب بالأمر السهل على المسلمين)
(فند – بسطت الدولة الأموية سيطرتها على بلاد المغرب بزمن قياسي بمساندة وتأييد البربر)

س أكتب فقرة مترابطة تتكون من ثلاثة أسطر مستعيناً بالكلمات التالية :
بلاد المغرب – الدولة البيزنطية – القبائل البربرية – وعورة التضاريس – محاربة المسلمين

UULA
معلمي الكويت
صفوة
KuwaitTeacher.Com

© جميع الحقوق محفوظة

س اختياري : الحرف الذي يمثل قادة فتح بلاد المغرب :

○ (1, 2 , 3)　　○ (1, 2, 4)
○ (1, 3, 4)　　○ (2 , 3 , 4)

1	معاوية بن حديج
2	أبو المهاجر دينار
3	عبد الرحمن الغافقي
4	موسى بن نصير

س قارن بين كل من :

وجه المقارنة	المرحلة الأولى لفتح بلاد المغرب	المرحلة الخامسة لفتح بلاد المغرب
السنة	_____	_____
القائد	_____	_____
المدن التي فتحت	_____	_____

س اختر من المجموعة (أ) ما يناسبها من المجموعة (ب) بوضع الرقم في المكان المناسب :

المجموعة (أ)	الرقم المناسب	المجموعة (ب)
1- مؤسس مدينة القيروان		حسان بن النعمان
2- فتح مدينتي قرطاجنة وبنزرت		زهير بن قيس البلوي
3- أنشأ مدينة تونس		عقبة بن نافع الفهري
4- استولى على مدينة تلمسان		معاوية بن حديج
		أبي المهاجر دينار

صفوة الكويت
KuwaitTeacher.Com

س لاحظ خريطة العالم الإسلامي التي أمامك ثم نفذ المطلوب مما يليها :

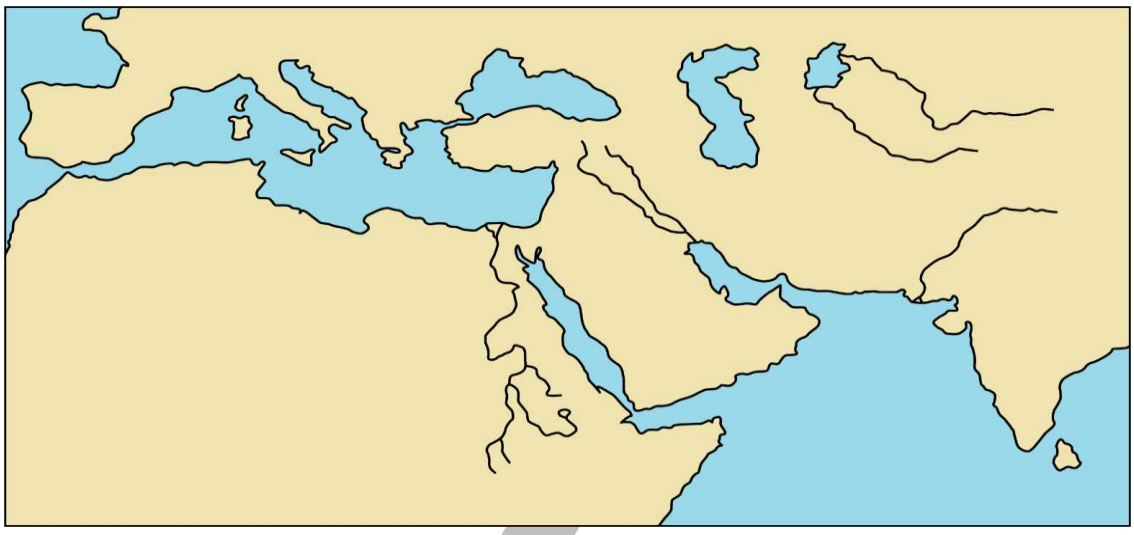

حدد كل مما يلي على الخريطة :

س بحر القلزم بالرمز ←

س بلاد ما وراء النهر بالرمز △

س منطقة تسكنها قبائل البربر بالرمز ○

UULA
معلمي الكويت
صفوة
KuwaitTeacher.Com

© جميع الحقوق محفوظة

مراحل توسع الدولة الإسلامية في العصرين الأموي والعباسي الفتوحات غرباً فتح الأندلس

س علل - يعتبر فتح الأندلس تاجاً لفتوح المسلمين في الغرب

.....

.....

حدد – على خريطة العالم الإسلامي

س منطقة كانت تاجاً لفتوح المسلمين غرباً بالرمز ◯

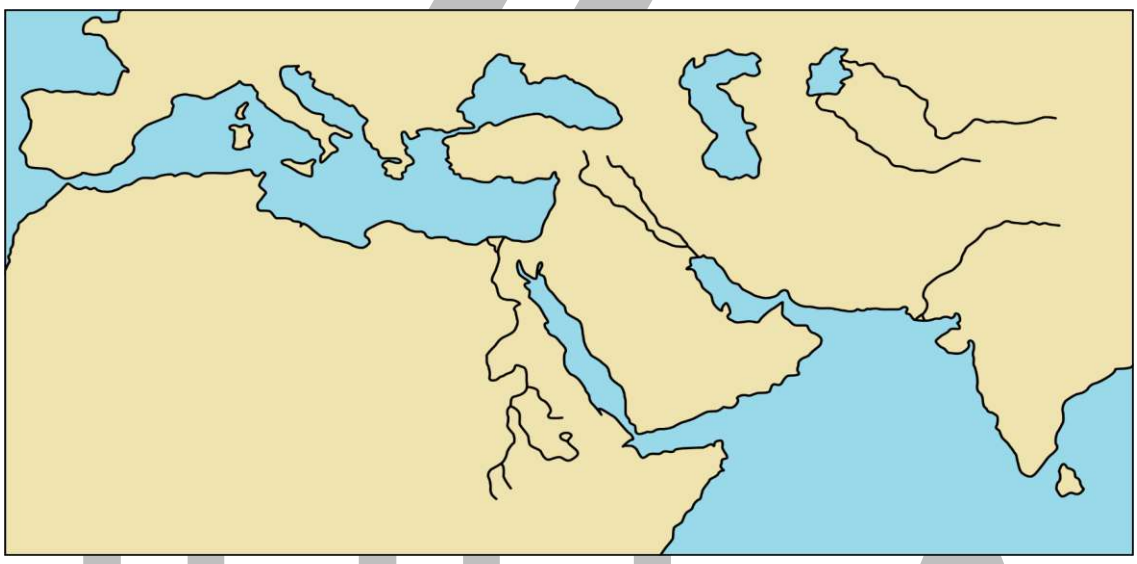

أكمل العبارات التالية :

ممكن أن يظهر السؤال في صيغة اخرى: اختياري

س والي المغرب الذي طلب من الخليفة الوليد بن عبد الملك فتح الأندلس يسمى

.....

س الخليفة الذي وافق على طلب موسى بن نصير بفتح الأندلس بشرط أن يختبرها بالسرايا أولاً يسمى

.....

س القائد الذي أرسله موسى بن نصير لاختبار أرض الأندلس سنة 91 هـ يسمى

.....

معلم الكويت
KuwaitTeacher.Com

© جميع الحقوق محفوظة

س الجزيرة التي نزل بها القائد طريف بن مالك المعافري عند فتح الأندلس تسمى _____

س القائد المسلم الذي نزل بجزيرة لا س بالوس بالقرب من مدينة سميت فيما بعد باسمه يسمى _____

س مدينة تقع بالقرب من جزيرة لاس بالوس وسميت على اسم قائم مسلم تسمى _____

س العام الهجري الذي نزل فيه طريف بن مالك جزيرة لاس بالوس _____

س علل - ارسال موسى بن نصير طريف بن مالك الى الأندلس

ممكن أن يظهر السؤال في صيغة اخرى: (علل – عدم توغل حملة طريف بن مالك في أرض الأندلس)

س فسر – إرسال طريف بن مالك على رأس حملة لبلاد الأندلس عام 91 هـ - 710 م

اختر الإجابة الصحيحة :

س القائد الذي أرسله موسى بن نصير لفتح الأندلس عام 92 هـ - 711 م :

- ○ طارق بن زياد
- ○ طريف بن مالك
- ○ حسان بن النعمان
- ○ عقبة بن نافع

س عدد البربر في جيش القائد طارق بن زياد لفتح الأندلس عام 92 هـ :

- ○ 5 آلاف
- ○ 6 آلاف
- ○ 7 آلاف
- ○ 8 آلاف

س المدينة الأسبانية التي استولى عليها طارق بن زياد في عام 92 هـ - 711 م تسمى :

- ○ قرطاجنة
- ○ طليطلة
- ○ اشبيلية
- ○ غرناطة

UULA
معلمي الكويت
صفوة
KuwaitTeacher.Com

© جميع الحقوق محفوظة

أكمل العبارات التالية :

س جزيرة اتجه إليها غرباً طارق بن زياد بعد الاستيلاء على مدينة قرطاجنة تسمى_ _ _ _ _ _ _ _ _ _ _

س ملك القوط الذي استعد لمواجهة طارق بن زياد بجيش قوامه مائة ألف يسمى _ _ _ _ _ _

س حكام الأندلس قبل دخول المسلمين هم _ _ _ _ _ _

س ما الإجراء الذي اتخذه طارق بن زياد لمواجهة جيش الملك لذريك

أكمل العبارات التالية :

س المعركة التي تقابل فيها لذريك ملك القوط مع القائد طارق بن زياد عام 92 هـ تسمى _ _ _ _ _ _ _ _ _ _ _ _

س العام الهجري الذي وقعت فيه أحداث معركة شذونة (وادي لكة) _ _ _ _ _ _

س عدد – نتائج معركة شذونة – وادي لكة عام 92 هـ

UULA
معلمي الكويت
صفوة
KuwaitTeacher.Com

© جميع الحقوق محفوظة

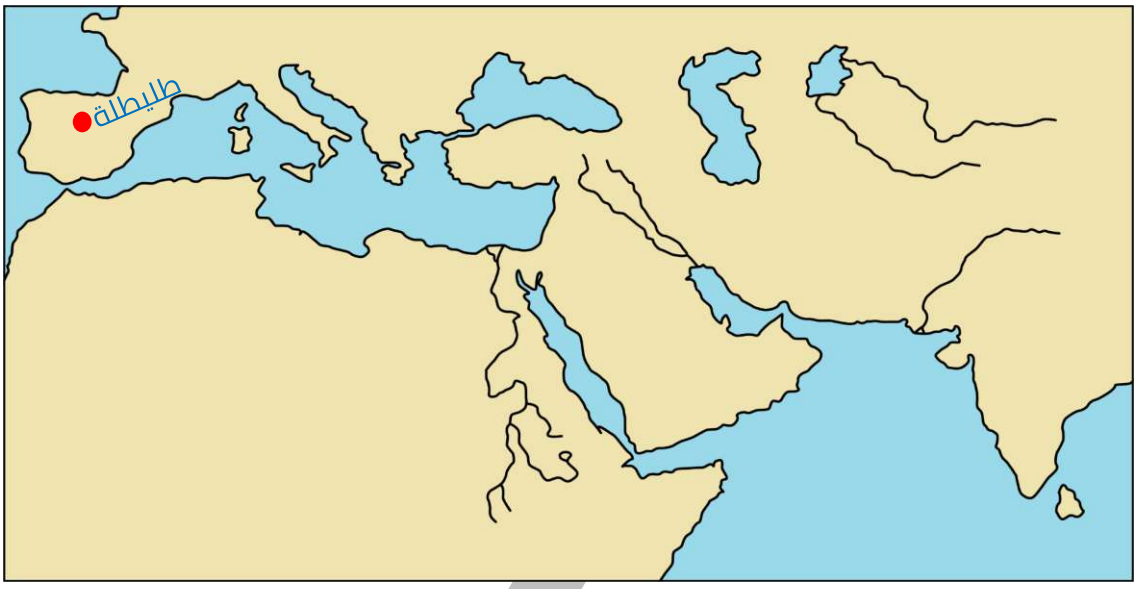

اختر الإجابة الصحيحة :

س معركة انتصر فيها المسلمون سنة 92 هـ على القوط هي :

- ○ القادسية
- ○ شذونة
- ○ اليرموك
- ○ تور بواتييه

س العام الهجري الذي فتحت فيه مدينة طليطلة على يد المسلمين :

- ○ 92 هـ
- ○ 93 هـ
- ○ 94 هـ
- ○ 95 هـ

س عاصمة القوط التي سقطت في أيدي المسلمين عام 93 هـ تسمى :

- ○ طليطلة
- ○ قرطبة
- ○ ماردة
- ○ غرناطة

س القائد المسلم الذي عبر من المغرب إلى الأندلس في جيش ضخم من 18 ألف سنة 95 هـ / 714 م لاستكمال الفتوحات يسمى :

- ○ طارق بن زياد
- ○ موسى بن نصير
- ○ طريف بن مالك
- ○ عبد الرحمن الغافقي

س فسر – سار موسى بن نصير في بلاد الأندلس في طريق غير طريق طارق بن زياد

UULA
معلمي الكويت
Kuwaitteacher.Com

© جميع الحقوق محفوظة

س عدد – المناطق التي فتحها موسى بن نصير في بلاد الأندلس



صنف المناطق التالية حسب قادة الفتح كما هو موضح في الجدول :

س ماردة – الديبل – بيكند – جرجان

محمد بن القاسم	قتيبة بن مسلم	موسى بن نصير

أكمل العبارات التالية :

س المدينة التي تقابل فيها موسى بن نصير مع القائد طارق بن زياد وتسلم فيها موسى قيادة الفتوحات تسمى _____

س الخليفة الذي استدعى موسى بن نصير مع طارق بن زياد للعودة إلى الشام يسمى _____

س والي الأندلس سنة 95 هـ / 714 م يسمى _____

س عاد موسى بن نصير وطارق بن زياد من الأندلس إلى مدينة تسمى _____

س الخليفة الأموي الذي افتتحت الأندلس في عهده يسمى _____

UULA
معلمي الكويت
صفوة
KuwaitTeacher.Com

© جميع الحقوق محفوظة

س أكمل الجدول الناقص

معركة شذونة (وادي لكة)	
السنة	_____
الأطراف	_____
القادة	_____
النتائج	▪ _____ ▪ _____ ▪ _____

س عدد النتائج المترتبة على – انتصار المسلمين على القوط عام 92 هـ / 711 م

س علل – انتصار المسلمين في معركة شذونة – وادي لكة 92 هـ - 711 م

تـــدرب و تـفـوق
اختبارات الكترونية
UULA
UULA
معلمي الكويت
صفوة
KuwaitTeacher.Com

© جميع الحقوق محفوظة

مراحل توسع الدولة الإسلامية في العصرين الأموي والعباسي الفتوحات غرباً (فتح بلاد الغالة وعوامل سقوط الدولة الأموية)

س عرف - الغالة

س علل – لم يكن فتح الأندلس آخر أعمال المسلمين العسكرية في الجناح الغربي لدولة الإسلام

ممكن أن يظهر السؤال في صيغه اخرى:
فند – كان فتح الأندلس آخر أعمال المسلمين العسكرية في الجناح الغربي لدولة الإسلام

أكمل العبارات التالية :

س يطلق على جبال البرت اسم _____

س أشهر الحملات العسكرية الإسلامية وأهمها على الإطلاق في بلاد الغالة تسمى _____

س العام الهجري لحملة عبد الرحمن الغافقي في بلاد الغالة _____

س من المناطق التي فتحها عبد الرحمن الغافقي في بلاد الغالة بوردو و _____

س ملك الفرنجة الذي تصدى لحملة عبد الرحمن الغافقي يسمى _____

UULA
معلمي الكويت
KuwaitTeacher.Com

© جميع الحقوق محفوظة

س المدينة التي التقى فيها جيشان شارل مارتل وعبد الرحمن الغافقي تسمى _____

س أطلق المسلمون على الطريق الذي يقع بين مدينتي بواتيه وتور اسم _____

س تعرف معركة بلاط الشهداء عند الفرنجة باسم _____

س تعرف معركة تور بواتييه عند المسلمين باسم _____

س تعرف معركة تور بواتييه عند المسلمين باسم _____

س علل – يطلق المسلمون اسم بلاط الشهداء على معركة تور بواتييه

س فند العبارة " نجاح حملة عبد الرحمن الغافقي في فتح جنوب فرنسا 114 هـ "

س ماذا يحدث لو - انتصر المسلمون في معركة بلاط الشهداء عام 114 هـ

س اختياري : القائد المسلم الذي قاد حملة لفتح بلاد الغال :

○ محمد بن القاسم ○ قتيبة بن مسلم
○ زهير بن قيس البلوي ○ عبد الرحمن الغافقي

س أكمل الجدول الناقص

معركة توربواتييه (بلاط الشهداء) 114هـ	
الأطراف	_____
القادة	_____
النتائج	: _____ : _____ : _____

KuwaitTeacher.Com

س علل - سقوط الدولة الأموية

ممكن أن يظهر السؤال في صيغ اخرى:
(عدد عوامل سقوط الدولة الأموية)
(دلل – على الرغم من الجهود الكبيرة التي قدمتها الدولة الأموية في خدمة الإسلام والمسلمين إلا أنها واجهت العديد من العوامل التي أدت إلى لانهيارها)
(ما تفسيرك للحدث التالي - إنهيار الدولة الأموية في بلاد الشام بعد فترة حكم استمرت 90 عام)

س عرف - الموالي

س علل – خروج الموالي على الدولة الأموية

س عدد – النتائج المترتبة على تعصب الأمويين للعنصر العربي خلال فترة حكمهم

فسر

س ضعف هيبة الخلافة الأموية

س الانقسام بين أفراد البيت الأموي

أكمل العبارات التالية :

س الخليفة الأموي الذي ظهر في عهده روح العصبية بين القبائل العربية يسمى _____

س الخليفة الأموي الذي لقب بخامس الخلفاء الراشدين يسمى _____

UULA.COM
KuwaitTeacher.Com

© جميع الحقوق محفوظة

س آخر الخلفاء الأمويين الذي عجز عن إخماد ثورة العباسيين يسمى

_ _ _ _ _ _ _ _ _ _ _ _ _ _ _

س آخر خلفاء الدولة الأموية يسمى _

س عدد – النتائج المترتبة على سقوط الدولة الأموية

س أكمل : العصر الإسلامي الذي ظهر بعد سقوط الدولة الأموية يسمى

_ _ _ _ _ _ _ _ _ _ _ _ _ _ _

س مخطط خلفاء بني أميه

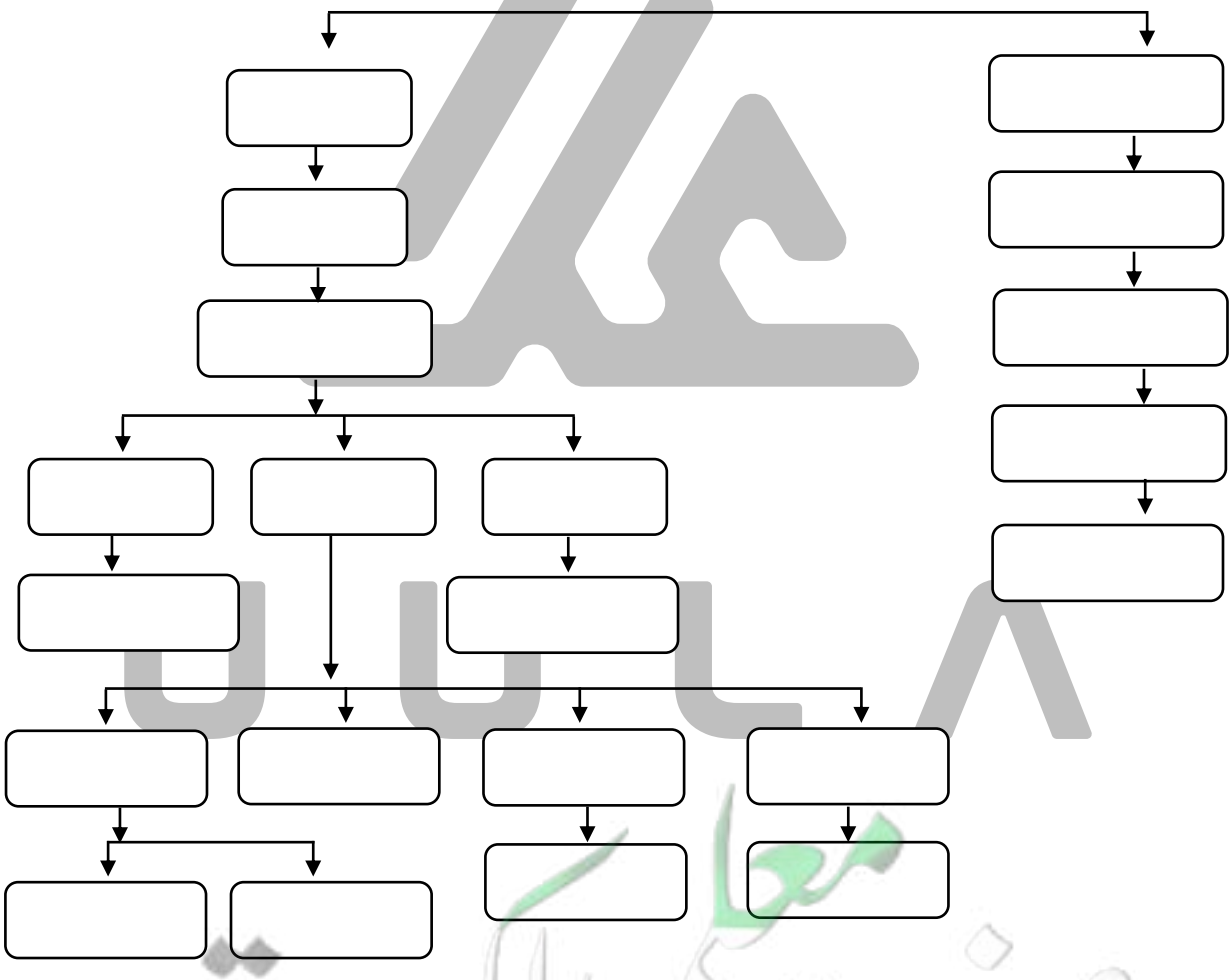

معلمي الكويت
صفوة
KuwaitTeacher.Com

© جميع الحقوق محفوظة

اقرأ النص التالي ثم استنتج منه المطلوب :

((حققت الدولة الأموية العديد من الإنجازات الكبرى وأصبحت من أكبر الدول مساحة حيث امتدت من حدود بلاد الصين شرقاً إلى بلاد الأندلس غرباً كما بذلوا الجهود لفتح جنوب فرنسا , هذا العمل توج بنهضة علمية وسياسية واقتصادية واسعة ساهمت فيها شخصيات مختلفة منهم عبد الملك بن مروان , قتيبة بن مسلم , طارق بن زياد وغيرهم الكثير , وبرز العنصر العربي وأصبح له الشأن الأول والمناصب العليا لدرجة التعصب للعنصر العربي . هذه الدولة العظيمة قادة العالم لحوالي قرن من الزمان بعمل مستمر وإنجازات متتالية)) .

س موقع بلاد غالة حالياً : _____

س خليفة أموي : _____

س قائد ساهم في فتح بلاد الأندلس : _____

س عامل من عوامل سقوط الدولة الأموية : _____

تـــدرب و تـفـوق
اختبارات الكترونية

UULA
معلمي الكويت
صفوة
KuwaitTeacher.Com

©جميع الحقوق محفوظة

مراحل توسع الدولة الإسلامية في العصرين الأموي والعباسي الدولة العباسية (132هـ – 656هـ) (750م – 1258 م)

اختر الإجابة الصحيحة :

س الفترة الزمنية لامتداد حكم الدولة العباسية يمثلها الحرف :

○ 41 هـ - 132 هـ ○ 138 هـ - 422 هـ
○ 132 هـ - 656 هـ ○ 297 هـ - 867 هـ

س فترة حكم الدولة العباسية يمثلها على المخطط الزمني الحرف:

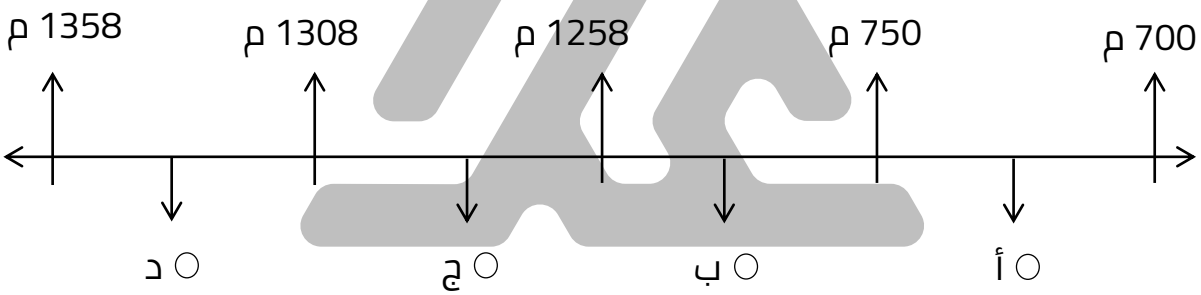

س عدد – عوامل انتقال السلطة من الدولة الأموية إلى الدولة العباسية

ممكن أن يظهر السؤال في صيغ اخرى:
(علل - يعتبر عهد الخليفة مروان بن محمد هو بداية انهيار الدولة الأموية)
(نفذ المطلوب منك : أحوال الدولة الإسلامية في عهد مروان بن محمد)
(أذكرها - صف)

س أكمل : آخر الخلفاء الأمويين الذي سقطت في عهده الدولة الأموية هو

معلمي الكويت
صفوة
KuwaitTeacher.Com

جميع الحقوق محفوظة ©

س اختياري : فترة حكم الخليفة الأموي مروان بن محمد تمثل على المخطط الزمني الحرف

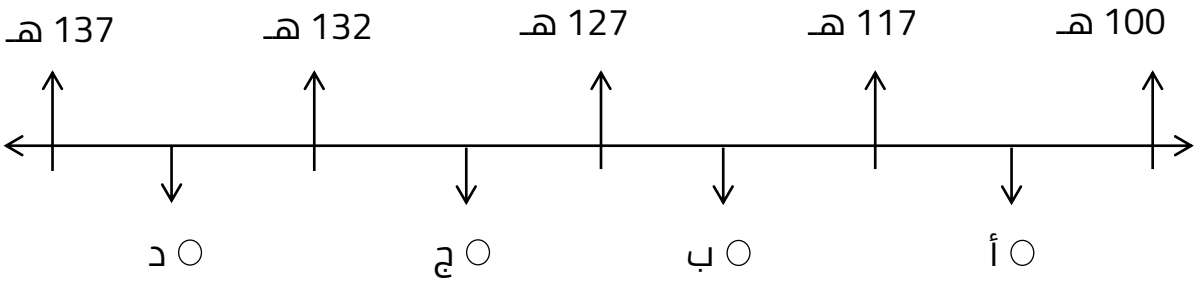

أكمل العبارات التالية :

س أعظم الفتن التي ظهرت في عهد الدولة الأموية تسمى _ _ _ _ _ _ _ _ _ _

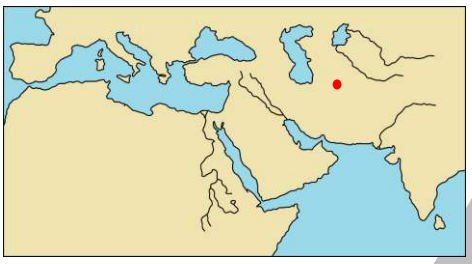

س مدينة تعتبر هي مركز تحرك الجيوش العباسية ضد الدولة الأموية تسمى _ _ _ _ _

س الرمز المقابل في الخريطة يشير إلى منطقة تحرك الجيوش العباسية تسمى _ _ _ _ _

س تتبع – كيف استغلت الجيوش العباسية الاضطرابات في الدولة الأموية

ممكن أن يظهر السؤال في صيغه اخرى: (كيف قامت الدولة العباسية على أنقاض الدولة الأموية)

UULA
معلمي الكويت
صفوة
KuwaitTeacher.Com

© جميع الحقوق محفوظة

أكمل العبارات التالية :

س الخليفة الأموي الذي وجد نفسه محاطاً بجيوش العباسيين على نهز الزاب يسمى _____

س معركة عهد فيها أبو العباس عمه عبد الله بن علي لمحاربة مروان بن محمد تسمى _____

س العام الهجري الذي وقعت فيه معركة الزاب الصغير _____

س قائد الأمويين في معركة الزاب الصغير يسمى _____

س قائد العباسيين في معركة الزاب الصغير يسمى _____

س البلدة التي قتل فيها مروان بن محمد آخر حكام الدولة الأموية تسمى _____

س أكمل الجدول الناقص :

معركة الزاب	
السنة	_____
الأطراف	_____
القادة	_____
النتائج	▪ _____ ▪ _____ ▪ _____

س أكمل : المعركة التي أنهت حكم الأمويين في الدولة الإسلامية تسمى _____

س اختياري : المعركة التي حدثت في زمن الدولة العباسية يمثلها في الجدول التالي الحرف :

○ أ	○ ب	○ ج	○ د
شذونة	الزاب	بلاط الشهداء	دانذقان

UULA
صفوة معلمي الكويت
KuwaitTeacher.Com

س أذكر - دور عبد الله بن علي عم أبو العباس السفاح ودوره في استقرار الحكم العباسي عام 132 هـ

س أكمل : مؤسس الدولة العباسية وأول خلفائها يسمى _____

اقرأ ثم أجب

" أنا السفاح المبيح "

س من القائل : _____

س ما المناسبة


تـــدرب و تـفـوق
اختبارات الكترونية

معلمي الكويت
صفوة
KuwaitTeacher.Com

© جميع الحقوق محفوظة

مراحل توسع الدولة الإسلامية في العصرين الأموي والعباسي (العصر العباسي الأول والثاني)

اختر الإجابة الصحيحة :

ممكن أن يظهر السؤال في صيغة اخرى: أكمل

س الفترة التي تمثل العصر العباسي الأول على المخطط الزمني الحرف :

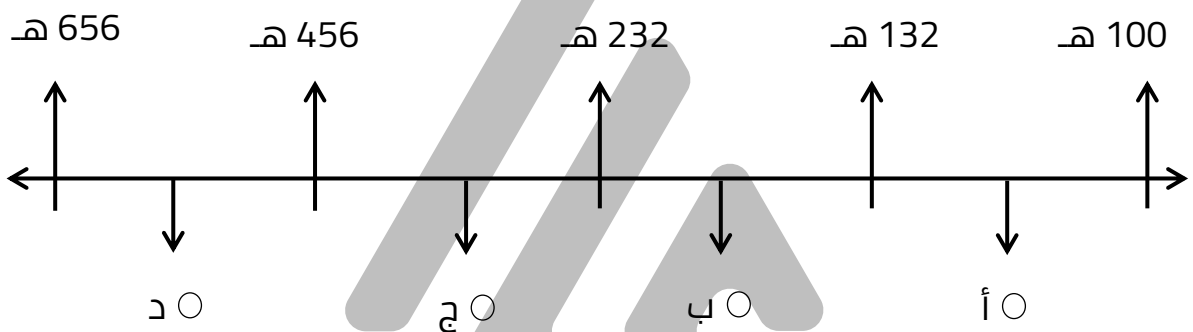

س استمر العصر الذهبي للدولة العباسية فترة :

○ 50 سنة ○ 100 سنة ○ 150 سنة ○ 200 سنة

س انتقل العباسيين بمقر الحكم من مدينة دمشق إلى مدينة :

○ القاهرة ○ القيروان ○ بغداد ○ خراسان

أكمل العبارات التالية :

س العصر الذهبي للدولة العباسية هو _____



س عاصمة الدولة العباسية تسمى _____

س الخليفة العباسي الذي قام ببناء بغداد يسمى _____

UULA
صفوة المعلمين الكويتيين
KuwaitTeacher.Com

© جميع الحقوق محفوظة

س علل – على الرغم من أن العصر العباسي الأول عصر القوة إلا أنه لم يكن له اسهامات حقيقية في مجال الفتوحات الإسلامية

ممكن أن يظهر السؤال في صيغ اخرى:
(علل – عدم اسهام الدولة العباسية في الفتوحات الإسلامية)
(فند - كان للخلفاء العباسيين اسهامات حقيقية في مجال الفتوحات الإسلامية)

س أكتب فقرة تاريخية مترابطة في حدود ثلاثة اسطر مستعينا بالكلمات التالية
(العصر العباسي الأول – بغداد – الفتوحات الإسلامية – الجانب الحضاري)

اختر الإجابة الصحيحة :

س الفترة الزمنية للعصر العباسي الثاني تحمل على المخطط الزمني الحرف :

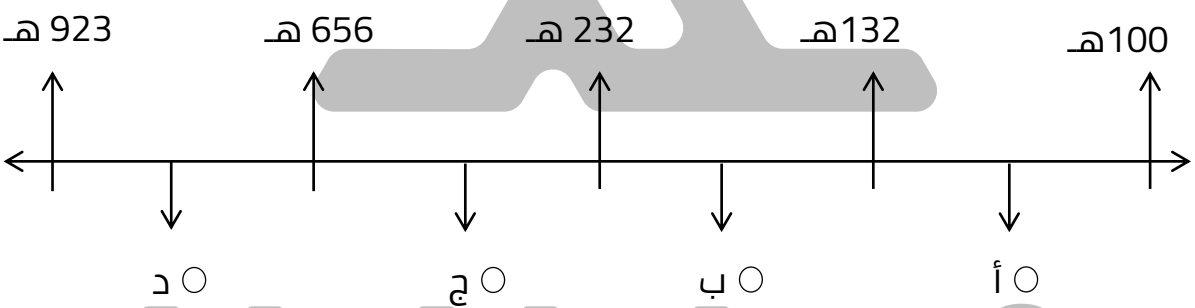

س عدد الخلفاء الذين حكموا الدولة العباسية في العصر العباسي الثاني :

- ○ 24 خليفة
- ○ 25 خليفة
- ○ 26 خليفة
- ○ 27 خليفة

س استمرت فترة حكم 27 خليفة للدولة العباسية لمدة :

- ○ ثلاثة قرون
- ○ أربعة قرون
- ○ خمسة قرون
- ○ ستة قرون

س علل – لم يستطع الخلفاء العباسيين في الحفاظ على وحدة كيان الدولة

UULA
KuwaitTeacher.Com

أكمل العبارات التالية :

س سقطت الدولة العباسية على يد _____

س جيش سقطت على يديه الدولة العباسية عام 656 هـ / 1258 م يسمى _____

س العام الميلادي الذي سقطت فيه الدولة العباسية _____

س قارن بين كل من :

وجه المقارنة	العصر العباسي الأول	العصر العباسي الثاني
الفترة الزمنية		
السمات		

س قارن بين عوامل سقوط الدولة الأموية والدولة العباسية

ممكن أن يظهر السؤال في صيغة اخرى: وازن

عوامل سقوط الدولة الأموية	عوامل سقوط الدولة العباسية
▪ _____ ▪ _____ ▪ _____	▪ _____ ▪ _____ ▪ _____

س اختر من المجموعة (أ) ما يناسبها من المجموعة (ب)

م	المجموعة (أ)	الإجابة	المجموعة (ب)
1	مؤسس مدينة القيروان		قتيبة بن مسلم الباهلي
2	مؤسس الدولة العباسية		صلاح الدين الأيوبي
3	جعل كاشغر قاعدة إسلامية		أبو العباس السفاح
			عقبة بن نافع الفهري

تـــدرب و تـفـوق
اختبارات الكترونية
UULA
Kuwaitteacher.Com

© جميع الحقوق محفوظة

مقدمة الدول المستقلة

س عرف - الدول المستقلة

س دلل - استقلت عدة دول على حساب الدولة العباسية

س أكتب فقرة مترابطة مستعينا مما بين الأقواس
(الدولة العباسية – استقلال تام – استقلال جزئي – دول مستقلة)

س عدد – الدول المستقلة عن الدولة العباسية

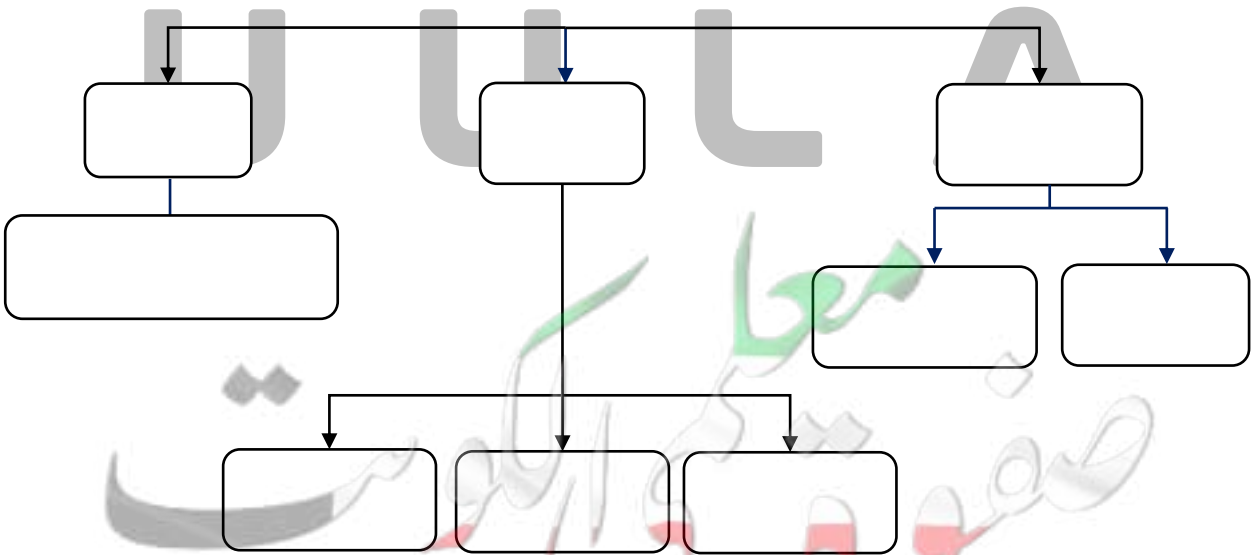

UULA
معلم الكويت
KuwaitTeacher.Com

© جميع الحقوق محفوظة

أكمل العبارات التالية :

س أولى الدول المستقلة عن الدولة العباسية تسمى _____

س آخر الدول المستقلة عن الدولة العباسية تسمى _____

اختر الإجابة الصحيحة :

س الدولة التي استقلت عن الدولة العباسية من ناحية الشرق هي

○ الفاطمية ○ الأيوبية ○ السلجوقية ○ المملوكية

س الترتيب الزمني الصحيح من الأقدم إلى الأحدث للدول المستقلة في العصر العباسي الثاني :

(أ)	(ب)	(ج)	(د)
الدولة الأموية في الأندلس	الدولة الغزنوية	الدولة الأموية في الأندلس	الدولة الفاطمية
الدولة الفاطمية	الدولة الفاطمية	الدولة الغزنوية	الدولة الغزنوية
الدولة الغزنوية	الدولة الأموية في الأندلس	الدولة الفاطمية	الدولة الأموية في الأندلس

اختر الكلمة التي لا تنتمي للمجموعة التالية بوضع خطا تحتها

س دول مستقلة في وسط العالم الإسلامي :

○ الدولة الفاطمية ○ الدولة الغزنوية
○ الدولة الأيوبية ○ الدولة المملوكية

س عدد – الدول الإسلامية التي عاصرت الدولة الأموية في الأندلس

UULA
معلمي الكويت
صفوة
KuwaitTeacher.Com

الدولة الأموية في الأندلس
(138هـ – 422 هـ) (756 م – 1031 م)

س اختياري : الفترة الزمنية التي تمثل فترة حكم الدولة الأموية في الأندلس يمثلها على المخطط الزمني الحرف :

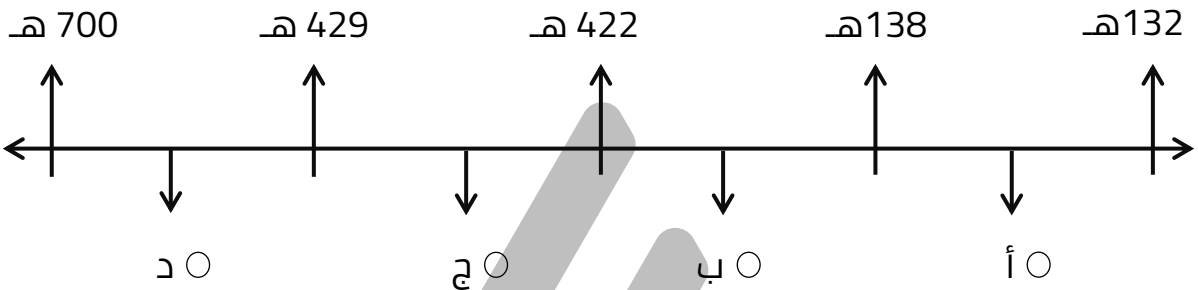

أكمل العبارات التالية :

س مؤسس الدولة الأموية في الأندلس والذي نجاه الله من قبضة العباسيين يسمى _____

س الدولة التي اتجه إليها عبد الرحمن بن معاوية بعد نجاته من قبضة العباسيين تسمى _____

س القبيلة البربرية التي ساندت عبد الرحمن بن معاوية في تأسيس دولته هي _____

س مدينة وصل إليها عبد الرحمن بن معاوية عام 137 هـ / 755 م استعداداً لعبور الأندلس تسمى _____

س العام الهجري الذي وصل فيه عبد الرحمن بن معاوية إلى مدينة سبتة _____

س فسر – استعداد عبد الرحمن بن معاوية لعبور الأندلس

UULA
معلمي الكويت
صفوة
KuwaitTeacher.Com

جميع الحقوق محفوظة ©

س عدد - الأسباب التي أدت إلى اختيار عبد الرحمن بن معاوية الأندلس مقراً لتكوين دولته

ممكن أن يظهر السؤال في صيغه اخرى:
(علل – اختيار عبد الرحمن بن معاوية الملقب بالداخل للأندلس لتكون مقراً لدولته)

س عرف - الأندلس

ممكن أن يظهر السؤال في صيغ اخرى: أكمل اختياري

س لاحظ الخريطة التي أمامك ثم أجب عما يلي :

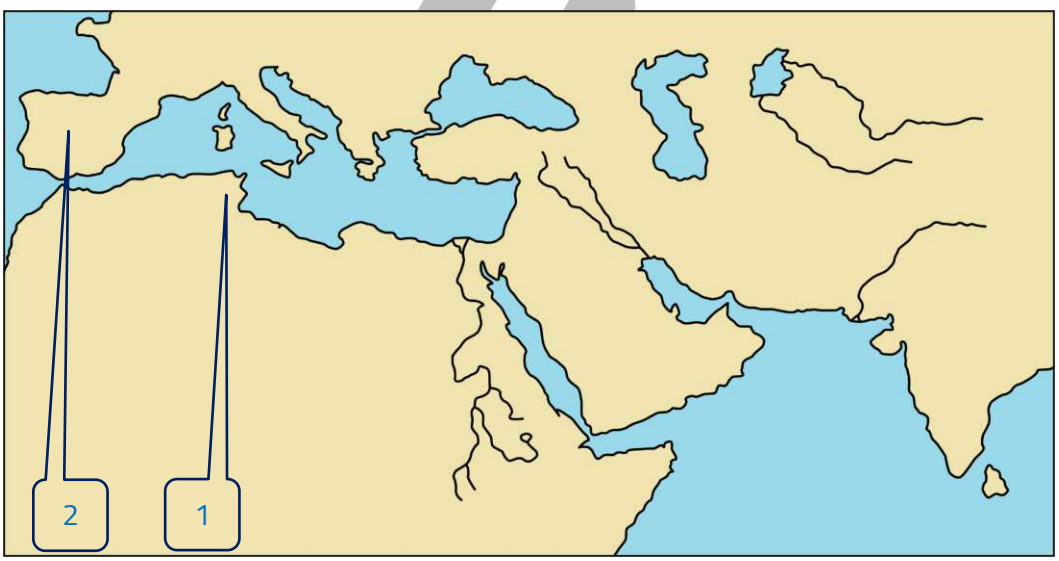

س شبه الجزيرة الأيبرية يمثلها على الخريطة الرقم ( )

س علل – أطلق العرب على الأندلس هذا الاسم

أكمل العبارات التالية :

س أطلق العرب على الأندلس هذا الاسم نسبة الى قبائل تسمى _____

س منطقة تقع في الطرف الجنوب الغربي من قارة أوروبا وتقابل المغرب الأقصى تسمى _____

UULA
معلمة الكويت
KuwaitTeacher.Com

© جميع الحقوق محفوظة

س من أصل جرماني وكانوا يحكمون الأندلس قبل دخول العرب هم _____

س فسر – إرسال عبد الرحمن بن معاوية (عبد الرحمن الداخل) أحد أتباعه إلى الأندلس

اختر الإجابة الصحيحة :

س العام الهجري الذي عبر فيه عبد الرحمن بن معاوية مضيق جبل طارق ودخول الأندلس :

○ 135 هـ ○ 136 هـ ○ 137 هـ ○ 138 هـ

س المضيق الذي عبره عبد الرحمن الداخل لدخول الأندلس :

○ قناه السويس ○ جبل طارق ○ هرمز ○ باب المندب

س المدينة التي اتجه إليها عبد الرحمن بن معاوية لمقاتلة الوالي العباسي تسمى :

○ غرناطة ○ اشبيلية ○ قرطبة ○ طليطلة

أكمل العبارات التالية :

س الوالي العباسي في قرطبة الذي قاتله عبد الرحمن بن معاوية يسمى _____

س الموقعة التي التقى فيها يوسف الفهري مع عبد الرحمن بن معاوية تسمى _____

س قائد الأمويين الذي انتصر على الوالي العباسي يوسف الفهري في موقعة المصارة يسمى _____

س مدينة استولى عليها عبد الرحمن بن معاوية وأعلن نفسه أميراً عليها تسمى _____

س الدولة التي انفصلت عن الخلافة العباسية انفصالاً تاماً في الغرب تسمى _____

تـــدرب و تـفـوق
اختبارات الكترونية
UULA
UULA
Kuwaitteacher.Com

©جميع الحقوق محفوظة

س أكمل الجدول الناقص

معركة المساره (المصاره)	
السنة	
الأطراف	
القادة	
النتائج	

س عدد النتائج المترتبة - على نجاة الأمير عبد الرحمن بن معاوية من قبضة العباسيين

س ماذا يحدث لو - انتصر الوالي العباسي يوسف الفهري على عبد الرحمن بن معاوية في موقعة المصارة

س اختياري : استمرت فترة حكم عبد الرحمن بن معاوية في الأندلس حوالي :

○ 31 سنة ○ 32 سنة ○ 33 سنة ○ 34 سنة

س عدد - العقبات التي واجهت عبد الرحمن بن معاوية

UULA.COM
© جميع الحقوق محفوظة
KuwaitTeacher.Com

أكمل العبارات التالية :

س الخليفة العباسي الذي أرسل جيش بقيادة العلاء بن المغيث لإعادة الأندلس يسمى _____

س قائد الجيش الذي أرسله أبو جعفر المنصور لاستعادة الأندلس يسمى _____

س اقرأ ثم أجب " الحمد لله الذي جعل بيننا وبين هذا الشيطان بحراً "

س من القائل؟ _____

س ما الدلالة على هذه المقولة

_____

س المناسبة : _____

لاحظ الخريطة المقابلة ثم نفذ ما يلي :



س الدولة التي هددت عبد الرحمن بن معاوية من ناحية الشمال _____

س عاصمة الدولة الأموية في الأندلس تسمى _____

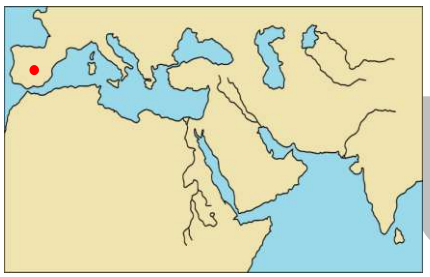

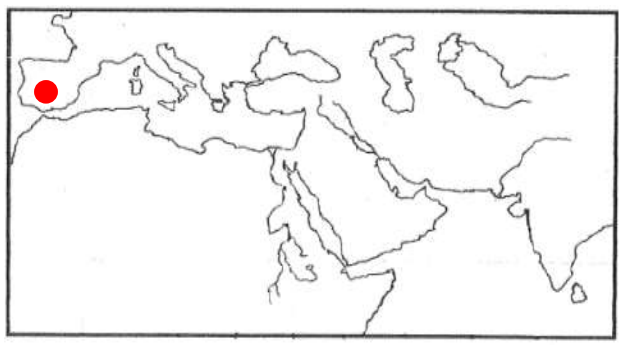

س برهن على صحة العبارة " كان لعبد الرحمن بن معاوية دور حضاري كبير في الأندلس "

ممكن أن يظهر السؤال في صيغ أخرى:
(فند العبارة - " يرى بعض المستشرقين بأن دور عبد الرحمن بن معاوية محدود للغاية في الأندلس")
(علل – تعتبر فترة حكم عبد الرحمن بن معاوية للأندلس من أخصب الفترات حضارياً)

Kuwaitteacher.Com

© جميع الحقوق محفوظة

س اختياري : مؤسس قصر الرصافة في قرطبة يسمى :

○ أسد بن الفرات ○ محمود الغزنوي
○ عقبة بن نافع ○ عبد الرحمن الداخل

س علل – أصبحت الأندلس محطة جذب لطلاب العلم في أوروبا

أكمل العبارات التالية :

ممكن أن يظهر السؤال في صيغه اخرى: اختياري

س الأمير الأموي الذي أسس الدولة الأموية في الأندلس يسمى _____

س العام الهجري الذي توفي فيه عبد الرحمن بن معاوية هو _____

س الأمير الأموي الذي لقب نفسه بالخليفة في الأندلس يسمى _____

س آخر حكام الدولة الأموية في الأندلس يسمى _____

س العام الهجري الذي سقطت فيه الخلافة الأموية في الأندلس _____

س تفكك الدولة الأموية في الأندلس إلى دويلات مستقلة عرفت باسم

_____

س عرف - ملوك الطوائف

تـــدرب و تـفـوق
اختبارات الكترونية
UULA

معلمي الكويت
صفوة
KuwaitTeacher.Com

الدولة الغزنوية (351هـ – 582هـ)
(962م – 1186 م)

اختر الإجابة الصحيحة :

س الحرف الذي يمثل فترة حكم الدولة الغزنوية على المخطط الزمني الحرف :

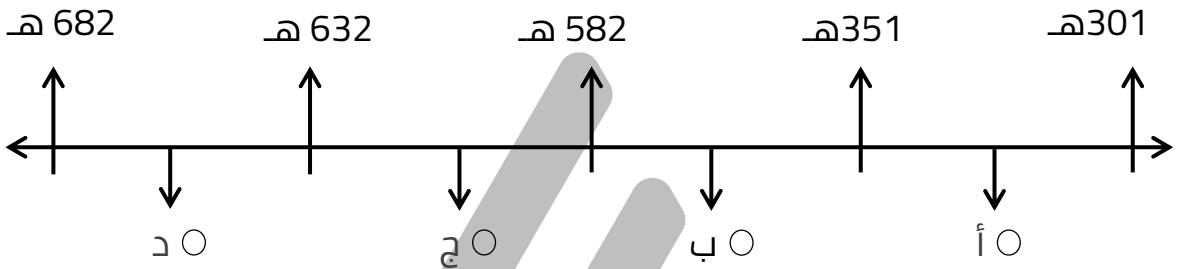

س ظهرت الدولة الغزنوية في منتصف القرن :

- ○ الثاني الهجري
- ○ الثالث الهجري
- ○ الرابع الهجري
- ○ الخامس الهجري

س ظهرت الدولة الغزنوية في القرن :

- ○ السابع الميلادي
- ○ الثامن الميلادي
- ○ التاسع الميلادي
- ○ العاشر الميلادي

أكمل العبارات التالية :



س الأمير الذي أسس الدولة الغزنوية يسمى _____

س السلالة التي ولت الأمير ألب تكين على غزنة تسمى _____

س عاصمة الدولة الغزنوية هي _____

س الأمير الذي تولى بعد وفاة ألب تكين وحارب السامانيون يسمى _____

س بعد وفاة ناصر الدين سبكتكين تولى حكم الدولة الغزنوية ابنه ويسمى _____

KuwaitTeacher.Com

© جميع الحقوق محفوظة

اختر الإجابة الصحيحة :

ممكن أن يظهر السؤال في صيغه اخرى: أكمل

س العام الهجري الذي وصل فيه محمود الغزنوي إلى حكم الدولة الغزنوية

○ 388 هـ ○ 390 هـ ○ 392 هـ ○ 394 هـ

س الفترة الزمنية التي تمثل فترة حكم محمود الغزنوي يمثلها على المخطط الزمني الحرف :

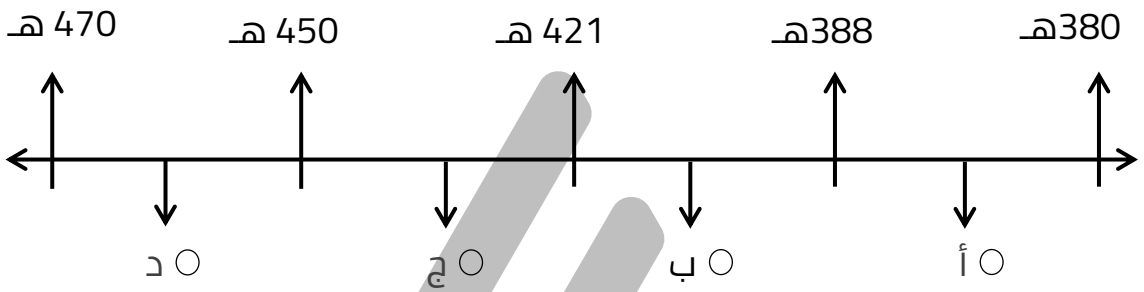

س الأمير الغزنوي الذي بلغت الدولة في عهده ذروة ازدهارها وخطب للخليفة العباسي القادر بالله :

○ ألب تكين ○ ناصر الدين سبكتكين
○ محمود الغزنوي ○ مسعود الغزنوي

س الخليفة العباسي الذي أنعم على محمود الغزنوي بلقب يمين الدولة وأمين الملة :

○ القادر بالله ○ المعتصم
○ أبو جعفر المنصور ○ أبو العباس السفاح

س عدد – الألقاب التي حصل عليها محمود الغزنوي

UULA
معلمي الكويت
صفوة
KuwaitTeacher.Com

س فند العبارة التالية تاريخياً - " يرى بعض المستشرقين بأن دور محمود الغزنوي كان محدود للغاية في الدولة الغزنوية"

ممكن أن يظهر السؤال في صيغ اخرى:
(عدد - أعمال محمود الغزنوي في الدولة الغزنوية)
(برهن - " اكتسب محمود الغزنوي مكانة في التاريخ بفتوحاته وبجهوده الحضارية ")
(دلل – يعتبر محمود الغزنوي المؤسس الحقيقي للدولة الغزنوية)

س علل – قيام محمود الغزنوي بغزو الهند اكثر من 12 مرة

أكمل العبارات التالية :

ممكن أن يظهر السؤال في صيغه اخرى: اختياري

س مدينة تعتبر هي قاعدة إقليم البنجاب تسمى _____

س ظهرت في الهند لغة تسمى _____

س العام الهجري الذي توفي فيه محمود الغزنوي _____

س السلطان الذي تولى حكم الدولة الغزنوية بعد وفاة محمود الغزنوي يسمى _____

س حدث تاريخي في عهد السلطان مسعود الغزنوي نتج عنه هزيمة الدولة الغزنوية هو _____

UULA
معلمي الكويت
صفوة
KuwaitTeacher.Com

© جميع الحقوق محفوظة

س أكمل الخريطة الذهنية التالية

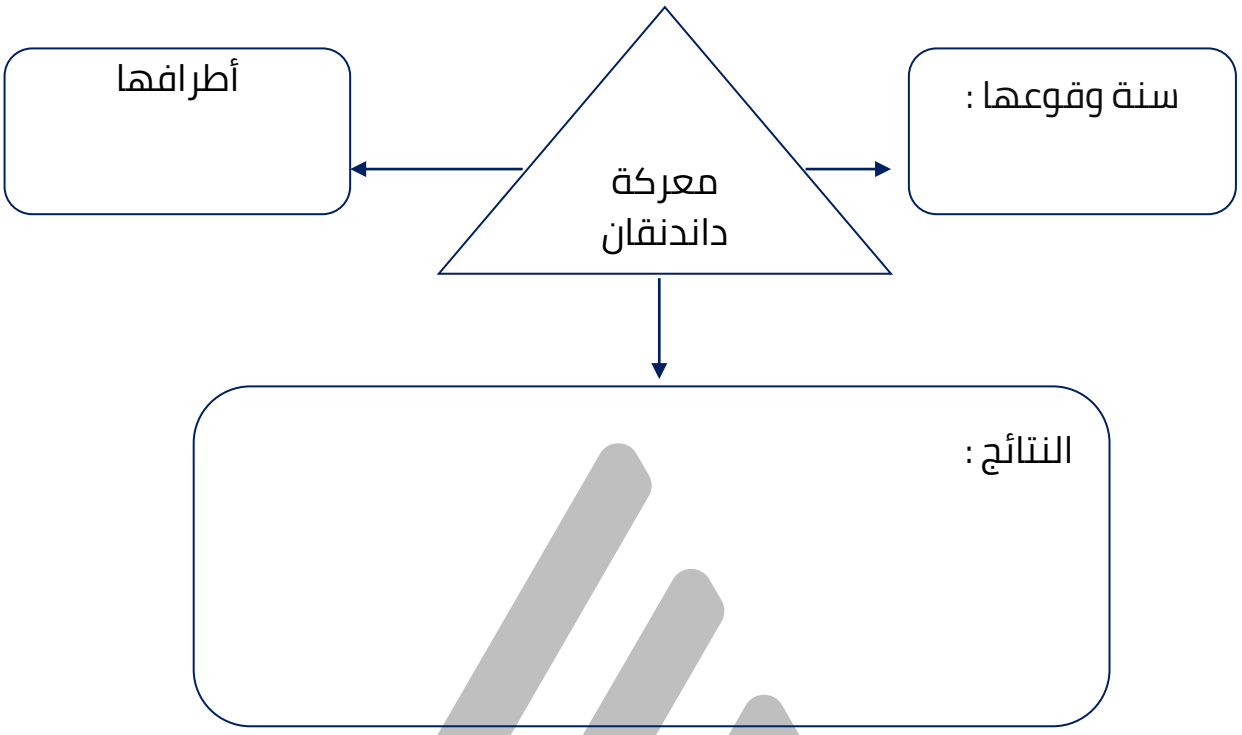

س علل - تعتبر معركة داندنقان من المعارك الحاسمة في تاريخ الدولتين الغزنوية والسلجوقية

ممكن أن يظهر السؤال في صيغه اخرى: (عدد – نتائج معركة داندنقان 432 هـ - 1040 م)

س ماذا يحدث لو - لم ينتصر السلاجقة في معركة داندنقان

UULA
معلمي الكويت
صفوة
KuwaitTeacher.Com

اختر الإجابة الصحيحة :

س معركة حدثت في عهد الدولة الغزنوية

○ شذونة ○ الزاب
○ بلاط الشهداء ○ داندنقان

س دولتان ساهمتا في اسقاط الدولة الغزنوية في القرن السادس الهجري :

○ الفاطمية والأيوبية ○ الغورية والفاطمية
○ السلجوقية والفاطمية ○ الغورية والسلجوقية

س الأرقام الدالة على القوتين اللتين أسقطتا الدولة الغزنوية في الجدول يمثلها الحرف :

○ (1 – 2) ○ (3 – 4)
○ (1 – 4) ○ (2 – 3)

1- الدولة الغورية
2- الدولة الفاطمية
3- الدولة الأيوبية
4- الدولة السلجوقية

س دلل – يعتبر استقلال الدولة الغزنوية عن الدولة العباسية استقلالاً جزئياً وإسمياً فقط



تـــدرب و تـفـوق
اختبارات الكترونية
UULA
UULA

Kuwaitteacher.Com

© جميع الحقوق محفوظة

الدولة الفاطمية (297هـ – 567هـ) (909م- 1171 م)

اختياري :

س الفترة الزمنية التي تمثل فترة حكم الدولة الفاطمية :

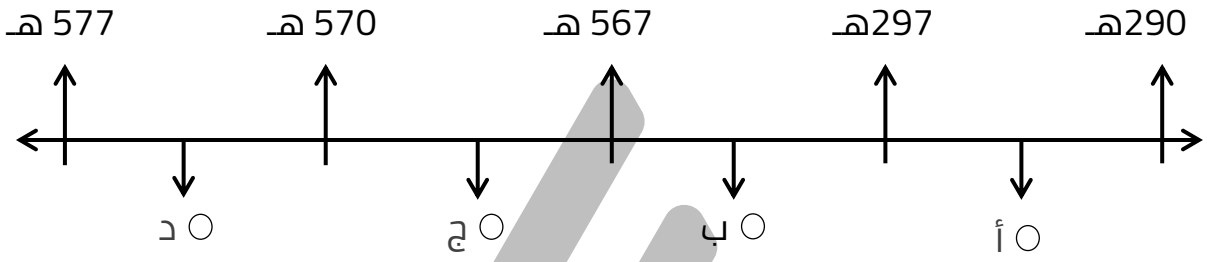

أكمل العبارات التالية :

س يستمد الفاطميون لقبهم من السيدة _____

س المؤسس الحقيقي للدولة الفاطمية وأول حكامها يسمى _____

س اعتمدت الدولة الفاطمية في نشر دعوتهم في بلاد المغرب على يد _____

س الدولة التي قضى عليها الفاطميين في تونس تسمى _____

س عرف - الأغالبة

_____

أكمل العبارات التالية :

س مؤسس دولة الأغالبة يسمى _____

س الخليفة العباسي الذي ثبت إبراهيم بن الأغلب في ولايته يسمى _____



س جزيرة يرجع الفضل في فتحها لأسرة الأغالبة هي _____

UULA
معلم الكويت
KuwaitTeacher.Com

© جميع الحقوق محفوظة

س أسرة يرجع إليها الفضل في فتح جزيرة صقلية تسمى _ _ _ _ _ _ _

اختياري :

س الفترة الزمنية التي تمثل فترة حكم عبيد الله المهدي تمثل على المخطط الزمني الحرف :

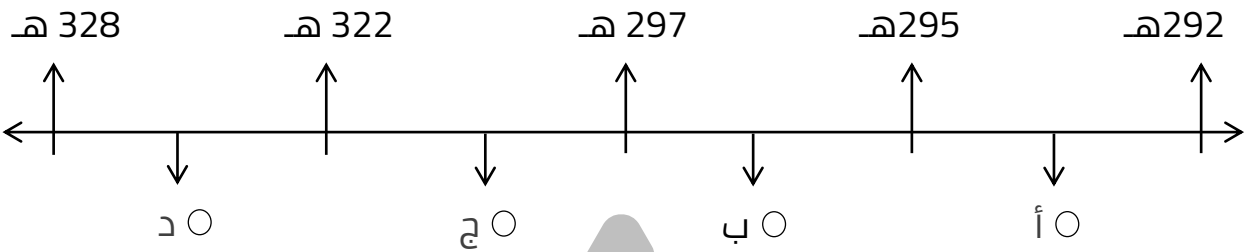

س أكتب دور أبو عبد الله الشيعي في الدولة الفاطمية

أكمل العبارات التالية :

س العاصمة الأولى للدولة الفاطمية تسمى _ _ _ _ _ _

س المدينة التونسية التي اتخذها الفاطميون عاصمة لهم تسمى _ _ _ _ _ _ _ _ _

س تقع مدينة المهدية على البحر المتوسط جنوب شرق مدينة تسمى _ _ _ _ _ _ _

س العاصمة الثانية للدولة الفاطمية تسمى _ _ _ _ _ _ _ _

UULA
معلمي الكويت
صفوة
KuwaitTeacher.Com

© جميع الحقوق محفوظة

لاحظ الخريطة التالية ثم نفذ المطلوب منك

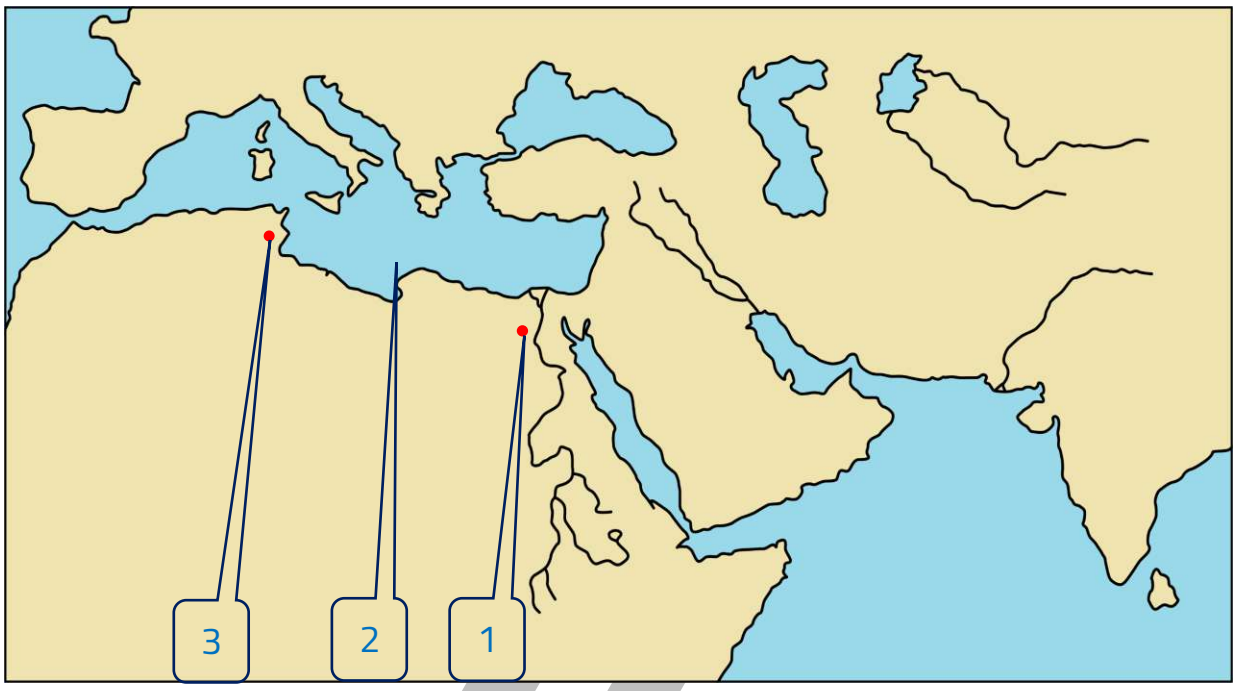

س بحر الروم على الخريطة يمثله الرقم ( )

س العاصمة الأولى للدولة الفاطمية تمثل على الخريطة الرقم ( )

س العاصمة الثانية للدولة الفاطمية تحمل على الخريطة الرق ( )

س علل – قيام الدولة الفاطمية

س اختياري : الدولة التي دخل معها الفاطميين في صراع على بلاد الشام :

- ○ الدولة الأموية
- ○ الدولة العباسية
- ○ الدولة الإخشيدية
- ○ الدولة الغزنوية

س عدد – المناطق التي سيطرت عليها الدولة الفاطمية



UULA
صفوة
KuwaitTeacher.Com

© جميع الحقوق محفوظة

س أكمل : ازدهرت الدولة الفاطمية من الناحية الاقتصادية ونشطت التجارة و

_ _ _ _ _ _ _ _ _ _ _ _ _

س دلل على صحة العبارة " ازدهار الدولة الفاطمية "

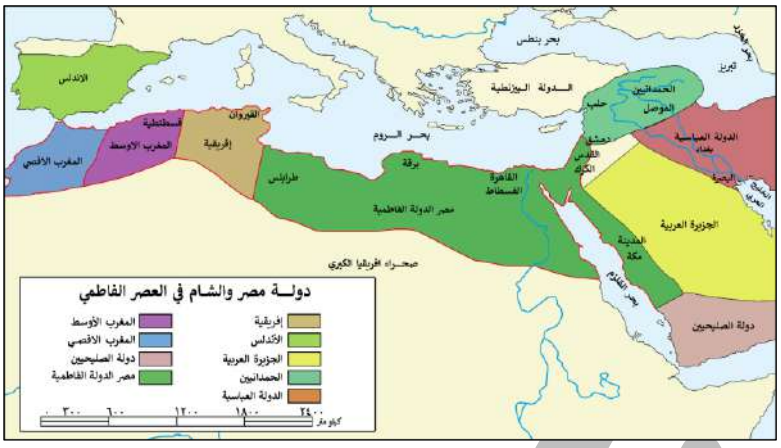

أكمل العبارات التالية :

س تقلصت حدود الدولة الفاطمية واقتصرت على دولة _ _ _ _ _

س القائد الذي احتل الفسطاط وأسس مدينة القاهرة يسمى _ _ _ _ _ _ _ _ _ _

س القائد العسكري الذي نجح في ضم مصر للحكم الفاطمي يسمى

_ _ _ _ _ _ _ _ _ _

س الخليفة الفاطمي الذي تم في عهده تأسيس مدينة القاهرة يسمى

_ _ _ _ _ _ _ _ _ _ _

س اختياري : الفترة الزمنية التي تمثل فترة حكم معد بن إسماعيل بن محمد (المعز لدين الله) تمثل على المخطط الزمني الحرف :

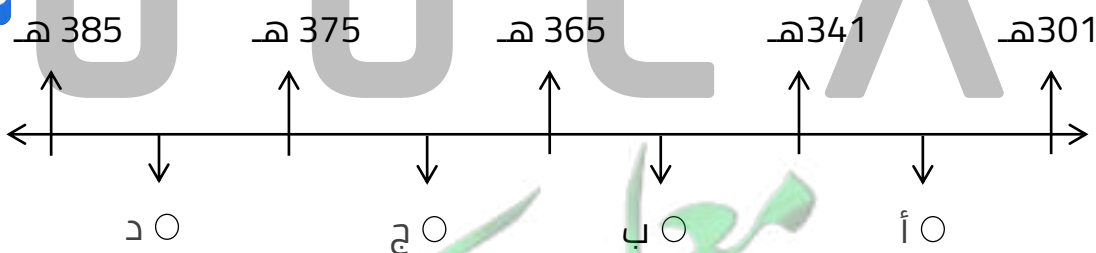

UULA
صفوة معلمي الكويت
KuwaitTeacher.Com

© جميع الحقوق محفوظة

س أكتب دور - دور المعز لدين الله في الدولة الفاطمية

ممكن أن يظهر السؤال في صيغه اخرى:
دلل على صحة العبارة " كان للمعز لدين الله دوراً هاماً في اتساع الدولة الفاطمية "

س فند العبارة " يرى بعض المؤرخين المعاصرين أن الدولة الفاطمية إقتصر نفوذها على حدود مصر فقط "

س برهن – لعب القائد جوهر الصقلي دوراً مهماً في الدولة الفاطمية

ممكن أن يظهر السؤال في صيغه اخرى: بين دور – جوهر الصقلي في الدولة الفاطمية

اختر الإجابة الصحيحة :

ممكن أن يظهر السؤال في صيغه اخرى: اختيارى

س الخليفة الفاطمي الذي دانت له قبائل البربر وقبائل المغرب واتخذ من القاهرة عاصمة له :

- ○ الحافظ بالله
- ○ المستنصر بالله
- ○ المعز لدين الله
- ○ القائم بأمر الله

س أول حكام الدولة الفاطمية في مصر :

- ○ المعز لدين الله
- ○ المستنصر بالله
- ○ الحاكم بأمر الله
- ○ الحافظ لدين الله

س آخر الخلفاء الفاطميين :

- ○ العزيز بالله
- ○ القائم بأمر الله
- ○ المعز لدين الله
- ○ العاضد

UULA
معلمي الكويت
KuwaitTeacher.Com

© جميع الحقوق محفوظة

س عدد – النتائج المترتبة على تولي العاضد حكم الدولة الفاطمية

أكمل العبارات التالية :

س خضعت مصر لسيطرة القادة الأيوبيين في عهد خليفة فاطمي اسمه _____

س سقطت الدولة الفاطمية نهائيا عام 567هـ / 1171 م على يد

_____

س أكتب فقرة مترابطة مستعيناً بالكلمات التالية
(العاضد – الدولة الفاطمية – مصر – صلاح الدين الأيوبي)

س رتب الأحداث التالية ترتيباً تاريخياً من الأقدم إلى الأحدث
(انهيار الدولة الفاطمية - عام الجماعة - قيام الدولة العباسية)

تـــدرب و تـفـوق
اختبارات الكترونية
UULA

معلمي الكويت
صفوة
KuwaitTeacher.Com

© جميع الحقوق محفوظة

الدولة الأيوبية (567هـ – 648هـ)
(1171م – 1250 م)

س عرف - الدولة الأيوبية



س اختياري : الفترة الزمنية التي تمثل حكم الدولة الأيوبية تمثل على المخطط الزمني الحرف

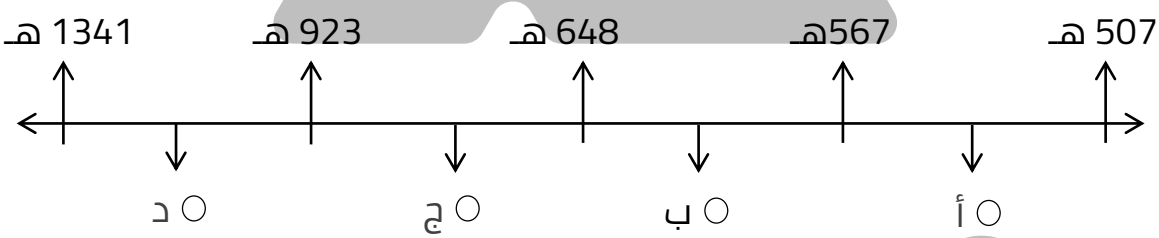

أكمل العبارات التالية :

س استقرت الأمور لصلاح الدين الأيوبي في مصر بعد وفاة آخر خلفاء الدولة الفاطمية ويسمى _____

س العام الميلادي الذي سقطت فيه الدولة الفاطمية على يد الأيوبيين _____

س العام الميلادي الذي شهد قيام الدولة الأيوبية _____

س مؤسس الدولة الأيوبية وأول حكامها يسمى _____

س لقب يطلق على صلاح الدين هو _____

UULA.COM
© جميع الحقوق محفوظة
Kuwaitteacher.Com

س اتجه صلاح الدين إلى بلاد الشام في 572 هـ /1177 م ومد نفوذه بعد وفاة _____

س عدد – المناطق التي مد فيها صلاح الدين نفوذه سنة 572 هـ - 1177 م

أكمل العبارات التالية :

س صلاح الدين الملقب بالملك الناصر اسمه _____

س العام الهجري الذي ولد فيه يوسف بن أيوب _____

س المدينة التي ولد فيها يوسف بن أيوب تسمى _____

س أقام صلاح الدين وعمه عند عماد الدين زنكي في مدينة تسمى _____

س عم صلاح الدين الذي رافقه إلى مصر في عهد الدولة الفاطمية يسمى _____

س برزت مواهب وملكات صلاح الدين على النحو الذي يثير الإعجاب والتقدير في القرن _____

س أول مواجهة كبيرة بين صلاح الدين مع الصليبيين وترتب عليها استعادة المسلمين بيت المقدس تسمى _____

س العام الهجري الذي وقعت فيه معركة حطين _____

س استمر حكم صلاح الدين في الدولة الأيوبية إلى أن توفي في يوم الأربعاء 27 من صفر سنة _____

س العام الهجري الذي انتهت فيه حكم الدولة الأيوبية على يد المماليك _____

س سقطت الدولة الأيوبية على يد _____

تـــدرب و تـفـوق
اختبارات الكترونية

©جميع الحقوق محفوظة

الدولة الأيوبية (567هـ – 648هـ)
(1171م – 1250 م) معركة حطين

س علل – عمل صلاح الدين على إحياء الدولة الإسلامية

س اختياري : ارتبط صلاح الدين بعقد هدنة مع الصليبيين مدتها :

- ○ أربع سنوات
- ○ خمس سنوات
- ○ ست سنوات
- ○ سبع سنوات

س علل – ارتبط صلاح الدين بعقد هدنة مع الصليبيين مدتها أربع سنوات

س أكمل : أمير حصن الكرك الذي نقض الهدنة مع صلاح الدين يسمى _____

س فند العبارة " التزم أورناط بعقد الهدنة مع صلاح الدين

س أكمل : ملك بيت المقدس الذي تدخل لحل الخلاف بين أورناط وصلاح الدين يسمى _____

س عدد – أسباب معركة حطين

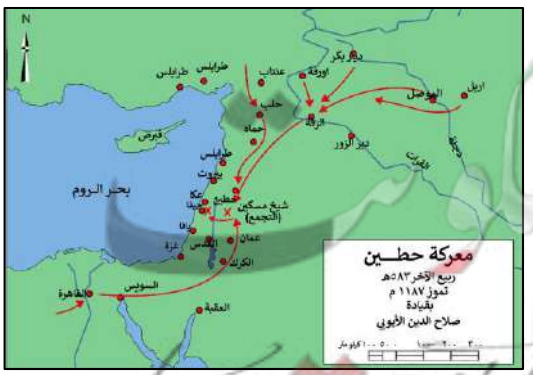

UULA.COM
© جميع الحقوق محفوظة

س عرف - الصليبيون

.....

.....

اختر الإجابة الصحيحة :

س استمرت الحروب الصليبية على المسلمين فترة طويلة ما بين القرنين :

○ 10 م إلى 11 م
○ 11 م إلى 13 م
○ 11 م إلى 12 م
○ 12 م إلى 14 م

س الفترة التي شهدت الحروب الصليبية على المشرق الإسلامي تحمل على المخطط الزمني الحرف :

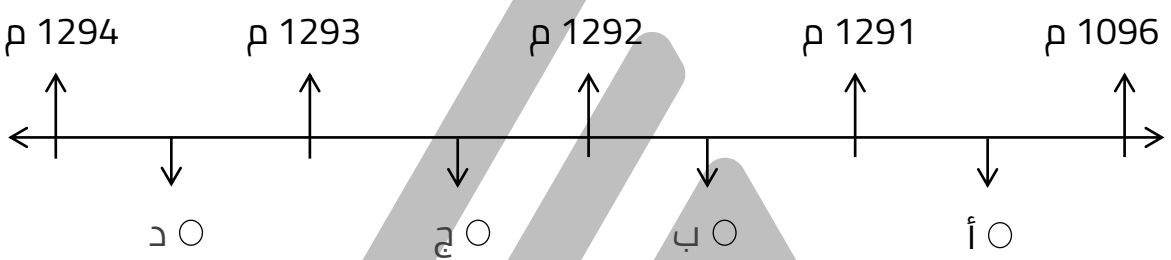

س فسر – استمرار الحروب الصليبية على المسلمين في الفترة ما بين القرن11 م إلى 13 م

.....

س علل تسمية الصليبين بهذا الاسم

.....

أكمل العبارات التالية :

س البابا الذي دعا إلى ارسال الحملات الصليبية إلى المشرق الإسلامي يسمى _____

س المجمع الذي خطب فيه البابا أربان الثاني ودعا بإرسال الحملات الصليبية على المشرق الإسلامي يسمى _____

س العام الميلادي الذي دعا فيه البابا أربان الثاني إلى إرسال الحملات الصليبية على المشرق الإسلامي _____

UULA
معلمي الكويت
KuwaitTeacher.Com

© جميع الحقوق محفوظة

س علل – قيام الحملات الصليبية على العالم الإسلامي

س اختياري : المعركة التي بسببها قامت الحملات الصليبية على المسلمين في عام 1071 م

○ وادي لكة ○ تور بواتييه
○ داندنقان ○ ملاذكرد

س عدد - دوافع الحملات الصليبية الى المشرق الإسلامي

اختر الإجابة الصحيحة :

س عدد الحملات الصليبية التي قام بها ملوك وأمراء أوروبا ضد المسلمين :

○ 6 حملات ○ 7 حملات ○ 8 حملات ○ 9 حملات

س عدد السنوات التي استغرقها صلاح الدين لمنازلة الصليبيين في معركة حطين

○ 7 سنوات ○ 8 سنوات ○ 9 سنوات ○ 10 سنوات

س أذكر - المناطق التي تكونت منها قوات صلاح الدين لمحاربة الصليبيين

UULA
معلمة الكويت
صفوة الكويت
KuwaitTeacher.Com

© جميع الحقوق محفوظة

أكمل العبارات التالية :

س العام الهجري الذي اتجهت فيه قوات صلاح الدين إلى حصن الكرك لمحاصرته _____

س ملك بيت المقدس الذي تجمعت القوات الصليبية تحت قيادته يسمى _____

س المدينة التي تجمعت فيها القوات الصليبية تحت قيادة بلدوين الثالث تسمى _____

س أمير طرابلس الذي انضمت قواته إلى قوات بلدوين الثالث يسمى _____

س عدد – خطوات الخطة العسكرية التي نفذها صلاح الدين عند مواجهة الصليبيين في معركة حطين

ممكن أن يظهر السؤال في صيغ اخرى:
(عدد - الأسباب التي أدت إلى انتصار صلاح الدين في معركة حطين)
(علل – انتصار المسلمين على الصليبين في معركة حطين عام 583 هـ)

س علل – رغبة صلاح الدين في إجبار الصليبيين على المسير إليه

س دلل – انقسم الصليبيين في الرأي في مواجهة صلاح الدين إلى فريقين

س أكمل : انتهى الأمر بين الصليبيين لمواجهة صلاح الدين بالزحف إلى بحيرة تسمي _____

UULA
صفوة معلمي الكويت
KuwaitTeacher.Com

© جميع الحقوق محفوظة

س دون أرقام العبارات حسب مواقعها على خريطة العالم الإسلامي الصماء التي أمامك

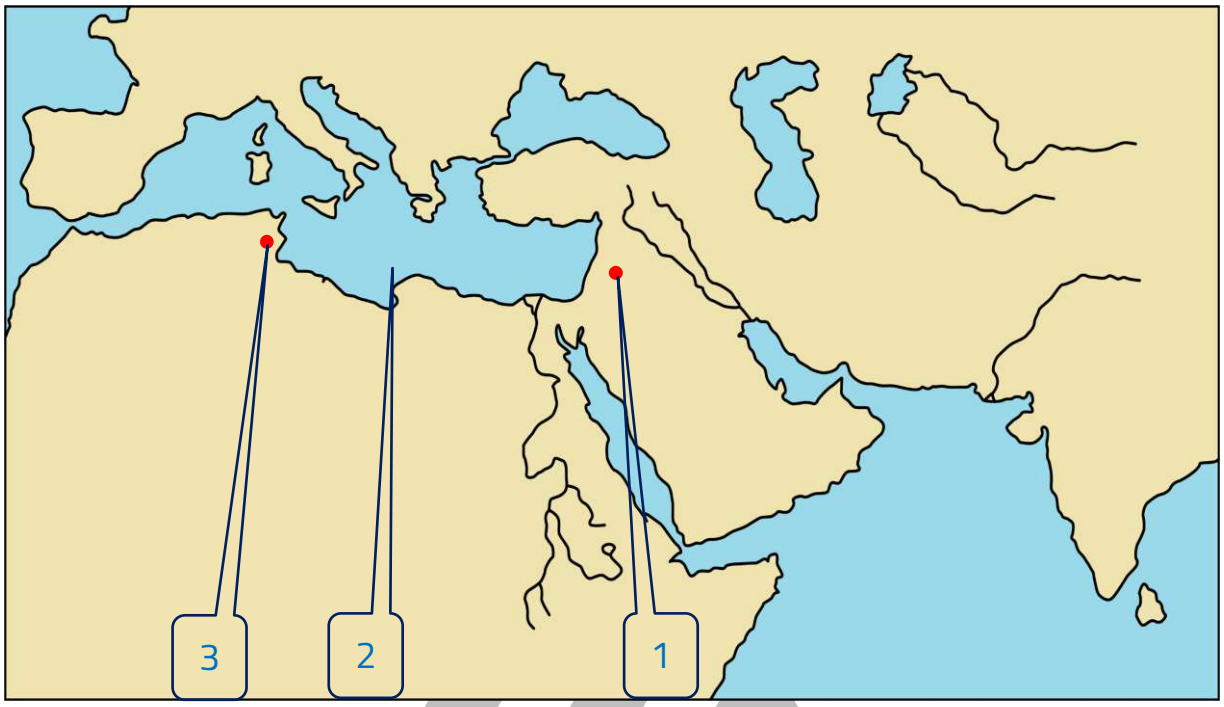

- موقع معركة حطين _____
- بحر الروم_____

عدد

س الخطط العسكرية التي حرص عليها صلاح الدين ليتفوق على الصليبيين

س الأحداث التي وقعت في يوم 14 ربيع الآخر سنة 583 هـ / 1187 م من معركة حطين

UULA
معلمي الكويت
صفوة
KuwaitTeacher.Com

س علل – أقسم صلاح الدين على قتل أورناط أمير الكرك

ممكن أن يظهر السؤال في صيغه اخرى:
(ما تفسيرك للحدث التالى : " إصرار صلاح الدين الأيوبى على قتل أورناط أمير الكرك بالرغم من وقوعه أسيراً)

س عدد – نتائج معركة حطين 583 هـ - 1178 م

س علل – مجئ الحملة الصليبية الثالثة إلى بلاد الشام

س أكمل الجدول الناقص

معركة حطين	
السنة	
الاطراف	
القادة	
الاسباب	▪ ▪ ▪
النتائج	▪ ▪ ▪ ▪

معلمي الكويت
Kuwaitteacher.com

© جميع الحقوق محفوظة

س قارن بين كل من :

أوجه المقارنة	الدولة الأموية	الدولة الأيوبية
المؤسس	----------	----------
المقر	----------	----------
آخر الخلفاء	----------	----------



تـــدرب و تـفـوق
اختبارات الكترونية

UULA
معلمي الكويت
صفوة
KuwaitTeacher.Com

© جميع الحقوق محفوظة

دولة المماليك (648هـ – 923هـ)
(1250 – 1517 م)

اختر الإجابة الصحيحة :

س فترة حكم دولة المماليك تمثل على المخطط الزمني الحرف :

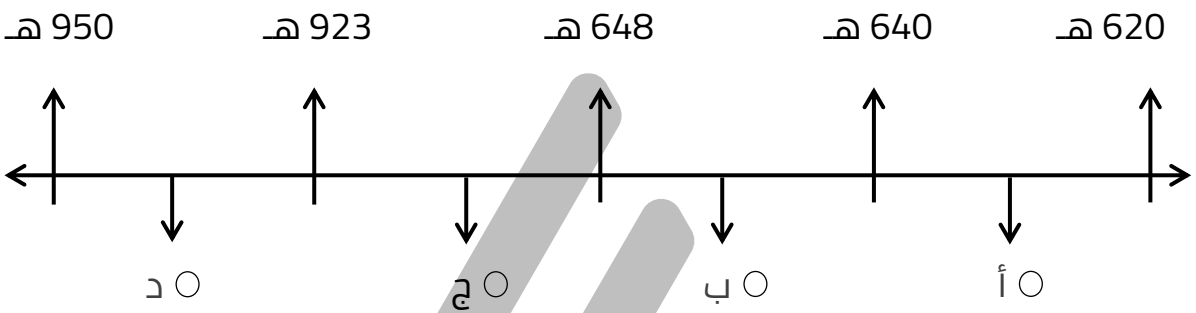

○ أ ○ ب ○ ج ○ د

س فترة حكم دولة المماليك تمثل على المخطط الزمني الحرف :

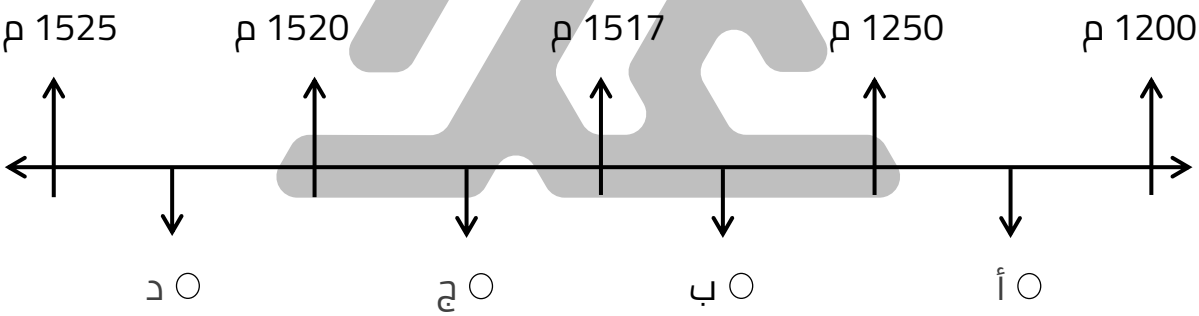

○ أ ○ ب ○ ج ○ د

س عرف المماليك

س علل – حرص الأيوبيين في أغلب الأحيان على جلب المماليك أطفالاً



© جميع الحقوق محفوظة

أكمل العبارات التالية :

س العام الهجري الذي استولى فيه المماليك على السلطة من الأيوبيين

_____

س مؤسس دولة المماليك في مصر 648 هـ يسمى _____

س السلطان الذي أنشأ الدولة المملوكية 648هـ يسمى _____

س آخر سلاطين الدولة الأيوبية يسمى _____

س فند العبارة - لم تسهم دولة المماليك بأي جهود تجاه الاخطار الخارجية التي تعرضت لها الدولة الإسلامية

ممكن أن يظهر السؤال في صيغه اخرى: (دلل - دور المماليك في خدمة الدولة الإسلامية)

س أكتب فقرة تاريخية مترابطة في حدود سطرين مستعينا بالكلمات الآتية
(المماليك – المغول – الإمارات الصليبية – الاستقرار السياسي)

س عرف - المغول

أكمل العبارات التالية :

س موحد قبائل المغول وزعيمهم يسمى _____

س المدينة التي اتخذها المغول عاصمة لهم تسمى _____

س اختياري : المغول جماعات رعوية سكنوا هضبة منغوليا في :

○ شمال آسيا ○ وسط آسيا
○ شرق آسيا ○ غرب آسيا

UULA
KuwaitTeacher.Com

© جميع الحقوق محفوظة

س علل - فسر اعتمدت سياسة المغول على التوسع

أكمل العبارات التالية :

س اجتاح المغول بقيادة هولاكو الدولة الخوارزمية وبعض مدن بلاد الشام ودولة أخرى تسمى _____

س قائد المغول الذي قضى على الدولة الخوارزمية والعباسية يسمى _____

س سلطان المماليك الذي قرر مواجهة المغول ووقف زحفهم على العالم الإسلامي في 648 هـ - 1250 م يسمى _____

اقرأ ثم أجب عما يليها

"من ملك الملوك شرقاً وغرباً القائد الأعظم باسمك اللهم باسط الأرض ورافع السماء , يعلم الملك المظفر قطز وسائر أمراء دولته أهل مملكته بالديار المصرية وما حولها من الأعمال , إنا نحن جند الله في الأرض خلقنا من سخطه وسلطنا على من حل به غضبه فلكم بجميع الأمصار معتبر , وعن عزمنا مزدجر , فاتعظوا بغيركم وأسلموا إلينا أمركم قبل أن ينكشف الغطاء فتندموا ويعود عليكم الخطأ , فنحن لا نرحم من بكى ولا نرق لمن شكا فما لكم من سيوفنا خلاص ولا من مهابتنا مناص فخيولنا سوابق وسيوفنا صواعق وسهامنا خوارق وقلوبنا كالجبال وعددنا كالرمال فأبشروا بالمذلة والهوان فمن طلب حربنا ندم , ومن قصد أمامنا سلم , وأسرعوا الجواب قبل أن تضرم الحرب نارها , وترمي نحوكم شرارها فما بقي لنا مقصد سواكم والسلام علينا وعليكم وعلى من أطاع الهدى وخشي عواقب الردى وأطاع الملك الأعلى "

س من القائل؟ _____

س لمن وجه هذه الرسالة ؟ _____

س كيف كان أسلوب الرسالة ؟ _____

معلمي الكويت
صفوة
KuwaitTeacher.Com

س أذكر – ردة فعل قطز

تـــدرب و تـفـوق
اختبارات الكترونية

معلمي الكويت
صفوة
KuwaitTeacher.Com

© جميع الحقوق محفوظة

دولة المماليك(معركة عين جالوت)

لاحظ الخريطة التالية ثم نفذ المطلوب منك :

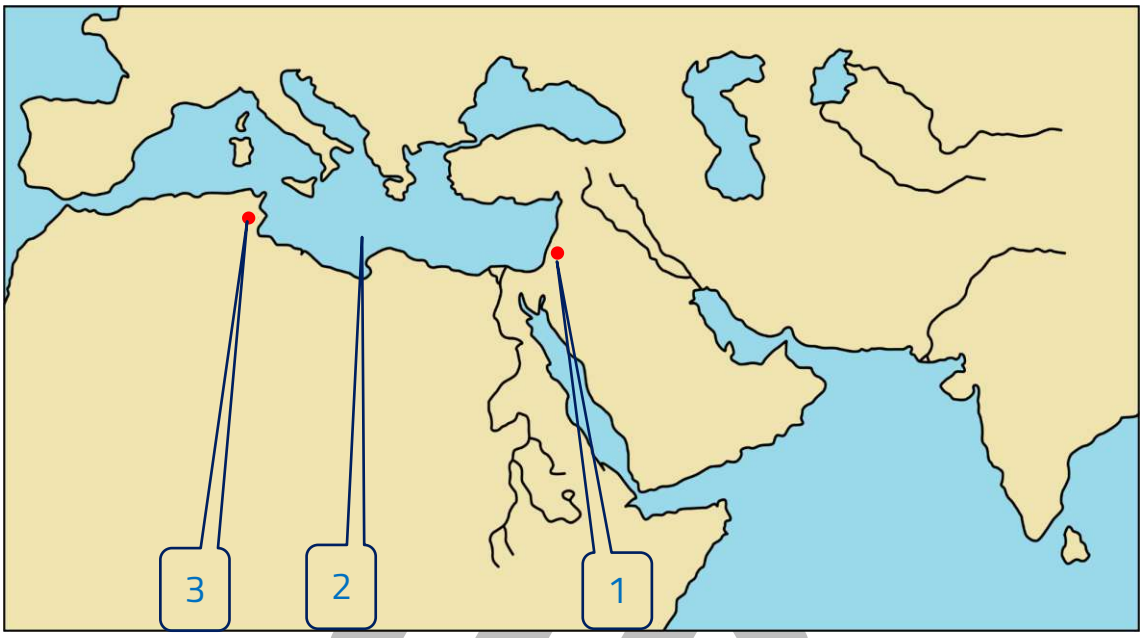

س معركة عين جالوت تحمل على الخريطة الرقم ( )

أكمل العبارات التالية :

س العام الميلادي الذي وقعت فيه معركة عين جالوت _____

س المدينة التي وصل إليها عسكر مصر وعساكر الشام وتمكنوا من استعادتها عام 1260 م تسمى _____

س القائد الذي أرسله قطز لمناوشة المغول واختبار قواتهم والحصول على المعلومات عن تنظيمهم وتسليحهم يسمى _____



س المكان الذي التقى فيه بيبرس بطلائع المغول في مكان يقع بين بسان ونابلس يسمى _____

س العام الميلادي الذي ولد فيه الظاهر بيبرس _____

س الظاهر بيبرس كان من مماليك ملك أيوبي يسمى _____

UULA
Kuwaitteacher.Com

© جميع الحقوق محفوظة

س اختياري : فترة حكم الظاهر بيبرس للدولة المملوكية تمثل على المخطط الزمني الحرف

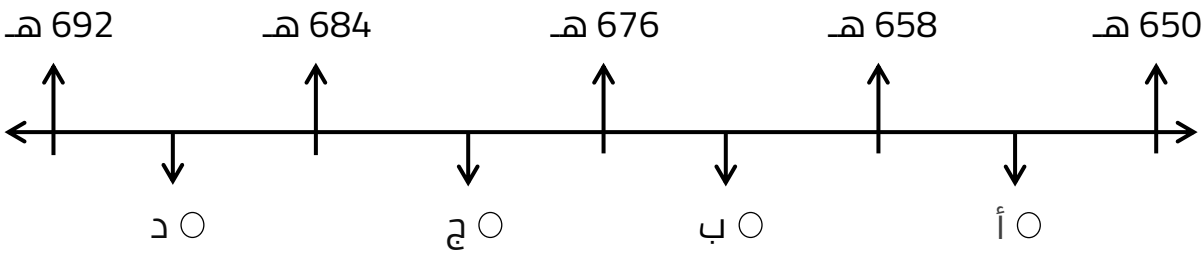

س أكمل : العام الميلادي الذي تولى فيه الظاهر بيبرس سلطنة مصر والشام _ _ _ _ _ _ _ _

س أكتب دور الظاهر بيبرس في الدولة المملوكية

أكمل العبارات التالية :

س العام الميلادي الذي توفي فيه الظاهر بيبرس _ _ _ _ _ _ _ _ _ _

س المدينة التي توفي فيها الظاهر بيبرس ودفن فيها أيضاً تسمى _ _ _ _ _ _ _

س دلل على صحة العبارة - " أظهرت معركة عين جالوت مهارة سياسية وعسكرية لقطز"

ممكن أن يظهر السؤال في صيغه اخرى:
(فند العبارة - " أظهرت معركة عين جالوت السلطان قطز سياسياً بموقف ضعيف ")

س أكمل : قائد المغول في معركة عين جالوت يسمى _ _ _ _ _ _ _

س عدد – أهم أحداث يوم 25 رمضان عام 658 هـ / 1260 م من معركة عين جالوت

UULA
صفوة معلمي الكويت
KuwaitTeacher.Com

© جميع الحقوق محفوظة

اقرأ ثم أجب :

((وإسلاماه .... وإسلاماه))

س من القائل؟ _____

س ما المناسبة؟

أكمل العبارات التالية :

س مدينة دخلها قطز بعد مطاردة المغول فاستقبله أهلها بالابتهاج تسمى _____

س منطقة طُهرت كلها من فلول المغول وعمل قطز على ترتيب أمور البلاد فيها وعين نائباً عنه فيها تسمى _____

س عدد – نتائج معركة عين جالوت

س أكمل : المدينة التي كانت تعتبر مركزاً للتبادل التجاري بين الشرق والغرب في عهد المماليك هي _____

UULA
معلمي الكويت
صفوة
KuwaitTeacher.Com

س أكمل الجدول الناقص

معركة عين جالوت	
السنة	_____
الاطراف	_____
القادة	_____
الأسباب	▪ _____ ▪ _____
النتائج	▪ _____ ▪ _____ ▪ _____ ▪ _____

س فرق بين كل من :

نتائج معركة حطين	نتائج معركة عين جالوت
▪ _____ _____ ▪ _____ _____ ▪ _____ _____ ▪ _____ _____	▪ _____ _____ ▪ _____ _____ ▪ _____ _____ ▪ _____ _____



تـــدرب و تـفـوق
اختبارات الكترونية

معلمي الكويت
KuwaitTeacher.Com

© جميع الحقوق محفوظة

دولة السلاجقة (429هـ – 700 هـ)
(1037 - 1300 م)

اختر الإجابة الصحيحة :

س الفترة الزمنية التي تمثل فترة حكم دولة السلاجقة تمثل على المخطط الزمني الحرف

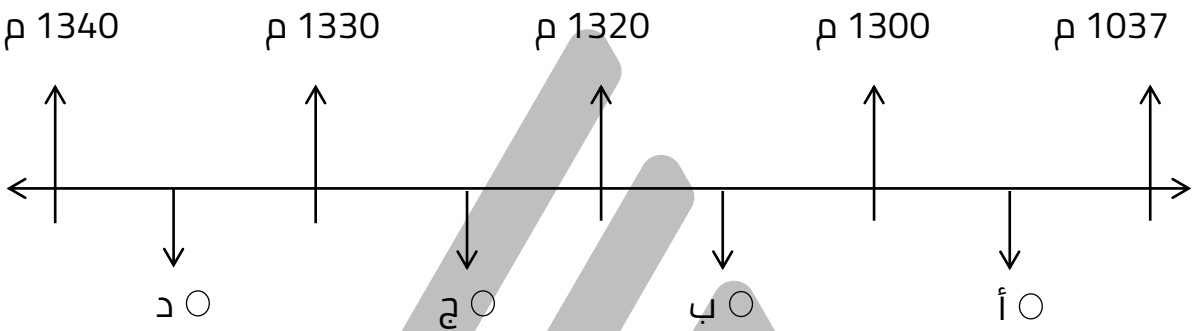

س الفترة الزمنية من سنة 429 هـ حتى 700 هـ تمثل فترة حكم دولة :

- ○ الدولة الأموية في الأندلس
- ○ الدولة الغزنوية
- ○ الدولة الغزنوية
- ○ السلاجقة

س عرف السلاجقة

.....

.....

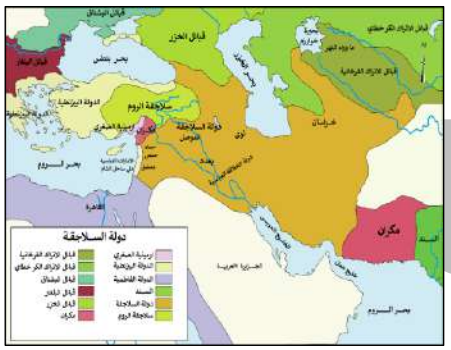

س علل - تعتبر دولة السلاجقة من أهم الدول الإسلامية التي ظهرت على مسرح التاريخ

.....

.....

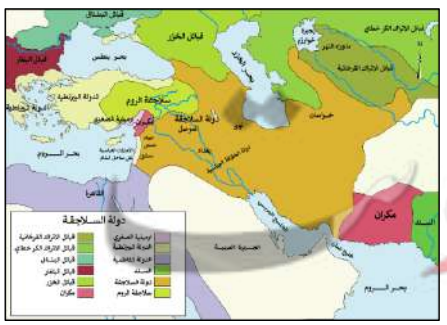

س أكمل : دولة نجحت في تكوين امبراطورية امتدت من الصين إلى البحر الأسود في القرن السادس الهجري تسمى _____

UULA
Kuwaitteacher.Com

© جميع الحقوق محفوظة

س عدد أهم أعمال طغرل بك

ممكن أن يظهر السؤال في صيغه اخرى:
(ما دور الشخصية التالية : طغرل بك في قيام الدولة السلجوقية)

أكمل العبارات التالية :

س مؤسس دولة السلاجقة ونادى نفسه سلطاناً عليها يسمى _____

س الدولة التي توسعت على حسابها الدولة السلجوقية تسمى _____

س الخليفة العباسي الذي أعلن له الولاء والطاعة السلطان طغرل بك يسمى _____

س الدولة التي رأى في ظهورها الخليفة العباسي القائم فرصة للتحرر من السيطرة البويهية تسمى _____

س العام الميلادي الذي دخل فيه طغرل بك بغداد بعد القضاء على الدولة البويهية _____

س الدولة التي نجح طغرل بك في القضاء عليها وبعدها دخل بغداد تسمى _____

س الدولة التي قضى عليها السلطان السلجوقي طغرل بك عام 447 هـ / 1055م تسمى _____

س عرف الدولة البويهية

س أكمل : السلطان السلجوقي الذي أعلن نفسه حامي للخلافة العباسية يسمى _____

UULA
معلمة الكويت
KuwaitTeacher.Com

اختر الإجابة الصحيحة :

س الخليفة العباسي الذي منح طغرل بك لقب ملك المشرق والمغرب :

- ○ أبو جعفر المنصور
- ○ أبو العباس
- ○ هارون الرشيد
- ○ القائم

س السلطان السلجوقي الذي حاول إعادة وحدة الأمة ومواصلة نشر الإسلام في أرمينيا وآسيا الصغرى :

- ○ ألب أرسلان
- ○ ملكشاه
- ○ طغرل بك
- ○ سليمان قتلمش

س فند العبارة - لم يكن لطغرل بك علاقات متميزة مع خلفاء الدولة العباسية

ممكن أن يظهر السؤال في صيغه اخرى: (برهن – علاقة طغرل بك بالدولة العباسية)

أكمل العبارات التالية :

س العام الميلادي الذي توفي فيه السلطان طغرل بك _____

س السلطان الذي تولى الحكم بعد وفاة طغرل بك يسمى _____

س منطقة سيطر عليها ألب أرسلان في 456 هـ / 1064 م تسمى _____

س الدولة التي جاورت الدولة السلجوقية بعد اتساعها هي _____

س عدد - أهم أعمال السلطان ألب أرسلان

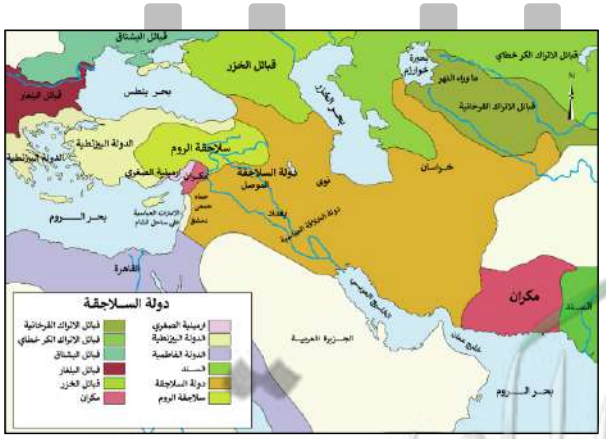

تـــدرب و تـفـوق
اختبارات الكترونية
UULA

© جميع الحقوق محفوظة

دولة السلاجقة (429هـ – 700 هـ)
(1037 - 1300 م) معركة ملاذكرد

أكمل العبارات التالية :

س صدام عسكري حدث بين ألب أرسلان والامبراطور البيزنطي رومانوس ديوجينيس عام 464 هـ / 1071 م تسمى _____

س العام الميلادي الذي وقعت فيه أحداث معركة ملاذكرد _____

س المكان الذي وقعت فيه أحداث معركة ملاذكرد يسمى _____

س الدولة التي تأسست على يد عم ألب أرسلان تسمى _____

س عم ألب أرسلان الذي أسس دولة سلاجقة الروم يسمى _____

س أكمل الجدول الناقص :

معركة ملاذكرد	
السنة	_____
المكان	_____
الاطراف	_____
القادة	_____
الاسباب	▪ _____ ▪ _____
النتائج	▪ _____ ▪ _____ ▪ _____

معلمة الكويت
KuwaitTeacher.Com

© جميع الحقوق محفوظة

س لاحظ الخريطة التالية ثم نفذ المطلوب منك :

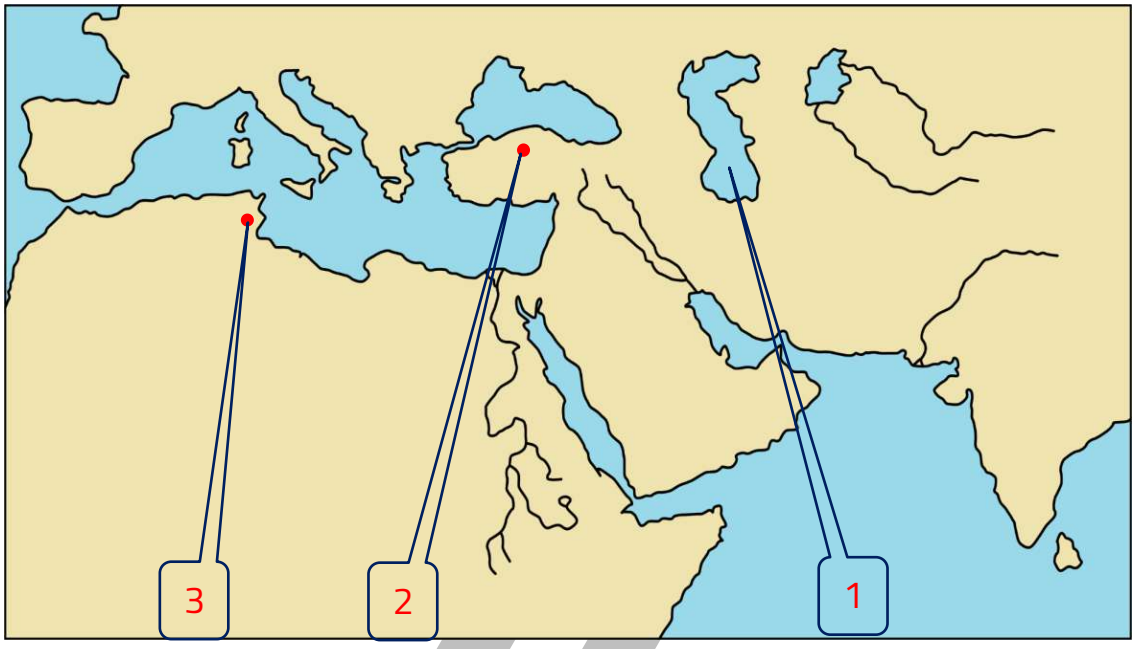

س بحر الخزر يمثل على الخريطة الرقم ( )

س دولة سلاجقة الروم تحمل على الخريطة الرقم ( )

أكمل العبارات التالية :

س العام الهجري الذي توفي فيه السلطان ألب ارسلان عام _____

س السلطان السلجوقي الذي تولى حكم الدولة بعد وفاة ألب أرسلان يسمى _____

س عدد – أعمال السلطان ملكشاه في الدولة السلجوقية

UULA
معلمي الكويت
صفوة
KuwaitTeacher.Com

© جميع الحقوق محفوظة

س اختياري : عاصمة الدولة السلجوقية عام 484هـ /1091م مدينة تسمى

ممكن أن يظهر السؤال في صيغه اخرى: حدد على الخريطة

○ بغداد ○ دمشق
○ القاهرة ○ المدينة المنورة

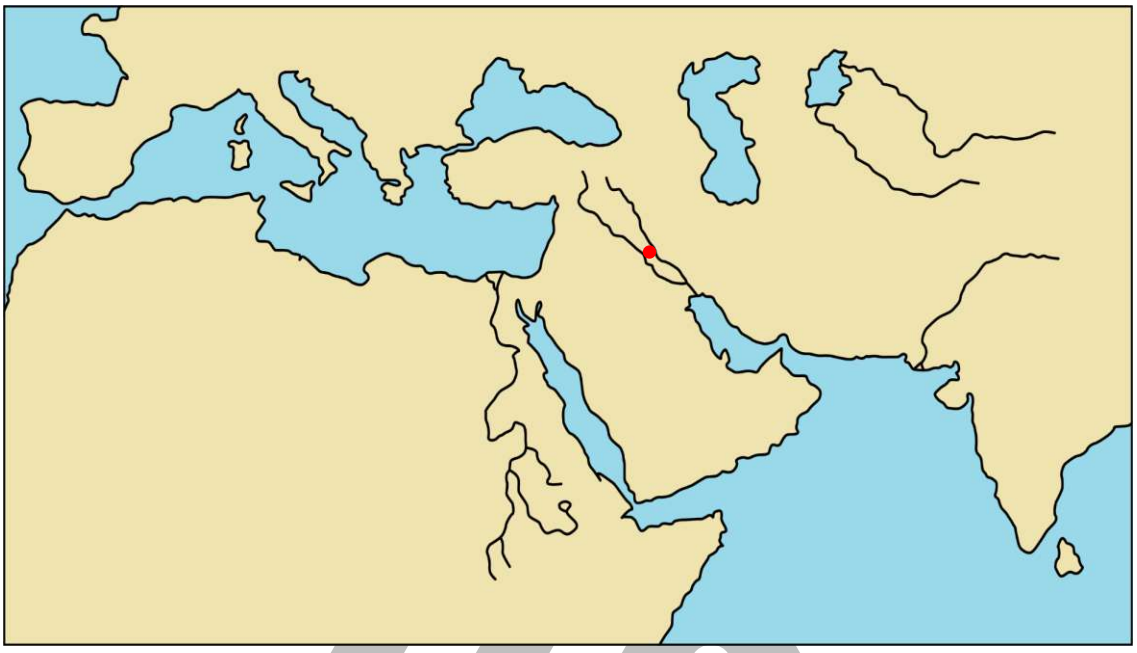

س علل – ضعف أو سقوط دولة السلاجقة

ممكن أن يظهر السؤال في صيغه اخرى:
(فند العبارة - " استمرت دولة السلاجقة لعدة قرون ولم تسقط ") (عدد – أسباب سقوط دولة السلاجقة)

أكمل العبارات التالية :

س العام الهجري الذي أصبحت فيه دولة السلاجقة عدة ممالك وأتابكيات

س انقسمت دولة السلاجقة في عام 588 هـ / 1092 م إلى عدة ممالك و

س العام الميلادي الذي زال فيه نفوذ دولة السلاجقة

س عرف الأتابكة

UULA.COM
Kuwaitteacher.Com

© جميع الحقوق محفوظة

س فسر – أطلق السلاجقة على كبار المماليك اسم الأتابكة

أكمل العبارات التالية :

ممكن أن يظهر السؤال في صيغه اخرى: اختيارى

س من أشهر الأتابكات في أوائل القرن 6 هـ / 13 م الأمير _____

س مؤسس أتابكية الموصل وحلب يسمى _____

س السلطان السلجوقي الذي كان مملوكاً له الأمير عماد الدين زنكي يسمى _____

س أكتب فيما درست ما تعرفه عن نظام الملك

أكمل العبارات التالية :

س وزير بدأ حياته العملية في عهد الأمير ألب أرسلان يسمى _____

س كاتب ووزير للسلطان ألب أرسلان يسمى _____

س وزير يرجع إليه الفضل في انشاء المدارس النظامية في بغداد يسمى _____

س دلل – يعتبر استقلال الدولة السلجوقية عن الدولة العباسية استقلالاً جزئياً وإسمياً فقط

UULA
معلمي الكويت
KuwaitTeacher.Com

س اختر من المجموعة (أ) ما يناسبها من المجموعة (ب) بوضع الرقم في المكان المناسب :

الرقم	المجموعة (أ)	الرقم المناسب	المجموعة (ب)
1	معركة النهروان		583هـ
2	معركة ملاذ كرد		38 هـ
3	معركة بلاط الشهداء		45 هـ
4	معركة عين جالوت		464 هـ
5	معركة حطين		114 هـ
			658 هـ

تـــدرب و تـفـوق
اختبارات الكترونية

UULA
معلمي الكويت
صفوة
KuwaitTeacher.Com

© جميع الحقوق محفوظة

الدولة العثمانية (699 هـ – 1341هـ / 1299م – 1923 م) نشأة الدولة (عثمان بن آرطغرل - أورخان)

اختر الإجابة الصحيحة :

س الفترة الزمنية التي تمثل فترة حكم الدولة العثمانية تمثل على المخطط الزمني الحرف

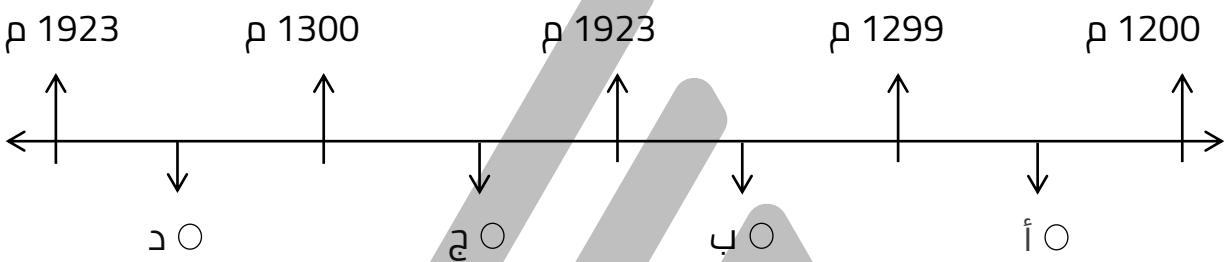

س الفترة الزمنية التي تمثل فترة حكم الدولة العثمانية تمثل على المخطط الزمني الحرف

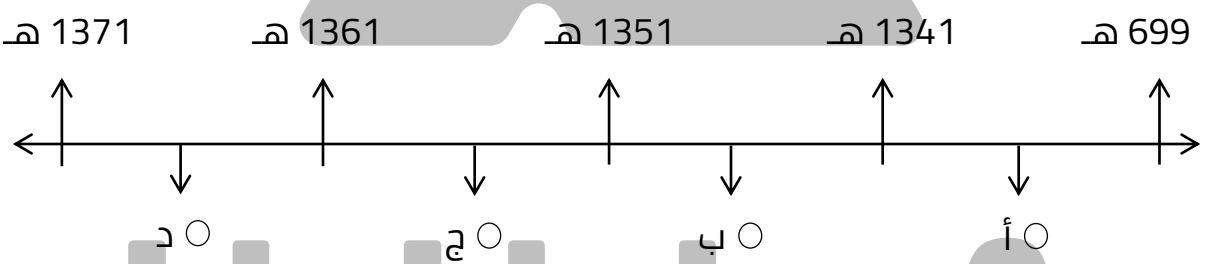

س أكمل : ينسب العثمانيون إلى _____

س عرف – العثمانيين



UULA
معلمة الكويت
Kuwaitteacher.Com

س اختياري : الموطن الأصلي للعثمانيين :

○ شمال أوروبا ○ وسط أوروبا
○ شمال آسيا ○ وسط آسيا

س علل - خروج العثمانيين من وسط آسيا إلى آسيا الصغرى

أكمل العبارات التالية :

س السلطان السلجوقي الذي منح العثمانيين قطعة أرض شمال غرب بلاد الأناضول يسمى _____

س منح السلطان السلجوقي علاء الدين كيقباد العثمانيين قطعة أرض في شمال غرب بلاد تسمى _____

س لقب منحه السلطان السلجوقي لعثمان بن آرطغرل هو _____

س الدولة التي توسع على حسابها العثمانيين في الاتجاه الغربي تسمى _____

س فسر – علل اتجاه عثمان بن آرطغرل إلى ناحية الغرب على حساب الدولة البيزنطية

أكمل العبارات التالية :

س العام الميلادي الذي أعلن فيه عثمان بن آرطغرل استقلاله عن الدولة السلجوقية _____

س السلطان العثماني الذي أعلن بعد وفاة علاء الدين كيقباد استقلال الدولة العثمانية يسمى _____

س عدد – أهم أعمال السلطان عثمان بن آرطغرل

UULA
معلمي الكويت
Kuwaitteacher.Com

© جميع الحقوق محفوظة

اختر الإجابة الصحيحة :

ممكن أن يظهر السؤال في صيغه اخرى: أكمل

س مدينة حاصرها السلطان العثماني عثمان آرطغرل عام 717 هـ / 1327 م

- ○ أنقرة
- ○ أدرنة
- ○ غاليبولي
- ○ بورصة

س السلطان العثماني الذى تولى حكم الدولة العثمانية بعد وفاة عثمان بن آرطغرل

- ○ أورخان
- ○ مراد الأول
- ○ بايزيد الأول
- ○ محمد جلبي

س السلطان العثماني الذي نجح في فتح مدينة بورصة :

- ○ عثمان بن آرطغرل
- ○ أورخان
- ○ مراد الأول
- ○ بايزيد الأول

س عاصمة الدولة العثمانية في عهد أورخان :

- ○ أنقرة
- ○ أدرنة
- ○ بورصة
- ○ غاليبولي

س علل - اتخاذ أورخان بورصة عاصمة له

ممكن أن يظهر السؤال في صيغه اخرى:
(فند يرى بعض المؤرخين أن السلطان أورخان أخطأ باختيار مدينة بورصة عاصمة للدولة العثمانية)

.....

.....

أكمل العبارات التالية :

س أول موطن قدم للعثمانيين في أوروبا تسمى _____

س المنطقة التي أتاحت للعثمانيين السيطرة على مضيق الدردنيل تسمى _____

س العام الميلادي الذي استولى فيه أورخان على غاليبولي _____

UULA
معلمي الكويت
صفوة
Kuwaitteacher.Com

© جميع الحقوق محفوظة

س عدد – أهم أعمال السلطان العثماني أورخان

تـــدرب و تـفـوق
اختبارات الكترونية

معلمي الكويت
صفوة
KuwaitTeacher.Com

© جميع الحقوق محفوظة

نشأة الدولة (السلطان مراد الأول)

س أكمل : السلطان العثماني الذي تولى حكم الدولة العثمانية بعد وفاة أورخان يسمى _____

س عدد – أهم أعمال مراد الأول في الدولة العثمانية

أكمل العبارات التالية :

ممكن أن يظهر السؤال في صيغه اخرى: اختياري

س السلطان العثماني الذي جعل ملوك أوروبا في حيرة من أمره يسمى _____

س السلطان العثماني الذي اتخذ من أدرنة عاصمة للدولة العثمانية يسمى _____

س عاصمة الدولة العثمانية في عهد السلطان مراد الأول تسمى _____

علل:

س خروج لازار ملك الصرب إلى سهل قوصوه (كوسوفو)

س خروج لازار ملك الصرب إلى سهل كوسوفو لمحاربة العثمانيين

معلمي الكويت
صفوة
KuwaitTeacher.Com

© جميع الحقوق محفوظة

أكمل العبارات التالية :

ممكن أن يظهر السؤال في صيغه اخرى: اختيارى

س العام الميلادي الذي وقعت فيه أحداث معركة كوسوفو _____

س مللك الصرب الذي استغل انشغال العثمانيين في بلاد الأناضول وخرج لمحاربتهم في كوسوفو يسمى _____

س قائد العثمانيين في معركة كوسوفو يسمى _____

س المعركة التي انتصر فيها السلطان مراد الأول لكنه استشهد فيها تسمى _____

س معركة استشهد فيها السلطان العثماني على يد جندي صربي وهو يتجول في ساحة المعركة تسمى _____

س أكمل الجدول الناقص :

معركة كوسوفو	
السنة	_____
المكان	_____
الاطراف	_____
القادة	_____
الاسباب	▪ _____
النتائج	▪ _____ ▪ _____

تـــدرب و تـفـوق
اختبارات الكترونية
UULA

معلم الكويت
KuwaitTeacher.Com

© جميع الحقوق محفوظة

نشأة الدولة
(السلطان بايزيد الأول ومراد الثاني)

اختر الإجابة الصحيحة :

س السلطان العثماني الذي خلف مراد الأول في حكم الدولة العثمانية :

○ أورخان ○ مراد الثاني
○ بايزيد الأول ○ محمد جلبي

س السلطان العثماني الذي نجح في ضم بلاد الأناضول لأول مرة تحت الحكم العثماني :

○ عثمان بن آرطغرل ○ مراد الأول
○ مراد الثاني ○ بايزيد الأول

س دلل – للسلطان بايزيد الأول دور مهم في الدولة العثمانية

ممكن أن يظهر السؤال في صيغه اخرى: (عدد – أعمال أهم السلطان بايزيد الأول في الدولة العثمانية)

أكمل العبارات التالية :

ممكن أن يظهر السؤال في صيغه اخرى: اختيارى

س السلطان العثماني الذي خشيت منه ملوك أوروبا فتحالفوا ضده في حملة عسكرية عام 798 هـ / 1396 م يسمى _____

س ملك المجر الذي نظم حملة عسكرية ضد السلطان بايزيد الأول يسمى _____

س معركة تحالف فيها ملوك أوروبا بقيادة سجسموند ملك المجر ضد السلطان بايزيد الأول تسمى _____

س المعركة التي انتصر فيها العثمانيون على الجيوش الأوروبية عام 798 هـ تسمى _____

UULA
معلمة الكويت
KuwaitTeacher.Com

© جميع الحقوق محفوظة

س العام الميلادي الذي وقعت فيه أحداث معركة نيكوبولس _____

س قائد العثمانيين في معركة نيكوبولس عام 1396 م يسمى _____

س قائد الجيوش الأوروبية في معركة نيكوبولس عام 798 هـ يسمى _____

اختر الإجابة الصحيحة :

ممكن أن يظهر السؤال في صيغه اخرى: أكمل

س معركة انتهت بهزيمة الأوروبيين أمام العثمانيين في عام 798 هـ / 1396 م :

- ○ نيكوبولس
- ○ أنقرة
- ○ كوسوفو
- ○ فارنا

س السلطان العثماني الذي تصدى لجيوش التتار في معركة أنقرة :

- ○ أورخان بن عثمان
- ○ مراد الأول
- ○ بايزيد الأول
- ○ مراد الثاني

س المعركة التي اجتاحت فيها جيوش التتار البلاد الإسلامية حتى وصلت آسيا الصغرى عام 805 هـ / 1402 م :

- ○ كوسوفو
- ○ أنقرة
- ○ فارنا
- ○ نيكوبولس

أكمل العبارات التالية :

س العام الميلادي الذي وقعت فيه أحداث معركة أنقرة _____

س قائد العثمانيين في معركة أنقرة أمام التتار يسمى _____

س قائد التتار الذي اجتاح البلاد الإسلامية في عام 805 هـ / 1402 م يسمى _____

س الجيوش التي استطاعت هزيمة العثمانيين ووصلت إلى آسيا الصغرى عام 805 هـ / 1402 م تسمى _____

س المعركة التي هزم فيها بايزيد الأول وتوفي وهو في الأسر تسمى _____

UULA
معلمة الكويت
Kuwaitteacher.Com

© جميع الحقوق محفوظة

س قارن بين كل من حسب الجدول التالي :

وجه المقارنة	معركة نيكوبولس	معركة أنقرة
السنة	_____	_____
الأطراف	_____ × _____	_____ × _____
القادة	_____	_____
النتائج	_____	_____

أكمل العبارات التالية :

ممكن أن يظهر السؤال في صيغه اخرى: اختياري

س السلطان العثماني الذي شهدت الدولة العثمانية فترة من الحروب الأهلية بين أبنائه يسمى _____

س انتهت الحروب الأهلية بين أبناء السلطان بايزيد الأول بتولي ابنه الأصغر ويسمى _____

س السلطان العثماني الذي اقتصرت فترة حكمه على تثبيت أركان الدولة يسمى _____

س السلطان العثماني الذي آلت إليه أمور الدولة العثمانية بعد محمد جلبي يسمى _____

UULA
معلمي الكويت
صفوة
KuwaitTeacher.Com

© جميع الحقوق محفوظة

اختر الإجابة الصحيحة :

ممكن أن يظهر السؤال في صيغه اخرى: أكمل

س المعركة التي انتصر فيها السلطان مراد الثاني على ملك المجر عام 848 هـ / 1444 م :

- ○ أنقرة
- ○ فارنا
- ○ كوسوفو
- ○ نيكوبولس

س السلطان العثماني الذي خاض حروباً مع الجيوش الأوروبية بقيادة لادسلاس ملك المجر في عام 1444 م :

- ○ بايزيد الأول
- ○ مراد الأول
- ○ محمد جلبي
- ○ مراد الثاني

س ملك المجر الذي انتصر عليه السلطان مراد الثاني في معركة فارنا عام 848 هـ / 1444 م

- ○ لادسلاس
- ○ بايزيد الأول
- ○ لازار
- ○ تيمور لنك

س حدد – على خريطة العالم الإسلامي موقع معركة فارنا

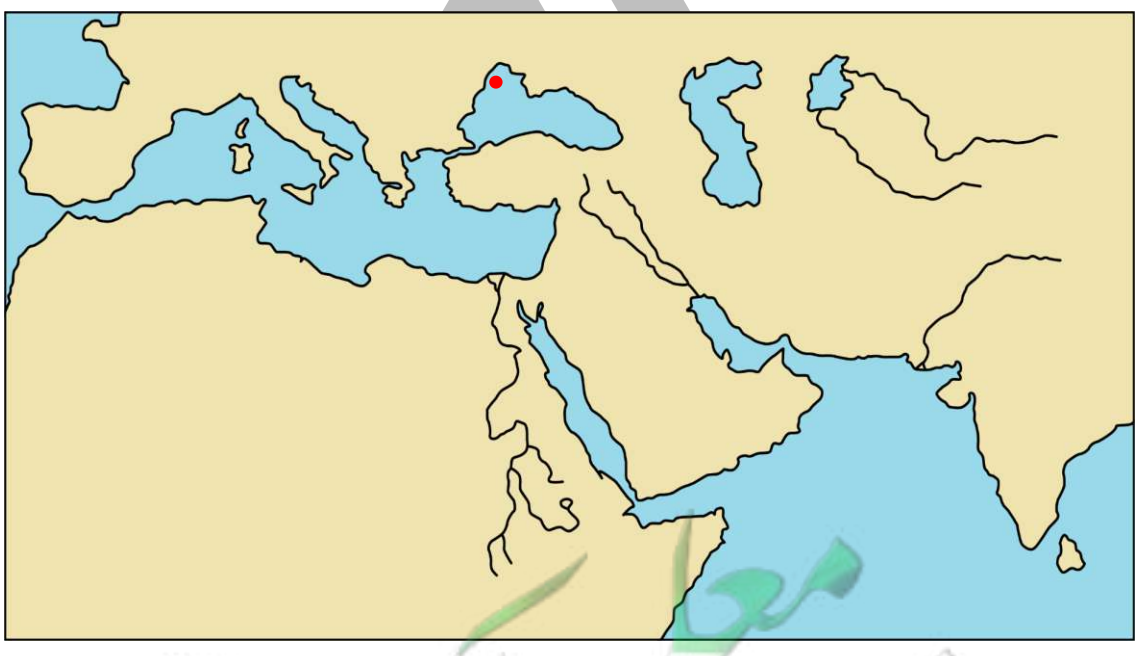

صفوة معلمي الكويت
KuwaitTeacher.Com

س أكمل الجدول الناقص :

معركة فارنا	
السنة	_ _ _ _ _ _ _ _ _ _ _ _ _ _ _ _ _ _ _ _
الأطراف	_ _ _ _ _ _ _ _ _ _ _ _ _ _ _ _ _ _ _ _
القادة	_ _ _ _ _ _ _ _ _ _ _ _ _ _ _ _ _ _ _ _
النتائج	_ _ _ _ _ _ _ _ _ _ _ _ _ _ _ _ _ _ _ _

تـــدرب و تـفـوق
اختبارات الكترونية
UULA

UULA
معلمي الكويت
صفوة
KuwaitTeacher.Com

© جميع الحقوق محفوظة

فتح القسطنطينية

أكمل العبارات التالية :

س السلطان العثماني الذي تولى مقاليد الحكم بعد والده مراد الثاني يسمى _____

س العام الميلادي الذي تسلم فيه محمد الثاني مقاليد حكم الدولة العثمانية بعد والده مراد الثاني _____

س مدينة اتجهت أنظار محمد الثاني لفتحها وهي عاصمة الدولة البيزنطية تسمى _____



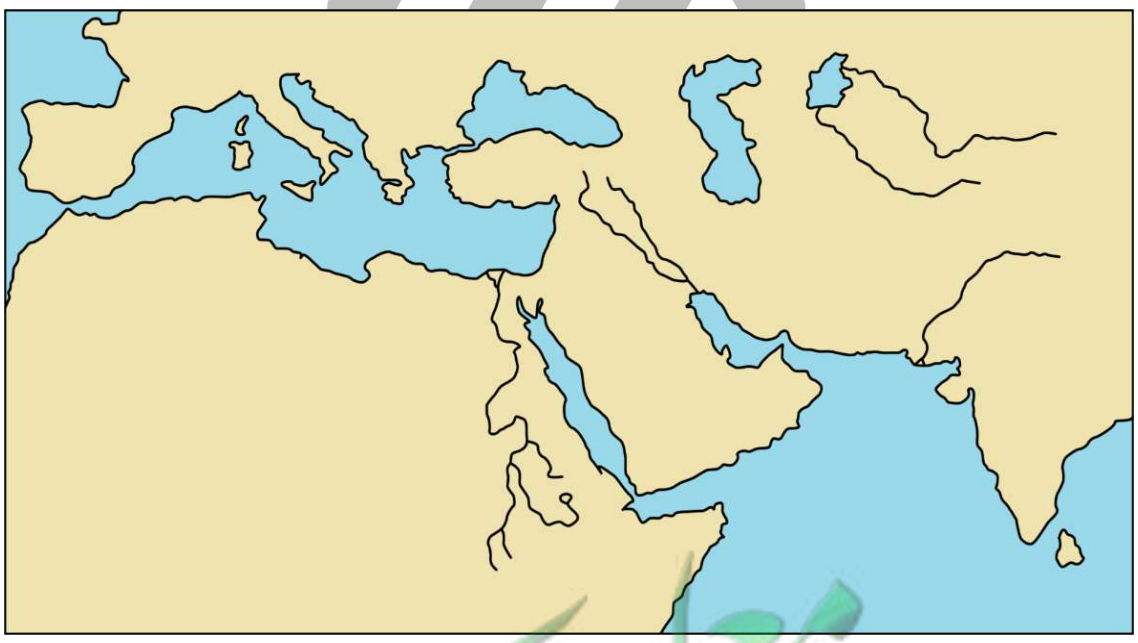

صفوة معلمي الكويت
KuwaitTeacher.Com

© جميع الحقوق محفوظة

نفذ المطلوب منك مما بين القوسين

س السلطان محمد الثاني (استعدادته لفتح القسطنطينية)

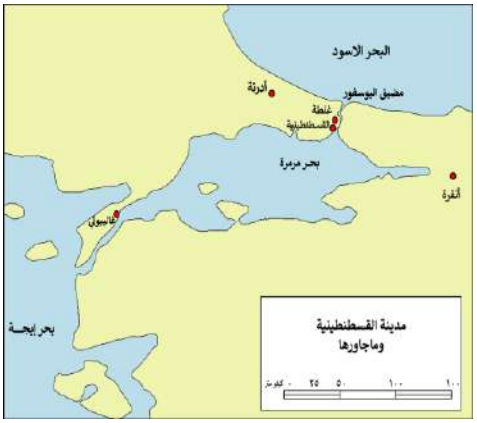

أذكر دور كل من الشخصيات التالية في فتح القسطنطينية

س محمد إسحاق ؟

س المهندس أوربان ؟

س الوزير زغنوس ؟

س عدد الاستعدادات البحرية للسلطان محمد الثاني في فتح القسطنطينية

UULA
صفوة الكويت
KuwaitTeacher.Com

© جميع الحقوق محفوظة

س عدد الاستعدادات البرية للسلطان محمد الثاني في فتح القسطنطينية

فسر

س قيام السلطان محمد الثاني بترك محمد إسحاق أميراً على الأناضول

س تجديد السلطان محمد الثاني معاهدات السلام التي وقعها والده مع ملوك أوروبا

س فند العبارة " لم تكن هناك أهمية لبناء السلطان محمد الفاتح قلعة روميلي حصار على مضيق البسفور

ممكن أن يظهر السؤال في صيغه اخرى:
(علل – أهمية بناء قلعة روميللي حصار على مضيق البسفور)

تـــدرب و تـفـوق
اختبارات الكترونية
UULA

معلمي الكويت
صفوة
KuwaitTeacher.Com

أكمل العبارات التالية :

س العام الميلادي الذي شهد انتهاء بناء قلعة روميللي حصار

_ _ _ _ _ _ _ _ _ _ _ _

س القلعة التي بناها السلطان محمد الثاني لقطع الاتصالات البيزنطية مع أوروبا تسمى _ _ _ _ _ _ _ _ _ _ _ _

س الضفة التي بنى عليها السلطان محمد الثاني قلعة روميلي حصار على مضيق البسفور تسمى _ _ _ _ _ _ _ _ _ _ _ _

س العام الميلادي الذي حاصر فيه السلطان بايزيد الأول القسطنطينية

_ _ _ _ _ _ _ _ _ _ _ _

س القلعة التي بناها السلطان بايزيد الأول على مضيق البسفور يطلق عليها اسم

_ _ _ _ _ _ _ _ _ _ _ _

س الضفة التي بنى عليها السلطان بايزيد الأول قلعة أناضولي حصار على مضيق البسفور تسمى _ _ _ _ _ _ _ _ _ _ _ _

س علل – قيام السلطان بايزيد الأول ببناء قلعة أناضولي حصار على مضيق البسفور

.....

.....

اختر الإجابة الصحيحة :

س السلطان العثماني الذي بنى قلعة أناضولي حصار على مضيق البسفور

- ○ بايزيد الأول
- ○ بايزيد الثاني
- ○ مراد الأول
- ○ مراد الثاني

س السلطان العثماني الذي بنى قلعة مواجهة لقلعة جده السلطان بايزيد لإحكام السيطرة على مضيق البسفور

- ○ أورخان
- ○ مراد الأول
- ○ محمد جلبي
- ○ محمد الثاني

س توجه السلطان محمد الثاني إلى القسطنطينية ومكث هناك ليتعرف على تحصينات المدينة بدقة لمدة

- ○ ثلاثة أيام
- ○ أربعة أيام
- ○ خمسة أيام
- ○ ستة أيام

UULA
معلم الكويت
KuwaitTeacher.Com

© جميع الحقوق محفوظة

أكمل العبارات التالية :

س المهندس الذي طلب منه السلطان محمد الثاني صناعة مدفع ضخم لتحطيم أسوار القسطنطينية يسمى _____

س أمير الأسطول العثماني في فتح القسطنطينية الذي اختاره السلطان محمد الثاني يسمى _____

س الوزير الذي كلفه السلطان محمد الثاني ببناء جسر خشبي على القرن الذهبي يسمى _____

س فسر – تكليف الوزير زغنوس باشا بناء جسر خشبي على القرن الذهبي

اختر الإجابة الصحيحة :

س عدد الأيام التي حاصر فيها السلطان محمد الثاني القسطنطينية :

- ○ 54 يوم
- ○ 55 يوم
- ○ 56 يوم
- ○ 57 يوم

س العام الميلادي الذي فتح فيه السلطان محمد الثاني القسطنطينية :

- ○ 1451 م
- ○ 1452 م
- ○ 1453 م
- ○ 1454 م

س عاصمة الدولة العثمانية في عهد السلطان محمد الثاني تسمى :

- ○ أنقرة
- ○ القسطنطينية
- ○ أدرنة
- ○ بورصة

س علل – عرف السلطان محمد الثاني باسم الفاتح

س عدد - أهم أعمال السلطان محمد الفاتح

ممكن أن يظهر السؤال في صيغه اخرى:
(فند - اقتصرت فتوحات محمد الثاني على فتح القسطنطينية فقط)

UULA
صفوة الكويت
KuwaitTeacher.Com

أكمل العبارات التالية :

س يطلق على مدينة بوخارست عاصمة الأفلاق حالياً اسم _____

س العام الميلادي الذي ضم فيه السلطان محمد الثاني إقليم البوسنة _____

س إقليم أوروبي نجح محمد الفاتح في ضمه سنة 869 هـ / 1464 م وأسلم العديد من أهله يسمى _____

س العام الميلادي الذي توفي فيه السلطان محمد الفاتح _____

س السلطان العثماني الذي خلف محمد الفاتح في حكم الدولة العثمانية ولم تشهد الدولة فتوحاته مهمه في عهده يسمى _____

تـــدرب و تـفـوق
اختبارات الكترونية
UULA

UULA
معلمي الكويت
صفوة
KuwaitTeacher.Com

© جميع الحقوق محفوظة

التوسع العثماني في المشرق

س اختياري : أول سلطان عثماني يفكر في ضم العالم الإسلامي :

ممكن أن يظهر السؤال في صيغه اخرى: أكمل

- ○ سليم بن بايزيد الثاني
- ○ بايزيد الأول
- ○ بايزيد الثاني
- ○ مراد الثاني

س عدد - أهم أعمال السلطان سليم بن بايزيد الثاني

ممكن أن يظهر السؤال في صيغه اخرى:
(برهن - اهتمام السلطان سليم بن بايزيد الثاني بالتوسع العثماني شرقا وضم العالم الإسلامي)

س قارن بين كل من

وجه المقارنة	معركة جالديران	معركة مرج دابق	معركة الريدانية
السنة			
الأطراف			
النتائج			

معلمي الكويت
صفوة
KuwaitTeacher.Com

أكمل العبارات التالية :

س الدولة التي واجهت الصفويين في معركة جالد يران عام 920 هـ تسمى _____

س المعركة التي انتصر فيها العثمانيين على الصفويين عام 920هـ / 1514 م تسمى _____

س المعركة التي انتصر فيها العثمانيين على المماليك عام 922هـ / 1516 م تسمى _____

س العام الذي وقعت فيه معركة الريدانية بين العثمانيين والمماليك في مصر _____

اختر الإجابة الصحيحة :

س أصبحت بلاد فارس تحت سيطرة الدولة العثمانية بعد معركة :

- ○ مرج دابق
- ○ جالديران
- ○ الريدانية
- ○ نيكوبولس

س أصبحت بلاد الشام تحت سيطرة العثمانيين بعد معركة :

- ○ الريدانية
- ○ كوسوفو
- ○ جالديران
- ○ مرج دابق

س دخلت مصر تحت حكم الدولة العثمانية في عام 1517 م بعد معركة :

- ○ الريدانية
- ○ مرج دابق
- ○ جالديران
- ○ ليبانته

س الدولة التي أنهى عليها السلطان سليم بن بايزيد الثاني في مصر عام 1517 م :

- ○ الفاطمية
- ○ الأيوبية
- ○ الإخشيدية
- ○ المماليك

س العام الميلادي الذي أصبحت فيه الحجاز واليمن تحت الحكم العثماني :

- ○ 1514 م
- ○ 1516 م
- ○ 1515 م
- ○ 1517م

UULA
صفوة معلمي الكويت
KuwaitTeacher.Com

لاحظ الخريطة التالية ثم نفذ المطلوب منك :

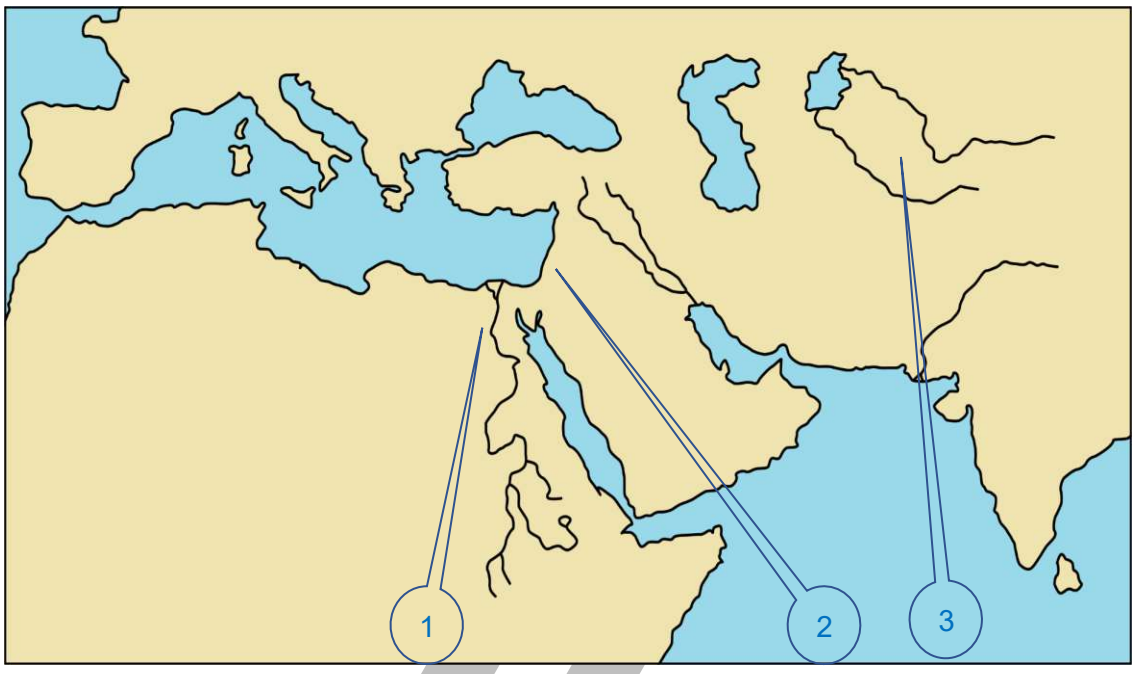

س منطقة أصبحت تحت سيطرة العثمانيين في عام 1516 تحمل على الخريطة الرقم ( )

س منطقة دخلها العثمانيين عام 1517 م / 923 هـ تحمل على الخريطة الرقم ( )

تـــدرب و تـفـوق
اختبارات الكترونية

UULA
معلمي الكويت
صفوة
KuwaitTeacher.Com

السلطان سليمان القانوني

س أكمل : العام الميلادي الذي تسلم فيه السلطان سليمان الأول مقاليد حكم الدولة العثمانية _____

س علل – تسمية السلطان سليمان الأول بالقانوني

س اختياري : عاشر سلاطين الدولة العثمانية يسمى :

○ بايزيد الأول ○ بايزيد الثاني
○ مراد الثاني ○ سليمان الأول

س عدد - أهم أعمال السلطان سليمان القانوني

ممكن أن يظهر السؤال في صيغه اخرى:
(برهن - " بلغت الدولة العثمانية أقصى اتساع لها في عهد السلطان سليمان القانوني ")



أكمل العبارات التالية :

س العام الميلادي الذي فتح فيه السلطان سليمان الأول مدينة بلغراد _____

س العام الميلادي الذي خرج فيه السلطان سليمان الأول لمحاصرة فيينا عاصمة النمسا _____

KuwaitTeacher.Com

© جميع الحقوق محفوظة

س علل - قيام السلطان سليمان برفع الحصار عن فيينا

.....

.....

أكمل العبارات التالية :

س أثناء انشغال السلطان سليمان القانوني بحرب النمسا حدثت مناوشات على حدود دولته مع _____

س العام الميلادي الذي دخل فيه إبراهيم باشا مدينة تبريز _____

س المدينة التي دخلها إبراهيم باشا في عام 1534 م / 941 هـ دون مقاومة تسمى _____

س المدينة التي عاد إليها إبراهيم باشا بعد فتح تبريز وبغداد والبصرة تسمى _____

س السلطان العثماني الذي بلغت الدولة العثمانية في عهده من النمسا شمالاً وحتى اليمن جنوباً ومن فارس شرقاً حتى المغرب غرباً يسمى _____

س أكبر امبراطورية عرفها العالم في القرن السادس عشر الميلادي هي _____

اختر الإجابة الصحيحة :

س توفي السلطان سليمان القانون وعمره :

○ 70 سنة ○ 71 سنة
○ 72 سنة ○ 73 سنة

س عدد السنوات التي قضاها السلطان سليمان القانوني في حكم الدولة العثمانية

○ 45 سنة ○ 46سنة
○ 47 سنة ○ 48 سنة

س أكمل : بعد وفاة السلطان سليمان القانوني خلفه في الحكم ابنه السلطان _____

معلم الكويت
Kuwaitteacher.Com

© جميع الحقوق محفوظة

س عدد – أهم الأعمال والأحداث التي وقعت في عهد السلطان سليم بن سليمان

.....

.....

.....

.....

.....

أكمل العبارات التالية :

س سلطان عثماني من أهم الأعمال في عهده فتح جزيرة صقلية يسمى

_ _ _ _ _ _ _ _ _ _ _ _

س جزيرة صقلية التي فتحها السلطان سليم بن سليمان كانت تابعة _ _ _ _ _ _ _ _ _

س موقعة بحرية خسرت فيها البحرية العثمانية أكثر من نصف أسطولها تسمى

_ _ _ _ _ _ _ _ _ _ _ _

س العام الميلادي الذي خسرت فيه البحرية العثمانية نصف أسطولها في معركة ليبانته _ _ _ _ _ _ _ _ _

س السلطان الذي حدثت في عهده معركة ليبانته / ليبانتو يسمى

_ _ _ _ _ _ _ _ _ _ _ _

س أكمل الجدول الناقص :

معركة ليبانته أو ليبانتو	
السنة	_ _
الأطراف	_ _
السبب	_ _
النتائج	. _

معلمي الكويت
صفوة
KuwaitTeacher.Com

© جميع الحقوق محفوظة

س علل - ضعف الدولة العثمانية بعد وفاة سليم الثاني (سليم بن سليمان)

س عرف عصر التنظيمات

ممكن أن يظهر السؤال في صيغ اخرى: أكمل مصطلح

س اختياري : الفترة التي شهدت إدخال قوانين وأنظمة جديدة في الدولة العثمانية لإنقاذها مما كانت تعانيه تمثل على المخطط الزمني الحرف :

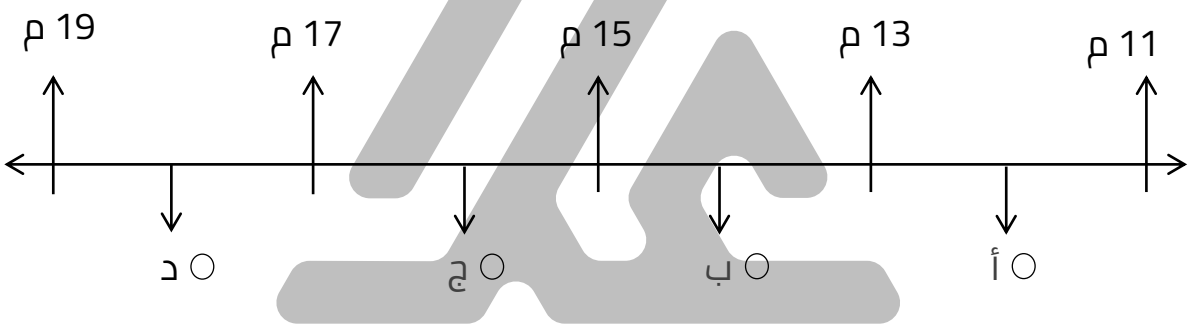

س فسر – علل محاولة سلاطين الدولة العثمانية ادخال قوانين جديدة في الفترة من 17-19 م

س أكتب فقرة تاريخية مترابطة مستعينا بالكلمات التالية
(الدولة العثمانية – عصر التنظيمات – الدول الغربية – القرون (السابع عشر – التاسع عشر)

تـــدرب و تـفـوق
اختبارات الكترونية

© جميع الحقوق محفوظة

السلطان عبد الحميد الثاني
(1293 – 1326 هـ/ 1876 م – 1908 م)

اختر الإجابة الصحيحة :

س الفترة الزمنية التي تمثل فترة حكم السلطان عبد الحميد الثاني تمثل على المخطط الزمني الحرف :

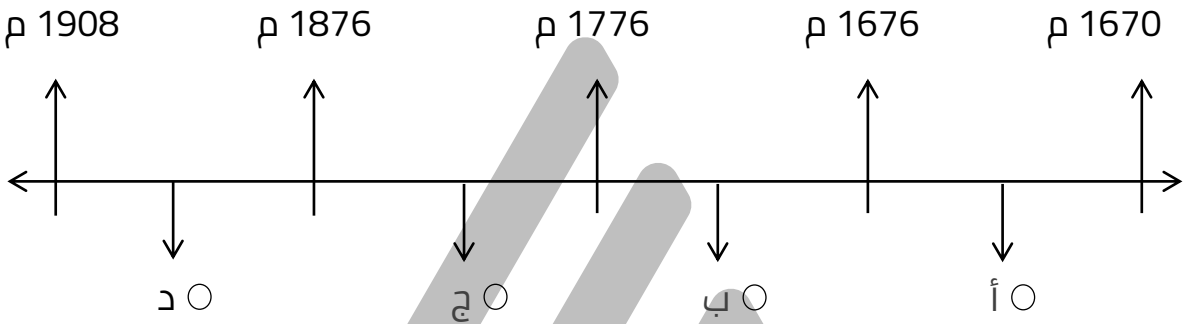

س أهم سلاطين الدولة العثمانية الذين تولوا عرش الدولة في النصف الثاني من القرن التاسع عشر :

- مراد الثاني
- عبد الحميد الثاني
- بايزيد الثاني
- محمد الثاني

س علل - تعتبر فترة حكم السلطان عبد الحميد من أخصب فترات التاريخ العثماني

ممكن أن يظهر السؤال في صيغه اخرى:
(دلل – يعتبر السلطان عبد الحميد الثاني من أهم السلاطين الذين تولوا حكم الدولة العثمانية)

س دلل – الضعف الذي كانت تمر به الدولة العثمانية في أواخر القرن التاسع عشر

صفوة معلمي الكويت
KuwaitTeacher.Com

© جميع الحقوق محفوظة

س علل - تقارب السلطان عبد الحميد مع ألمانيا

س اختياري : السلطان العثماني الذي بدأ يهتم بلقب الخلافة الإسلامية ونادى بسياسة الرابطة الإسلامية

ممكن أن يظهر السؤال في صيغه اخرى: أكمل

- ○ بايزيد الثاني
- ○ مراد الثاني
- ○ عبد الحميد الثاني
- ○ محمد الثاني

س دلل – اهتمام السلطان عبد الحميد الثاني بلقب الخلافة الإسلامية

علل :

س نادى السلطان عبد الحميد الثاني بسياسة الجامعة أو الرابطة الإسلامية

س فشل مشروع الرابطة الإسلامية

س عدد – القوميات التي ظهرت في الدولة العثمانية في النصف الثاني من القرن التاسع عشر

UULA
صفوة معلمي الكويت
KuwaitTeacher.Com

© جميع الحقوق محفوظة

س أكمل : السياسة التي كانت تتبعها الدولة العثمانية واختلفت تماماً مع نشأة القوميات تسمى _____

س عرف سياسة العثمنة

س دلل – ساهم الكثير من المثقفين الأتراك في إنهاء حكم الدولة العثمانية

ممكن أن يظهر السؤال في صيغه اخرى: (أكتب – دور المثقفين الأتراك في الدولة العثمانية)

أكمل العبارات التالية :

ممكن أن يظهر السؤال في صيغه اخرى: اختياري

س جماعة أصحاب سلطة في الدولة العثمانية قرروا عزل السلطان عبد الحميد الثاني تسمى _____

س العام الميلادي الذي قرر فيه الاتحاديون الأتراك عزل السلطان عبد الحميد الثاني

_____

س الجزيرة التي نفي إليها السلطان عبد الحميد الثاني عام 1908م تسمى

_____

س الدولة التي نفي إليها السلطان عبد الحميد الثاني عام 1908م تسمى

_____

تـــدرب و تـفـوق
اختبارات الكترونية
UULA

نهاية الدولة العثمانية وحماية العالم الإسلامي

اختر الإجابة الصحيحة :

ممكن أن يظهر السؤال في صيغه اخرى: أكمل

س العام الميلادي الذي عُين فيه السلطان محمد رشاد (محمد الخامس) سلطاناً على الدولة العثمانية :

- ○ 1906 م
- ○ 1907 م
- ○ 1908 م
- ○ 1909 م

س السلطان العثماني الذي كان ألعوبة في يد جماعة الاتحاد والترقي :

- ○ محمد الثاني
- ○ سليم الثاني
- ○ محمد الخامس
- ○ بايزيد الثاني

أكمل العبارات التالية :

س أصحاب الكلمة العليا في الدولة العثمانية منذ عام 1909 م حتى نهاية الدولة هم _____

س السياسة التي نادى بها الاتحاديون في الدولة العثمانية تسمى _____

س عرف سياسة التتريك

_____

_____

س فرق بين كل من :

سياسة العثمنة	سياسة التتريك
_____	_____
_____	_____
_____	_____
_____	_____
_____	_____
_____	_____

KuwaitTeacher.Com

© جميع الحقوق محفوظة

س دلل على صحة العبارة - " ضعف الدولة العثمانية وفقدان أجزاء كبيرة من أراضيها "

س عدد - النتائج المترتبة على ضعف شخصية محمد الخامس

س أكمل : العام الميلادي الذي أعلن فيه إلغاء الدولة العثمانية وإنهاء الخلافة الإسلامية رسمياً _____

س عدد – أهم أحداث عام 1923 م في الدولة العثمانية

ممكن أن يظهر السؤال في صيغه اخرى:
(دلل -شهد عام 1923 م في الدولة العثمانية العديد من الأحداث الهامة)

س أكمل : أول رئيس لجمهورية تركيا الحديثة عام 1923 م يسمى _____

س عدد - سمات الدولة العثمانية

س دلل على صحة العبارة - " عملت الدولة العثمانية جاهدة على حماية العالم الإسلامي من الأخطار الخارجية"

UULA
صفوة الكويت
KuwaitTeacher.Com

© جميع الحقوق محفوظة

صنف الأحداث التاريخية التالية حسب الجدول الموضح

س (استرداد بيت المقدس – تأسيس مدينة القاهرة –إدخال نظام الوراثة في الخلافة - فتح بلاد الأندلس – القضاء على حكم بني الأغلب)

الدولة الأموية	الدولة الفاطمية	الدولة الأيوبية
▪ ---------- ▪ ----------	▪ ---------- ▪ ----------	▪ ---------- ▪ ----------

س (فتح مدينة القسطنطينية – القضاء على الدولة البويهية 1055 م – معركة عين جالوت - فتح مدينة بلغراد - جعل إقليم البنجاب ولاية إسلامية –بناء مدينة بغداد)

الدولة العثمانية	الدولة العباسية	الدولة السلجوقية	دولة المماليك
▪ ---------- ▪ ----------	---------- ----------	---------- ----------	---------- ----------

س اختر من المجموعة (أ) ما يناسبها من المجموعة (ب) بوضع الرقم المناسب :

المجموعة (أ)	الرقم المناسب	المجموعة (ب)
▪ أسس مدينة القيروان سنة 50 هـ		محمد الثاني
▪ أسس مدينة تونس		عبد الرحمن الغافقي
▪ فتح مدينة القسطنطينية سنة 758 هـ		سليمان الأول
▪ قاد حملة لفتح بلاد غالة سنة 114 هـ		حسان بن النعمان
▪ فتح كاشغر وجعلها قاعدة إسلامية		عقبة بن نافع
▪ فتح مدينتي بلغراد وبودابست سنة 928هـ		قتيبة بن مسلم
		بيبرس

تـــدرب و تـفـوق
اختبارات الكترونية
UULA

جميع الحقوق محفوظة ©

الحضارة العربية الإسلامية

س عرف الحضارة

س دلل – لم تظهر الحضارة العربية الإسلامية من العدم

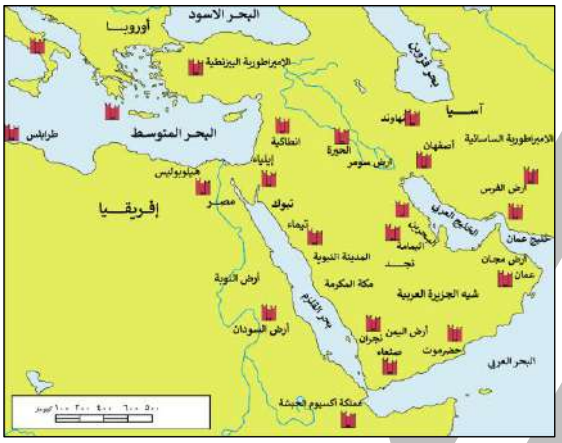

س علل - تسمية الحضارة الإسلامية بهذا الاسم

س عدد مميزات الحضارة العربية الإسلامية

ممكن أن يظهر السؤال في صيغه اخرى:
(عدد – القيم التي تميز الحضارة العربية الإسلامية عن غيرها من الحضارات الأخرى)

س عدد – النتائج المترتبة على امتداد الحضارة العربية الإسلامية لتشمل مساحة كبيرة من العالم

ممكن أن يظهر السؤال في صيغه اخرى:
(دلل – امتدت الحضارة العربية الإسلامية لتشمل مساحة كبيرة من العالم)

UULA
صفوة الكويت
KuwaitTeacher.Com

© جميع الحقوق محفوظة

س لاحظ الخريطة التالية ثم نفذ المطلوب منك :

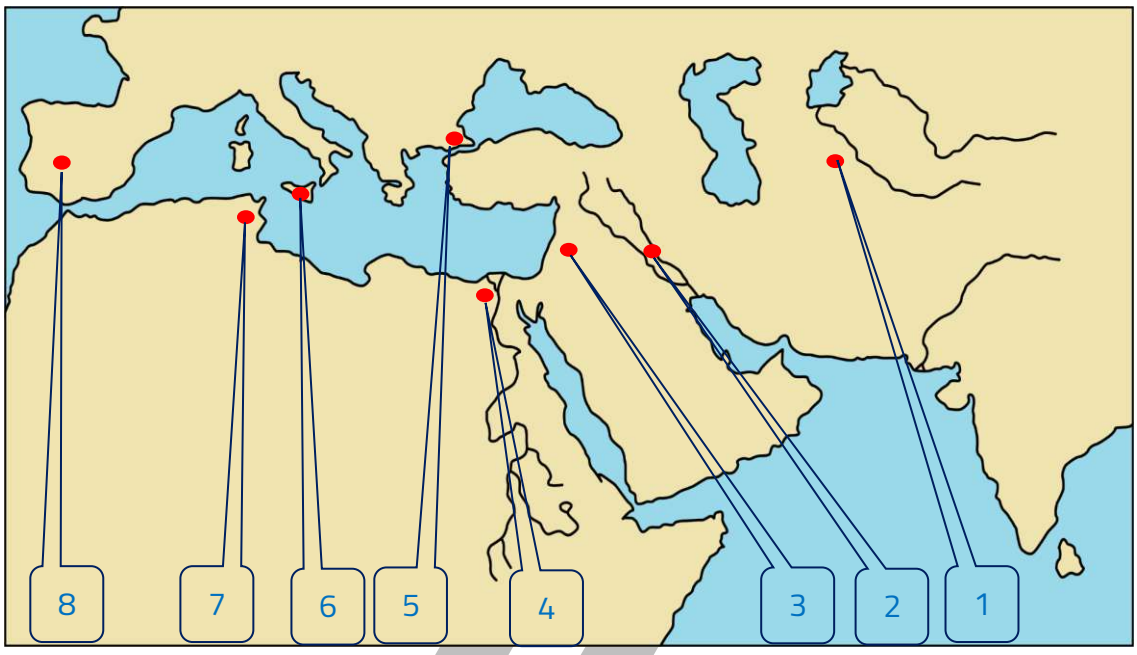

س قرطبة مركز من مراكز إشعاع الحضارة الإسلامية تحمل على الخريطة الرقم ( )

س دمشق مركز من مراكز إشعاع الحضارة الإسلامية تحمل على الخريطة الرقم ( )

س القاهرة مركز من مراكز إشعاع الحضارة الإسلامية تحمل على الخريطة الرقم( )

س بخارى مركز من مراكز إشعاع الحضارة الإسلامية تحمل على الخريطة الرقم ( )

س القسطنطينية مركز من مراكز إشعاع الحضارة الإسلامية تحمل على الخريطة الرقم ( )

س بغداد مركز من مراكز إشعاع الحضارة الإسلامية تحمل على الخريطة الرقم ( )

س القيروان مركز من مراكز إشعاع الحضارة الإسلامية تحمل على الخريطة الرقم( )

UULA
معلمي الكويت
صفوة
KuwaitTeacher.Com

© جميع الحقوق محفوظة

مظاهر الحضارة الإسلامية

س عدد – مظاهر الحضارة العربية الإسلامية

س عدد – أقسام الجانب السياسي في الحضارة العربية الإسلامية



س عرف السلطة الحاكمة

س دلل - تطور السلطة القضائية منذ قيام الدولة الإسلامية

ممكن أن يظهر السؤال في صيغه اخرى:
(فند – السلطة القضائية في الدولة الإسلامية جامدة ولم تتطور منذ عهد الرسول ﷺ)

UULA
معلمي الكويت
صفوة
KuwaitTeacher.Com

© جميع الحقوق محفوظة

س فرق بين كل من :

القضاء في العهد الراشدي	القضاء في العهد العباسي
_____	_____
_____	_____
_____	_____

س علل – فسر اهتمام الأمويون بتدوين الأحكام القضائية

_____

اختر الإجابة الصحيحة :

ممكن أن يظهر السؤال في صيغه اخرى: أكمل

س الخليفة الذي قام بفصل سلطة الوالي عن سلطة عن سلطة القاضي :

- ○ أبو بكر الصديق
- ○ عثمان بن عفان
- ○ عمر بن الخطاب
- ○ علي بن أبي طالب

س الدولة التي اهتمت بتدوين الأحكام القضائية :

- ○ الأموية
- ○ الأيوبية
- ○ العباسية
- ○ العثمانية

س ظهرت وظيفة قاضي القضاة في عهد الدولة :

- ○ الأموية
- ○ المماليك
- ○ العباسية
- ○ السلاجقة

س الخليفة الذي قام بفصل سلطة الوالي عن سلطة عن سلطة القاضي :

- ○ علي بن أبي طالب
- ○ عمر بن الخطاب
- ○ عثمان بن عفان
- ○ أبو بكر الصديق

أكمل العبارات التالية :

س وظيفة ذات علاقة بالقضاء في عهد الخليفة عمر بن الخطاب تسمى _____

س عُرف صاحب وظيفة الحسبة باسم _____

_____

_____

UULA
معلم الكويت
KuwaitTeacher.Com

© جميع الحقوق محفوظة

س عرف المحتسب

س عدد – مهام المحتسب

القوة العسكرية :

س دلل – اهتمام الدولة الإسلامية بالقوة العسكرية

س علل - اهتمام الدولة الإسلامية بالقوة العسكرية

س عدد – مكونات الجيش الإسلامي

أكمل العبارات التالية :

س الطريقة التي اعتمد عليها الجيش الإسلامي في القتال هي _____

س عرف الجيش الإسلامي باسم _____

س الخليفة الذي تم في عهده بناء أول اسطول إسلامي يسمى _____

س والي الشام الذي قام ببناء الاسطول في الشام يسمى _____

س والي مصر الذي قام ببناء الاسطول المصري يسمى _____

س بعد بناء الأسطولين الشامي والمصري أصبح للدولة الإسلامية قوة كبيرة في _____

UULA
صفوة معلمي الكويت
KuwaitTeacher.Com

© جميع الحقوق محفوظة

س فسر – اهتم المسلمون بتكليف فرق من الجند للتصدي لكل من يهدد أمن وسلامة المجتمع

.....

س عرف العسس

.....

أكمل العبارات التالية :

س الخليفة الراشد الذي أدخل نظام العسس داخل الدولة الإسلامية يسمى

_ _ _ _ _ _ _ _ _ _ _ _ _ _

س الخليفة الذي استحدث وظيفة صاحب الشرطة يسمى _ _ _ _ _ _ _ _ _ _ _ _ _ _ _

س وظيفة استحدثها الخليفة علي بن أبي طالب رضي الله عنه تسمى

_ _ _ _ _ _ _ _ _ _ _ _ _ _

س عدد – مهام صاحب الشرطة

ممكن أن يظهر السؤال في صيغه اخرى:
(علل – استحداث الخليفة علي بن أبي طالب وظيفة صاحب الشرطة)

.....

.....

س فرق بين كل من :

مهام المحتسب	وظيفة صاحب الشرطة
▪ _ _ _ _ _ _ _ _ _ _ _ _ _ _ _ _ ▪ _ _ _ _ _ _ _ _ _ _ _ _ _ _ _ _ ▪ _ _ _ _ _ _ _ _ _ _ _ _ _ _ _ _ ▪ _ _ _ _ _ _ _ _ _ _ _ _ _ _ _ _	▪ _ _ _ _ _ _ _ _ _ _ _ _ _ _ _ _ ▪ _ _ _ _ _ _ _ _ _ _ _ _ _ _ _ _

تـــدرب و تـفـوق
اختبارات الكترونية
UULA

معلمي الكويت
KuwaitTeacher.Com

س عدد – مظاهر الحياة الاقتصادية في الدولة الإسلامية

س دلل - لقيت الزراعة اهتمام كبير من قبل المسلمين

س علل - اهتمام المسلمين بالزراعة

ممكن أن يظهر السؤال في صيغه اخرى: (عدد – النتائج المترتبة على اهتمام المسلمين بالزراعة)

س علل - ازدهار الصناعة في الدولة الإسلامية

ممكن أن يظهر السؤال في صيغه اخرى: (فند – لم تلقى الصناعة اهتماماً من قبل الدولة الإسلامية)

س دلل – الصناعة الإسلامية لها طابعاً خاصاً

ممكن أن يظهر السؤال في صيغه اخرى: علل

س علل - ازدهار التجارة في الدولة الإسلامية

ممكن أن يظهر السؤال في صيغه اخرى: برهن

UULA
صفوة الكويت
KuwaitTeacher.Com

© جميع الحقوق محفوظة

س عدد – الرحلات التجارية التي اهتم بها المسلمين

س عدد - نتائج ازدهار التجارة في البلاد الإسلامية

س علل - اهتمام المسلمين باستحداث عملة خاصة بهم

ممكن أن يظهر السؤال في صيغه اخرى:
(فسر - ضرب الدنانير الإسلامية فى عهد الخليفة الأموى عبد الملك بن مروان)

أكمل العبارات التالية :

س الخليفة الأموي الذي أمر بضرب الدنانير الإسلامية يسمى _____

س العام الهجري الذي أمر فيه عبد الملك بن مروان بضرب الدنانير الإسلامية _____



س الصورة المقابلة تمثل _____

س عدد – موارد بيت مال المسلمين

ثانيا : الجانب الاقتصادي

س عدد - مميزات الثقافة العربية الإسلامية

UULA
معلمة الكويت
KuwaitTeacher.Com

© جميع الحقوق محفوظة

س دلل – العلم عقيدة وعبادة في الحضارة العربية الإسلامية

س عدد – أنواع العلوم التي اهتم بها المسلمون



س فرق بين كل من :

العلوم النقلية	العلوم العقلية

س عرف حركة النقل والترجمة

س دلل – الخلفاء الأمويين والعباسيين لعبوا دوراً كبيراً في دعم النهضة العلمية

س أكمل : فيلسوف الخلفاء وحكيم بني العباس يسمى _____

UULA
معلمة الكويت
KuwaitTeacher.Com

© جميع الحقوق محفوظة

س أكمل الجدول الناقص :

علماء مسلمون	مؤلفاتهم
الخليل بن أحمد	_____
الجاحظ	_____
الفارابي	_____
ابن سينا	_____
الرازي	_____
البيروني	_____
الحسن بن الهيثم	_____
الخوارزمي	_____
الطبري	_____
بن خلدون	_____
القلقشندي	_____

UULA
معلمي الكويت
صفوة
KuwaitTeacher.Com

© جميع الحقوق محفوظة

س أكتب أسماء العلماء الذين اشتهروا بالألقاب التالية :

اللقب	اسم العالم
فيلسوف العرب	_____
المعلم الثاني	_____
الشارح الكبير	_____
أبو الكيمياء الإسلامية	_____

اختر الإجابة الصحيحة :

س الأديب المسلم الذي ألف كتاب البخلاء اسمه :

○ الجاحظ ○ الطبري
○ ابن سينا ○ الكندي

س العالم المسلم الذي ألف كتاب الحيوان :

○ الطبري ○ القلقشندي
○ الفارابي ○ الجاحظ

س دلل – ساهمت المساجد بدور كبير في الحركة العلمية

س أكمل : مؤسسات تعليمية متخصصة استقلت عن المساجد بعد اتساع الدولة الإسلامية تسمى _____

الفن الإسلامي

س عدد - اسهامات المسلمين في مجال الموسيقى العربية

ممكن أن يظهر السؤال في صيغه أخرى:
(فسر - تميزت الفنون الإسلامية بملامح خاصة ميزتها عن غيرها من الفنون)

UULA
معلمة الكويت
KuwaitTeacher.Com

س دلل – للإسلام أثر عظيم في تغيير ملامح المجتمع العربي

.....

.....

.....

.....

الجانب الاجتماعي

س فرق بين كل من :

العادات التي عارضها الإسلام	العادات التي اقرها الإسلام
----------	----------
----------	----------
----------	----------
----------	----------

س دلل – طبقات المجتمعات العربي اختلفت كثيراً عن صورتها في ظل المجتمع القبلي قبل الإسلام

ممكن أن يظهر السؤال في صيغه اخرى: (فرق بين كل من : (عدد)

طبقات المجتمع قبل الإسلام	طبقات المجتمع في الإسلام
----------	----------
----------	----------

س أكمل العنصر الناقص في الشكل المقابل

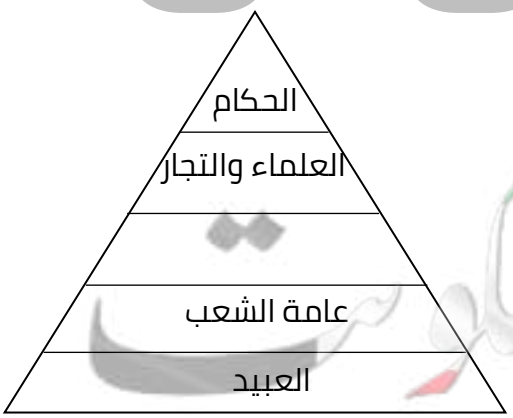

معلمتي الكويتية
صفوة
KuwaitTeacher.Com

س ما هي أوجه التشابه والاختلاف بين طبقات المجتمع العربي قبل وبعد الإسلام

أوجه التشابه :

أوجه الاختلاف :

س فند – تدني مكانة المرأة في الإسلام

ممكن أن يظهر السؤال في صيغه اخرى: (دلل - كرم الإسلام المرأة وحرص على مكانتها الرفيعة السامية)

تـــدرب و تـفـوق
اختبارات الكترونية

معلمي الكويت
صفوة
KuwaitTeacher.Com

© جميع الحقوق محفوظة

أثر الحضارة الإسلامية في قيام النهضة الأوروبية

س نفذ المطلوب منك بين القوسين - انطلقت المؤثرات الحضارية العربية والإسلامية لتغذي جسد أوروبا الضعيف عبر عدة معابر (عددها)

ممكن أن يظهر السؤال في صيغه اخرى: (عدد – معابر انتقال الحضارة الإسلامية إلى أوروبا)

س مراكز انتقال الحضارة الإسلامية إلى أوروبا (مخطط سهمي)

س لاحظ الخريطة التالية ثم نفذ المطلوب منك :

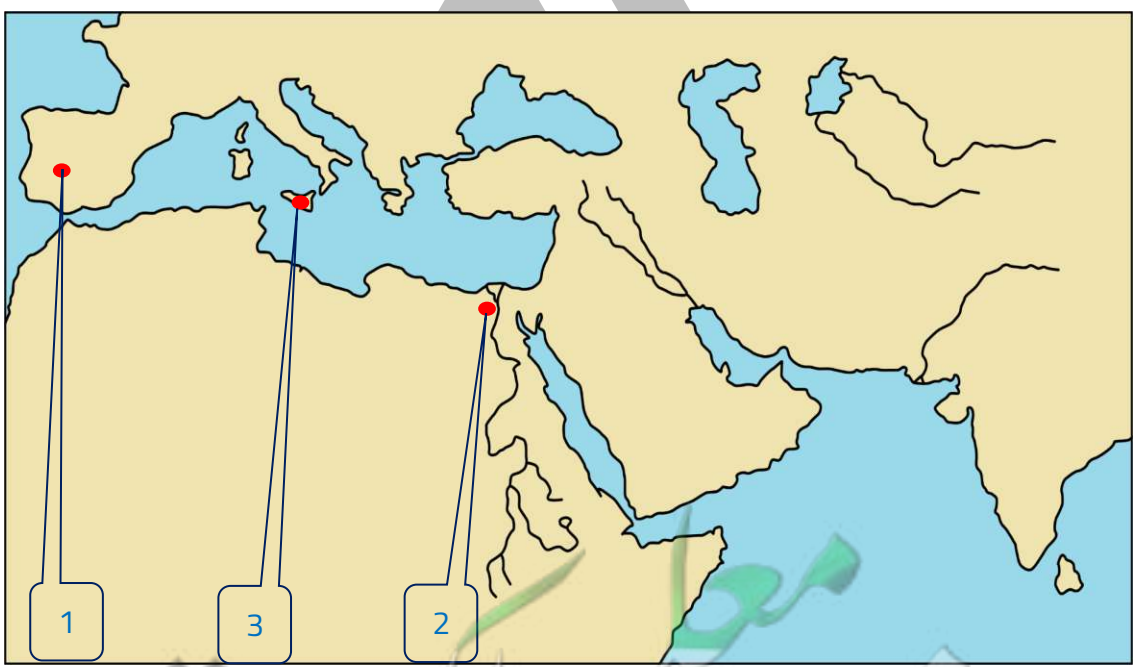

س الرقم (3) على الخريطة يشير إلى مركز من مراكز الحضارة الإسلامية يسمى _____

س الأندلس تحمل على الخريطة الرقم _____

معلمة الكويت
KuwaitTeacher.Com

© جميع الحقوق محفوظة

دلل :

س لعبت الحركة التجارية دوراً كبيراً في نقل الحضارة الإسلامية إلى أوروبا

س لعبت الأندلس دوراً هاماً في قيام الحضارة الأوروبية

س لعبت صقلية دوراً هاماً في قيام الحضارة الأوروبية

ممكن أن يظهر السؤال في صيغه اخرى:
(دلل - لم يكن للفتح الإسلامي لصقلية وجنوب إيطاليا فتحاً عسكرياً فقط) –
(فند – كان الفتح الإسلامي لصقلية وجنوب إيطاليا عسكرياً فقط)

أكمل العبارات التالية :

س الجماعة التي تمكنت استعادة صقلية وجنوب إيطاليا من أيدي المسلمين هم _____

س ظلت صقلية وجنوب إيطاليا تحت سيطرة المسلمين لفترة استمرت _____

UULA
صفوة معلمي الكويت
KuwaitTeacher.Com

© جميع الحقوق محفوظة

س فند - كان انتصار المسلمين في الحروب الصليبية انتصاراً عسكريا فقط

ممكن أن يظهر السؤال في صيغه اخرى:
(دلل – لم يكن انتصار المسلمين في الحروب الصليبية انتصاراً عسكرياً فقط بل كان انتصاراً حضارياً)

س برهن - انتصار المسلمين في الحروب الصليبية حضاريا ً

تـــدرب و تـفـوق
اختبارات الكترونية

UULA

UULA
معلمي الكويت
صفوة
KuwaitTeacher.Com

© جميع الحقوق محفوظة