

الجغرافيا

الكورس الثاني

11

صفوة معلمي الكويت
KuwaitMaster.Com

UULA

الـجـغـرافـيـا

الـكـورس الثاني

١١

معلم الكويت
صفوة
KuwaitTeacher.Com

شلون تتفوق بدراستك

طريقة علا المتكاملة للدراسة تشمل الاستفادة من المذكرة و الفيديوهات و الاختبارات



⚠ علا تخلي المذكرة أقوى

تبي أعلى الدرجات؟ لا تعتمد على المذكرة بروحها – ادرس صح من الفيديوهات و الاختبارات

فيديوهات تشرح لك

تابع الفيديوهات و انت تدرس المذكرة عشان تضبط الدرس



اختبارات ذكية تدربك

حل الاختبارات الالكترونية أول بأول عشان ترفع مستواك



اشترك بالمادة

احرص على تفعيل اشتراكك عشان تستفيد كثر ما تقدر

اكتشف عالم التفوق مع باقات علا

ادرس جميع مواد مرحلتك باشتراك واحد بسعر خيالي

KuwaitTeacher.Com

المـــــنـــــقـــــذ

أقوى مذكرة صارت الحين أقوى و أقوى مع خاصية **المنقذ** للمساعدة الفورية

شنو المنقذ ؟
امسح الباركود بكاميرا تلفونك
وتعرف على طريقة استخدام المنقذ





شنو فايدة هالخاصية ؟
أول ما تحتاج مساعدة بالمادة , المنقذ بينقذك .

امسح الباركود بكاميرا التلفون أو اضغط عليه إذا كنت فاتح المذكرة من جهازك و يطلع لك فيديو الشرح.

KuwaitTeacher.Com

قائمة المحتوى

01 الغلاف المائي

6 أهمية الغلاف المائي في حياتنا

9 حركة مياه البحار والمحيطات (التيارات البحرية)

02 الغلاف الجوي وعناصر المُناخ

14 الغلاف الجوي

16 الغلاف الجوي (الطبقات الرأسية للغلاف الجوي)

19 عناصر الطقس والمناخ

20 عناصر الطقس والمناخ (الإشعاع الشمسي)

24 عناصر الطقس والمناخ (حرارة الهواء)

28 عناصر الطقس والمناخ (الضغط الجوي)

31 عناصر الطقس والمناخ (الرياح)

45 عناصر الطقس والمناخ (الرطوبة و التكاثف و التساقط)

03 الغلاف الحيوي

54 تعريف الغلاف الحيوي

56 الغابات الحارة الاستوائية

61 الغابات الحارة الموسمية

65 الغابات المعتدلة الدفيئة

70 الغابات المعتدلة الباردة

75 الحشائش الحارة الطويلة " السافانا "

80 الحشائش المعتدلة القصيرة " الإستبس "

86 الصحاري الجافة " الحارة – المعتدلة "

91 إقليم الصحاري الباردة القطبية (الصحاري البيضاء) التندرا

KuwaitTeacher.Com

© جميع الحقوق محفوظة

97 مظاهر تدمير الغلاف الحيوي في العالم
112 وسائل حماية وصيانة المحيط الحيوي في العالم
114 المحميات الطبيعية

معلمي الكويت
صفوة
KuwaitTeacher.Com

© جميع الحقوق محفوظة

أهمية الغلاف المائي في حياتنا

عرف

الغلاف المائي

عبارة عن المياه التي توجد في المسطحات المائية الكبرى كالمحيطات والبحار والأنهار والجليد على سطح الأرض

أكمل العبارات التالية:

ممكن أن يظهر السؤال في صيغة اخرى: اختياري

س نسبة البحار والمحيطات من المساحة الكلية لسطح الكرة الأرضية _ 71% _

س نسبة اليابس من المساحة الكلية لسطح الكرة الأرضية _ 29% _

س نسبة المياه في البحار والمحيطات من جملة المياه على سطح الأرض _ 97% _

س نسبة المياه في الغطاءات الجليدية والأنهار الجليدية والبحيرات والأنهار من جملة المياه على سطح الأرض _ 3 % _

اختر الإجابة الصحيحة:

س نسبة البحار والمحيطات من المساحة الكلية لسطح الكرة الأرضية يمثلها الجزء المظلل في الدائرة البيانية التي تحمل الحرف:

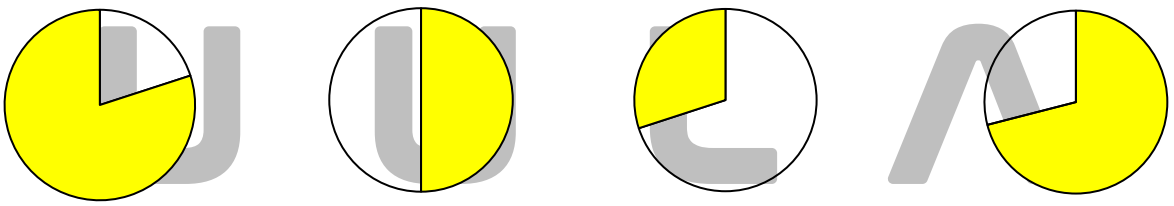

○ أ ○ ب ○ ج ○ د

س نسبة المياه المالحة من جملة المياه على سطح الأرض يمثلها الجزء المظلل في الدائرة البيانية التي تحمل الحرف :



○ أ ○ ب ○ ج ○ د

KuwaitTeacher.Com

© جميع الحقوق محفوظة

س علل / يعرف كوكب الأرض بالكوكب المائي (الأزرق)

لأن المسطحات المائية تشغل 71% من مساحة كوكب الأرض

س عدد أهمية البحار والمحيطات لكوكب الأرض

ممكن أن يظهر السؤال في صيغة اخرى: (علل - أهمية الغلاف المائي في حياتنا)

- طرق يستخدمها الإنسان للنقل والتجارة بين القارات
- الكائنات الحية كالأسماك مصدر للغذاء
- أملاحه ومعادنه تقوم عليها الصناعات
- مصدر للأمطار وتلطيف درجة الحرارة
- تحليتها لسد العجز في المياه العذبة
- تستخدم في المصانع للتبريد (الحديد والصلب - مولدات الطاقة النووية)
- تستخدم في الأغراض الزراعية
- استزراع المحيط باللؤلؤ

علل

س أهمية المسطحات المائية للمناخ على سطح الأرض

- مصدر للأمطار
- تلطيف درجات الحرارة

س أهمية المحيط في المراحل المبكرة من تاريخ كوكبنا

- المهد الذي نشأت به كافة صور الحياة
- انتقلت صور الحياة منه إلى اليابسة

س المياه المالحة لها أهمية كبيرة في وقتنا الحاضر - دلل على صحة العبارة

ممكن أن يظهر السؤال في صيغة اخرى: (عدد استخدامات المياه المالحة في الوقت الحاضر)

- تحليتها لسد العجز في المياه العذبة
- تستخدم في المصانع للتبريد (الحديد والصلب - مولدات الطاقة النووية)
- تستخدم في الأغراض الزراعية

س أهمية المياه المالحة بالنسبة دول الخليج العربية

يتم تحليتها لسد العجز في المياه العذبة

س عدد الشروط التي يجب توافرها لاستخدام المياه المالحة في الأغراض الزراعية

- نوع خاص من التربات
- أنواع معينة من النباتات المحبة للملوحة

KuwaitTeacher.Com

© جميع الحقوق محفوظة

س علل - يعتبر البحر مورداً لا ينضب

- استخراج العناصر المعدنية
- استخدام الطاقة الناتجة من حركة المياه (الأمواج - المد والجزر)
- مستودع هائل للغذاء

س عدد الدول التي استخدمت الطاقة الناتجة من حركة المياه

ممكن أن يظهر السؤال في صيغ أخرى: اختياري | حدد على الخريطة

- فرنسا
- إنجلترا
- أمريكا



س دلل - البحر مصدر سخي للغذاء لم يستغل كما ينبغي ولكن بعد التجارب بشرت بالخير

- نجاح تجارب استزراع المحيط باللؤلؤ
- نجاح استزراع المحيط بنباتات بحرية أخرى

س علل - أهمية استزراع المحيط بالنباتات البحرية

لأنها ذات قيمة غذائية عالية لما تحويه من بروتين

س دلل - اليابان دولة رائدة في استغلال مياه المحيط

استزراع المحيط باللؤلؤ والنباتات البحرية

اختياري

س الجزء المظلل في الخريطة المقابلة يشير لدولة نجحت في استزراع اللؤلؤ والنباتات البحرية في مياه المحيط

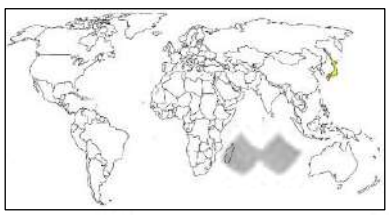

○ **اليابان** ○ إنجلترا
○ فرنسا ○ أمريكا

تـــدرب و تـفـوق
اختبارات الكترونية

UULA
KuwaitTeacher.Com

© جميع الحقوق محفوظة

حركة مياه البحار والمحيطات (التيارات البحرية)

عرف

التيارات البحرية

تحرك الكتلة السطحية من مياه المسطح المائي من مكان لآخر

س عدد مميزات التيارات البحرية

ممكن أن يظهر السؤال في صيغة اخرى:
(" التيارات البحرية لها خصائص تميزها عن بقية المسطح المائي الذي تتحرك فيه " دلل)

- تيارات باردة وأخرى دفيئة
- لها مسارات محدده تمتد بمحاذاة خط الساحل

س أكمل: أحد أشكال حركة مياه البحر تختلف في مظهرها وكيفية حدوثها وتحركها عن المد والجزر والأمواج تسمى **التيارات البحرية**

س عدد أسباب نشأة التيارات البحرية

ممكن أن يظهر السؤال في صيغة اخرى: علل

- ارتفاع كثافة مياه البحر
- قانون فريل
- الرياح الدائمة
- السواحل

س علل - ارتفاع كثافة مياه البحر

- ارتفاع كثافة مياه البحر
- ارتفاع نسبة الملوحة

س ارتفاع كثافة مياه البحر سبب في نشأة التيارات البحرية

لأنها تؤدي إلى انتقال مياه البحر من المسطحات المائية الأعلى كثافة إلى المسطحات الأقل منها كثافة

س ارتفاع كثافة مياه البحر سبب في نشأة التيارات البحرية

- حرارتها العالية
- ملوحتها المرتفعة

KuwaitTeacher.Com

© جميع الحقوق محفوظة

علل

س انتقال التيارات البحرية الاستوائية للعروض المعتدلة

لأنها تيارات بحرية عالية الكثافة وتنتقل للعروض المعتدلة الأقل كثافة

س الرياح الدائمة أحد أسباب نشأة التيارات البحرية

لأن هبوبها المنتظم يسبب تحرك مياه المحيط في اتجاه هبوب هذه الرياح

س وصول المياه الاستوائية نحو أمريكا الوسطى

بسبب هبوب الرياح التجارية الشمالية الشرقية والجنوبية الشرقية

س خروج تيار الخليج الدافئ نحو شمال غرب أوروبا

بسبب هبوب الرياح التجارية الشمالية الشرقية والجنوبية الشرقية

أكمل

س المحيط الذي يعبره تيار الخليج الدافئ للوصول لشمال غرب أوروبا يسمى **الأطلسي**

س أوجد العلاقة بين القوة الناتجة عن دوران الأرض حول محورها (قانون فريل) ونشأة التيارات البحرية

دوران الأرض يؤدي لانحراف الأجسام الطبيعية مثل التيارات البحرية يمين اتجاهها في النصف الشمالي ويسار اتجاهها في النصف الجنوبي

س علل - انحراف الأجسام الطبيعية الحرة إلى يمين اتجاهها في نصف الكرة الشمالي

بسبب القوة الناتجة من دوران الأرض حول محورها من الغرب إلى الشرق (قانون فريل)

س أوجد العلاقة بين السواحل ونشأة التيارات البحرية

شكل واتجاه السواحل التي تعترض اتجاه التيارات البحرية تجعلها تأخذ اتجاهات معينة

س علل / التيارات البحرية تؤثر في مناخ السواحل التي تمر بها

- التيارات الدفيئة تعمل على رفع حرارة السواحل التي تمر بها
- التيارات الباردة تعمل على خفض حرارة السواحل التي تمر بها

UULA
معلم الكويت
KuwaitTeacher.Com

©جميع الحقوق محفوظة

س قارن بين كل من :

المقارنة	التيارات الدفيئة	التيارات الباردة
المفهوم	تتجه من العروض الدنيا الدفيئة نحو العروض العليا الباردة	تتجه من العروض العليا الباردة نحو خط الاستواء
أمثلة	الخليج الدافئ - شرق البرازيل شرق أستراليا - موزنبيق اليابان - التيارات الاستوائية	لبرادور - كاليفورنيا - همبولت (بيرو) بنجويلا – كناري – كمتشتكا –غرب استراليا - جرينلاند – فوكلاند

خريطة التيارات البحرية :

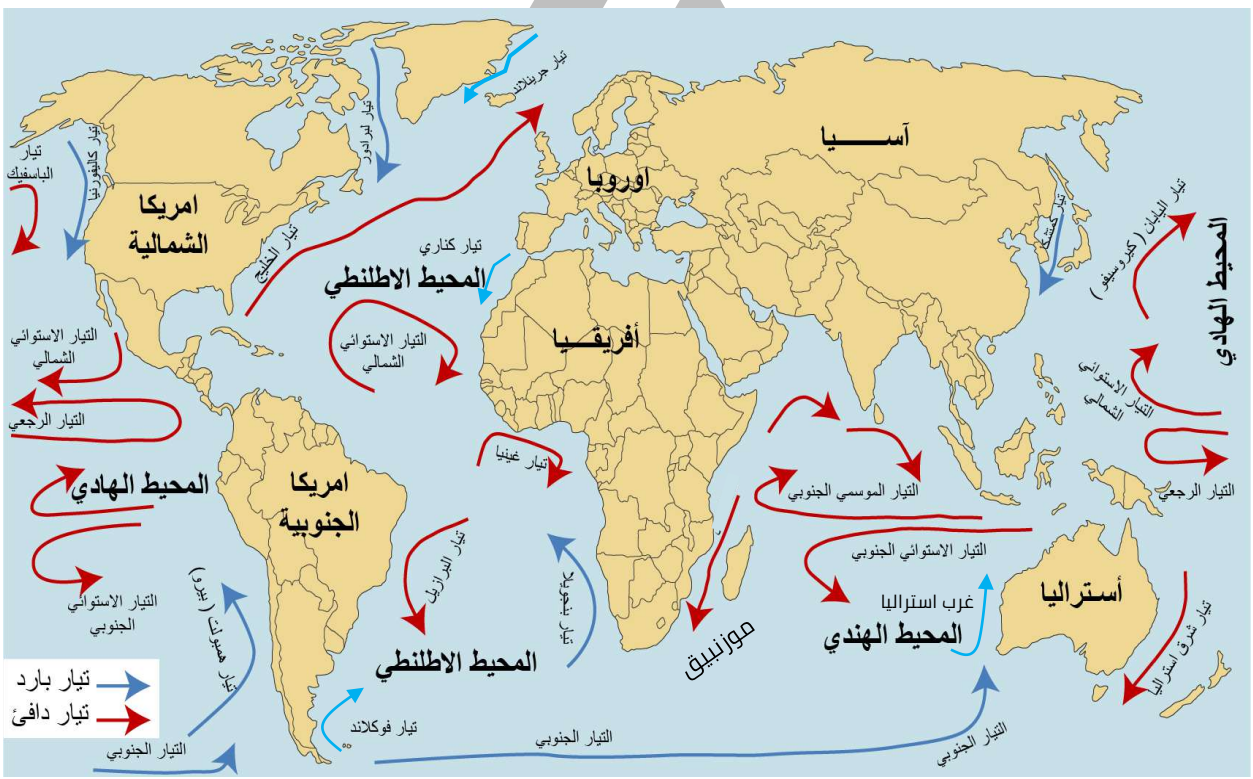

معلمي الكويت
صفوة
KuwaitTeacher.Com

لاحظ الخريطة التي أمامك ثم أجب عما يليها من أسئلة:

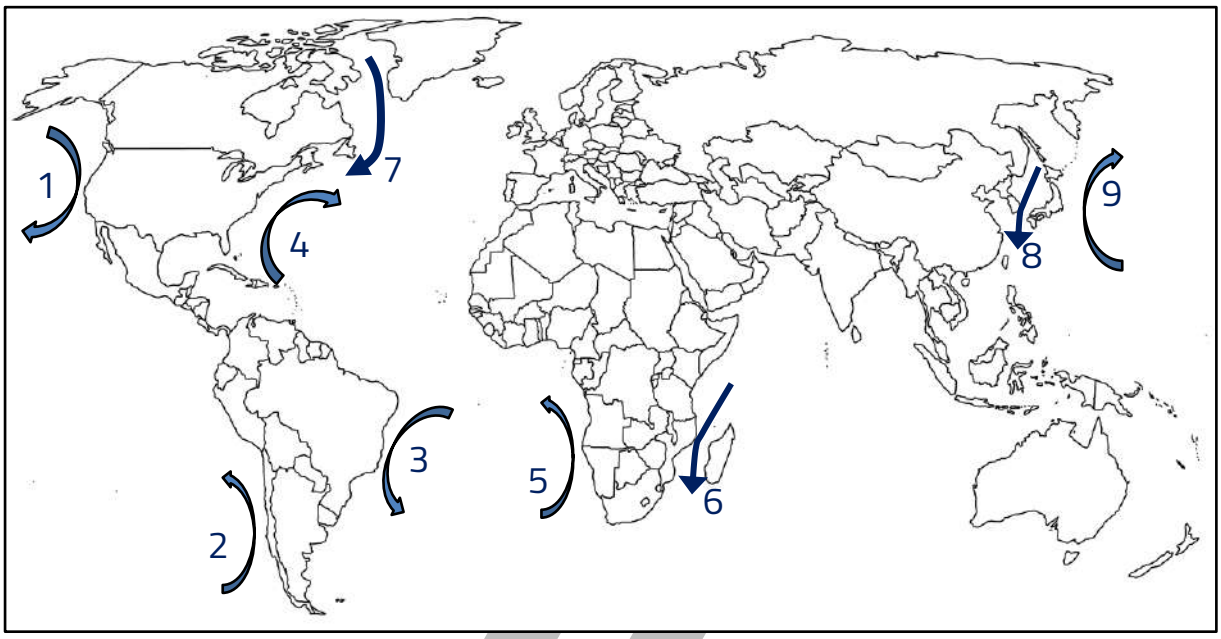

س تيار كاليفورنيا يمثله على الخريطة الرقم **1**

س تيار (همبولت) بيرو يمثله على الخريطة الرقم **2**

س تيار بنجويلا يمثله على الخريطة الرقم **5**

س تيار البرازيل يمثله على الخريطة الرقم **3**

س تيار الخليج يمثله على الخريطة الرقم **4**

س تيار لبرادور يمثله على الخريطة الرقم **7**

س تيار كمتشكا يمثله على الخريطة الرقم **8**

س تيار اليابان يمثله على الخريطة الرقم **9**

س تيار موزمبيق يمثله على الخريطة الرقم **6**

UULA
معلمي الكويت
صفوة
KuwaitTeacher.Com

اختر الإجابة الصحيحة :

س تيار بيرو (همبولت) البارد يسير بمحاذاة قارة أسمها :

- ○ **أمريكا الجنوبية**
- ○ آسيا
- ○ أفريقيا
- ○ أستراليا

س التيار البحري الدافئ الذي يرمز له بالسهم في الخريطة المقابلة يسمى

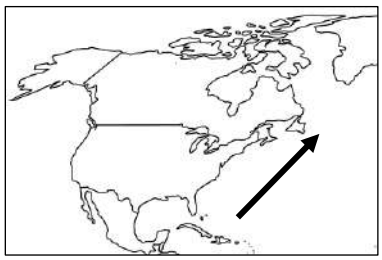

- ○ كاليفورنيا
- ○ **الخليج**
- ○ بنجويلا أستراليا
- ○ ليبرادور

تـــدرب و تـفـوق
اختبارات الكترونية

معلمي الكويت
صفوة
KuwaitTeacher.Com

الغلاف الجوي

عرف

الغلاف الجوي

عبارة عن غطاء سميك من الغازات يحيط بالكرة الأرضية من جميع الجهات

أكمل العبارات التالية :

س يتراوح سمك الغلاف الجوي من **100 إلى 200 ميل تقريباً**

س الهواء لا يشعر به الإنسان إلا عند تحركه وهنا يعرف **الرياح**

س عدد خصائص (مميزات) الهواء

- لا لون له
- لا رائحة ولا طعم
- لا يشعر به الإنسان إلا عند تحركه

علل

س أهمية الغلاف الجوي

ممكن أن يظهر السؤال في صيغ اخرى: (عدد فوائد الغلاف الجوي)
(دلل على بطلان العبارة " تستمر الحياه على سطح الأرض حتى وإن لم يكن هناك غلاف جوي ")

- يحمي سطح الأرض من تساقط بقايا الشهب والنيازك
- سبب الحياة على سطح الأرض

س الغلاف الجوي يحمي الأرض من تساقط بقايا الأجسام الكونية من الفضاء الخارجي

لأنه ينتج عن احتكاك هذه البقايا من الأجسام الكونية الساقطة بالغلاف الجوي واحتراقها قبل وصولها إلى سطح الأرض

س - الغلاف الجوي سبب الحياة على سطح الأرض

ممكن أن يظهر السؤال في صيغة أخرى:
(عدد – فوائد الغلاف الجوي على سطح الأرض وعلى الكائن الحي)

- الهواء ومكوناته مصدر لتكوين السحب والغيوم وهبوب الرياح
- مكونات الهواء مصدر لسقوط الأمطار وتكوين الموارد المائية على سطح الأرض
- وجود غاز الأكسجين المهم لعملية تنفس الكائنات الحية

KuwaitTeacher.Com

© جميع الحقوق محفوظة

س علل - أهمية وجود غاز الأكسجين في الغلاف الجوي

تعتمد عليه كل الكائنات الحية في عملية التنفس

س ماذا يحدث لو : لم يكن للأرض غلاف جوي

تساقط الشهب والنيازك على سطح الأرض
عدم تكوين السحب والأمطار
لا توجد حياة على سطح الأرض

س عدد الغازات التي يتألف منها الغلاف الجوي

- النتروجين
- الأكسجين
- الأرجون
- ثاني أكسيد الكربون

أكمل العبارات التالية :

س نسبة النتروجين والأكسجين والأرجون وثاني أكسيد الكربون من حجم الهواء **%99**

س نسبة بخار الماء والأتربة الدقيقة والدخان والغبار البركاني من حجم الهواء **1 %**

تـــدرب و تـفـوق
اختبارات الكترونية
UULA

معلمي الكويت
صفوة
KuwaitTeacher.Com

الغلاف الجوي

الطبقات الرأسية للغلاف الجوي

س عدد أسس تقسيم الغلاف الجوي لطبقات رأسية

- الغازات الثقيلة والخفيفة
- التباين الرأسي لدرجة الحرارة من أسفل إلى أعلى

س عدد الطبقات الرأسية للغلاف الجوي

- التروبوسفير
- الميزوسفير
- الأستراتوسفير
- الثيرموسفير

س أعد ترتيب الأسماء التي أمامك مستعيناً بالشكال المقابل:
الطبقات الرأسية للغلاف الجوي (من الأسفل الأعلى)

الأستراتوسفير -الميزوسفير – التروبوسفير

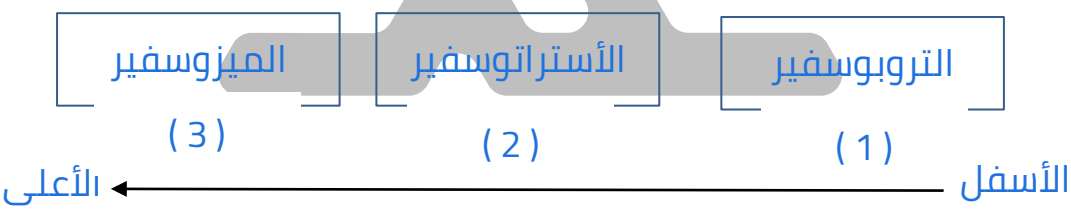

س علل - أهمية طبقة الغلاف الجوي التروبوسفير

ممكن أن يظهر السؤال في صيغة اخرى: (عدد – الخصائص العامة لطبقة التروبوسفير)

- ينشأ فيها السحب والعواصف
- ينشأ فيها التيارات الصاعدة والهابطة
- ينشأ فيها التساقط بأنواعه

س اختياري: طبقة الغلاف الجوي التي تنشأ فيها السحب والعواصف والأمطار

- ○ الأستراتوسفير
- ○ الميزوسفير
- ○ **التروبوسفير**
- ○ الثيرموسفير

UULA
معلمي الكويت
KuwaitTeacher.Com

© جميع الحقوق محفوظة

س عدد – الخصائص العامة لطبقة الأستراتوسفير

ممكن أن يظهر السؤال في صيغ اخرى: أكمل اختياري

- تتضمن الجزء الأكبر من طبقة الأوزون
- تندر بها الغازات
- غياب شبه كلي لبخار الماء

أكمل العبارات التالية :

ممكن أن يظهر السؤال في صيغة اخرى: اختياري

س الطبقة التي تفصل بين طبقة التروبوسفير وطبقة الأستراتوسفير تسمى **التروبوبوز**

س طبقة الغلاف الجوي التي تتضمن الجزء الأكبر من طبقة الأوزون تسمى **الأستراتوسفير**

س عدد – الخصائص العامة لطبقة الميزوسفير

ممكن أن يظهر السؤال في صيغ اخرى: (أكمل – اختياري)
(ما النتائج المترتبة على اختراق الشهب والنيازك لطبقة الميزوسفير)

- ارتفاع درجة حرارة الهواء في القسم الأسفل منها
- تنخفض الحرارة بالارتفاع تدريجياً إلى نهاية أعالي الطبقة

س علل - ارتفاع درجة حرارة الجزء الأسفل من طبقة الميزوسفير

لأن الشهب والنيازك تخترقها

س اختياري: الطبقة التي تتميز بارتفاع درجة حرارة الهواء في القسم الأسفل منها

○ التربوسفير ○ الأستراتوسفير
○ **الميزوسفير** ○ الثيرموسفير

س عدد – الخصائص العامة لطبقة الثيرموسفير

ممكن أن يظهر السؤال في صيغ اخرى: أكمل اختياري

- خفة وزنها
- غازاتها الطيارة الخفيفة جداً

أكمل العبارات التالية :

س الطبقة التي تقع أسفل طبقة الثيرموسفير تسمى **الأينوسفير (الأثير)**

س الطبقة التي تتركز بها الجزئيات الأيونية تسمى **الأينوسفير (الأثير)**

UULA
KuwaitTeacher.Com

© جميع الحقوق محفوظة

س علل أهمية طبقة الثيرموسفير

ممكن أن يظهر السؤال في صيغة اخرى:
(ما النتائج المترتبة على تركز الجزئيات الأيونية في طبقة الأينوسفير (الأثير))

- انعكاس الموجات اللاسلكية
- انعكاس الموجات الكهرومغناطيسية

س اختياري : طبقة أسفل طبقة الثيرموسفير وتتركز بها الجزئيات الأيونية ولها أثر انعكاسي على الموجات اللاسلكية والكهرومغناطيسية :

○ التروبوسفير ○ التروبوبوز
○ الميزوسفير ○ **الأينوسفير**

س فرق بين كل من :

طبقة التروبوسفير	طبقة الميزوسفير
▪ ينشأ فيها السحب والعواصف ▪ ينشأ فيها التيارات الصاعدة والهابطة	▪ ارتفاع درجة حرارة الهواء في القسم الأسفل منها ▪ تنخفض الحرارة بالارتفاع تدريجياً إلى نهاية أعالي الطبقة

اختر الإجابة الصحيحة:

س طبقة من الغلاف الجوي تنشأ فيها السحب والعواصف والتيارات الصاعدة والهابطة والأمطار

○ الأسترا توسفير ○ الأينوسفير
○ **التروبوسفير** ○ الميزوسفير

س الطبقة التي تتميز بارتفاع درجة حرارة الهواء في الجزء الأسفل منها لاختراق الشهب

○ التروبوسفير ○ الأستراتوسفير
○ **الميزوسفير** ○ الثيرموسفير

تـــدرب و تـفـوق
اختبارات الكترونية

UULA
معلمي الكويت
KuwaitTeacher.Com

© جميع الحقوق محفوظة

عناصر الطقس والمناخ

س أكمل: من مظاهر الطبيعة المرئية والمحسوسة الطقس و _ المناخ _

س " الطقس والمناخ يتكونان من تفاعل عناصر جوية عديدة " (أذكرها)

ممكن أن يظهر السؤال في صيغة اخرى:
(عدد العناصر التي تعمل مجتمعة لتشكل حالة الطقس والمناخ السائد)

- الإشعاع الشمسي
- الضغط الجوي
- الرطوبة والتكاثف والتساقط
- حرارة الهواء
- الرياح

س عدد عناصر (مكونات) الطقس والمناخ

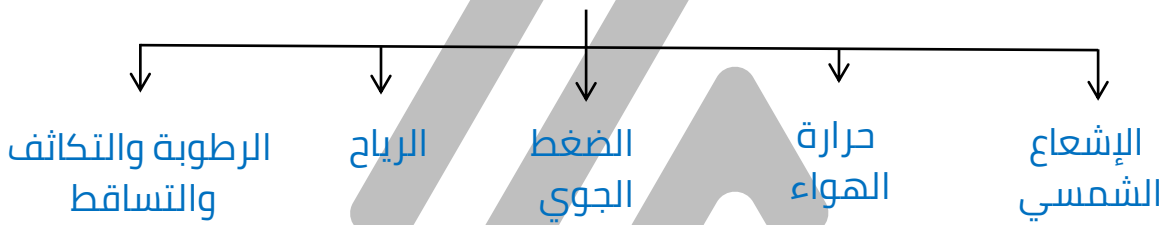

س "الظروف المناخية لها أثرها على سطح الأرض "دلل على صحة العبارة

- تؤثر على الحياة النباتية الطبيعية
- تؤثر على الإنسان وتوزيعه الجغرافي وأنشطته المختلفة

س فرق بين كل من :

ممكن أن يظهر السؤال في صيغ اخرى: أكمل اختياري

المُناخ	الطقس
متوسط التتابع المنتظم لأحوال الطقس اليومي المعتادة فوق مكان معين لفترة تصل إلى 35سنة	الحالة الجوية اليومية السائدة فوق مكان لفترة زمنية قصيرة

تـــدرب و تـفـوق
اختبارات الكترونية

KuwaitTeacher.Com

عناصر الطقس والمناخ

الإشعاع الشمسي

عرف المفاهيم التالية :

ممكن أن يظهر السؤال في صيغ اخرى: فرق | أكمل | اختياري

الإشعاع الشمسي

الأشعة الساقطة من الشمس للأرض

الإشعاع الأرضي

انعكاس الأشعة الشمسية من سطح الأرض إلى أعلى

س علل - تسخين الغلاف الجوي من الأسفل إلى الأعلى

- الإشعاع الأرضي
- وجود الغازات الثقيلة وبخار الماء والأتربة

س انخفاض درجة حرارة الهواء في طبقة التروبوسفير من أسفل إلى أعلى

لأن الإشعاع الأرضي هو سبب تسخين الهواء الملامس لسطح الأرض وتنخفض درجة الحرارة من أسفل إلى أعلى

أكمل العبارات التالية :

س الأشعة التي تؤدي لتسخين الغلاف الجوي تسمى **الإشعاع الأرضي**

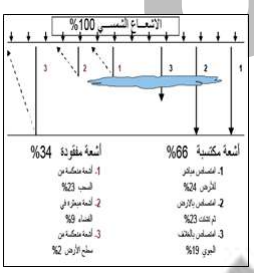

س نسبة الأشعة المكتسبة من جملة الإشعاع الشمسي **66%**

س نسبة الأشعة المفقودة من جملة الإشعاع الشمسي **34%**

س الشكل المقابل يمثل **الإشعاع الشمسي والإشعاع الأرضي**

UULA
صفوة معلمي الكويت
KuwaitTeacher.Com

© جميع الحقوق محفوظة

س عدد أنواع الأشعة الشمسية حسب طول موجاتها ؟

- الأشعة الحرارية (تحت الحمراء)
- الأشعة الضوئية
- الأشعة البنفسجية وفوق البنفسجية (الحيوية)

س فرق بين كل من :

ممكن أن يظهر السؤال في صيغ اخرى: عرف | أكمل | اختياري | ارسم دائرة بيانية

الأشعة تحت الحمراء	الأشعة الضوئية	الأشعة الحيوية
أشعة غير مرئية موجاتها طويلة نسبتها 46% من جملة الإشعاع الشمسي	أشعة مرئية نسبتها 45%	لا تزيد نسبتها عن 9% من جملة الإشعاع الشمسي

اختر الإجابة الصحيحة:

س نسبة الأشعة الضوئية من جملة الإشعاع الشمسي يمثلها الدائرة البيانية التي تحمل الحرف :

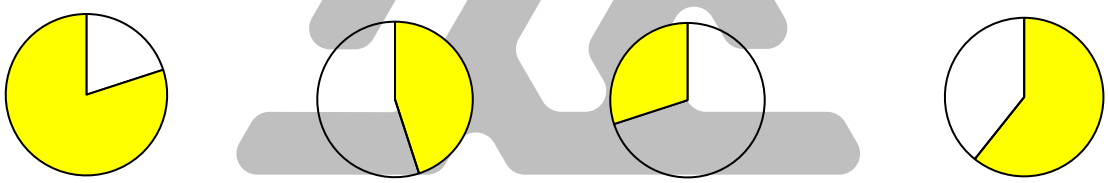

○ أ ○ ب ○ **ج** ○ د

س الأشعة التي لا تزيد نسبتها عن 9% من جملة الإشعاع الشمسي:

○ تحت الحمراء ○ الحرارية
○ **الحيوية** ○ الضوئية

س أعد ترتيب الأسماء التي أمامك مستعيناً بالشكال المقابل:
النسبة من الإشعاع الشمسي (من الأكثر إلى الأقل)

الضوئية – الحيوية - الحرارية

الحرارية	الضوئية	الحيوية
(1)	(2)	(3)

الأكثر ← الأقل

UULA
معلم الكويت
KuwaitTeacher.Com

س عدد - العوامل التي تؤثر في الإشعاع الشمسي

- قوة النشاط الإشعاعي للشمس
- مدي شفافية طبقات الغلاف الجوي
- اختلاف طول المسافة بين الشمس وسطح الأرض
- مقدار زاوية ميل الأشعة الشمسية على سطح الأرض
- اختلاف عدد ساعات سقوط أشعة الشمس على سطح الأرض

س علل - اختلاف درجة حرارة الهواء من مكان لأخر

ممكن أن يظهر السؤال في صيغ اخرى: (علل - تختلف درجات الحرارة في مختلف مناطق سطح الأرض) - (دلل على بطلان العبارة " تتشابه درجات الحرارة في مختلف المناطق على سطح الأرض")

- تنخفض درجة الحرارة كلما بعدنا عن الدائرة الاستوائية
- التوزيع الجغرافي غير المنتظم للمسطحات المائية واليابس على سطح الأرض
- الغطاءات النباتية
- التيارات البحرية الباردة والدافئة
- مدى الارتفاع عن سطح الأرض
- الكتل الهوائية الباردة والدفيئة

س علل - المدى الحراري أكبر فوق الهواء الملامس لليابس عنه فوق الهواء الملامس للمياه عند نفس دوائر العرض

ممكن أن يظهر السؤال في صيغة اخرى:
(أوجد العلاقة بين - اختلاف حرارة الهواء والتوزيع الغير منتظم لليابس والماء)

لأن اليابس يكتسب الحرارة بسرعة ويفقدها بسرعة أما المياه تكتسب الحرارة ببطء وتفقدها ببطء ويحدث اختلافات في المدى الحراري اليومي والفصلي

س الغطاءات النباتية تقلل من المدي الحراري اليومي

- تساعد على تنظيم الإشعاع الشمسي على سطح الأرض
- تعدل من درجات الحرارة

س دلل بمثال على صحة العبارة التالية:
" للتيارات البحرية تأثير كبير على درجة حرارة هواء السواحل التي تمر عليها "

- ترتفع درجة حرارة هواء السواحل الجنوبية الشرقية للولايات المتحدة عن السواحل الغربية بنحو 10 ْم
- تأثر السواحل الجنوبية الشرقية بتيار الخليج الدافئ والهواء الدافئ المصاحب له
- تأثر السواحل الغربية بتيار كاليفورنيا البارد والهواء البارد المصاحب له

UULA
KuwaitTeacher.Com

© جميع الحقوق محفوظة

س علل - ارتفاع درجة حرارة السواحل الجنوبية الشرقية للولايات المتحدة عن السواحل الغربية الواقعة معها على نفس العروض

- تأثر السواحل الجنوبية الشرقية بتيار الخليج الدافئ والهواء الدافئ المصاحب له
- تأثر السواحل الغربية بتيار كاليفورنيا البارد والهواء البارد المصاحب له

س تجمع الثلوج فوق القمم الجبلية

ممكن أن يظهر السؤال في صيغ اخرى: (علل - هواء القمم الجبلية العالية منخفض الحرارة)
(علل - انخفاض درجة الحرارة مع الارتفاع عن سطح الأرض)

بسبب تركز الغازات الثقيلة وبخار الماء والأتربة في القسم السفلي من هواء التروبوسفير

س الكتل الهوائية الباردة والدفيئة لها تأثير في اختلاف حرارة الهواء

لأن الكتل الهوائية تعمل على برودة الهواء أو على ارتفاع الحرارة فيه عند تحركها

تـــدرب و تـفـوق
اختبارات الكترونية
UULA

معلمي الكويت
صفوة
KuwaitTeacher.Com

© جميع الحقوق محفوظة

عناصر الطقس والمناخ

حرارة الهواء

أكمل العبارات التالية :

س الجهة التي تقوم برصد حرارة الهواء تسمى **المراصد الجوية**

س المراصد الجوية تقوم برصد حرارة الهواء في الظل وعلى علو **مترين من سطح الأرض**

س عدد أجهزة قياس درجة الحرارة

ممكن أن يظهر السؤال في صيغ اخرى: (أكتب مدلول الأشكال التالية) - (أكتب عناصر الطقس والمناخ التي تقيسها الأجهزة التالية)



الترمومتر المزدوج



الترموجراف



الهواتف الذكية



الترمومتر الجاف البسيط "

س أكمل : الأجهزة التي يمكن أن تقيس غالبية عناصر الطقس والمناخ تسمى **الهواتف الذكية**

س عدد أنظمة تسجيل القراءات الحرارية

- لالنظام المئوي (سيليوس)
- النظام الفهرنهيتي

أكمل العبارات التالية :

س النظام المئوي (سيليوس) يقيس درجة الحرارة من صفر م إلى **100°م**

س النظام الفهرنهيتي يقيس درجة الحرارة من 32°ف إلى **212°ف**

س تبلغ درجة التجمد المئوية نحو صفر ويعادلها بالنظام الفهرنهيتي **32 °ف**

س درجة الحرارة الفهرنهيتية تساوي بالنظام المئوي **1.8 °م**

KuwaitTeacher.Com

© جميع الحقوق محفوظة

س تسجل درجة الحرارة خلال اليوم كل ساعة أو كل _ **4 ساعات** _

س حول درجة الحرارة المئوية إلى فهرنهايتية والعكس

- 55 ° فهرنهايتي
- 13 ° مئوية
- 89 ° فهرنهايتي
- 45 ° مئوية

القانون لتحويل الدرجة الفهرنهيتي إلي مئوية =
الدرجة - 32 = الناتج ÷ 1.8

- 55 ° فهرنهايتي

55 -32 = 23 — 23 ÷ 1.8 = 13م

- 89 ° فهرنهايتي

89 – 32 = 57 — 57 ÷ 1.8 = 32 م

القانون لتحويل الدرجة المئوية إلي فهرنهيتي =
الدرجة = 1.8 xالناتج +32

- 13 ° مئوية

13 × 1.8 = 23 — 23 + 32 = 55 ° ف

- 45 ° مئوية

45 × 1.8 = 81 — 81 + 32 = 113 ف

س عدد - اهتمامات الدراسات المناخية

- حساب المتوسطات والمعدلات الحرارية
- حساب كافة عناصر المُناخ

س عدد القياسات المتعلقة بدرجة حرارة الهواء الملامس لسطح الأرض

- المتوسط اليومي لدرجة الحرارة
- المدى الحراري اليومي
- المتوسط الشهري لدرجة الحرارة

UULA
صفوة الكويت
KuwaitTeacher.Com

عرف المفاهيم التالية :

ممكن أن يظهر السؤال في صيغ اخرى: فرق أكمل اختياري

المتوسط اليومي لدرجة الحرارة

الناتج من جمع إجمالي القراءات وقسمتها على عدد القراءات لدرجة الحرارة في منطقة ما

المدى الحراري اليومي

هو الفرق بين درجة الحرارة اليومية القصوى ودرجة الحرارة اليومية الدنيا

س الجدول التالي يبين درجات الحرارة المسجلة خلال اليوم في مدينة الكويت :

القراءة	السادسة صباحاً	الثانية عشر ظهراً	الثالثة بعد الظهر	السادسة مساءاً
درجة الحرارة	5°م	15°م	25°م	15°م

- احسب المتوسط اليومي لدرجة الحرارة مع كتابة القانون :

القانون: الحرارة اليومية الدنيا + الحرارة اليومية القصوى ÷ 2 =
المتوسط اليومي لدرجة الحرارة : 5°م + 25° ÷ 2 = 15° م

- احسب المدى الحراري اليومي :

25° - 5° = 20° مئوية

اختر الإجابة الصحيحة :

س إذا كانت درجة الحرارة العليا لمنطقة ما (26°) والحرارة الدنيا (12°) فإن متوسط درجة الحرارة اليومي هو :

○ 18° ○ **19°** ○ 20° ○ 21°

س تم رصد درجات الحرارة يوم الثلاثاء الماضي بدولة الكويت وكانت درجة الحرارة في فترة الظهيرة (25 مْ) ودرجة الحرارة ليلاً (10 مْ) فيكون المدى الحراري في ذلك اليوم:

○ 5 مْ ○ 10 مْ ○ **15 مْ** ○ 20 مْ

KuwaitTeacher.Com

جميع الحقوق محفوظة ©

عرف

المتوسط الشهري لدرجة الحرارة

مجموع متوسطات حرارة كل أيام الشهر مقسومة على عدد أيام الشهر

س عدد النطاقات الحرارية الكبرى (ارسم شكل)

- المنطقة الحارة
- المنطقة المعتدلة
- المنطقة الباردة

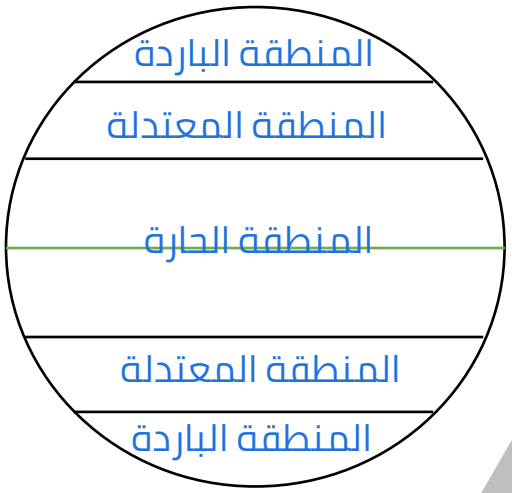

س الجزء المظلل من مخطط النطاقات الحرارية الكبرى في العالم يمثل المنطقة **الحارة**

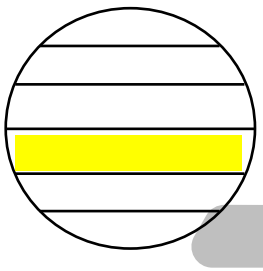

تـــدرب و تـفـوق
اختبارات الكترونية
UULA

الضغط الجوي

عرف المفاهيم التالية:

الضغط الجوي

وزن عامود من الهواء فوق أي مكان على سطح الأرض حتى نهاية الغلاف الغازي

مقدار متوسط الضغط الجوي

يساوي وزن أنبوب من الزئبق مساحة قاعدته (1سم 2) وارتفاعه 760ملم ويعادل 1013 مليبار

الضغط المرتفع

هو ما يزيد عن 1013 مليبار و يرمز له في الخرائط المناخية بالرمز (+)

الضغط المنخفض

هو ما يقل عن 1013 مليبار ويرمز له في الخرائط المناخية بالرمز (-)

س كيف تفرق : بين الضغط الجوي المرتفع والمنخفض في الخرائط المناخية

- الضغط الجوي المرتفع يرمز له في الخرائط المناخية بالرمز (+)
- الضغط الجوي المنخفض ويرمز له في الخرائط المناخية بالرمز (-)

أكمل العبارات التالية :

س يطلق على وحدة قياس الضغط الجوي ___ **المليبار** ___

س قيمة الضغط الجوي على ارتفاع 10000متر حوالي ___ **250 مليبار** ___

س يقاس متوسط مقدار الضغط الجوي بمحاذاة ___ **سطح البحر** ___

س عدد -أجهزة قياس الضغط الجوي

- البارومتر الزئبقي أو البارومتر الجاف والمعدني
- الباروجراف

UULA
معلم الكويت
KuwaitTeacher.Com

©جميع الحقوق محفوظة

س اكتب مدلول الأجهزة التالية :

ممكن أن يظهر السؤال في صيغة اخرى: (اكتب عناصر الطقس والمناخ التي تقيسها الأجهزة التالية)

البارومتر الزئبقي



البارومجراف



س عدد - العوامل الطبيعية المؤثرة في الضغط الجوي

- درجة الحرارة
- الرطوبة
- الارتفاع
- توزيع اليابس والماء

س اكتب العلاقة بين درجة الحرارة والضغط الجوي

يتمدد الهواء بالحرارة وينكمش بالبرودة إذا ارتفعت درجة حرارة الهواء يخف وزنه ويرتفع إلى أعلى ثم ينخفض ضغطه والعكس صحيح

س أكمل : العلاقة بين درجة الحرارة والضغط الجوي علاقة **عكسية**

س علل - انخفاض مقدار الضغط الجوي في المناطق الاستوائية

- المناطق الاستوائية ذات درجة حرارة مرتفعة
- يتمدد الهواء بالحرارة ويخف وزنه ويرتفع إلى أعلى ثم ينخفض ضغطه

س أكتب العلاقة بين الرطوبة والضغط الجوي

كلما زادت كمية بخار الماء في الهواء انخفض الضغط والعكس صحيح

س وضح العلاقة بين الارتفاع والضغط الجوي

ممكن أن يظهر السؤال في صيغة اخرى: (علل – يختلف مقدار الضغط الجوي فوق المناطق المرتفعة عن المناطق المنخفضة)

كلما زاد الارتفاع انخفض مقدار الضغط الجوي وينخفض بمعدل 33.8 مليبار لكل 300 متر

س أكمل : العلاقة بين الارتفاع والضغط الجوي علاقة **عكسية**

س علل - يختلف مقدار الضغط الجوي فوق اليابس عنه فوق المحيطات

بسبب اختلاف درجات حرارة الهواء الملامس لكل من أسطح اليابس والماء خلال فصلي الصيف والشتاء

UULA
KuwaitTeacher.Com

© جميع الحقوق محفوظة

س عدد مراكز الضغط الجوي الأساسية

- مركز الضغط الجوي المنخفض الاستوائي
- مركز الضغط الجوي المرتفع شبه المداري
- مركز الضغط الجوي المنخفض فوق دائرتي عرض 60 شمالاً وجنوباً (شبه القطبي)
- مركز الضغط الجوي المرتفع القطبي

س ارسم مخططا للكرة الأرضية موضحا عليه مناطق الضغط الجوي الأساسية



س لاحظ شكل الكرة الأرضية المقابلة ثم حدد عليها كل مما يلي :

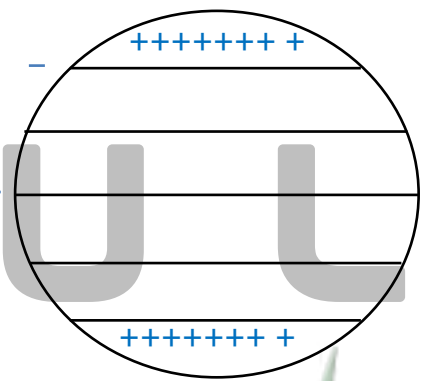

- مناطق الضغط المنخفض في نصف الكرة الشمالي فقط بالرمز -
- المنطقة الباردة في نصف الكرة الشمالي والجنوبي بالرمز +

تـــدرب و تـفـوق
اختبارات الكترونية

© جميع الحقوق محفوظة

عناصر الطقس والمناخ

الرياح

عرف المفاهيم التالية :

ممكن أن يظهر السؤال في صيغ اخرى: فرق | أكمل | اختياري

الهواء الساكن

الهواء الصاعد إلى أعلى وليس له حركة أفقية عند سطح الأرض

الرياح

تحرك الهواء أفقياً بالقرب من سطح الأرض

س علل - حركة الرياح قد تكون سريعة أو بطيئة

حسب اختلاف مقدار الضغط الجوي

س أكمل: تتحرك الرياح حركة سريعة أو بطيئة حسب مقدار اختلاف **الضغط الجوي**

س "الهواء لا يرى بالعين المجردة ولكن نشعر بحركاته واتجاهه " دلل على صحة العبارة

نشعر بحركاته واتجاهه من ملاحظة تحرك الدخان والأشجار والسحب المنخفضة والأمواج

س عدد - أجهزة قياس سرعة الرياح



دوارة الرياح



الأنيمومتر

س أكمل : الأجهزة التالية تقيس أحد عناصر الطقس والمناخ يسمى **الرياح**



Kuwaitteacher.Com

© جميع الحقوق محفوظة

س اختياري : الجهاز الذي يقيس سرعة الرياح :

○ السيكرومتر ○ **الأنيمومتر** ○ الهيجروجراف ○ الباروجراف

س علل - اختلاف اتجاهات الرياح وأنواعها على سطح الأرض

- الدورة العامة للرياح على سطح الأرض ترتبط بكل من حرارة الهواء ومقدار الضغط الجوي
- تنتقل الرياح من مراكز الضغط المرتفع إلى مراكز الضغط المنخفض

س انتقال الرياح من مراكز الضغط المرتفع إلى مراكز الضغط المنخفض

لتحل محل الهواء الساخن الصاعد إلى أعلى

س وضح العلاقة بين الحرارة والضغط الجوي والرياح

إذا ارتفعت درجة حرارة هواء مكان ما ينخفض ضغطه والعكس وتنتقل الرياح من مراكز الضغط المرتفع إلى مراكز الضغط المنخفض

تـــدرب و تـفـوق
اختبارات الكترونية

س عدد أنواع الرياح فوق سطح الأرض

- الرياح الدائمة
- الرياح الموسمية
- الرياح المحلية

عرف

الرياح الدائمة

رياح تهب بصورة منتظمة ودائمة على مناطق مختلفة في نصفي الكرة الأرضية

س علل - هبوب رياح دائمة ومنتظمة على مناطق مختلفة في نصفي الكرة الأرضية

- تبعاً لعمليات التوازن الحراري في الغلاف الجوي
- تنوع مقدار الضغط الجوي من منطقة لأخرى

KuwaitTeacher.Com

©جميع الحقوق محفوظة

س عدد أنواع الرياح الدائمة

- الرياح التجارية
- الرياح العكسية الغربية
- الرياح القطبية

س ارسم شكل يمثل اتجاهات الرياح الدائمة فوق سطح الأرض

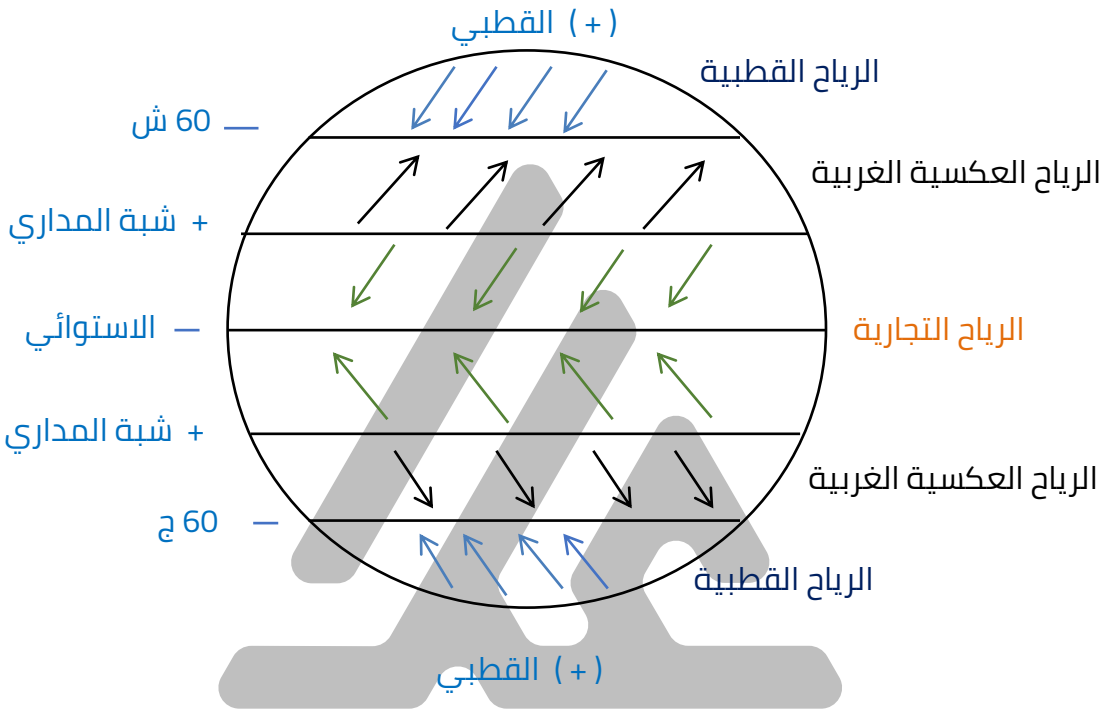

عرف

الرياح التجارية

رياح تهب على العروض المدارية من مناطق الضغط المرتفع وراء المدارين إلى مناطق الضغط المنخفض الاستوائي بصورة منتظمة

س عدد آثار الرياح التجارية على المناطق التي تهب عليها

- الأعاصير والعواصف المدارية المدمرة
- زيادة كمية الأمطار الساقطة صيفاً في العروض المدارية في الشرق وتقل في الاتجاه نحو الغرب

س اختياري : الرياح التي يسود بعض أجزاء نطاقها الأعاصير والعواصف المدارية المدمرة تسمى

- ○ **الرياح التجارية**
- ○ الرياح العكسية
- ○ الرياح القطبية
- ○ الرياح المحلية

UULA
KuwaitTeacher.Com

س علل - زيادة كمية الأمطار الساقطة صيفاً في العروض المدارية

بسبب هبوب الرياح التجارية

أكمل العبارات التالية :

س اتجاه الرياح التجارية في نصف الكرة الشمالي **شمالي شرقي**

س اتجاه الرياح التجارية في نصف الكرة الجنوبي **جنوبي شرقي**

عرف

الرياح العكسية الغربية

رياح تهب في المناطق المعتدلة بين دائراتي عرض 35 ° – 60 ° ش, ج من نطاق الضغط المرتفع وراء المدارين إلى نطاق الضغط المنخفض عند دائرتي عرض 66.5 ° ش .ج بصورة منتظمة

س اختياري - الرياح التي تهب في المناطق المعتدلة بين دائرتي عرض 35 ° – 60 ° ش, ج تسمى:

- ○ التجارية
- ○ **العكسية الغربية**
- ○ القطبية
- ○ الموسمية

أكمل العبارات التالية :

ممكن أن يظهر السؤال في صيغة اخرى: اختياري

س اتجاه الرياح العكسية الغربية في نصف الكرة الشمالي **جنوبي غربي**

س اتجاه الرياح العكسية الغربية في نصف الكرة الجنوبي **شمالي غربي**

س عدد آثار الرياح العكسية الغربية على المناطق التي تهب عليها

- الانخفاضات الجوية
- زيادة كمية الأمطار وكثافتها
- زيادة حجم المنخفض الجوي وقوته

س علل - حدوث الانخفاضات الجوية في المناطق المعتدلة (35 ° – 60 ° ش .ج)

نتيجة لالتقاء الكتل الهوائية الباردة مع الكتل الهوائية الدفيئة

UULA
صفوة الكويت
KuwaitTeacher.Com

عرف

الرياح القطبية

ريا ح تهب من نطاق الضغط المرتفع حول القطبين إلى نطاق الضغط المنخفض عند دائراتي عرض 66.5 ْش . ج بصورة منتظمة

أكمل العبارات التالية :

ممكن أن يظهر السؤال في صيغة اخرى: اختياري

س اتجاه الرياح القطبية في نصف الكرة الشمالي **شمالي شرقي**

س اتجاه الرياح القطبية في نصف الكرة الجنوبي **جنوبي شرقي**

س عدد آثار الرياح القطبية على المناطق التي تهب عليها

- الاضطرابات الجوية
- العواصف المطيرة والثلجية عند التقائها بالرياح العكسية الغربية

س علل حدوث العواصف المطيرة والثلجية في شمال أوراسيا وأمريكا الشمالية وجزيرة جرينلاند

بسبب التقاء الرياح القطبية بالرياح العكسية الغربية

س عدد المناطق التي تؤثر الرياح القطبية على مُناخاتها

- شمال أوراسيا
- شمال أمريكا الشمالية
- جزيرة جرينلاند

لاحظ الرسم التالي لدورة الرياح ثم اجب عما يلي

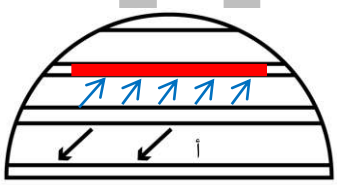

س حدد بالأسهم اتجاه الرياح العكسية الغربية

س ظلل على الرسم منطقة الضغط المنخفض شبه القطبي

س الحرف (أ) يمثل رياح دائمة تسمى الرياح التجارية

KuwaitTeacher.Com

س قارن بين كل من :

المقارنة	الرياح التجارية	الرياح العكسية الغربية
التعريف	رياح تهب على العروض المدارية من مناطق الضغط المرتفع وراء المدارين إلى مناطق الضغط المنخفض الاستوائي	رياح تهب في المناطق المعتدلة بين دائراتي عرض 35 ° – 60 ° ش, ج من نطاق الضغط المرتفع وراء المدارين إلى نطاق الضغط المنخفض عند دائرتي عرض 66.5 ° ش .ج
الآثار	▪ الأعاصير والعواصف المدارية	▪ الاضطرابات الجوية

تـــدرب و تـفـوق
اختبارات الكترونية

عرف

الرياح الموسمية

رياح مدارية موسمية تصاحب حدوث الرياح التجارية ولها نفس اتجاهاتها

س علل - نشأة الرياح الموسمية

بسبب أثر اختلاف اتساع اليابس والماء على درجات حرارة الهواء ومقدار الضغط الجوي

اختر الإجابة الصحيحة

س النطاق التي تهب عليه الرياح الموسمية :

○ الاستوائي ○ **المداري**
○ القطبي ○ دون القطبي

س الرياح الموسمية تهب على النطاق المداري وخصوصاً في :

○ شمال القارات ○ جنوب القارات
○ غرب القارات ○ **شرق القارات**

Kuwaitteacher.Com

© جميع الحقوق محفوظة

س علل - نشأة الرياح الموسمية الصيفية

- ارتفاع الحرارة على القارات في فصل الصيف
- انخفاض مقدار الضغط الجوي فوق القارات ويظل مرتفعاً فوق مياه المحيطات
- تهب الرياح من فوق المحيطات إلى القارات

علل

س الرياح الموسمية تكون محملة بالأمطار صيفاً

بسبب هبوب الرياح الموسمية الصيفية من المحيطات إلى القارات

س سقوط الأمطار صيفاً على مناطق جنوب شرق أسيا

بسبب هبوب الرياح الموسمية الصيفية

س ما تأثير الرياح الموسمية على المناخ في مناطق جنوب شرق آسيا

تؤدي لسقوط كميات ضخمة من الأمطار خاصة في فصل الصيف والعكس في فصل الشتاء

س فرق بالرسم بين اتجاه الرياح الموسمية الصيفية والرياح الموسمية الشتوية على جنوب شرق آسيا

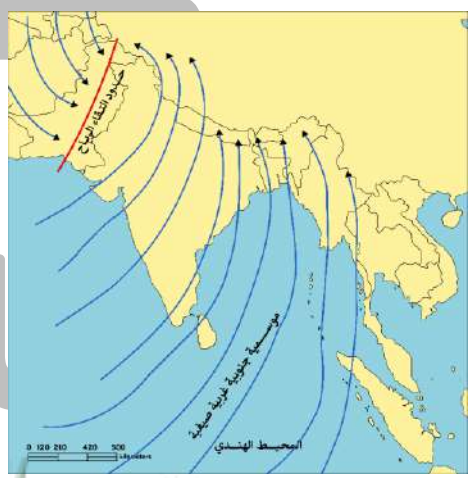

موسمية جنوبية غربية صيفية

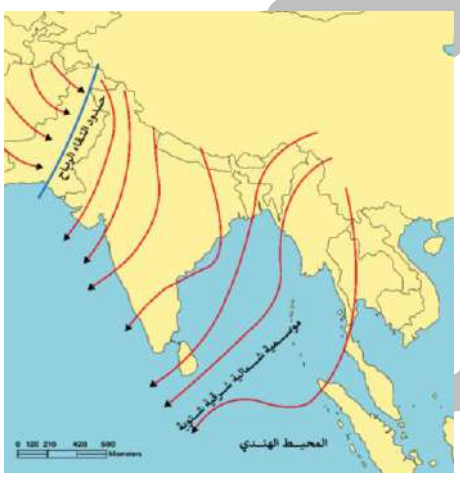

موسمية شمالية شرقية شتوية

س اختياري: الرياح الموضحة على الخريطة المقابلة تعرف باسم :

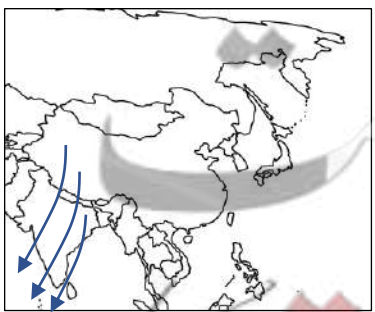

- ○ التجارية
- ○ العكسية
- ○ الموسمية الصيفية
- ○ **الموسمية الشتوية**

Kuwaitteacher.Com

© جميع الحقوق محفوظة

عرف

الرياح المحلية

رياح تهب بصورة مؤقتة على مساحات محدودة من سطح الأرض خلال فترات زمنية قصيرة

س عدد - أقسام الرياح المحلية

- مجموعة الرياح المحلية الحارة التي تهب نحو مناطق الانخفاضات الجوية
- مجموعة الرياح المحلية التي تنشأ لتباين التوزيع الجغرافي لليابس والماء والاختلافات التضاريسية

س علل - يطلق على مجموعة الرياح المحلية الحارة التي تهب نحو مناطق الانخفاضات الجوية أسماء عديدة

لأنه يطلق عليها أسماء محلية عديدة حسب المناطق التي تتكون فيها ومنها

س عدد أسماء مجموعة الرياح المحلية الحارة التي تهب نحو مناطق الانخفاضات الجوية

السموم — الخماسين — القبلي — الفهن الجبلية — السيروكو

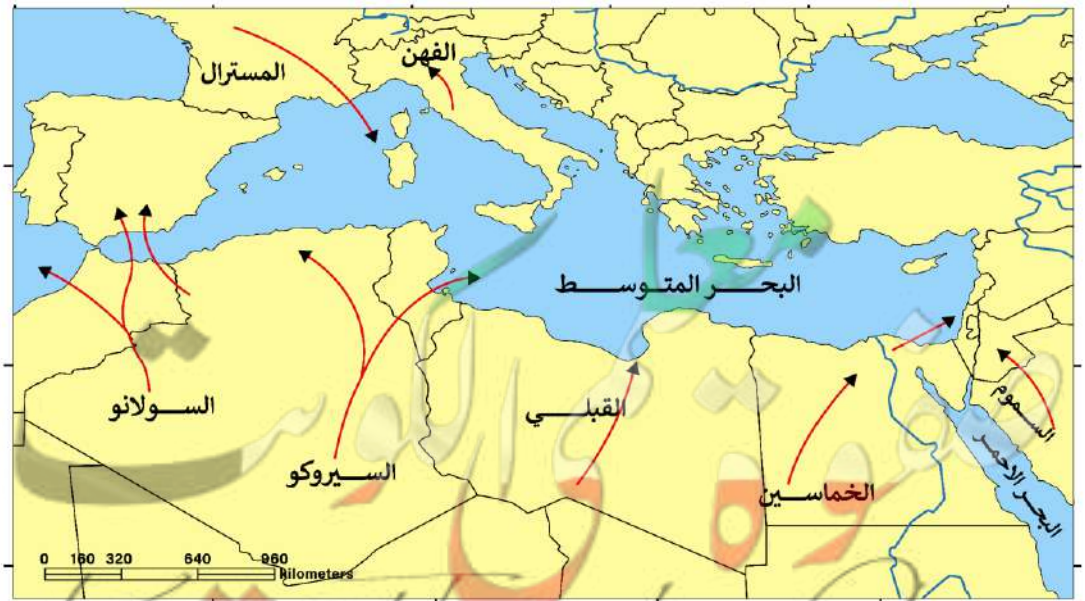

Kuwaitteacher.Com

© جميع الحقوق محفوظة

س قارن بين كل من :

أوجه المقارنة	رياح السموم	رياح الخماسين
المناطق التي تهب عليها	تهب من جنوب شبه الجزيرة العربية في فصل الربيع وتصل إلى صحراء الشام	مصر
الآثار	عواصف ترابية في سوريا والأردن وفلسطين	▪ العواصف الترابية الشديدة ▪ حرائق في القرى

أكمل العبارات التالية :

ممكن أن يظهر السؤال في صيغة اخرى: اختياري

س تهب رياح السموم في شبه الجزيرة العربية خلال فصل _ **الربيع** _ _ _

س رياح الخماسين تؤدي لحدوث العواصف الترابية الشديدة في مصر خلال فصل **الربيع**

س علل - تسمية رياح الخماسين بهذا الاسم

لأن عدد أيام هبوبها يصل إلى نحو 50 يوماً في السنة

س عدد آثار هبوب رياح الخماسين على مصر

- حدوث العواصف الترابية الشديدة في فصل الربيع
- حدوث الحرائق في القرى المصرية
- تساعد على نضج محصول القمح

اختر الإجابة الصحيحة

س ريا ح محلية تؤدي إلى حدوث عواصف ترابية في مصر ويصل عدد أيام هبوبها إلى نحو 50 يوماً في السنة:

○ السموم ○ السيروكو
○ القبلي ○ **الخماسين**

س تساعد رياح الخماسين في نضوج محصول القمح في دولة عربية تسمى :

○ السودان ○ الجزائر ○ **مصر** ○ ليبيا

UULA
معلمي الكويت
KuwaitTeacher.Com

© جميع الحقوق محفوظة

س رياح الخماسين في مصر تساعد على نضج محصول .

○ الشعير ○ الذرة ○ **القمح** ○ الأرز

س قارن بين كل من :

ممكن أن يظهر السؤال في صيغ اخرى: أكمل اختياري

أوجه المقارنة	رياح القبلي	رياح الفهن الجبلية
المناطق التي تهب عليها	تهب من الصحراء الكبرى إلى السواحل الشمالية من ليبيا	تهب من شمال ايطاليا إلى وسط أوروبا
الآثار	محملة بالرمال الدقيقة الناعمة	▪ ارتفاع الحرارة ▪ ذوبان الجليد

أكمل العبارات التالية :

س الجبال التي تعبرها رياح الفهن الجبلية للوصول إلى وسط أوروبا تسمى **جبال الألب السويسرية**

س الرياح التي تهب من الصحراء الكبرى متجهة نحو سواحل تونس والجزائر والمغرب تسمى **السيروكو**

س الرياح التي يصل تأثيرها إلى جزيرة صقلية وسردينيا وسواحل أسبانيا تسمى **السيروكو**

س البحر الذي تعبره رياح السيروكو للوصول لجزيرة صقلية يسمى **البحر المتوسط**

اختر الإجابة الصحيحة

س الدولة التي تهب منها رياح الفهن الجبيلة المحلية:

○ فرنسا ○ **إيطاليا** ○ السويد ○ النمسا

س الصحراء التي تهب منها الرياح المحلية (القبلي – السيروكو - السولانو)

○ جوبي ○ كلهاري ○ **الصحراء الكبرى** ○ ثار

UULA
معلمة الكويت
KuwaitTeacher.Com

© جميع الحقوق محفوظة

لاحظ الخريطة التالية جيداً ونفذ المطلوب منك:

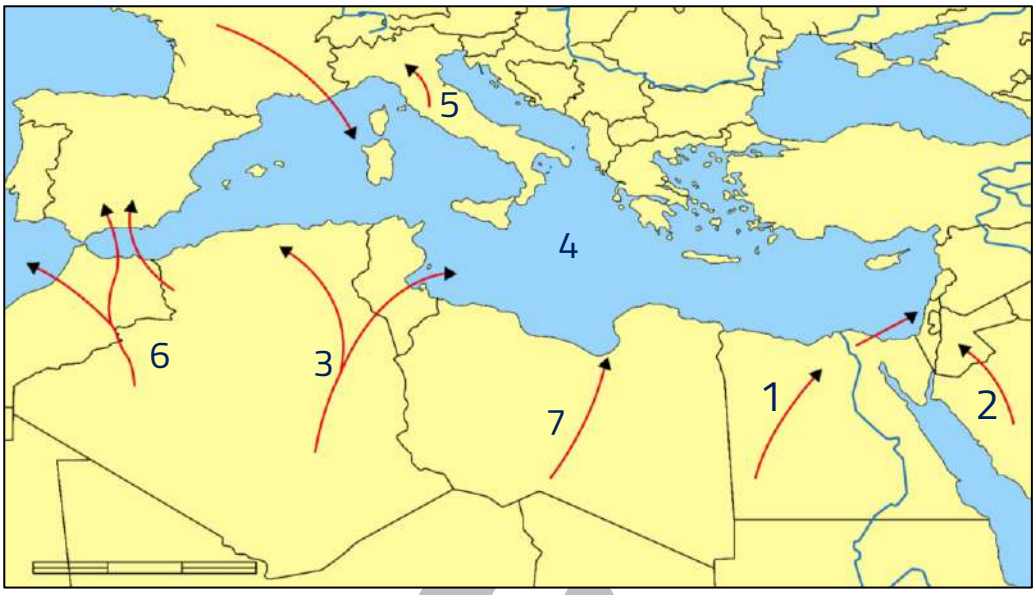

س رياح السموم يمثلها على الخريطة الرقم **2**

س رياح الخماسين يمثلها على الخريطة الرقم **1**

س رياح القبلي يمثلها على الخريطة الرقم **7**

س رياح السيروكو يمثلها على الخريطة الرقم **3**

س رياح الفهن الجبلية يمثلها على الخريطة الرقم **5**

س رياح السولانو يمثلها على الخريطة الرقم **6**

س البحر الذي تعبره رياح السيروكو للوصول لجزيرة صقلية يمثله على الخريطة الرقم **4**

س دلل - " بالرغم من كل الأخطار التي تسببها الرياح المحلية من عواصف ورمال إلا أن لها أهمية كبيرة "

رياح الخماسين في مصر لها أضرار بشرية وبيئية إلا أن لها أهمية كبيرة فهي تساعد على نضج محصول القمح

تـــدرب و تـفـوق
اختبارات الكترونية

© جميع الحقوق محفوظة

س عدد - أنواع الرياح المحلية التي تنشأ لتباين توزيع اليابس والماء والتضاريس

- نسيم الجبل
- نسيم الوادي
- نسيم البحر
- نسيم البر

قارن بين كل من:

المقارنة	نسيم الجبل	نسيم الوادي
الرسم		
المفهوم	يحدث أثناء الليل عندما يبرد الهواء على سفوح الجبال فيهبط نحو الأودية والأراضي المنخفضة	يحدث أثناء النهار يسخن الهواء الملامس للأرض نهاراً في الأودية فيتصاعد إلى أعلى السفوح الجبلية

المقارنة	نسيم البحر	نسيم البر
الرسم		
المفهوم	يحدث أثناء النهار يسخن الهواء الملامس لسطح الأرض وتصبح حرارته مرتفعة عن الهواء الملامس للمسطحات المائية ثم يصعد إلى أعلى ويحل محله هواء بحري أقل منه	يحدث أثناء الليل يفقد اليابس حرارته بسرعة وتحتفظ الماء بحرارتها فيصعد الهواء الملامس للمياه إلى أعلى ويحل محله هواء أقل منه

KuwaitTeacher.Com

© جميع الحقوق محفوظة

س علل – حدوث نسيم البحر والبر

نتيجة الاختلافات الحرارية اليومية بين حرارة الهواء الملامس لكل من اليابس والمسطحات المائية المجاورة لها

س أكمل : المناطق التي يحدث فيها نسيم البحر والبر تسمى **المناطق الساحلية**

س أكتب مدلول الصور التالية :

ممكن أن يظهر السؤال في صيغة اخرى: اختياري



نسيم البحر



نسيم البر

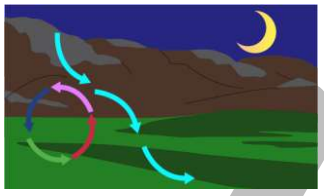

نسيم الجبل



نسيم الوادي

س أعطي أمثله لمجموعة الرياح المحلية الباردة التي تهب نحو مؤخرة الانخفاضات الجوية

- رياح المسترال (أمثلتها رياح كريفت في رومانيا)
- رياح النورثر (الشمالية)

س قارن بين كل من :

الرياح	المناطق التي تهب عليها	الآثار
المسترال	تهب من الجبال المحيطة بوادي الرون بفرنسا نحو مؤخرة الانخفاضات الجوية	انخفاض درجة الحرارة
النورثر (الشمالية)	تهب فوق القسمين الأوسط والجنوبي من الولايات المتحدة وتصل إلى المكسيك	حدوث الموجات الباردة

س حدد كل من رياح النورثر ورياح المسترال باستخدام الرمز ←

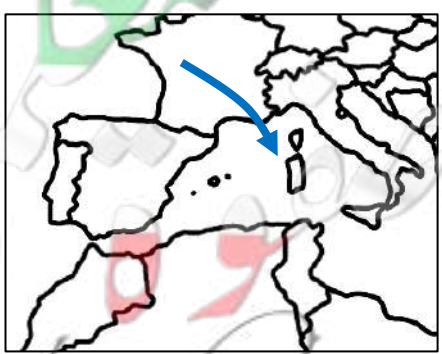

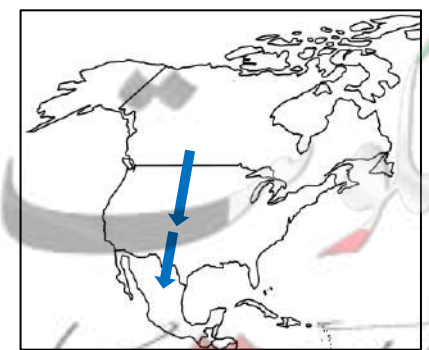

KuwaitTeacher.Com

© جميع الحقوق محفوظة

اختر الإجابة الصحيحة

س الدولة التي تهب منها رياح المسترال المحلية :

○ **فرنسا** ○ إيطاليا ○ السويد ○ النمسا

س تهب رياح المسترال من الجبال المحيطة بوادي :

○ الراين ○ **الرون** ○ الدون ○ السين

س رياح محلية تهب من الجبال العالية التي تحيط بوادي الرون بفرنسا خلال فصل الشتاء :

○ النورثر ○ **المسترال** ○ السموم ○ الخماسين

س رياح باردة تهب نحو مؤخرة الانخفاضات الجوية في رومانيا :

○ المسترال ○ **كريفت** ○ النورثر ○ السموم

س رياح محلية شمالية تهب فوق القسمين الأوسط والجنوبي من الولايات المتحدة الأمريكية :

○ السيروكو ○ السموم ○ القبلي ○ **النورثر**

تـــدرب و تـفـوق
اختبارات الكترونية

معلمي الكويت
صفوة
KuwaitTeacher.Com

©جميع الحقوق محفوظة

عناصر الطقس والمناخ

الرطوبة والتكاثف والتساقط

س أكمل : يعتبر عنصر الماء من مكونات الغلاف الجوي الأساسية ويعبر عنه بـــ **الرطوبة الجوية**

س " الرطوبة الجوية تأخذ أشكال مرئية " دلل على صحة العبارة

- عندما تصبح غيوماً أو ضباباً
- عندما تتساقط على الأرض أمطاراً أو ثلوجاً

عرف

الرطوبة

مقدار بخار الماء في حيز من الهواء على سطح الأرض

س علل أهمية بخار الماء في الهواء

- له دور مهم في حدوث عملية التكاثف
- تنظيم سقوط الإشعاع الشمسي على سطح الأرض
- حفظ الإشعاع الشمسي في الطبقات السفلى من الغلاف الجوي

أكمل العبارات التالية :

س المصدر الرئيسي للرطوبة من النباتات عملية تسمى **النتح**

س تعتبر عملية النتح من النباتات المصدر الرئيسي **للرطوبة**

س عدد أجهزة قياس الرطوبة

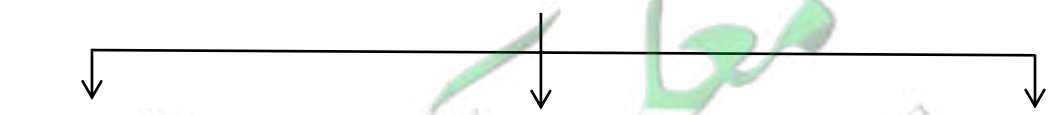

UULA
معلمي الكويت
صفوة الكويت
KuwaitTeacher.Com

© جميع الحقوق محفوظة

س أكتب مدلول الأجهزة التالية :



السيكرومتر



الهيجروجراف

عرف

السيكرو متر

عبارة عن ترمومترين أحدهما جاف والأخر مبلل بقطعة قماش

س أكتب عن طريقة احتساب الرطوبة باستخدام جهاز السيكرومتر

عن طريق حساب الفرق بين درجتي الحرارة في الترمومترين

عرف المفاهيم التالية

ممكن أن يظهر السؤال في صيغ اخرى: أكمل | اختياري | فرق

التكاثف

تحول بخار الماء في الجو من حالته الغازية إلى الحالة السائلة أو الصلبة

التسامي

تحول بخار الماء من الحالة الغازية إلى الحالة الصلبة مباشرة

س عدد - مظاهر التكاثف

- مظاهر التكاثف على سطح الأرض
- مظاهر التكاثف في طبقات الجو العليا

س فرق بين كل من

ممكن أن يظهر السؤال في صيغ اخرى: عدد | اختياري

مظاهر التكاثف على سطح الأرض	مظاهر التكاثف في طبقات الجو العليا
الضباب - الندى - الصقيع	السحب - الثلوج - البرد

UULA
KuwaitTeacher.Com

س اختياري : من مظاهر التكاثف على سطح الأرض :

○ **الندى** ○ السحب ○ الثلوج ○ البرد

عرف المفاهيم التالية

ممكن أن يظهر السؤال في صيغ اخرى: أكمل | اختياري | فرق

الضباب

ذرات مائية خفيفة الوزن تتطاير في الهواء ويزداد ثقلها بالقرب من سطح الأرض

الندى

قطرات مائية تتجمع على الأسطح المعرضة للجو مباشرة مثل النباتات

س ماذا يحدث إذا : " وصل الهواء الجوي الرطب إلى اليابسة الأكثر برودة منه "

يتشكل الندى

س أكتب مدلول الصورة المقابلة :

يتشكل الندى

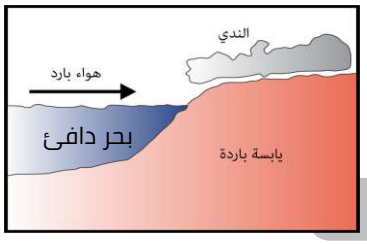

عرف

الصقيع

بلورات ثلجية صغيرة الحجم جداً وتشبه الندى في أوقات وأماكن الحدوث

س ماذا يحدث إذا : " انخفضت درجة حرارة الهواء الملامس لسطح الأرض دون الصفر المئوي انخفاضاً تدريجياً "

يتكون الصقيع

س أكمل الجدول التالي

أوجه	الندي	الصقيع
التشابه	أوقات ومواقع التكوين	
الاختلاف	النشأة والتكوين	

UULA
معلم الكويت
KuwaitTeacher.Com

عرف

السحب

ضباب كثيف ولكن بعيد عن سطح الأرض

س أكتب تعليلاً جغرافياً لتكون السحب

- صعود الهواء الرطب إلى طبقات الجو العليا
- تنخفض درجة حرارته ويتعرض للتكاثف

س فرق بين كل من :

ممكن أن يظهر السؤال في صيغ اخرى: (أكمل – اختياري – أكتب المفهوم العلمي)

الثلج	الجليد Ice
بلورات رقيقة تتكون نتيجة لانخفاض دجة الحرارة إلى ما دون الصفر المئوي	تراكم وانضغاط وتماسك الثلوج وتصبح شديدة الصلابة

س أكتب تعليلاً جغرافياً لتكون الثلوج

نتيجة انخفاض درجة الحرارة لدرجة التجمد في طبقات الجو العليا فتتساقط على سطح الأرض

عرف

البرد

تجمد بخار الماء في السحب على شكل كرات من الثلج

س أكتب تعليلاً جغرافياً لتكون البرد

- تكاثف بخار الماء في السحب على شكل قطرات صغيرة من الماء
- تتجمد القطرات على شكل كرات بسبب شدة البرودة وتسقط لثقلها

تـــدرب و تـفـوق
اختبارات الكترونية

Kuwaitteacher.Com

© جميع الحقوق محفوظة

عرف

المطر

سقوط بخار الماء المتكثف في طبقات الجو العليا نحو الأرض على شكل نقط مائية

أكمل العبارات التالية :

س تتوقف كمية الأمطار الساقطة على مقدار كمية _ **التبخر** _




س الجهاز الذي يقيس كمية الأمطار الساقطة يسمى _ **الوعاء القياسي للمطر** _

س الجهاز الذي تمثله الصورة المقابلة يسمى _ **الوعاء القياسي للمطر** _

س تنقسم الأمطار إلى مجموعات مختلفة حسب _ **نشأتها** _

س عدد أنواع الأمطار حسب نشأتها

- المطر الإعصاري
- المطر التضاريسي
- المطر الانقلابي (التصاعدي – الحملي)

س علل - نشأة المطر الإعصاري:

- اصطدام هواء حار ورطب بهواء بارد فإنهما لا يمتزجان
- ينزلق الهواء البارد تحت الهواء الحار
- يرتفع الهواء الحار إلى أعلى وتنخفض حرارته فتتشكل الغيوم الكثيفة

أكمل العبارات التالية :

ممكن أن يظهر السؤال في صيغ اخرى: اختياري

س المناطق التي يحدث فيها المطر الإعصاري تسمى _ **المناطق المعتدلة** _

س المطر الإعصاري يحدث في المناطق المعتدلة خاصة في حوض يسمى _ **حوض البحر المتوسط** _

س سقوط المطر الإعصاري في حوض البحر المتوسط في فصل الشتاء مرتبط بـ _ **الانخفاضات الجوية** _

KuwaitTeacher.Com

© جميع الحقوق محفوظة

س الصورة المقابلة تمثل أحد أنواع الأمطار يسمى

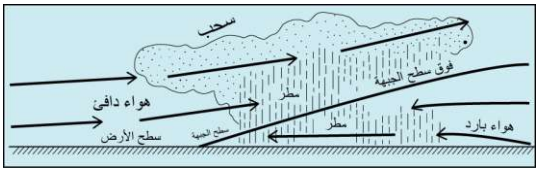

المطر الإعصاري

س علل - حدوث المطر التضاريسي

- تصادم الهواء الدافئ المحمل ببخار الماء بسفوح الجبال العالية
- صعود الهواء إلى أعلى ثم يتكثف ما به من بخار الماء
- تسقط الأمطار على السفوح المواجهة للرياح

أكمل العبارات التالية :

س الجهة التي يسقط عليها المطر التضاريسي بكميات كبيرة في السفوح الجبلية هي **المواجهة للرياح**

س الجهة التي يسقط عليها المطر التضاريسي بكميات قليلة في السفوح الجبلية هي **المضادة للرياح**

س السفوح الجبلية التي يسقط عليها المطر التضاريسي في لبنان تسمى **مرتفعات لبنان الغربية**

س اختياري : من مظاهر التكاثف على سطح الأرض :

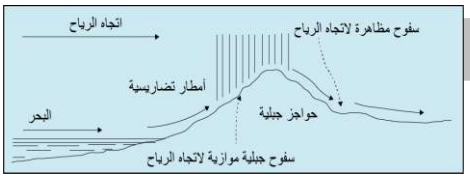

○ إعصاري ○ **تضاريسي**
○ انقلابي ○ تصاعدي

س علل - سقوط المطر بكميات قليلة في السفوح الجبلية المضادة للرياح

لأنها تقع في ظل المطر

س عرف - المطر الانقلابي (التصاعدي – الحملي)

هو المطر الذي يتكون في المناطق ذات الحرارة المرتفعة أثناء النهار

س علل - حدوث المطر الانقلابي

- في المناطق ذات الحرارة المرتفعة يسخن الهواء الرطب ويخف وزنه ويرتفع إلى أعالي طبقة التروبوسفير
- مع الارتفاع يبرد الهواء ويتكثف بخاره وتسقط الأمطار الانقلابية

UULA
معلمة الكويت
KuwaitTeacher.Com

©جميع الحقوق محفوظة

اختر الإجابة الصحيحة

س المطر الحملي يحدث في المناطق :

- ○ المعتدلة
- ○ القطبية
- ○ المدارية
- ○ **الاستوائية**

س الطبقة التي يصعد لها الهواء الرطب في المناطق الاستوائية :

- ○ **التروبوسفير**
- ○ الأستراتوسفير
- ○ الميزوسفير
- ○ الثيرموسفير

س قارن بين كل من :

المقارنة	المطر الإعصاري	المطر التضاريسي
التعريف	اصطدام هواء حار ورطب بهواء بارد فيصعد الهواء الحار إلى أعلى وتنخفض حرارته ويتكاثف وتسقط الأمطار	اصطدام الرياح الرطبة المحملة ببخار الماء بالحواجز الجبلية العالية فيصعد الهواء لأعلى ويبرد ويتكاثف فيسقط المطر
المنطقة	المناطق المعتدلة في حوض البحر المتوسط	مرتفعات لبنان الغربية
الرسم		

معلمي الكويت
صفوة
KuwaitTeacher.Com

© جميع الحقوق محفوظة

س صنف ما يلي حسب موقعة في الجدول التالي بوضع الرقم فقط



1



2



3



4

جهاز لقياس سرعة الرياح	جهاز لقياس الرطوبة	جهاز لقياس الضغط الجوي	جهاز لقياس حرارة الهواء
2	4	3	1

س لاحظ الصور التالية ونفذ المطلوب منك:

- أسم الجهاز
- عناصر الطقس والمناخ التي تقيسها



الترمومتر المزدوج



الترموجراف



الهواتف الذكية



الترمومتر الجاف البسيط "

الأجهزة تقيس حرارة الهواء



البارموجراف



البارومتر الزئبقي

الأجهزة تقيس الضغط الجوي

Kuwaitteacher.Com
صفوة الكويت

© جميع الحقوق محفوظة



دوارة الرياح



الأنيمومتر

الأجهزة تقيس الرياح



السيكرومتر



الهيجروجراف





الوعاء القياسي للمطر

الأجهزة تقيس الرطوبة

الأجهزة تقيس المطر

س ضع الرمز (أ) إذا كانت العبارتان صحيحتان والرمز (ب) إذا كانت العبارتان خاطئتان والرمز (ج) إذا إحدى العبارتان صحيحة والأخرى خاطئة

م	العبارات		الرمز
1	يقاس الضغط الجوي بجهاز السيكرومتر	تقاس سرعة الرياح بجهاز الترموجراف	ب
2	تهب الرياح من مراكز الضغط المرتفع إلى مراكز الضغط المنخفض	هبوب رياح الخماسين تؤدي إلى حدوث عواصف ترابية خلال فصل الربيع في مصر	أ
3	البرد هو أحد مظاهر التكاثف في طبقات الجو العليا	الرياح الموسمية الشتوية ممطرة على جنوب شرق آسيا	ج

تـــدرب و تـفـوق
اختبارات الكترونية

© جميع الحقوق محفوظة

تعريف الغلاف الحيوي

عرف المفاهيم التالية :

ممكن أن يظهر السؤال في صيغ اخرى: أكمل | اختياري | فرق

الغلاف الحيوي

هو الحيز المكاني الذي توجد فيه الحياة ويسمح للكائنات الحية بأنواعها أن تعيش فيه

الإقليم الحيوي

حيز مكاني على سطح الأرض فيه أنواع من الكائنات الحية تميزه عن الأقاليم الأخرى

س فسر - نشأة الغلاف الحيوي

ينشأ في نطاق متداخل نتيجة للتفاعل المتبادل بين ثلاثة أغلفة لكوكب الأرض الصخري والمائي والجوي

س ما النتائج المترتبة على : الارتباط القوي بين الظروف المُناخية والحياة النباتية والحيوانية

- الحفاظ على بقاء واستمرار الإقليم الحيوي
- الحفاظ على التوازن الطبيعي للبيئة

س تسمى الأقاليم الحيوية بمسميات مناخية نباتية " دلل على صحة العبارة

ممكن أن يظهر السؤال في صيغة اخرى: (عدد - أنواع الأقاليم الحيوية في العالم)

- إقليم الغابات
- إقليم الحشائش
- إقليم الصحاري

معلمي الكويت
صفوة
KuwaitTeacher.Com

© جميع الحقوق محفوظة

س أكمل المخطط السهمي

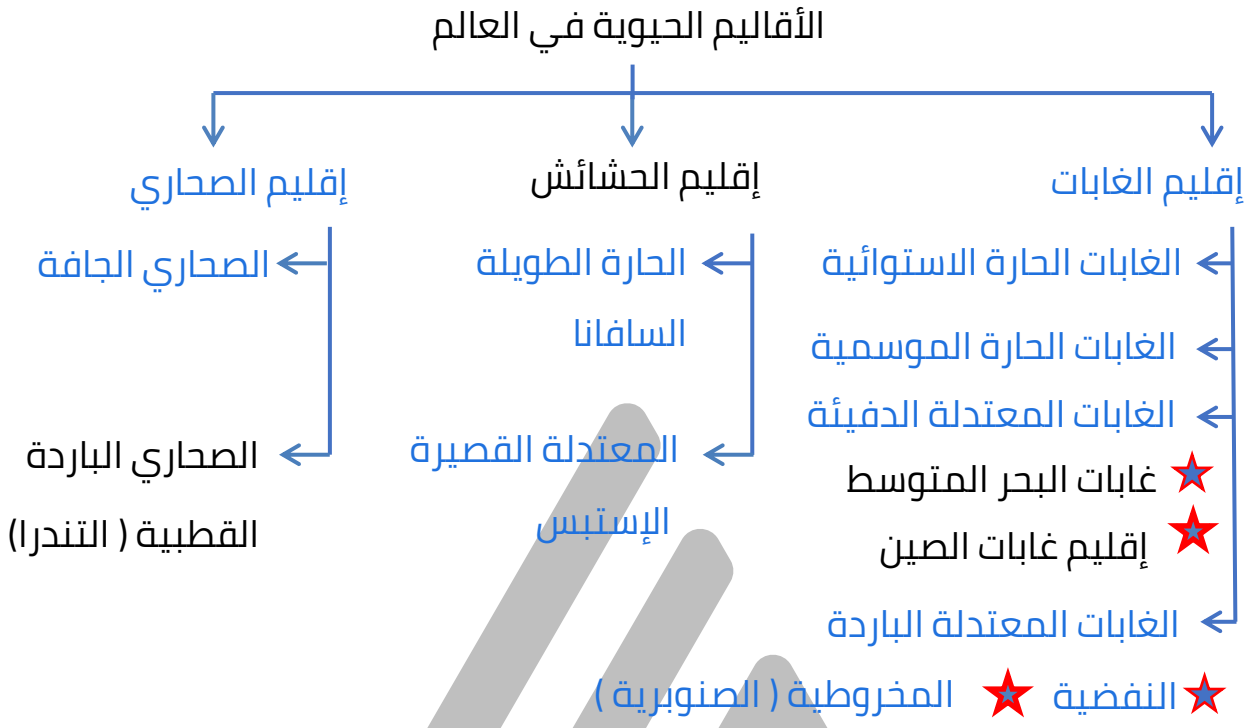

تـــدرب و تـفـوق
اختبارات الكترونية

معلمي الكويت
صفوة
KuwaitTeacher.Com

© جميع الحقوق محفوظة

الغابات الحارة الاستوائية

س أكمل : تمتد الغابات الحارة الاستوائية بين دائرتي عرض **5 شمالاً - 5 جنوباً**

س التوزيع الجغرافي للغابات الحارة الاستوائية :

قارة أسيا	قارة أفريقيا	قارة أمريكا الجنوبية
شبة جزيرة الملايو	حوض الكنغو	حوض الأمازون
جنوب جزر إندونيسيا	ساحل غانا	
جزر الفلبين		

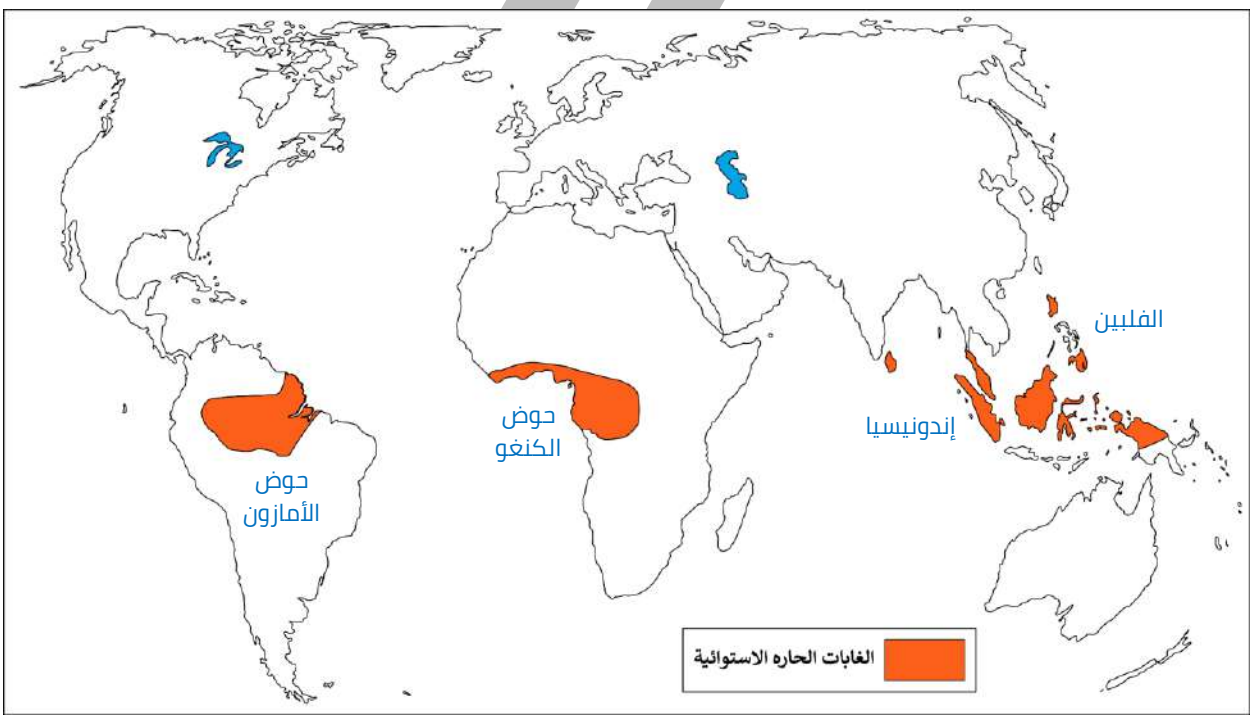

س اختياري: تتوزع الغابات الحارة الاستوائية في قارة أمريكا الجنوبية في:

- ○ حوض الكونغو
- ○ **حوض الأمازون**
- ○ ساحل غانا
- ○ سهل البمباس

معلمي الكويت
Kuwaitteacher.Com

© جميع الحقوق محفوظة

س فرق بين الظروف المناخية في الغابات الحارة الاستوائية :

درجة الحرارة	الأمطار
▪ مرتفعة طوال العام ▪ المتوسط الشهري 26.6 ° م ▪ المدى الحراري الفصلي لا يتعدى 32 ° م	▪ تسقط طوال العام ▪ الكمية 80 بوصة سنوياً

س اختياري : كمية المطر السنوي في إقليم الغابات الحارة الاستوائية

○ 20 بوصة ○ 40 بوصة
○ 60 بوصة ○ **80 بوصة**

س عدد مميزات الحياه النباتية في الغابات الحارة الاستوائية

- تضم أكثر من 100 ألف نوع من النباتات
- غابات كثيفة ومتشابكة
- تتوج قمم الأشجار الغطاء النباتي
- ارتفاع الأشجار في قلب الغابة 50 م
- تقل كثافة الأشجار كلما بعدنا عن قلب الغابة ويتراوح ارتفاعها من 15 -30 م

س أكمل : صعوبة استغلال الغابات الحارة الاستوائية اقتصادياً بسبب _ **تداخلها** _

عرف

غابات الدهاليز

هي الغابات الكثيفة والمتشابكة وتحجب 40 % من الأشعة الضوئية

علل

س انتشار البرك والمستنقعات في الغابات الاستوائية

- الأشجار كثيفة متشابكة
- تحجب 40% من الأشعة الضوئية

س انتشار الأمراض والأوبئة في مناطق الغابات الاستوائية (غابات الدهاليز)

- تحجب 40% من الأشعة الضوئية
- انتشار البرك والمستنقعات

UULA
KuwaitTeacher.Com

©جميع الحقوق محفوظة

س علل- يطلق على أشجار الغابات الاستوائية اسم أشجار التاج

بسبب تتوج قمم الأشجار الغطاء النباتي في الغابة الاستوائية

س اختياري : الاسم الذي يطلق على قمم أشجار الغطاء النباتي في الغابة الاستوائية هو :

○ الأبنوس ○ الماهوجني
○ خشب الورد ○ **التاج**

علل

س ارتفاع الأشجار في قلب الغابات الاستوائية ليصل إلى 50 متر

- منخفضة المنسوب
- ارتفاع درجة الحرارة
- غزيرة الأمطار

س تقل كثافة وحجم الأشجار كلما ابتعدنا عن قلب الغابة الاستوائية

ممكن أن يظهر السؤال في صيغة اخرى:
(علل – يتراوح ارتفاع الأشجار في أطراف الغابة الاستوائية من 15 -30 م)

لأن كلما بعدنا عن قلب الغابة شمالاً وجنوباً تقل كمية المطر السنوي وتنخفض درجة الحرارة

س الغابات الاستوائية مناطق غير صالحة للسكن والاستقرار

- كثرة البرك المستنقعات
- انتشار الأمراض والأوبئة
- صعوبة استغلالها اقتصادياً

س عدد أهم أنواع الأشجار في الغابات الاستوائية

ممكن أن يظهر السؤال في صيغ اخرى: اختياري فرق

- الأخشاب الصلبة ذات القيمة الاقتصادية
- (الأبنوس – الماهوجني - خشب الورد)
- الأشجار المثمرة والصمغية
- (المطاط - نخيل الزيت - جوز الهند - الكاكاو - الموز - الأناناس - المانجو)

UULA
صفوة معلمي الكويت
KuwaitTeacher.Com

© جميع الحقوق محفوظة

اختر الإجابة الصحيحة :

س أهم أنواع أشجار إقليم الغابات الحارة الاستوائية :

○ الصندل ○ الساج
○ **الأبنوس** ○ الهشاب

س أشجار الأخشاب الصلبة ذات القيمة الاقتصادية في الغابات الاستوائية :

○ المطاط ○ **خشب الورد**
○ الهشاب ○ المسافر

س علل - كثرة النباتات المتسلقة في الغابات الاستوائية

- من أجل البقاء تلتف أغصانها حول الأشجار الكبيرة الطويلة
- الأشجار تصبح دعامة لها ثم تنمو لأعلى نحو الضوء

س أكتب مدلول الصورة المقابلة:



الغابات الاستوائية

س عدد – أنواع الحياة الحيوانية في الغابات الحارة الاستوائية

ممكن أن يظهر السؤال في صيغة اخرى: (صمم مخطط سهمي لأنواع الحيوانات في الغابات الاستوائية)

- الثدييات المتسلقة : القردة - الغوريلا
- الحيوانات المتوحشة : القطط الوحشية – أليغور
- الثدييات البرمائية : فرس النهر
- الطيور الزاهية الألوان : البغبغاء - طائر الجنة
- الطيور : السمان - الحجل – البومة – الصقر – النسر
- الحشرات : الفراشات – البعوض – النمل الأبيض

س عدد مميزات الثدييات المتسلقة في الغابات الاستوائية

- أذرع طويلة قوية
- أرجل قصيرة

س علل - كثرة الثدييات المتسلقة في الغابات الاستوائية

بسبب ضيق مسالك ودهاليز الغابة

UULA.COM
جميع الحقوق محفوظة
KuwaitTeacher.Com

أكمل العبارات التالية :



ممكن أن يظهر السؤال في صيغ اخرى: اختياري عرف

س الحيوان الأكثر خطراً في الغابة الأمازونية يسمى _ **اخاتل** _

س الصورة المقابلة تمثل حيوان يسمى _ _ **أليغور _ النمر الأمريكي المرقط** _ _

س أضخم ثعابين العالم وأخطرها حيث يقوم بعصر فريسته حتى الموت ويبلغ طولها من 8.5م إلى 10 م تسمى _ **الأناكوندا** _ _



س الصورة المقابلة تمثل الأناكوندا التي يكثر وجودها في الغابات الاستوائية في حوض يسمى **الأمازون** _ _

س أكتب مدلول الصور التالية



الطوقان



الشمبانزي



التمساح



أليغور (الخاتل)

تـــدرب و تـفـوق
اختبارات الكترونية

UULA
معلمي الكويت
صفوة
KuwaitTeacher.Com

الغابات الحارة الموسمية

س التوزيع الجغرافي :

قارة آسيا	قارة أفريقيا	قارة أمريكا الجنوبية	قارة أستراليا
▪ جنوب شرق آسيا	▪ وسط وغرب القارة ▪ السواحل الشرقية	▪ أمريكا الوسطى ▪ شمال غرب القارة ▪ شرق البرازيل	▪ شمال أستراليا

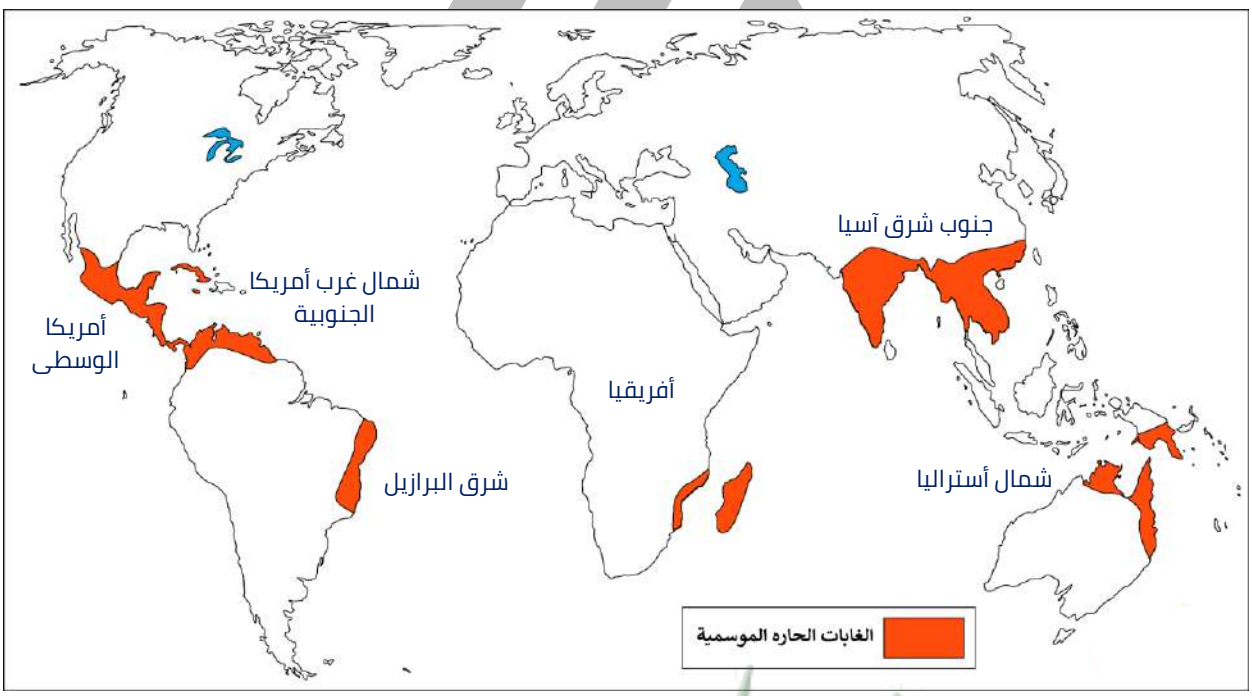

س اختياري : تقع الغابات الحارة الموسمية في قارة آسيا جهة :

○ الجنوب الغربي
○ **الجنوب الشرقي**
○ الشمال الغربي
○ الشمال الشرقي

معلمي الكويت
KuwaitTeacher.Com

© جميع الحقوق محفوظة

س فرق بين الظروف المناخية الغابات الحارة الموسمية :

درجة الحرارة	الأمطار
▪ ترتفع صيفاً وتنخفض شتاءً ▪ المتوسط السنوي من 21° - 26.6°م ▪ المدى السنوي يصل إلى 1.6°م	▪ وجود فصل جاف يتراوح من 3- 5 أشهر ▪ تسقط الأمطار صيفاً كميتها السنوية ▪ من 40- 80 بوصة

س اختياري : كمية المطر السنوي في إقليم الغابات الحارة الموسمية :

○ أقل من 10 بوصة
○ 20- 40 بوصة
○ 40 – 60 بوصة
○ **40 – 80 بوصة**

س عدد - مميزات الحياة النباتية في الغابات الحارة الموسمية

- تقل كثافة الأشجار وحجمها
- متوسط ارتفاع الأشجار 10 -25م

س عدد أهم أنواع الأشجار في الغابات الحارة الموسمية

ممكن أن يظهر السؤال في صيغة اخرى: اختياري

- الأشجار ذات الأهمية الاقتصادية : الساج - الصندل
- أشجار الصمغ: الهشاب - الطلح
- المناطق الأكثر جفافاً: أشجار السنط - النباتات الشوكية
- مجموعات الغابات أو الخيزران الهائل الارتفاع 20 م

س اختياري : من أشجار الصمغ في الغابات الحارة الموسمية :

○ **الهشاب والطلح**
○ الزيتون والخروب
○ السرو والعرعر
○ المطاط ونخيل الزيت

UULA
معلمي الكويت
صفوة
KuwaitTeacher.Com

© جميع الحقوق محفوظة

س صمم مخططاً سهمياً يوضح الأنواع الرئيسية لحيوانات الغابات الموسمية

- الحيوانات الثديية الكبيرة وسريعة الجري
- الحيوانات الثديية المتسلقة
- الحيوانات المائية
- الزواحف
- الطيور ذات الألوان الزاهية

س أكتب عن الحياة الحيوانية في الغابات الحارة الموسمية

- الحيوانات الثديية الكبيرة وسريعة الجري
  - آكلة اللحوم : الأسود – النمور – الذئاب -الضباع – الثعالب
  - آكلة العشب : الفيلة – الجاموس البري – الخرتيت " وحيد القرن " – الغزلان – الزراف – الظباء – الحمر الوحشية
- الحيوانات الثديية المتسلقة : القردة – النسانيس
- الحيوانات المائية : التماسيح
- الزواحف البرية : السحالي – الثعابين
- الحشرات : الفراشات – البعوض
- الطيور البرية ذات الألوان الزاهية : دجاج الغابة – الطاووس

س فرق بين كل من :

مميزات الثدييات في الغابات الحارة الاستوائية	مميزات الثدييات في الغابات الحارة الموسمية
▪ أذرع طويلة قوية ▪ أرجل قصيرة	▪ كبيرة الحجم ▪ سريعة الجري

س أكتب مدلول الصور التالية :



طائر الأرة الأزرق



وحيد القرن



الزواحف



الفيل

KuwaitTeacher.Com

© جميع الحقوق محفوظة

عرف المفاهيم التالية :

ممكن أن يظهر السؤال في صيغ اخرى: أكمل | اختياري | فرق

فن التخفي

هو طريقة جيدة للاحتماء

التسي تسي

ذبابة أفريقية ذات جناحين تحمل الحيوان الطفيلي الذي يسبب مرض النوم الأفريقي

المثقبيات

الطفيليات التي تسبب مرض النوم الأفريقي



س أكمل : الصورة المقابلة تمثل ذبابة أفريقية تسمى التسي تسي

س قارن بين كل من :

أوجه المقارنة	الغابات الحارة الاستوائية	الغابات الحارة الموسمية
التوزيع الجغرافي	▪ حوض الكنغو ▪ حوض الأمازون	▪ جنوب شرق آسيا ▪ شمال أستراليا
الظروف المناخية	▪ درجة الحرارة مرتفعة طوال العام ▪ غزارة الأمطار طوال العام ▪ كميتها السنوية 80 بوصة	▪ درجة الحرارة ترتفع صيفاً ▪ غزارة الأمطار صيفاً ▪ كميتها السنوية 40 -80 بوصة
أنواع الأشجار	▪ الأخشاب الصلبة ذات القيمة الاقتصادية (الأبنوس – الماهوجني) ▪ الأشجار المثمرة والصمغية : المطاط ▪ الموز	▪ الأشجار ذات الأهمية الاقتصادية (الساج - الصندل) ▪ أشجار الصمغ: الهشاب - الطلح

تـــدرب و تـفـوق
اختبارات الكترونية
UULA
صفوف الكويت
KuwaitTeacher.Com

© جميع الحقوق محفوظة

الغابات المعتدلة الدفيئة

س عدد أقاليم الغابات المعتدلة الدفيئة

- إقليم غابات البحر المتوسط
- إقليم غابات الصين

س اختياري : تنتمي غابات البحر المتوسط إلى إقليم الغابات :

○ الحارة الموسمية
○ الحارة الاستوائية
○ **المعتدلة الدفيئة**
○ المعتدلة الباردة

س فرق بين كل من :

وجه المقارنة	إقليم غابات البحر المتوسط	إقليم غابات الصين
التوزيع الجغرافي	▪ حوض البحر المتوسط ▪ (آسيا- أفريقيا – أوروبا) ▪ غرب قارة أمريكا الشمالية والجنوبية ▪ جنوب استراليا	▪ شرق الصين ▪ جنوب شرق أفريقيا ▪ شرق الولايات المتحدة ▪ جنوب شرق البرازيل ▪ شرق أستراليا

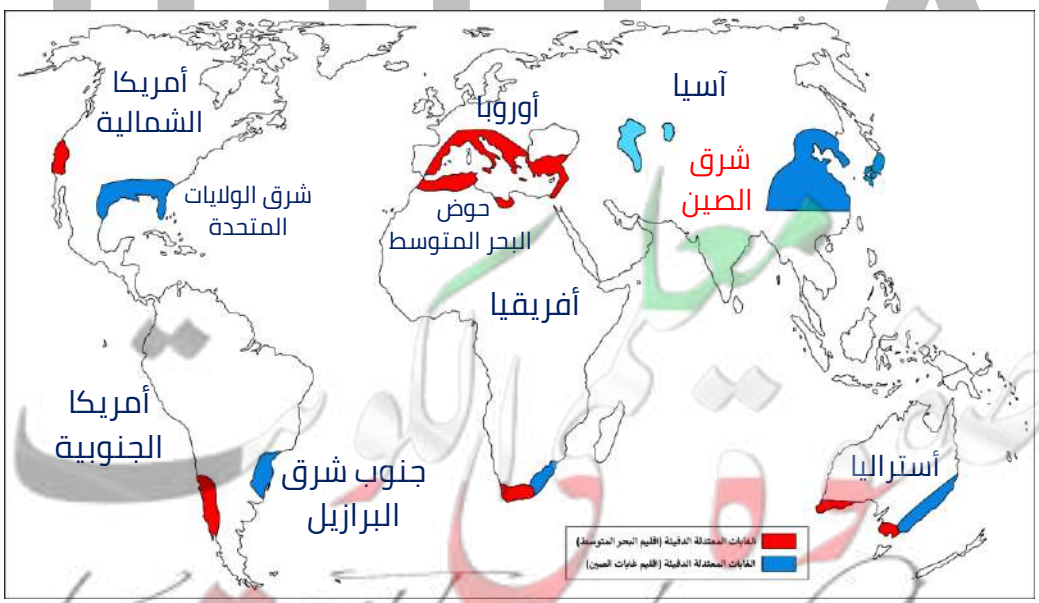

KuwaitTeacher.Com

© جميع الحقوق محفوظة

س فرق بين كل من :

المعيار	إقليم غابات البحر المتوسط	إقليم غابات الصين
الظروف المناخية	▪ الحرارة: اعتدال درجة الحرارة ▪ الأمطار: ▪ شتوية والجفاف صيفاً ▪ الأمطار غزيرة فوق السفوح الجبلية ▪ كمية المطر من 20- 40 بوصة	▪ الحرارة : ▪ ترتفع صيفا حتي 21 ْم ▪ تنخفض شتاءً إلى 7 °م ▪ الأمطار: كمية المطر من 30 – 50 بوصة

اختر الإجابة الصحيحة:

س كمية المطر السنوي في إقليم غابات البحر المتوسط :

○ أقل من 10 بوصة
○ **20- 40 بوصة**
○ 40 – 60 بوصة
○ 40 – 80 بوصة

س كمية المطر السنوي في إقليم غابات الصين:

○ أقل من 10 بوصة
○ 20- 30 بوصة
○ **30 – 50 بوصة**
○ 40 – 50 بوصة

س عدد – أنواع نباتات إقليم البحر المتوسط

ممكن أن يظهر السؤال في صيغ اخرى: أكمل اختياري

- حشائش الماكي
- شجيرات (الآس – الوزال – الغار)
- أشجار دهنية الملمس (الزيتون – الخروب)
- شجيرات تتميز بجذوعها القصيرة وامتداد جذورها لأعماق بعيدة في التربة (الكروم- التين)
- أشجار أبرية الشكل (السرو -العرعر -الكافور)
- أشجار جذوعها ذات عقد كثيرة (الفستق)
- نباتات عصارية تحتفظ بالمياه داخلها (الصبار)

KuwaitTeacher.Com

© جميع الحقوق محفوظة

أكمل العبارات التالية :

س أشجار تنمو في إقليم غابات البحر المتوسط جذوعها ذات عقد تسمى **الفستق**

س الحشائش التي تنمو في إقليم غابات البحر المتوسط تسمى **حشائش الماكي**

اختر الإجابة الصحيحة:

س الأشجار ذات الأوراق العريضة الخضراء في إقليم غابات البحر المتوسط:

○ الزيتون ○ الخروب ○ **الصنوبر** ○ الكافور

س أشجار جذوعها ذات عقد كثيرة تنمو إقليم غابات البحر المتوسط:

○ **الفستق** ○ الخروب ○ الصنوبر ○ الكافور

س عدد أنواع نباتات الإقليم الصيني

- أشجار: السرو – الصنوبر -البلوط – الدردار – الطوبال -الزان
- السرخسيات والبامبو والمتسلقات في الأراضي المنخفضة

س اختياري : الإقليم النباتي الذي تنمو فيه السرخسيات والبامبو والمتسلقات:

○ الغابات الحارة الاستوائية ○ الغابات الحارة الموسمية
○ غابات البحر المتوسط ○ **غابات الصين**

س الإقليم الحيوي الذي تتشابه فيه الحياة الحيوانية مع إقليم البحر المتوسط يسمى **إقليم الصين**

س أكتب عن الحياة الحيوانية في الغابات المعتدلة الدفيئة

ممكن أن يظهر السؤال في صيغ اخرى:
(عدد الأنواع الرئيسية للحيوانات فى الغابات المعتدلة الدفيئة) - (اختيارى)

- الحيوانات الكيسية (الكنغرو)
- حيوانات آكلة للعشب (الغزلان - الماعز الجبلي)
- حيوانات آكلة للحوم (الذئاب - الثعالب – القطط الوحشية - الدب الرمادي)
- الزواحف * القوارض * الطيور المحبة للهجرة

صفوة معلمي الكويت
KuwaitTeacher.Com

س أكتب مدلول الصور التالية :


الذئب


ظبي الجبل


الثعلب


الحيوانات الكيسية

عرف المفاهيم التالية :

الكنغر

حيوان ذو فرو يقفز على قدميه الخلفيتين

الثدييات الجرابية (الكيسية)

لإناث هذه الحيوانات كيس على البطن تضع فيه الوليد حتى يكتمل نموه

أكمل العبارات التالية :



ممكن أن يظهر السؤال في صيغة أخرى: اختياري

س الصورة المقابلة تمثل حيوان يسمى **الكنغر**

س القارة التي يعيش فيها حيوان الكنغرو تسمى **أستراليا**

س أكبر الأفراد من حيث الحجم في مجموعة الثدييات الجرابية (الكيسية) يسمى **الكنغر**



س أقدم وأضخم شجرة على وجه الأرض توجد في منتزه يسمى **السكويا القومي**

س الولاية الأمريكية التي يوجد فيها منتزه السكويا القومي تسمى **كاليفورنيا**

س الصورة المقابلة تمثل شجرة من أشجار الخشب الأحمر وتسمى **السكويا**

س أقدم شجرة على وجه الأرض قطرها 11م وارتفاعها **110م**

UULA
صفوة المعلمين
KuwaitTeacher.Com

© جميع الحقوق محفوظة

س أضخم وأقدم شجرة على وجه الأرض عمرها يفوق _ **3500 سنة** _

س شجرة تكفي بناء 40 منزل خشبي تسمى _ **السكويا** _

س شجرة وزنها 1385 طن ويحملها قاطرة من 30 عربة تسمى _ **السكويا** _

س اختياري: أضخم وأقدم شجرة على وجه الأرض وعمرها يفوق 3500 سنة:

○ التبلدي ○ **السكويا** ○ المسافر ○ الأمبو

لاحظ خريطة العالم ثم اجب عما يليها من أسئلة :

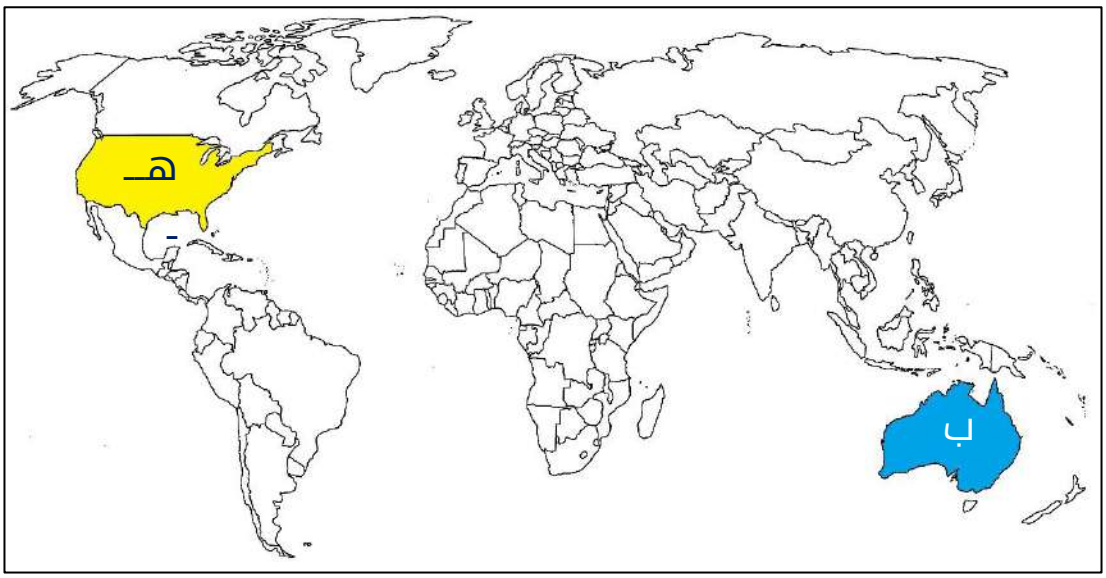

س القارة التي يعيش فيها حيوان الكنغر يمثلها الحرف **ب**

س الدولة التي تنمو فيها أقدم وأضخم شجرة على وجه الأرض يمثلها الحرف **هـ**

تـــدرب و تـفـوق
اختبارات الكترونية

معلمي الكويت
صفوة
KuwaitTeacher.Com

الغابات المعتدلة الباردة

س عدد - أنواع الغابات المعتدلة الباردة

- الغابات النفضية
- الغابات المخروطية (الصنوبرية)

س اختياري : الغابات النفضية تنتمي إلى إقليم الغابات:

○ الحارة الموسمية ○ الحارة الاستوائية
○ المعتدلة الدفيئة ○ **المعتدلة الباردة**

س التوزيع الجغرافي للغابات المعتدلة الباردة :

المعيار	قارة آسيا	قارة أوروبا	قارة أمريكا الشمالية
الغابات النفضية	غرب وشرق آسيا	وسط وغرب أوروبا	شرق وغرب القارة
الغابات المخروطية	شمال آسيا	شمال أوروبا	شمال أمريكا الشمالية

UULA
معلمي الكويت
صفوة
KuwaitTeacher.Com

© جميع الحقوق محفوظة

س فرق بين الظروف المناخية في إقليم الغابات المعتدلة الباردة :

درجة الحرارة	الأمطار
▪ انخفاض درجة الحرارة ▪ تنخفض شتاءً عن الصفر المئوي ▪ تصل صيفاً إلى أكثر من 15 °م	▪ يزداد المطر شتاءً في غرب القارات ▪ يقل المطر في المناطق الشمالية والشرقية ▪ ومعظم التساقط على شكل ثلج ▪ كمية المطر السنوي من 30 – 60 بوصة

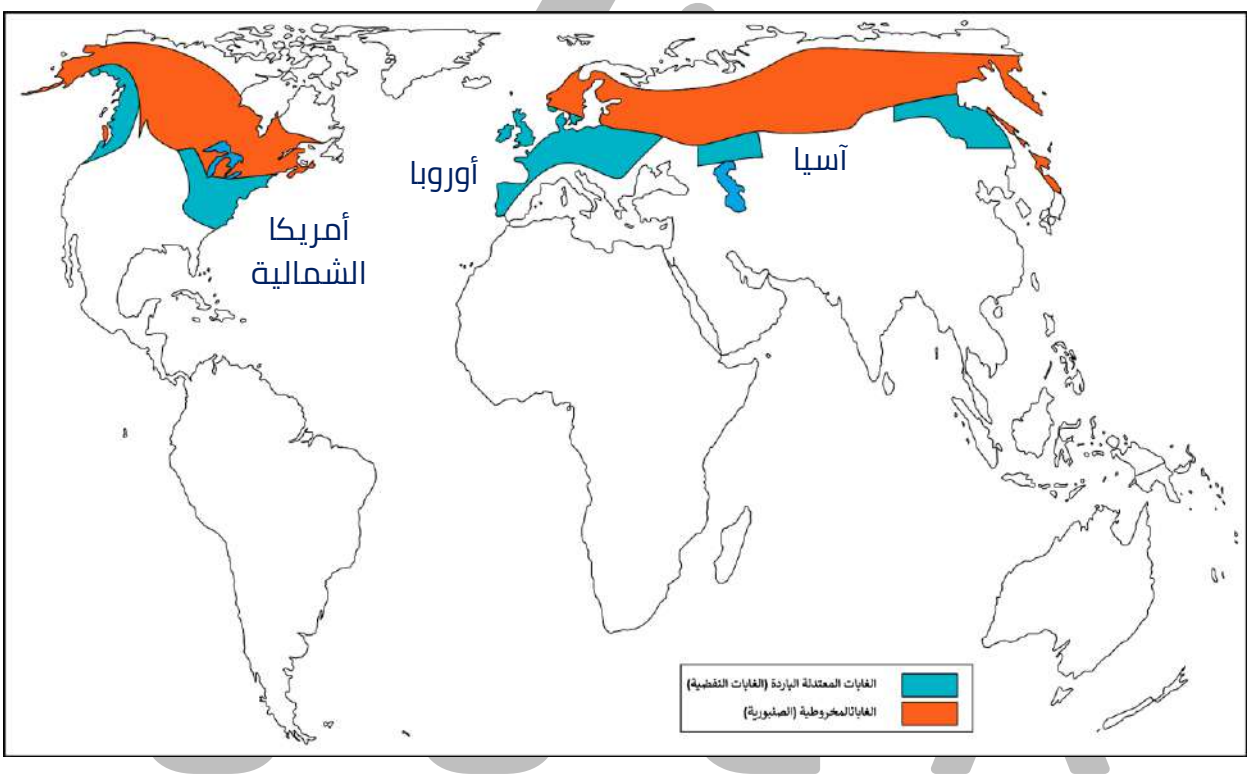

معلمي الكويت
صفوة
KuwaitTeacher.Com

© جميع الحقوق محفوظة

س علل / زيادة كمية الأمطار في غرب القارات في إقليم الغابات المعتدلة الباردة لتأثرها بالرياح العكسية الغربية

س اختياري : إقليم حيوي معظم التساقط فيه يكون على شكل ثلج :

○ الغابات المعتدلة الدفيئة ○ **إقليم الغابات المعتدلة الباردة**
○ الغابات الباردة القطبية ○ الغابات الموسمية

عرف المفاهيم التالية :

الغابات النفضية

غابات تتساقط أوراق أشجارها السائدة في مواسم معينة

الغابات المخروطية (الصنوبرية)

غابات لأشجارها السائدة أوراق طويلة رفيعة شبيهة بالإبر

أكمل العبارات التالية :

س الغابات النفضية تسمى غابات **متساقطة الأوراق**

س تعرف الغابات الصنوبرية باسم **التايجا**

س نسبة الغابات الصنوبرية من المساحة الكلية لدولة السويد **50 %**

س نسبة الغابات الصنوبرية من المساحة الكلية لدولة فنلندا **60 %**

س اختياري : نسبة الغابات الصنوبرية من المساحة الكلية لدولة فنلندا يمثله الجزء المظلل في الدائرة البيانية

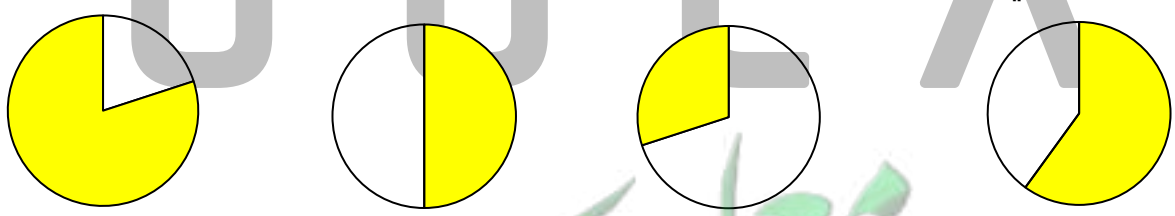

○ **أ** ○ ب ○ ج ○ د

س بم نفسر تسمية الغابات النفضية بهذا الاسم

ممكن أن يظهر السؤال في صيغ اخرى: (علل- الغابات النفضية تسمى بالغابات متساقطة الأوراق)

لتساقط أوراق أشجارها السائدة في بعض المواسم خاصة فصل الشتاء لتنمو أوراق جديدة

KuwaitTeacher.Com

© جميع الحقوق محفوظة

س علل - تسمية الغابات الصنوبرية بالغابات الإبرية الأوراق حاملة المخاريط

- أوراق أشجارها السائدة طويلة ورفيعة شبيهة بالإبر
- تحمل مخاريط تحتوي على البذور

س يطلق على الغابات المخروطية اسم غابات الأخشاب الرخوة

لأن أخشابها أقل صلابة

س عدد الأسماء التي تطلق على الغابات المخروطية

- الغابات الصنوبرية
- التايجا
- الغابات الإبرية الأوراق حاملة المخاريط
- غابات الأخشاب الرخوة

س اذكر اسمين لكل نبات طبيعي حسب الجدول التالي :

ممكن أن يظهر السؤال في صيغ اخرى: اختياري عدد

الأشجار النفضية	الأشجار الصنوبرية
البلوط - الجوز - القسطل - الشوكران	الشربين – التنوب – البيسيه
الزان – السيكامور– الكستناء – الحور	الصنوبر – الأرز

س عدد الأنواع الرئيسية للحيوانات في الغابات المعتدلة الباردة

- آكلة اللحوم (الدببة – الذئاب – الوشق – المنك - السمور)
- آكلة العشب (الأيل – الكاريبو - الظربان الأمريكي - السنجاب)
- الطيور (آكلة الحشرات)
- حيوانات تقضي أوقات طويلة في المياه (ثعلب الماء – الغرير – عجل البحر)

عرف

الوشق

حيوان يفضل العزلة ويعتمد في صيد فرائسه على قدراته السمعية الهائلة

UULA
صفوة معلمي الكويت
KuwaitTeacher.Com

أكمل العبارات التالية:



س الصورة المقابلة تمثل حيوان يسمى _ **الوشق** _

س السمور والمنك والظربان الأمريكي حيوانات ذات _ **فراء** _

س أكتب مدلول الصور التالية :



ثعلب الماء



الرنة



السمور (القندس)



الظربان الأمريكي



المنك

س قارن بين كل من : (حيوانات ذات فراء)

المقارنة	السمور " القندس "	المنك	الظربان الأمريكي
الموطن الرئيسي	كندا - روسيا	مزارع الفراء في أمريكا الشمالية وروسيا	أمريكا الشمالية
الوصف	بني غامق - طويل حريري	بني - رمادي - أبيض – طويل حريري	أسود -طويل - حريري

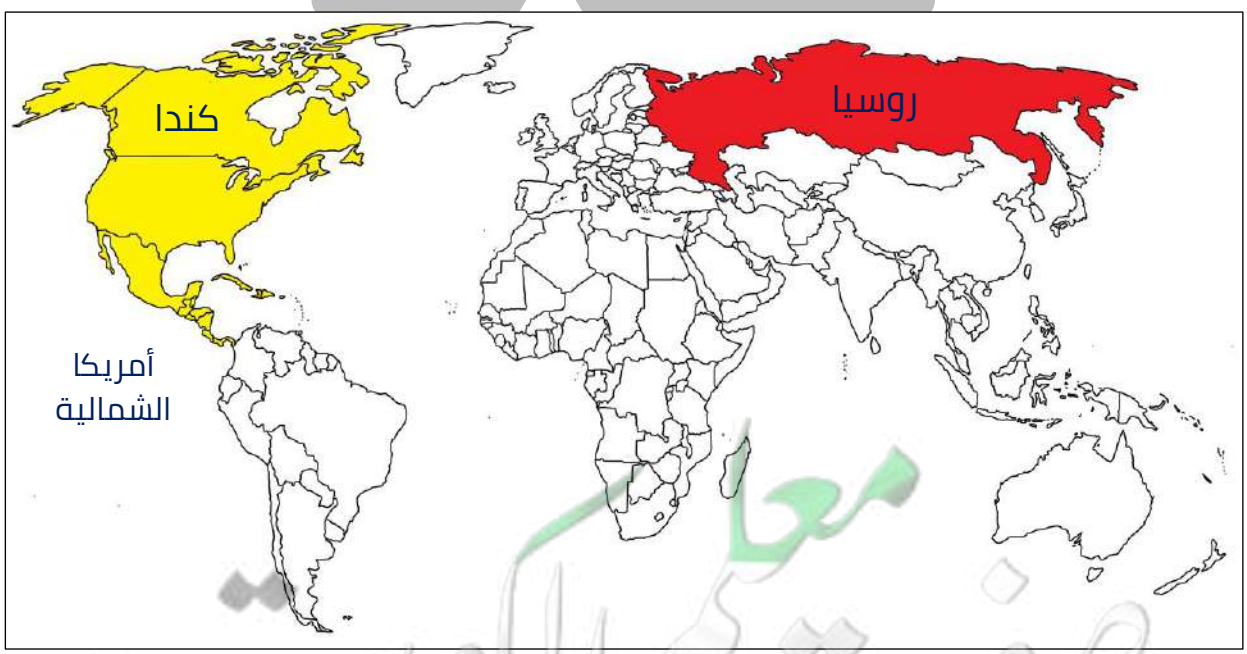

تـــدرب و تـفـوق
اختبارات الكترونية

KuwaitTeacher.Com

© جميع الحقوق محفوظة

الحشائش الحارة الطويلة " السافانا "



عرف

السافانا

أراضي عشبية تنمو فيها أشجار متفرقة

س أكمل جدول التوزيع الجغرافي لحشائش السافانا:

قارة أفريقيا	قارة أمريكا الجنوبية	قارة أستراليا
القسم الأوسط المداري في النصفين الشمالي والجنوبي	شرق البرازيل	وسط أستراليا

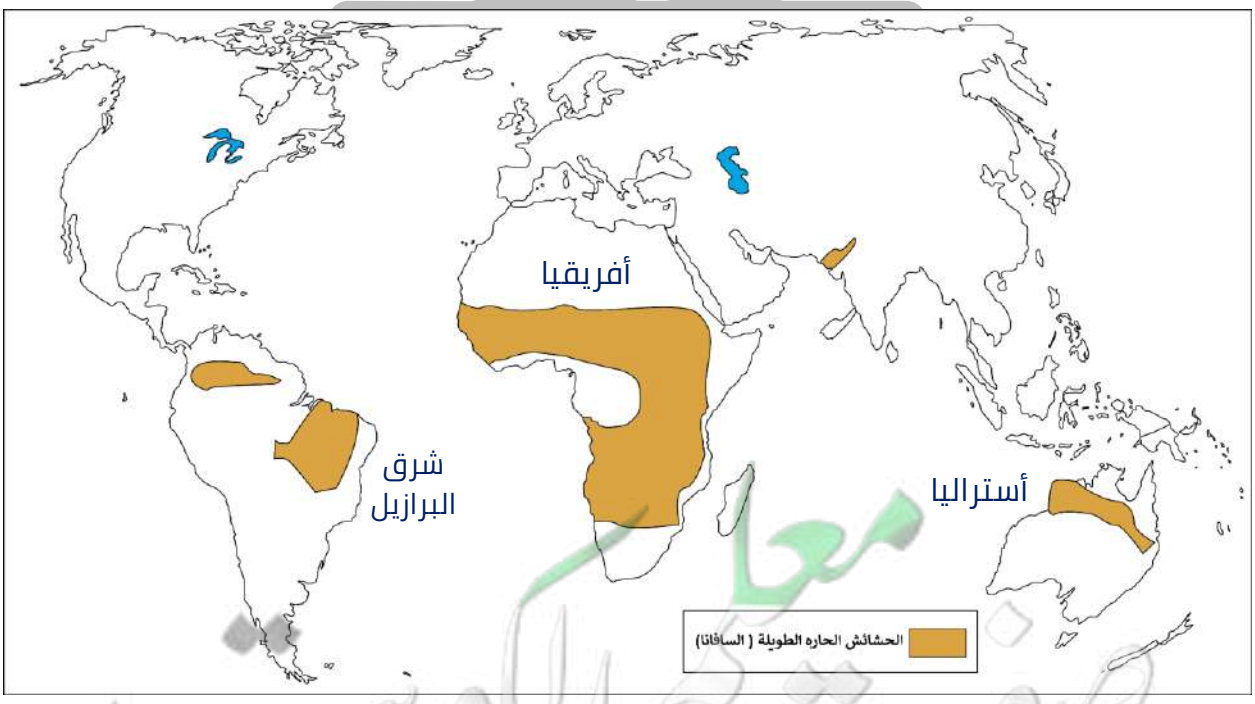

معلمة الكويت
Kuwaitteacher.Com

©جميع الحقوق محفوظة

س فرق بين الظروف المناخية في إقليم السافانا :

ممكن أن يظهر السؤال في صيغ اخرى: اختياري أكمل

درجة الحرارة	الأمطار
▪ مرتفعة طول العام ▪ تزداد الحرارة صيفاً إلى 32°م ▪ لا يقل المتوسط الشهري للحرارة عن 20°م	▪ تسقط صيفاً ▪ فصل الجفاف الشتوي يصل 5 شهور ▪ كمية المطر السنوي من 20- 40 بوصة

اختر الإجابة الصحيحة:

س فصل سقوط الأمطار في إقليم الحشائش الطويلة (السافانا) :

○ الربيع ○ **الصيف** ○ الشتاء ○ الخريف

س - كمية المطر السنوي في إقليم حشائش السافانا:

○ أقل من 10 بوصة ○ **20- 40 بوصة**
○ 40– 50 بوصة ○ 40 – 80 بوصة

س عدد - مميزات الحياة النباتية في إقليم الحشائش الحارة الطويلة (السافانا)

- تتخلل السافانا الرطبة بعض الأشجار التي تتحمل الجفاف الشتوي
- أهم أشجار السافانا الرطبة (الهشاب – الطلح -الحرار – السلم - الصمغ)

س ارسم خريطة ذهنية لأنواع السافانا

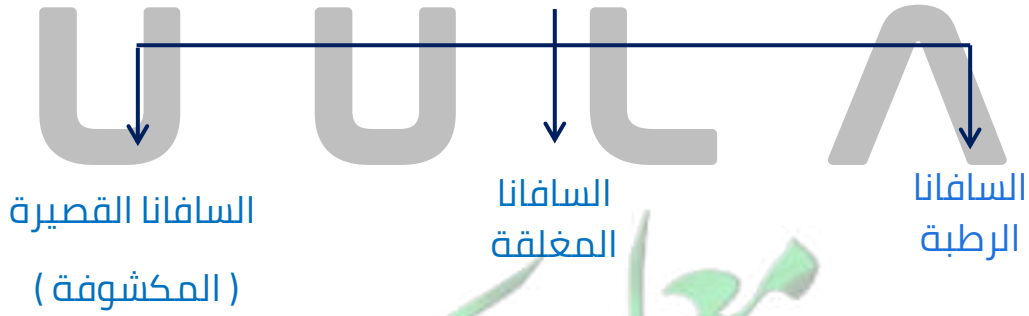

معلمي الكويت
صفوة
KuwaitTeacher.Com

© جميع الحقوق محفوظة

أكتب المفهوم العلمي:

ممكن أن يظهر السؤال في صيغ اخرى: عرف | فسر | فرق | اختياري

س الحشائش المدارية الطويلة ويتراوح طولها من 2 – 4 متر تسمى **السافانا الرطبة**

س الحشائش الطويلة الكثيفة التي تعوق الرؤية ولا تظهر الطرقات تسمى **السافانا المغلقة**

س الحشائش المدارية الخشنة التي يتراوح طولها إلى 1 متر تسمى **السافانا القصيرة (المكشوفة)**

س أشجار معمرة السعة التخزينية في تجويفها 40 – 100 برميل للشجرة الواحدة تسمى **التبلدي**

أكمل العبارات التالية :

س الصورة المقابلة تمثل أشجار معمرة يزيد عمر الواحدة منها عن 200 عام تسمى **التبلدي**



س فصل سقوط المطر في كردفان بالسودان يسمى **الخريف**

س القبائل السودانية ذات الأصول العربية والمعروفة بتربية الإبل والضأن بكردفان تسمى **دار حمر**

س علل - أهمية أشجار التبلدي للقبائل السودانية

- تخزين مياه الأمطار
- شجرة ضخمة طولاً وحجماً
- من الأشجار المعمرة
- السعة التخزينية من 40 – 100 برميل للشجرة

س قيام قبائل دار حمر بتخزين مياه الأمطار في جذوع أشجار التبلدي

لأنها لا تمتلك مصادر كافية لمياه الشرب

س اختياري : الدولة التي تنمو فيها أشجار التبلدي :

○ الأرجنتين ○ **السودان**
○ تشاد ○ مدغشقر

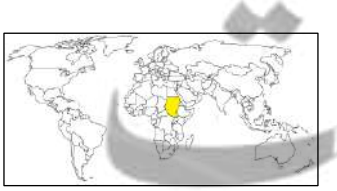

UULA
معلم الكويت
Kuwaitteacher.Com

س اكتب عن الحياة الحيوانية في إقليم حشائش السافانا

ممكن أن يظهر السؤال في صيغ اخرى: عرف فرق

- آكلة العشب الظفرية (ذات الحوافر) : البقر الوحشي (الوعل) – الحمار الوحشي – الخرتيت – الزراف – الغزال
- آكلة اللحوم المفترسة: الأسود – النمور الفهود – الضباع – الثعالب
- الحيوانات بطيئة الحركة : الفيل
- القوارض: الجرذان – الأرانب
- الحشرات: الجراد – النمل
- الطيور: المتوسطة (النعام) الجارحة (النسور)

س أكتب مدلول الصور التالية :


الغزال


الجاموس


الحمار الوحشي


الزرافة


الفيل

أكمل العبارات التالية :

س أي من الأحياء التالية لا يعيش في إقليم حشائش السافانا :


○ أ


○ ب


○ ج


○ **د**

س الحمار الوحشي من الحيوانات آكلة العشب ويعيش في إقليم:

○ الغابات المعتدلة الباردة
○ **حشائش السافانا**
○ حشائش الإستبس
○ الصحاري الجافة

UULA
صفوة معلمي الكويت
KuwaitTeacher.Com

س " حاجة الفيلة للسافانا توازي حاجة السافانا لها " دلل على صحة العبارة

- الفيلة تعري الشجر من الأوراق وتحفز نمو الأوراق من جديد
- أما البذور التي تبتلعها الفيلة فتلين في أحشائها ثم تخرج إلى الأرض مع الروث وتشكل مخصباً للنباتات الجديدة

تـــدرب و تـفـوق
اختبارات الكترونية

معلمي الكويت
صفوة
KuwaitTeacher.Com

© جميع الحقوق محفوظة

الحشائش المعتدلة القصيرة " الإستبس "

س التوزيع الجغرافي لحشائش الإستبس :

قارة آسيا			قارة أوروبا
أواسط آسيا – سهول سيبيريا – شرق أوكرانيا - شمال البحر الأسود حول بحر آرال وبحر قزوين			شرق أوروبا
قارة أمريكا الشمالية	**قارة أمريكا الجنوبية**	**قارة أستراليا**	**قارة أفريقيا**
البراري في السهول الوسطى بالولايات المتحدة	سهل البمباس في الأرجنتين	الجنوب الشرقي	الجنوب الشرقي

س اختياري : موقع الحشائش المعتدلة القصيرة (الإستبس) في أمريكا الشمالية في السهول :

○ الشمالية ○ الجنوبية ○ الشرقية ○ **الوسطى**

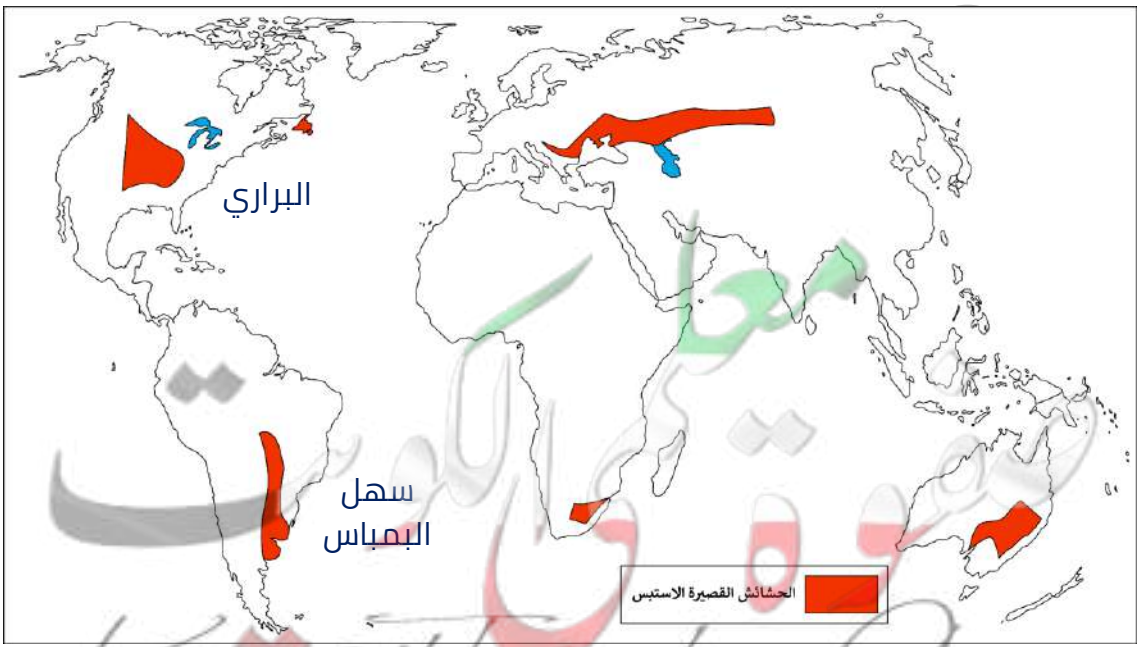

KuwaitTeacher.Com

© جميع الحقوق محفوظة

س فرق بين الظروف الظروف المناخية في إقليم السافانا:

ممكن أن يظهر السؤال في صيغ اخرى: اختياري أكمل

درجة الحرارة	الأمطار
▪ ترتفع صيفاً وتتراوح بين 19- 21°م ▪ تنخفض شتاءً إلى ما دون الصفر المئوي	▪ كمية المطر السنوي بين 15 – 30 بوصة

س أكمل: قسم علماء النبات أراضي الحشائش إلى السهب و **البراري**

عرف المفاهيم التالية :

ممكن أن يظهر السؤال في صيغ اخرى: أكمل فرق اختياري

السهب

هي الأراضي التي تنمو فيها الحشائش القصيرة

البراري

هي الأراضي التي تنمو فيها حشائش أكثر ارتفاعاً

س عدد مميزات الحياة النباتية في إقليم الإستبس

ممكن أن يظهر السؤال في صيغة اخرى: أكمل

- المناطق الممطرة يزداد طول الحشائش ويصل ارتفاعها إلى 2 متر
- المناطق قليلة المطر يتراوح طول الحشائش إلى 1متر

س ارسم خريطة ذهنية لأقسام إقليم الإستبس

ممكن أن يظهر السؤال في صيغة اخرى: عدد

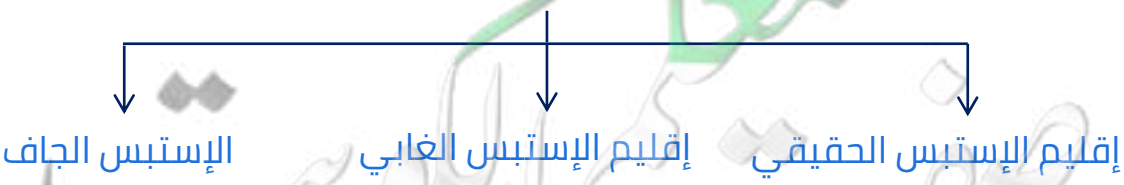

UULA.COM
© جميع الحقوق محفوظة
KuwaitTeacher.Com

س قارن بين كل من :

ممكن أن يظهر السؤال في صيغ اخرى: اختياري | أكمل | عدد

المقارنة	الإستبس الحقيقي	الإستبس الجاف
المناطق التي تمثله	أوكرانيا - حول القسم الشمالي من البحر الأسود	جنوب إقليم الإستبس الحقيقي
اسم التربة	التشرنوذم	الكستنائية
مميزات التربة	▪ لونها الأسود ▪ خصوبتها العالية	▪ ملحية ▪ قليلة الخصوبة
الأهمية الاقتصادية	أنسب الأراضي لرعي الخيول	الرعي

س علل - يُستغل إقليم الإستبس الجاف في عمليات الرعي

- تربة الإقليم تنتمي إلى نوع التربة الكستنائية
- التربة ملحية قليلة الخصوبة

أكمل العبارات التالية

ممكن أن يظهر السؤال في صيغة اخرى: اختياري

س نوع تربة إقليم الإستبس الجاف تسمى _ **الكستنائية** _

س نوع تربة إقليم الإستبس الحقيقي تسمى _ **التشرنوذم** _

س تربة التشرنوذم تتشبع بالرطوبة عند انصهار الثلج في فصل _ **الربيع** _

س يطلق على إقليم الإستبس في أوكرانيا وحول القسم الشمالي من البحر الأسود اسم _ **الإستبس الحقيقي** _

س القبائل التي تقوم برعي الخيول في أراضي الإستبس الحقيقي تسمى **المغول**

س أحد أقسام الإستبس يقع شمال إقليم الإستبس الحقيقي يسمى إقليم _ **الإستبس الغابي** _

UULA
معلم الكويت
KuwaitTeacher.Com

© جميع الحقوق محفوظة

س عدد مميزات إقليم الإستبس

- الحشائش القصيرة
- الشجيرات الشوكية القصيرة (أرتميزيا – الطرفاء)
- إزالة مساحات واسعة من حشائش الإستبس في أوروبا وحلت محلها زراعة الحبوب

س علل - إزالة مساحات واسعة من حشائش الإستبس في أوروبا

ليحل محلها زراعة الحبوب و بنجر السكر والطباق

س اكتب عن الحياة الحيوانية في إقليم حشائش الإستبس

- الحيوانات الثديية :
- الغزال – الوعل – الأيل – العنز البري – الحصان - البيسون (نوع من الثيران)
- الحيوانات المفترسة : الذئاب – الثعالب - النمور
- القوارض الحافرة : السنجاب البري – اليربوع الآسيوي - الأرانب البرية
- الطيور: السمان – الحجل – البومة – الصقر – النسر
- الحشرات : البعوض

س أكمل :الحيوان المهدد بالانقراض في إقليم الحشائش المعتدلة القصيرة يسمى الوعل

س اكتب مدلول الصور التالية :


الوعل


نمر فلوريدا


البيسون


العنز البري

عرف

شجرة المسافر

شجرة تخزن نصف لتر من الماء في قاعدة أعناق أوراقها الطويلة

صفوة معلمي الكويت
KuwaitTeacher.Com

أكمل العبارات التالية



ممكن أن يظهر السؤال في صيغة اخرى: اختياري

س الصورة المقابلة تمثل شجرة _ **المسافر** _

س الدولة التي تنمو فيها شجرة المسافر تسمى _ **مدغشقر** _

س علل - تسمية شجرة المسافر بهذا الاسم

لأنها كانت تمد المسافرين بماء صالح للشرب

أكمل العبارات التالية



ممكن أن يظهر السؤال في صيغة اخرى: اختياري

س الصورة المقابلة تمثل أكثر الأشجار تحملاً للظروف القاسية تسمى _ **الأومبو الأرجنتينية** _

س الدولة التي تنمو فيها شجرة الأومبو تسمى _ **الأرجنتين** _

س علل- شجرة الأومبو من أكثر الأشجار تحملا للظروف المناخية القاسية

ممكن أن يظهر السؤال في صيغة اخرى: عدد مميزات

- مقاومة للجفاف
- تقاوم العواصف الشديدة
- أخشابها رطبة تمنع احتراقها
- تقاوم الإصابة بالآفات الحشرية
- تتحمل درجات الحرارة العالية
- أسفنجية تعوق قطعها

س اختياري : أكثر الأشجار تحملاً للظروف القاسية ومقاومة الجفاف والإصابة بالآفات الحشرية :

○ السافانا ○ المسافر ○ التبلدي ○ **الأومبو**

UULA.COM
© جميع الحقوق محفوظة
معلمي الكويت
صفوة
KuwaitTeacher.Com

لاحظ الخريطة التالية ثم نفذ المطلوب منك :

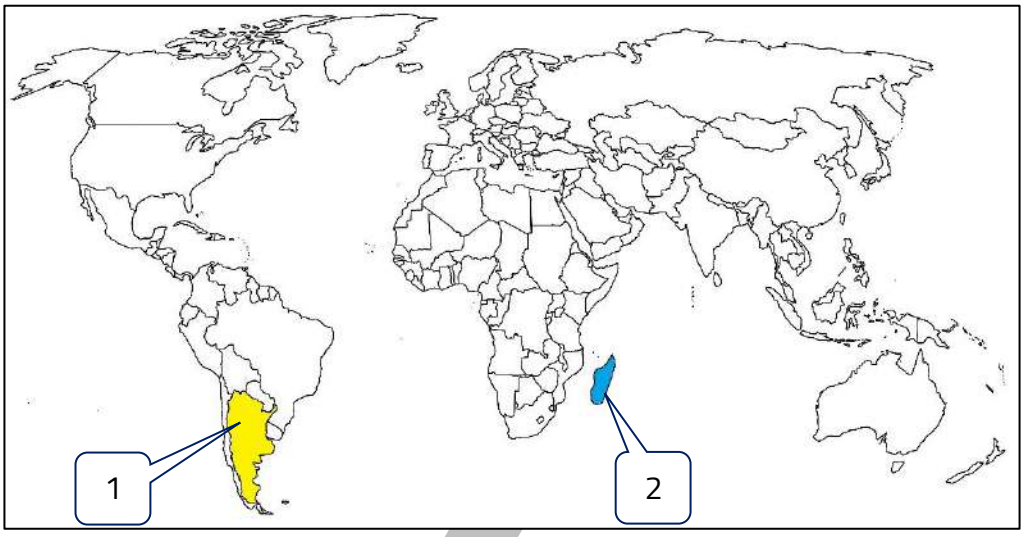

س الدولة التي تنمو فيها شجرة المسافر يمثلها الرقم **1**

س الدولة التي تنمو فيها شجر الأومبو يمثلها الرقم **2**

س قارن بين كل مما يلي :

أوجه المقارنة	الحشائش الحارة الطويلة " السافانا "	الحشائش المعتدلة القصيرة " الاستبس "
درجة الحرارة	▪ مرتفعة طول العام ▪ تزداد الحرارة صيفاً إلى 32°م ▪ لا يقل المتوسط الشهري للحرارة عن 20°م	▪ ترتفع صيفاً وتتراوح بين 19- 21°م ▪ تنخفض شتاءً إلى ما دون الصفر المئوي
الأمطار	▪ تسقط صيفاً فصل الجفاف الشتوي يصل 5 شهور ▪ كمية المطر السنوي ▪ من 20- 40 بوصة	كمية المطر السنوي بين 15 – 30 بوصة

تـــدرب و تـفـوق
اختبارات الكترونية

KuwaitTeacher.Com

© جميع الحقوق محفوظة

الصحاري الجافة
" الحارة – المعتدلة "

عرف

صحراء

تعبير يدل على الفقر في الحياة النباتية والحيوانية نتيجة الظروف البيئية الطبيعية

س أكمل جدول التوزيع الجغرافي للصحاري الحارة - المعتدلة

القارة	آسيا	أفريقيا
الصحاري الجافة الحارة	▪ شبه الجزيرة العربية ▪ صحراء ثار شمال غرب الهند	▪ الصحراء الكبرى ▪ صحراء كلهاري ▪ صحراء ناميبيا
الصحاري الجافة المعتدلة	▪ أواسط آسيا - إقليم بحر آرال - شرق بحر قزوين	----------

القارة	أمريكا الشمالية	أمريكا الجنوبية	أستراليا
الصحاري الجافة الحارة	صحراء جنوب غرب الولايات المتحدة	▪ صحراء أتكاما تشيلي	صحراء غرب أستراليا
الصحاري الجافة المعتدلة	الحوض العظيم غرب الولايات المتحدة	▪ صحراء باتجونيا (الأرجنتين – تشيلي)	----------

صفوة الكويت
KuwaitTeacher.Com

© جميع الحقوق محفوظة

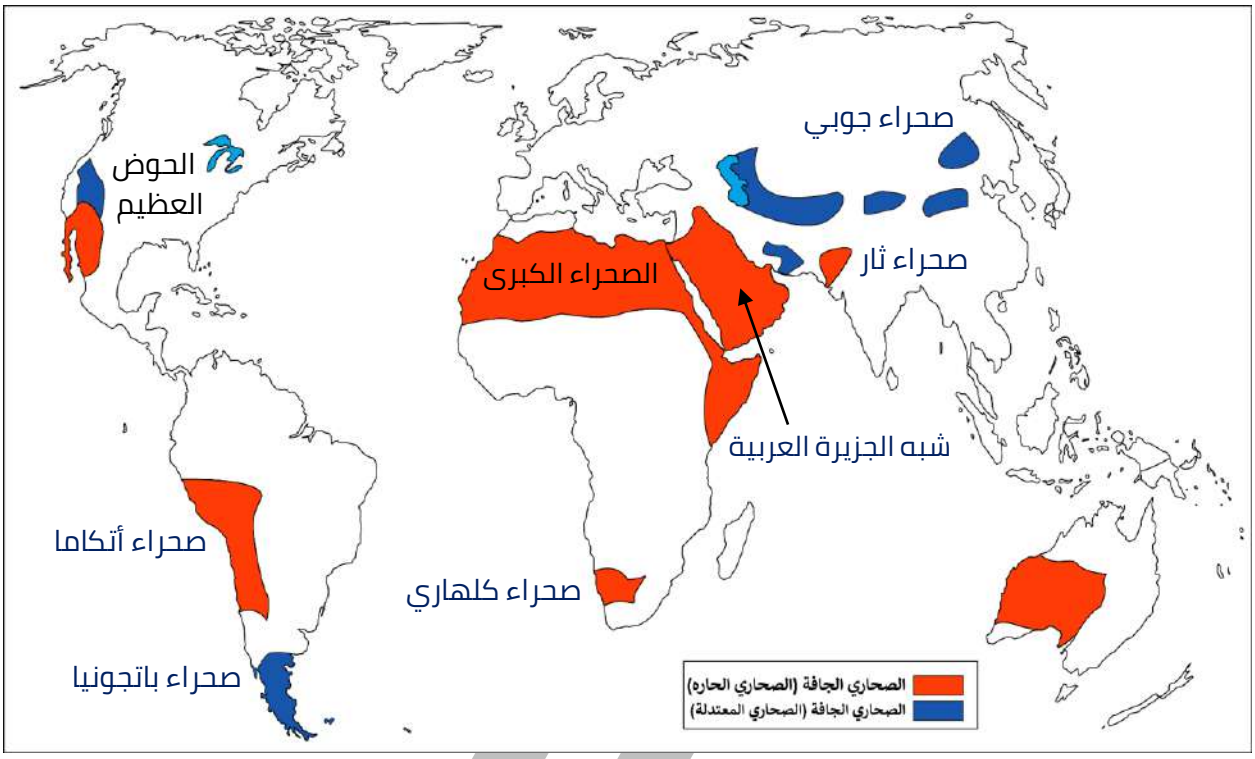

س أذكر أهم صحاري قارة أفريقيا

- الصحراء الكبرى
- صحراء كلهاري
- صحراء ناميبيا

اختر الاجابة الصحيحة

ممكن أن يظهر السؤال في صيغة اخرى: أكمل

س تقع صحراء " ثار " في شمال غرب :

○ تشيلي ○ **الهند** ○ الصومال ○ استراليا

س الدولة التي تقع فيها صحراء أتكاما :

○ الأرجنتين ○ الهند ○ **شيلي** ○ الولايات المتحدة

س النسبة التي تشغلها الصحاري الحارة من المساحة الكلية لليابس :

○ **الخمس** ○ الربع ○ الثلث ○ النصف

UULA
معلمي الكويت
KuwaitTeacher.Com

© جميع الحقوق محفوظة

س نسبة الصحاري الحارة من المساحة الكلية لليابس يمثلها الجزء المظلل في الدائرة البيانية

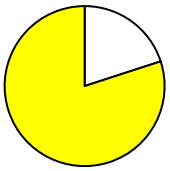
د ○

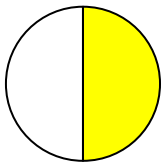
ج ○

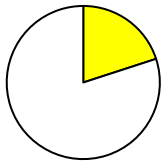
ب ○

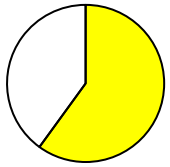
أ ○

س أكبر صحاري العالم تمتد شمال قارة أفريقيا تسمى :

○ صحراء ناميبيا
○ صحراء كلهاري
○ **الصحراء الكبرى**
○ صحراء جوبي

س تبلغ مساحة الصحراء الكبرى حوالي:

○ **8 مليون كم2**
○ 9 مليون كم2
○ 10 مليون كم2
○ 11 مليون كم2

س تمتد الصحراء الكبرى من الشمال للجنوب بطول :

○ 3000 كم
○ 1500 كم
○ **2000 كم**
○ 1000كم

س تمتد الصحراء الكبرى من الشرق إلى الغرب بطول :

○ 1500 كم
○ 2000 كم
○ 3000كم
○ **5000 كم**

س القارة التي تمد شمالها الصحراء الكبرى :

○ أستراليا
○ **أفريقيا**
○ أمريكا الجنوبية
○ آسيا

عرف

الصحراء الكبرى



أكبر صحاري العالم تمتد شمال قارة أفريقيا ومساحتها أكثر من 8 مليون كم مربع

UULA
صوت الكويت
KuwaitTeacher.Com

©جميع الحقوق محفوظة

س فرق بين الظروف المناخية في إقليم الصحاري الحارة -الجافة -المعتدلة

درجة الحرارة	الأمطار
▪ ترتفع صيفاً إلى 50°م وقد تصل إلى 58°م ▪ تنخفض شتاءً إلى 10°م ▪ المدى الحراري السنوي كبير جداً ▪ معدلات التبخر تفوق كمية المطر الساقط	▪ نادراً ما تزيد كمية المطر السنوي عن 10 بوصات

س عدد - المميزات النباتية في إقليم الصحاري الحارة

- تتحمل الجفاف
- زيادة سمك اللحاء
- جذورها تمتد عرضياً في التربة بحثاً عن الرطوبة
- قصر القامة
- معظمها حولية

س أنواع النباتات في إقليم الصحاري الحارة

- خازنة للمياه : النخيل - شجيرات الطلح
- خازنة للعصارة: الصبار – التين الشوكي

س اكتب عن الحياة الحيوانية في إقليم الصحاري (الجافة – الحارة – المعتدلة)

- حيوانات ثديية كبيرة الحجم: الجمل
- الحيوانات الثديية القارضة : الفأر الصحراوي " اليربوع " – الأرنب الصحراوي
- حيوانات تتسم السرعة / الخفة / القدرة على القفز لمسافات طويلة
- الغزال – الظبي - الوعل
- الحيوانات آكلة اللحوم : الثعالب - الذئاب الصغيرة "القيوط "
- حيوانات استطاع الإنسان استئناسها وتربيتها : الإبل – الأغنام – الماعز - الخيول
- الطيور
- الزواحف
- الحشرات

UULA
Kuwait Teacher.Com

©جميع الحقوق محفوظة

س اختياري : حيوان ينتمي للثدييات كبيرة الحجم يعيش في الصحاري الجافة - الحارة :

○ الجاموس ○ **الجمل** ○ الخيل ○ الزراف

س عدد سمات الغزال - الظبي -الوعل

- سرعة الحركة
- الخفة
- القدرة على القفز لمسافات طويلة

عرف

القيوط

حيوان يعيش في السهول المفتوحة لا يحتاج إلى الشرب فالماء الذي في الطعام يكفيه

أكمل العبارات التالية



س الصورة المقابلة تمثل نوع من الذئاب يسمى _ **القيوط** _



س صحراء ينمو فيها نبات يشبه الشمعدان العملاق يشكل مأوى لحيوانات كثيرة ويخزن كميات كبيرة من المياه في جذوعة تسمى _ **الصحراء الأمريكية**

س علل - أهمية النبات الموضح في الصورة المقابلة

- يشكل مأوى لحيوانات كثيرة
- يخزن كميات كبيرة من المياه في جذوعه

س اكتب مدلول الصور التالية :



الجمل



الزواحف

تـــدرب و تـفـوق

اختبارات الكترونية

UULA
صفوف الكويت
KuwaitTeacher.Com

إقليم الصحاري الباردة القطبية (الصحاري البيضاء) التندرا

عرف

تندرا

منطقة باردة خالية من الأشجار تحيط بالقطب الشمالي والأرض متجمدة معظم العام

س أكمل جدول التوزيع الجغرافي لإقليم الصحاري الباردة القطبية

ممكن أن يظهر السؤال في صيغة اخرى: حدد على الخريطة

قارة آسيا	قارة أوروبا	قارة أمريكا الشمالية
▪ شمال آسيا	▪ آيسلندا ▪ جرينلند ▪ شمال أوروبا	▪ شمال كندا ▪ شمال آلاسكا

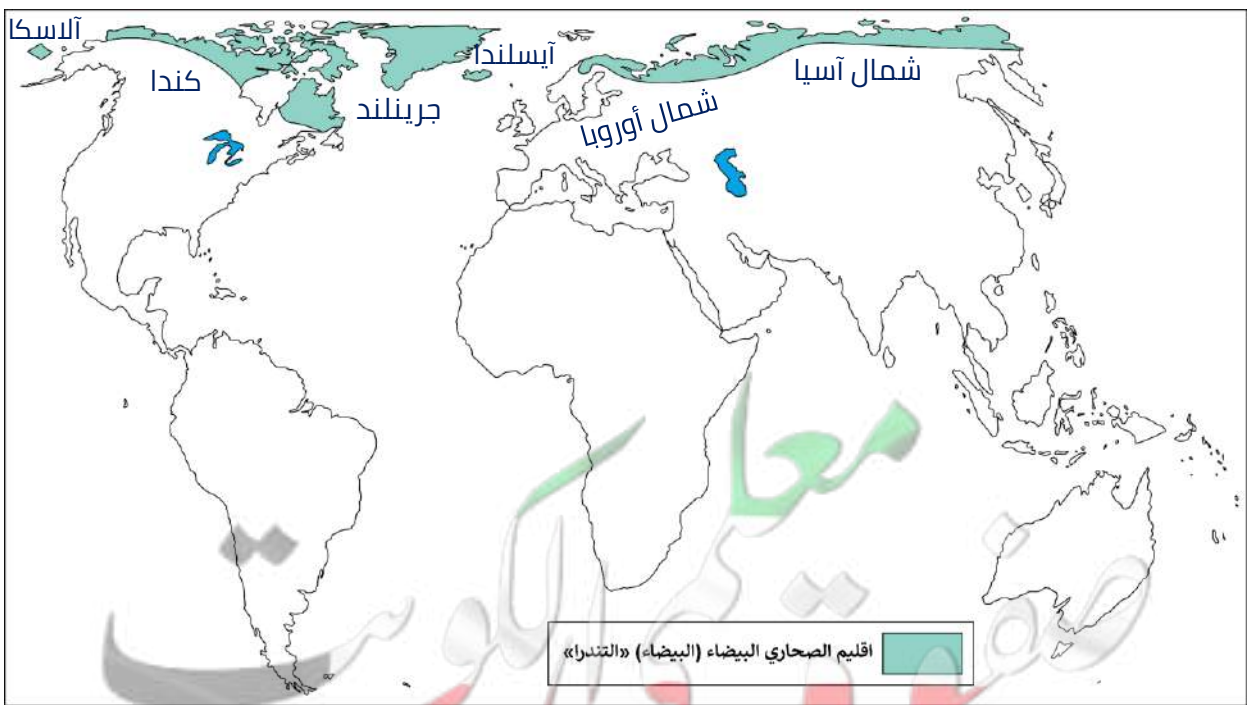

معلمة الكويت
KuwaitTeacher.Com

© جميع الحقوق محفوظة

س فرق بين الظروف المناخية لإقليم التندرا

درجة الحرارة	الأمطار
▪ تنخفض عن الصفر المئوي معظم فترات السنة ▪ متوسط الحرارة شتاءً أقل من 7 °م ▪ نادر ما ترتفع و الصيف مدته 3 أشهر	▪ التساقط على شكل ثلج

أكمل العبارات التالية

ممكن أن يظهر السؤال في صيغة اخرى: عرف

س كائنات حية مكونة من الطحالب والفطريات تسمى _ **الأشنة** _

س كائنات حية مكونة من اندماج ولقاء الطحلب والفطرة تسمى _ **الأشنة** _



س الصورة المقابلة تمثل كائنات حية تسمى **الأشنة**

اختر الاجابة الصحيحة

س " الطحالب – الأشنة " تزدهر في فصل الصيف عقب ذوبان الجليد في إقليم :

○ الصحاري الباردة القطبية
○ الصحاري البيضاء
○ التندرا
○ **كل ما سبق**

س العشبيات الباردة في إقليم الصحاري البيضاء:

○ الهشاب والطلح
○ **الكراوبري والراسبري**
○ البامبو والماكي
○ الطحالب والأشنة

س علل - للنباتات الحولية مميزات عديدة

ممكن أن يظهر السؤال في صيغة اخرى: (عدد المميزات النباتية في إقليم التندرا)

- قصر سيقانها
- ضحالة الجذور
- قدرتها على تحمل البرودة الشديدة
- صغر حجم أوراقها الملتوية ذات الطبقة الوبرية

UULA
KuwaitTeacher.Com

س اكتب عن الحياة الحيوانية في إقليم الصحاري الباردة القطبية ؟

ممكن أن يظهر السؤال في صيغ اخرى: اختياري

- الحيوانات الثديية : الرنة - ثور المسك ذو الفراء
- الحيوانات آكلة اللحوم : الدب القطبي - الذئب القطبي - النمر السيبيري - الثعلب القطبي
- الحيوانات القارضة : الأرنب القطبي – اللاموس
- الحيوانات البحرية : البطريق - عجول البحر - كلاب البحر - الحيتان
- الطيور : البط القطبي – بومة الثلج – طائر الترجمان

س اكتب مدلول الصور التالية :


الثعلب القطبي


بومة الثلج


النمر السيبيري


الفقمة

س أكمل - حيوان يتعرض للإبادة في إقليم الصحاري البيضاء يسمى
ثور المسك ذو الفراء

س اختياري : ثور المسك ذو الفراء والذي يتعرض للإبادة نتيجة للصيد المفرط يعيش في إقليم اسمه

○ الحشائش
○ الصحاري القطبية
○ الصحاري المعتدلة
○ **الصحاري القطبية**

س علل - تعرض ثور المسك ذو الفراء للإبادة
نتيجة للصيد المفرط

س عدد مميزات الحيوانات آكلة اللحوم في إقليم التندرا

- الفراء السميك
- فترة البيات الشتوي

UULA
معلمي الكويت
صفوة
KuwaitTeacher.Com

عرف

قبائل اللاب

ممكن أن يظهر السؤال في صيغة اخرى: أكمل

قبائل مرتحلة تسكن في شمال النرويج والسويد وفنلندا



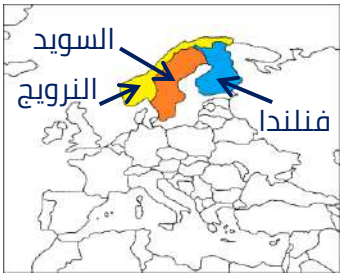

س علل - أهمية حيوان الرنة لقبائل اللاب

- مصدر الألبان واللحوم والجلود
- استخدامه في التنقل
- جر المزالج فوق الجليد

س قارن بين كل من :

المقارنة	جماعات المغول	قبائل اللاب
التوزيع الجغرافي	أوكرانيا وشمال البحر الأسود	شمال النرويج والسويد وفنلندا
النشاط الاقتصادي	رعي الخيول	▪ صيد الأسماك ▪ تربية حيوان الرنة

س ماذا يحدث إذا-رتفعت درجة حرارة المناطق القطبية أكثر مما عليه الآن بعشر درجات مئوية

ينصهر الجليد ويرتفع منسوب مياه البحار والمحيطات

صفوة معلمي الكويت
KuwaitTeacher.Com

© جميع الحقوق محفوظة

س وازن بين كل من :

المميزات النباتية في إقليم الصحاري الحارة	المميزات النباتية في إقليم التندرا
▪ تتحمل الجفاف ▪ قصر القامة ▪ زيادة سمك اللحاء ▪ معظمها حولية	▪ قصر سيقانها ▪ ضحالة الجذور ▪ قدرتها على تحمل البرودة الشديدة ▪ صغر حجم أوراقها الملتوية ذات الطبقة الوبرية

س اكتب رقم الصورة في الدائرة المناسبة على الخريطة


1


2


3


4

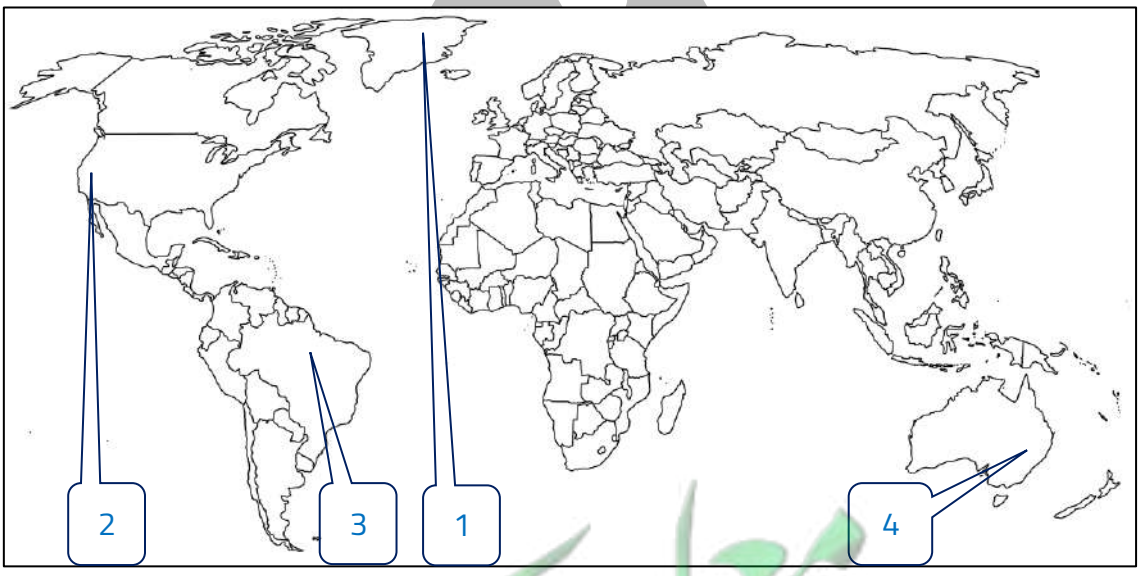

معلمي الكويت
صفوة
KuwaitTeacher.Com

© جميع الحقوق محفوظة

ادرس الجدول الذي أمامك ثم أجب عن الأسئلة التالية

الأقاليم النباتية	المطر السنوي
الغابات الاستوائية	80 بوصة
الصحاري الحارة	10 بوصة
حشائش الإستبس	20 بوصة
حشائش السافانا	30بوصة

س اكتب حقيقة جغرافية من الجدول المقابل

- كلما زادت كمية الامطار زادت كثافة الغطاء النباتي
- أكبر كمية للمطر السنوي في الغابات الاستوائية

س حول الجدول التالي إلى أعمدة بيانية (منحنى بياني)

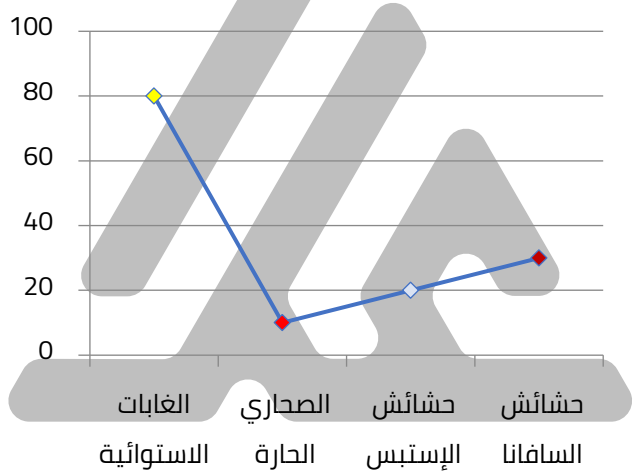

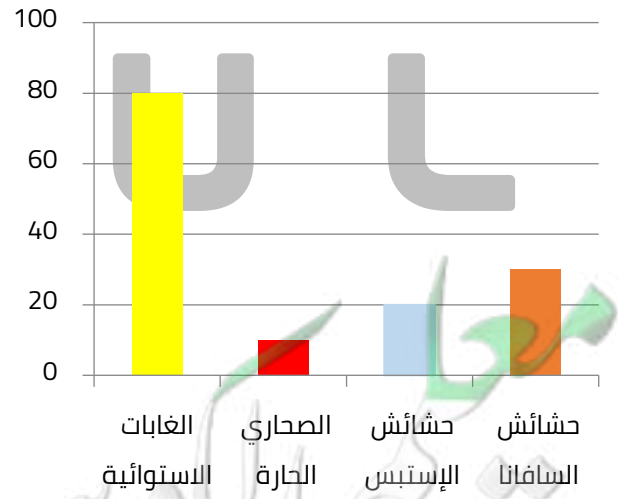

تـــدرب و تـفـوق
اختبارات الكترونية

© جميع الحقوق محفوظة

مظاهر تدمير الغلاف الحيوي في العالم

س عدد - مظاهر تدمير الغلاف الحيوي في العالم

- إزالة الغابات
- استخدام المبيدات الحشرية
- نفايات المصانع والمجاري الصحية والنفط
- الصيد المفرط
- الرعي الجائر
- التغيرات المناخية
- ثقب الأوزون
- المفاعلات والنفايات النووية

س قام الإنسان بعمليات تدميرية في نطاق الغابات الاستوائية وشبة الاستوائية (عددها)

- قطعها وإزالتها
- حرقها

س ما النتائج المترتبة - قيام الانسان بعمليات تدميرية في نطاق الغابات الاستوائية وشبه الاستوائية

ممكن أن يظهر السؤال في صيغة اخرى:
ما النتائج المترتبة (تدمير الغابات الاستوائية وشبه الاستوائية بنسبة 10% من قبل الإنسان)

- انكماش مساحتها
- أصبحت الكائنات الحية النباتية والحيوانية فيها مهددة بالانقراض
- تدمير 50 % من الكائنات الحية (نباتية وحيوانية) فيها
- التأثير في الظروف المناخية
- اختلال التوازن البيئي

س أكمل: الدولة التي تم إزالة مساحات واسعة من الغابات الموسمية فيها بهدف الزراعة تسمى **البرازيل**

ممكن أن يظهر السؤال في صيغ اخرى: اختياري | حدد على الخريطة



KuwaitTeacher.Com

© جميع الحقوق محفوظة

س علل - إزالة مساحات واسعة من الغابات الموسمية في جنوب شرق آسيا والبرازيل

- الكثافة السكانية العالية
- ليحل محلها الزراعة




س أهمية الغطاء النباتي

- تعديل كمية الإشعاع الشمسي الساقط على سطح الأرض
- له دور في رطوبة الجو عن طريق عملية النتح
- له دور في التركيب الكيميائي للغازات الجوية

س الغطاء النباتي له دور في التركيب الكيميائي للغازات الجوية

- امتصاص ثاني أكسيد الكربون
- إخراج الأكسجين

عرف

النتح

تبخر الماء عن طريق أوراق النباتات

أهميته

يساعد على صعود العصارة من الأرض خلال الجذور

أكمل العبارات التالية

ممكن أن يظهر السؤال في صيغة اخرى: اختياري

س الشجرة الواحدة تنتج في اليوم العادي من الماء ما يقرب _ **500 لتر**

س العلاقة بين درجة الحرارة والمنتج من عملية النتح _ **طردية**

س علل - العلاقة بين درجة الحرارة والمنتج من عملية النتح طردية

إذا ارتفعت درجة حرارة الجو زاد المنتج من عملية الن

UULA.COM
© جميع الحقوق محفوظة
KuwaitTeacher.Com

س أكمل-أول أفريقية تسلمت جائزة نوبل للسلام تسمى **وانجاري ماثاي**





س أكمل الخريطة الذهنية التالية :



الاسم: وانجاري ماثاي

الجنسية : كينيا

الوظيفة: داعية حماية البيئة

الإنجاز عام 2004: حصلت على جائزة نوبل للسلام

س علل- حصول وانجاري ماثاي على جائزة نوبل للسلام (الجائزة الرفيعة)

- تقديراً لدورها في مكافحة إزالة الغابات

س عدد أهم انجازات داعية حماية البيئة وانجاري ماثاي في مكافحة إزالة الغابات

- قامت بتأسيس حركة الحزام الأخضر عام 1977 م
- القيام بزراعة 30 مليون شجرة
- نجحت في خلق فرص للعمل

اختر الإجابة الصحيحة:

س الداعية لحماية البيئة الكينية والتي أسست حركة الحزام الأخضر :

○ لاليتا رامداس ○ **وانجاري ماثاي**
○ كومي نايدو ○ غرين بيس

س الدولة التي تحمل جنسيتها داعية حماية البيئة ونجاري ماثاي :

○ السودان ○ **كينيا**
○ تشاد ○ نيجيريا

س وانجاري ماثاي أول أفريقية تحصل على جائزة نوبل في :

○ الكمياء ○ الطب
○ البيئة ○ **السلام**

UULA
معلمة الكويت
KuwaitTeacher.Com

© جميع الحقوق محفوظة

س الحركة التي أسستها وانجاري ماثاي عام 1977م :

○ السلام الأخضر ○ **الحزام الأخضر**
○ أصدقاء البيئة ○ أصدقاء الأرض

س عدد الأشجار التي قامت بزراعتها حركة الحزام الأخضر :

○ 10 مليون ○ 20 مليون
○ **30 مليون** ○ 40 مليون

أكمل العبارات التالية :

س القرن الميلادي الذي في منتصفه بدأ المزارعون في استعمال الكيميائيات القاتلة _ **العشرين** _

س الصورة المقابلة تمثل مظهراً لتدمير الغلاف الحيوي في العالم يسمى _ **استخدام المبيدات الحشرية** _



س علل - استعمال المزارعون كميات متزايدة من الكيميائيات القاتلة

للقضاء على الأعشاب الضارة والحشرات

س ما النتيجة المترتبة - على استعمال المزارعين كميات متزايدة من الكيميائيات القاتلة

كان لها أثر مدمر على الحياة البرية

س دلل " استعمال المزارعين الكيميائيات القاتلة كان لها أثر مدمر على الحياة البرية "

أدى استعمال مبيد الحشرات DDT في الولايات المتحدة الأمريكية إلى قتل عدد كبير جداً من الصقور الجوالة

س علل - حظر الولايات المتحدة الأمريكية استعمال مبيد الحشرات DDT

ممكن أن يظهر السؤال في صيغ اخرى: أكمل | اختياري | حدد على الخريطة

لأن استعماله أدى لقتل العديد من الصقور الجوالة

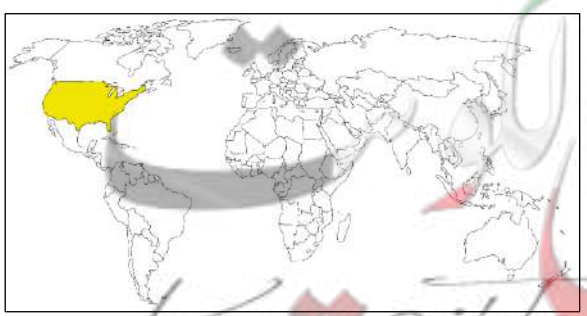

UULA.COM
جميع الحقوق محفوظة
KuwaitTeacher.Com

س ما النتائج المترتبة على حظر الولايات المتحدة استعمال مبيد الحشرات DDT

حذف الصقور الجوالة من لائحة الحيوانات المعرضة للانقراض

اختر الإجابة الصحيحة:

س مبيد الحشرات الذي أدى لقتل العديد من الصقور الجوالة في الولايات المتحدة الأمريكية

○ T ID ○ **DDT** ○ TTD ○ BBC

س الولايات المتحدة الأمريكية حظرت استعمال مبيد الحشرات DDTلتأثيره السلبي على :

○ اللاموس ○ **الصقور الجوالة** ○ القيوط ○ نمر فلوريدا

س " البحار تحتضر من نفايات المصانع والمجاري الصحية والنفط " دلل

- بحر قزوين يتعرض للتلوث
- تعرض 23 نوعاً من الكائنات الحية فيه لخطر الانقراض
- الدول المجاورة تضخ سنوياً 12 مليار متر مكعب من مياه المجاري الصحية ونفايات المصانع

س أكمل : أكبر بحار العالم المغلقة يسمى **بحر قزوين**

ممكن أن يظهر السؤال في صيغة اخرى: (اختياري – حدد على الخريطة – اكتب مدلول الصورة)





س علل - يتعرض بحر قزوين للتلوث

ممكن أن يظهر السؤال في صيغ اخرى: (فسر جغرافياً تعرض 23 نوعاً من الكائنات الحية في بحر قزوين لخطر الانقراض)

نتيجة ضخ الدول المجاورة لبحر قزوين سنوياً 12 مليار متر مكعب من مياه المجاري الصحية ونفايات المصانع

KuwaitTeacher.Com

© جميع الحقوق محفوظة

س ما النتائج المترتبة على تلوث بحر قزوين

تعرض 23 نوعاً من الكائنات الحية فيه لخطر الانقراض

اختر الإجابة الصحيحة:

س أكبر بحار العالم المغلقة:

○ آرال ○ **قزوين** ○ الميت ○ الأسود

س عدد أنواع الكائنات الحية التي تتعرض لخطر الانقراض في بحر قزوين :

○ 13 ○ 17 ○ **23** ○ 32

س كمية المياه من المجاري الصحية ونفايات المصانع التي يتم ضخها سنوياً في بحر قزوين :

○ 4 مليار متر مكعب ○ 8 مليار متر مكعب

○ **12 مليار متر مكعب** ○ 16 مليارمتر مكعب

تـــدرب و تـفـوق

اختبارات الكترونية

س علل - هناك عدد كبير من الأنواع الكائنات الحية مهددة بالصيد المفرط

- حاجات الناس الذين يجدون فيها مصدر شفاء أو طعام
- هؤلاء الناس يشجعون الصيد والتجارة غير المشروعة

س فسر بعض الناس يشجعون الصيد والتجارة غير المشروعة

لأنهم يجدون فيها مصدر شفاء أو طعام



س أكمل : الصورة المقابلة تمثل **الصيد الجائر للحيتان**

س علل تعرض الحيتان للصيد الجائر (المفرط)

- مصدراً للحوم
- مصدر لزيت المصابيح
- مصدر لدهن الشموع والصابون
- لايزال لحم الحيتان من المأكولات الشعبية في اليابان وكوريا

KuwaitTeacher.Com

جميع الحقوق محفوظة ©

س اختياري : الدول التي لا يزال لحم الحيتان من المأكولات الشعبية فيها

ممكن أن يظهر السؤال في صيغة اخرى: حدد على الخريطة

- ○ اليابان والفلبين
- ○ الصين والفلبين
- ○ **كوريا واليابان**
- ○ كوريا والصين

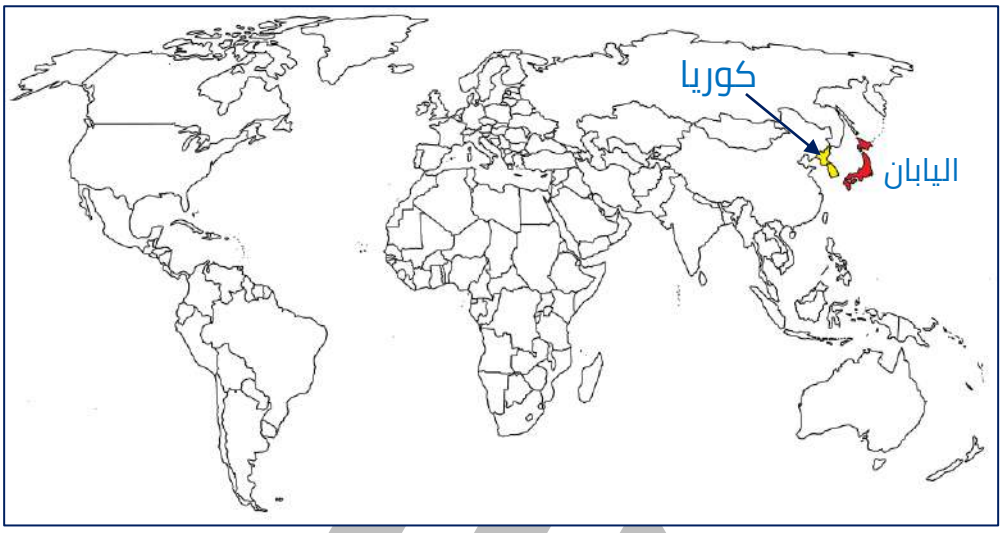

س علل - مجموعة الدول المناهضة لعمليات صيد الحيتان انتقدت الدول التي اقترحت زيادة عمليات الصيد السنوية

لأنها تشمل أصناف الحيتان المعرضة لخطر الانقراض

أكمل العبارات التالية :



ممكن أن يظهر السؤال في صيغة اخرى: اختياري حدد على الخريطة

س الدولة التي اشتهرت بصناعة الفراء الطبيعي منذ 100 عام تسمى _ _ **اليونان** _ _

س الدولة التي تنتج ثلث حاجيات العالم من الفرو تسمى _ **اليونان** _

س اختياري : تتركز صناعة الفراء في مدينتين هما كستوريا و سياستا والواقعتين في :

- ○ **مقدونيا**
- ○ كريت
- ○ جنوب إيجة
- ○ أثينا

س عدد الجمعيات التي أدخلت منطقة شمال اليونان في أزمة

- جمعيات الرفق بالحيوان
- جمعيات العولمة

UULA
معلمي الكويت
KuwaitTeacher.Com

س علل - ادخال جمعيات الرفق بالحيوان والعولمة شمال اليونان في أزمة

- بسبب انتاج الفراء الطبيعي منذ سنوات عديدة
- المنطقة تنتج ثلث حاجيات العالم من الفرو

س دلل - الاتحاد العالمي للطبيعة له دور في مكافحة الصيد المفرط

صياغة تقرير حول تهديدات بالانقراض التي تتعرض لها أنواع الحيوانات

س فسر صياغة الاتحاد العالمي للطبيعة تقرير حول تهديدات انقراض أنواع من الحيوانات

ليتم وضع حد لأسباب انقراض حوالي ربع الحيوانات الثديية التي تعيش في مختلف انحاء الأرض

أكمل العبارات التالية :

ممكن أن يظهر السؤال في صيغة اخرى: اختياري

س الاتحاد الذي صاغ تقرير حول تهديدات بالانقراض التي تتعرض لها أنواع الحيوانات يسمى **الاتحاد العالمي للطبيعة**

س عدد الحيوانات الثديية التي انقرضت على سطح الأرض **1200 نوع**

س نسبة الحيوانات الثديية التي انقرضت على سطح الأرض **الربع**

س اختياري : نسبة الحيوانات الثديية التي انقرضت على سطح الأرض يمثلها الجزء المظلل في الدائرة التي تحمل الحرف

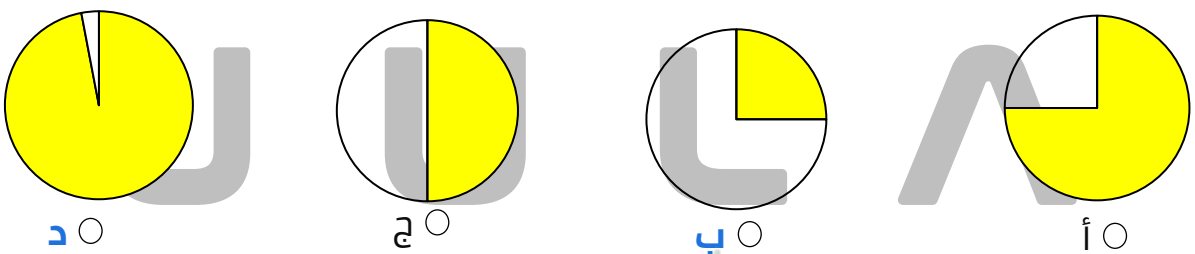

أ ○ **ب** ○ ج ○ **د** ○

س علل - القردة على رأس الثدييات المعرضة للانقراض

- مصير عدد كبير منها لمخابر الأبحاث الصيدلانية
- مصير عدد كبير منها لمخابر صناعات التجميل
- بعضها يباع لمؤسسات طبية وعلمية



Kuwaitteacher.Com

أكمل العبارات التالية :



ممكن أن يظهر السؤال في صيغة اخرى: اختياري حدد على الخريطة

س الاتحاد الذي صاغ تقرير حول تهديدات بالانقراض التي تتعرض لها أنواع الحيوانات يسمى _A(H5N1)_

س الدولة التي تم اكتشاف مرض أنفلونزا الطيور فيها منذ أكثر من 100 عام تسمى _إيطاليا_

س مرض قديم تم اكتشافه في إيطاليا منذ أكثر من 100 عام يسمى _أنفلونزا الطيور_

س الفيروس (A(H5N1ينتقل للإنسان عن طرق المخالطة اللصيقة بواسطة _الدجاج_

س المنظمة التي استنفرت من انتقال مرض أنفلونزا الطيور من الحيوان للإنسان تسمى _الصحة العالمية_

س علل - منظمة الصحة العالمية استنفرت من انتقال أنفلونزا الطيور من الحيوان للإنسان

- خوفاً من حدوث وباء عالمي
- المرض شديد العدوى

عرف

الرعي الجائر

زيادة أعداد الحيوانات في المراعي بشكل يفوق القدرة البيئية والبيولوجية للمرعى

أكمل العبارات التالية :

ممكن أن يظهر السؤال في صيغة اخرى: اختياري



س الصورة المقابلة تمثل مظهراً لتدمير الغلاف الحيوي في العالم يسمى _الرعي الجائر_

س أكثر وسائل تدمير الغلاف الحيوي في العالم يسمي _الرعي الجائر_

س أهم الأسباب الرئيسية للتصحر خصوصاً في البيئات الجافة يسمى _الرعي الجائر_

UULA
KuwaitTeacher.Com

جميع الحقوق محفوظة ©

س اختياري : أكثر وسائل تدمير الغلاف الحيوي في العالم

○ إزالة الغابات
○ الصيد المفرط
○ **الرعي الجائر**
○ المبيدات الحشرية

س علل - الرعي الجائر من وسائل تدمير الغلاف الحيوي

- أكثر وسائل تدمير الغلاف الحيوي في العالم
- أهم الأسباب الرئيسية للتصحر خصوصاً في البيئات الجافة

س أكمل : الصورة المقابلة تمثل مظهراً لتدمير الغلاف الحيوي في العالم يسمى **التغيرات المُناخية**



س علل - حدوث تغير في مناخ الأرض

نتيجة التلوث الذي أطلقناه في الجو وأدى إلى ارتفاع درجة الحرارة

س عدد النتائج المترتبة على ارتفاع درجة الحرارة (التغيرات المناخية)

- التأثير على الحياه البرية
- انخفاض أعداد سمك السلمون في شمال المحيط الهادي
- تدمير الشعاب المرجانية
- تآكل طبقة الجليد وتعرضها للذوبان في المناطق القطبية

س ما النتائج المترتبة على ارتفاع حرارة مياه البحار والمحيطات

- انخفاض أعداد سمك السلمون في شمال المحيط الهادي
- تدمير الشعاب المرجانية

س علل - ارتفاع درجة حرارة مياه البحار يؤدي إلى تدمير الشعاب المرجانية

ممكن أن يظهر السؤال في صيغة اخرى: (ما العلاقة)

عندما تسخن المياه تتخلص الشعب وتقذف النباتات الدقيقة التي تؤمن لها الغذاء

س علل - تآكل طبقة الجليد وتعرضها للذوبان في المناطق القطبية

- انبعاث الغازات الناتجة عن استخدام الإنسان مثل عوادم السيارات والمصانع
- ارتفاع درجة الحرارة

تـــدرب و تـفـوق
اختبارات الكترونية

© جميع الحقوق محفوظة

أكمل العبارات التالية :

ممكن أن يظهر السؤال في صيغة اخرى: عرف اختياري

س طبقة تحتوي على غاز الأوزن في طبقات الجو العليا تسمى **طبقة الأوزون**

س طبقة الأوزون تقع في الغلاف الجوي ضمن غلاف يسمى **الاستراتوسفيري**

س الطبقة التي تقوم بدور الدرع الواقي الذي يحيط بالأرض تسمى **طبقة الأوزون**

س علل - أهمية طبقة الأوزون

ممكن أن يظهر السؤال في صيغ اخرى: (علل - طبقة الأوزون الدرع الواقي للأرض)

- تحيط بالغلاف الجوي إحاطة كاملة
- تحمي الأرض من الأشعة فوق البنفسجية

س ماذا يحدث لو : " زاد ثقب الأوزن اتساعاً "

- تنفذ كمية أكبر من الأشعة فوق البنفسجية إلى الأرض
- أضرار جسيمة على صحة الإنسان وباقي الكائنات الحية

عرف

ظاهرة الاحتباس الحراري

عملية تراكم الغازات في طبقة التروبوسفير بدرجة تعجز الأنظمة البيئية الطبيعية عن التعامل معها

س علل - تعرض طبقة الأوزون للتدمير

ممكن أن يظهر السؤال في صيغ اخرى: (علل - حدوث ظاهرة الاحتباس الحراري)

- أعمال التكنولوجيا
- انبعاث الغازات
- ارتفاع مستوي غاز الأوزون في طبقة التروبوسفير
- تفاعل غاز الأوزون مع الغازات السامة

عرف

طبقة التروبوسفير

ممكن أن يظهر السؤال في صيغ اخرى: أكمل اختياري

هي الطبقة السفلى من طبقات الجو وأقربها إلى الأرض

UULA
KuwaitTeacher.Com

جميع الحقوق محفوظة ©

أكمل العبارات التالية :

ممكن أن يظهر السؤال في صيغ اخرى: اختياري | حدد علي الخريطة

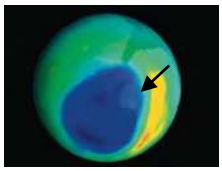

س أكثر اتساع لثقب الأوزون أعلى قارة تسمى
القارة القطبية الجنوبية

س السهم في الصورة المقابلة يشير
إلى ثقب الأوزون فوق القارة القطبية الجنوبية



لاحظ الشكل التالي , ثم أجب عما يليه :

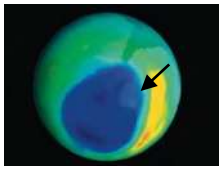

س ضع عنوان مناسب للشكل المقابل ثقب الأوزون

س حدد على الشكل المقابل موقع هذه الظاهرة
باستخدام الرمز ←

س أذكر النتيجة المترتبة على هذه الظاهرة ظاهرة الاحتباس الحراري

س في أي طبقة من طبقات الغلاف الجوي تقع هذه الظاهرة الأستراتوسفير

س أقترح حلا لهذه الظاهرة

- صيانة الغابات
- استخدام الوقود الخالي من الرصاص

UULA
معلمي الكويت
صفوة
KuwaitTeacher.Com

أكمل العبارات التالية :

ممكن أن يظهر السؤال في صيغ اخرى: اختياري | حدد علي الخريطة

س عدد المفاعلات النووية لتوليد الطاقة الكهربائية في العالم نحو _ **438 مفاعل** _

س نسبة كمية الإشعاع المتسربة من مفاعل تشرنوبيل حوالي _ **5%** _

س الصورة المقابلة تمثل _ **مفاعل تشرنوبل** _



س المنطقة التي حدث فيها مفاعل تشرنوبل عام 1986م تسمى _ **أوكرانيا** _

س الدولة التي حدث فيها حادث مفاعل تشرنوبل عام 1986م تسمى _ **الاتحاد السوفيتي السابق** _



س العام الميلادي الذي وقع فيه حادث مفاعل تشرنوبل _ **1986م** _

س عدد النتائج المترتبة على : "حادث مفاعل تشرنوبل "

ممكن أن يظهر السؤال في صيغة اخرى:
(لفظ 100 مليون وحده إشعاعية في الاتحاد السوفيتي عام 1986م)

- مقتل 47 شخص
- تعرض 130 ألف شخص لجرعات عالية من الإشعاع
- إعدام الكثير من المحاصيل الزراعية
- إجلاء سكان المناطق المجاورة
- كمية الإشعاع التي تسربت 5% من كمية المواد المشعة داخل المفاعل
- النفايات النووية لها مخاطر كبيرة على البيئة لا تقل عن مخاطر التسرب الإشعاعي

س علل- إصابة 800 طفل بالسرطان في الاتحاد السوفيتي عام 1986م

- حادث مفاعل تشرنوبل
- تعرض 130 ألف شخص لجرعات عالية من الإشعاع

UULA
معلمي الكويت
صفوة
KuwaitTeacher.Com

اختر الإجابة الصحيحة:

س عدد الأشخاص اللذين تعرضوا لجرعات عالية من الإشعاع في الاتحاد السوفيتي عام 1986م

- ○ 100 ألف
- ○ 110 ألف
- ○ 120 ألف
- ○ **130 ألف**

س عدد حالات الإصابة بالسرطان في الاتحاد السوفيتي عام 1986م

- ○ **800**
- ○ 900
- ○ 1000
- ○ 1100

س عدد مكونات النفايات النووية

- الوقود النووي
- الأجزاء الخاصة التي تعمل داخل المفاعل

س فسر - يجب عند التخلص من النفايات النووية عزلها عن البيئة الخارجية عزلاً تاماً

لأن النفايات النووية لها مخاطر كبيرة على البيئة لا تقل عن مخاطر التسرب الإشعاعي

س أكمل : المكون الأساسي للنفايات النووية يسمى **الوقود النووي**

س دلل - المفاعلات النووية سلاح ذو حدين

- يوجد 438 مفاعلاً نووياً في مختلف دول العالم لتوليد الطاقة الكهربائية
- حادث مفاعل تشرنوبل عام 1986م الذي أدى لمقتل 47 شخص

UULA
معلمي الكويت
صفوة
KuwaitTeacher.Com

© جميع الحقوق محفوظة

دون على الخريطة رقم كل عبارة :

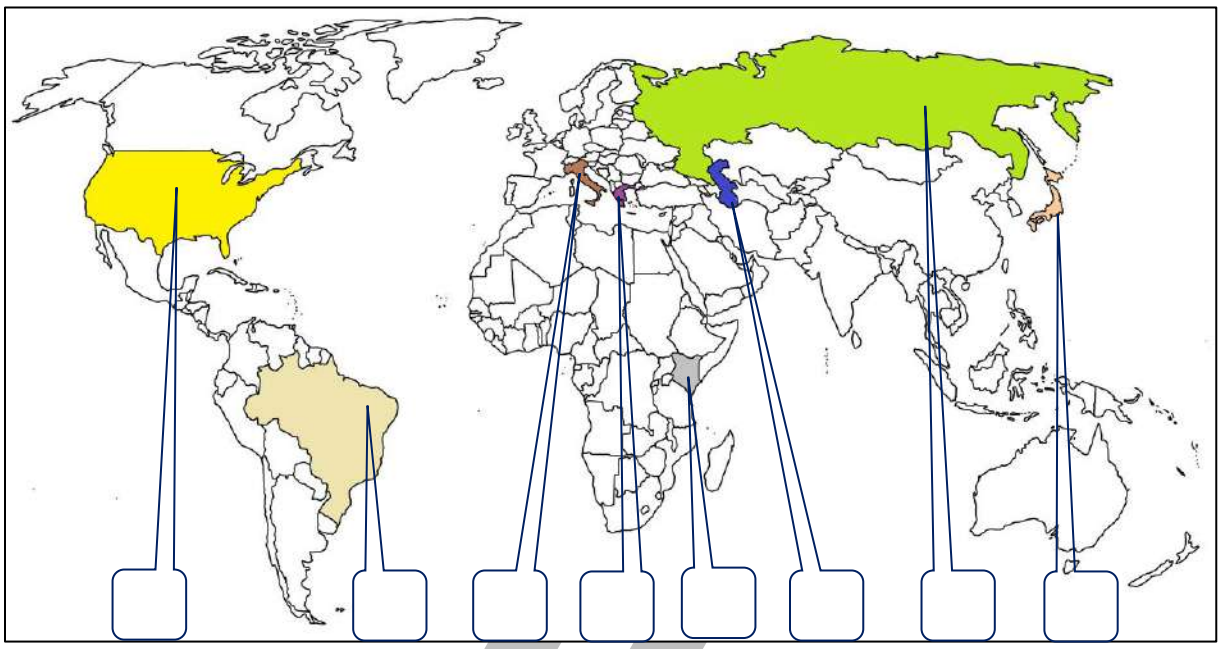

س دولة تم إزالة مساحات واسعة من الغابات الموسمية فيها بهدف الزراعة (5)

س دولة تنتمي لها داعية حماية البيئة وانجاري ماثاي (8)

س دولة قامت بحظر استعمال مبيد الحشرات DDTلتأثيره السلبي على الكائنات الحية (4)

س أحد البحار المغلقة والذي تتعرض الكائنات الحية فيه لخطر الانقراض (2)

س دولة لا يزال لحم الحيتان من المأكولات الشعبية فيها (7)

س دولة تم اكتشاف مرض انفلونزا الطيور فيها منذ أكثر من 100 عام (6)

س دولة تنتج ثلث حاجيات العالم من الفرو (1)

س الدولة التي حدث فيها حادثة مفاعل تشرنوبل عام 1986م (3)

تـــدرب و تـفـوق
اختبارات الكترونية

وسائل حماية وصيانة المحيط الحيوي في العالم

س عدد وسائل حماية وصيانة المحيط الحيوي في العالم

- اهتمام العلماء بدراسة وصيانة الغلاف الحيوي
- اتجاه الحكومات إلى صيانة ما تبقى من نباتات وحيوانات برية
- نشر الوعي البيئي
- إصدار التشريعات لحماية البيئة البحرية من التلوث
- استخدام الوقود الخالي من الرصاص
- العمل على أن يتناسب أعداد السكان ونمو السكان مع معطيات البيئة الطبيعية

س عرف الحدائق الوطنية :

حدائق تنشئها الحكومات لصيانة ما تبقى من نباتات وحيوانات برية في أراضيها

س عدد الخطوات التي يجب ان تتبعها الحكومات لصيانة النباتات والحيوانات البرية

- انشاء الحدائق الوطنية
- انشاء المحميات الطبيعية
- العناية باستزراع الغابات
- إنشاء بنوك المعلومات البيئية

س عدد وسائل نشر الوعي البيئي لحماية وصيانة المحيط الحيوي في العالم

- إدراج حماية وصيانة البيئة كأحد المكونات الأساسية لثقافة الشعوب
- اعتبار البيئة جزءاً من الثروة القومية

س عدد مصادر تلوث البيئة البحرية

- التلوث النفطي
- التلوث بمياه الصرف الصحي

س علل - أهمية التوسع في استخدام الوقود الخالي من الرصاص

- يعمل على رفع كفاءة جهاز تقطير عادم السيارات
- يسهم في معالجة التلوث الهوائي من عوادم السيارات

UULA
معلمة الكويت
KuwaitTeacher.Com

جميع الحقوق محفوظة ©

س اختياري: التوسع في استخدام الوقود الخالي من الرصاص يسهم في معالجة

- ○ التلوث المائي
- ○ **التلوث الهوائي**
- ○ التلوث الضوضائي
- ○ تلوث التربة

س علل - أهمية تناسب أعداد السكان والزيادة السنوية للسكان مع معطيات البيئة الطبيعة والحيوية

- حتى لا يزيد العبء على قدرات المعطيات البيئية
- حتى لا تتفاقم مشاكل التلوث

س اشرح العلاقة التي تربط النمو السكاني بالرسم البياني وتدهور الغلاف الحيوي في العالم

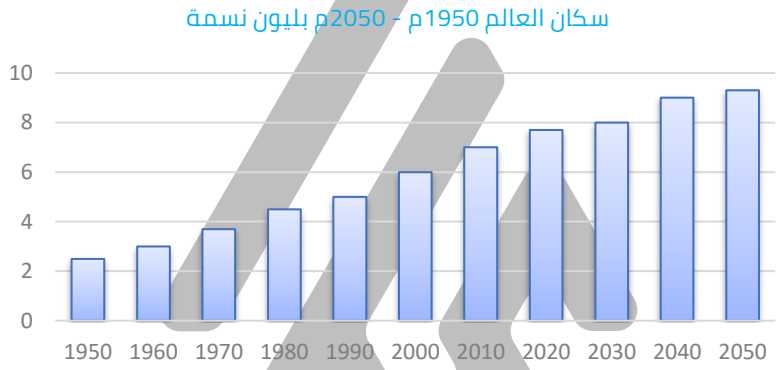

الزيادة السكانية المستمرة في العالم أدت لزيادة متطلبات الإنسان مما شكل ضغط واستنزاف عناصر البيئة الطبيعية وتدهور الغلاف الحيوي

تـــدرب و تـفـوق
اختبارات الكترونية

UULA
معلمي الكويت
صفوة
KuwaitTeacher.Com

المحميات الطبيعية

عرف

المحميات الطبيعية

مساحات من الأراضي وضعتها الدولة بقانون يكفل حماية المصادر الحيوية والتاريخية والأثرية

علل

س المحميات الطبيعية تساهم في التنمية المستمرة

- توفير فرصة للتوعية البيئية
- توفير فرصة لإحداث واستمرار التنمية في المناطق النائية
- توفير فرصة للبحث العلمي ومتابعة الأحياء البرية
- ضمان الإنتاج واستمرار التوازن البيئي
- المحافظة على استقرار البيئة التي تمثلها هذه المناطق
- تسهيل التنزه والاستجمام

س المحميات الطبيعية لها دور في المحافظة على استقرار البيئة التي تمثلها

- تقلل من الفيضانات أو الجفاف
- تحمي التربة من الجفاف

س عدد المواصفات المؤهلة للمنطقة لتصبح محمية طبيعية

- عندما يتوفر في البيئة نظام بيئي متميز
- عندما يوجد في المنطقة نوع متميز
- عندما يوجد في المنطقة تنوع عادي لأنماط الأحياء
- عندما تكون المنطقة ذات أهمية للسياحة البيئية
- عندما تشتمل المنطقة على مواقع أثرية
- عندما يكون الشكل السطح أو للعوامل الجيوفيزيائية أهمية خاصة
- عندما تكون المنطقة بحاجة لإجراءات لحماية العوالم الهيدرولوجية
- عندما تشتمل المنطقة على مواقع لها أهمية للبحوث العلمية طويلة الأمد

UULA
صفوة الكويت
KuwaitTeacher.Com

جميع الحقوق محفوظة ©

عدد

س الشروط والإجراءات الواجب اتباعها للمحافظة على المحمية الطبيعية

- منع الزوار إلا لأغراض إدارة المحمية
- السماح بالبحث العلمي
- السماح بالزيارة المنظمة في مناطق معينة
- شق طرق للعامة
- السماح بوجود مكثف للزوار
- جمع الأخشاب الميتة من قبل السكان المحليين أو العسل دون الإضرار بالطبيعة
- إدارة المناطق المحمية إدارة سليمة للإكثار من الحيوانات
- الصيد التقليدي المنظم
- السماح ببقاء السكان المحليين
- منع صيد الأسماك

س عدد المحميات الطبيعية الموجودة في دولة الكويت

ممكن أن يظهر السؤال في صيغة اخرى: صمم مخطط سهمي

- محمية سمو الشيخ / صباح الأحمد الطبيعية
- تلال جال الزور
- منطقة طلحة
- منخفض وادي أم الرمم
- المنحدر الخلفي ومنطقة العوجة
- السهل الساحلي
- محمية شرق الجهراء
- محمية الدوحة
- محمية جابر الأحمد البحرية

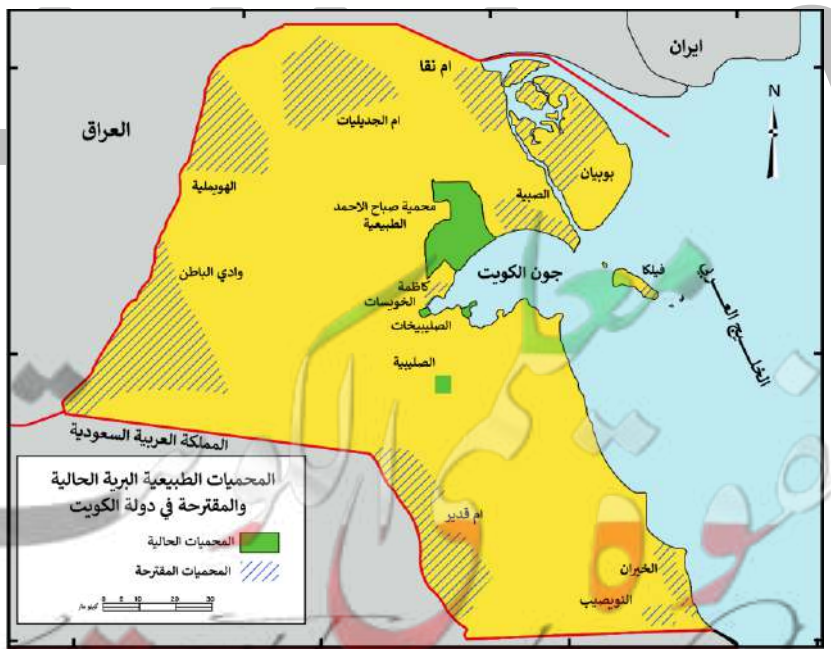

Kuwaitteacher.com

اختر الإجابة الصحيحة:

س تقع محمية الشيخ صباح الأحمد الطبيعة في الكويت:

- ○ **الشمال الشرقي**
- ○ الشمال الغربي
- ○ الجنوب الشرقي
- ○ الجنوب الغربي

س تبلغ مساحة محمية الشيخ صباح الأحمد الطبيعة:

- ○ 230 كيلو متر
- ○ **330 كيلو متر**
- ○ 200 كيلو متر
- ○ 1000 كيلو متر

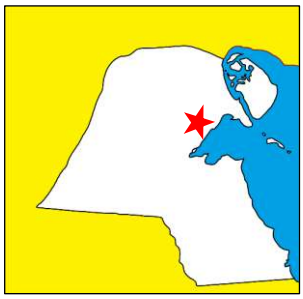

س الرمز (★) على الخريطة المقابلة يشر لمحمية طبيعية

- ○ **صباح الأحمد الطبيعية**
- ○ شرق الجهراء
- ○ الدوحة
- ○ السهل الساحلي

س اكتب مدلول الصورة المقابلة



منظر عام للنباتات البرية في محمية سمو الشيخ / صباح الأحمد

س دلل - محمية الشيخ صباح الأحمد الطبيعة في الكويت تحتوي على تنوع تضاريسي

- تحتوي على تلال ومنخفضات
- تحتوي على سهول
- تحتوي على مسطحات طينية كبيرة

س علل - أهمية محمية الشيخ صباح الأحمد الطبيعية

- تساعد على جذب الحيوانات والتكاثر
- توطين النباتات المعرضة لخطر الانقراض
- تحافظ على البيئة الكويتية من التدهور
- مخزون بيئي واقتصادي واستراتيجي للنباتات والحيوانات






UULA
KuwaitTeacher.Com

س ارسم خريطة دولة الكويت وحدد

- محمية صباح الأحمد الطبيعية بالرمز

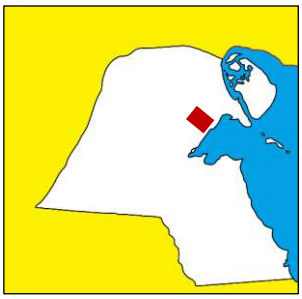

تـــدرب و تـفـوق
اختبارات الكترونية

معلمي الكويت
صفوة
KuwaitTeacher.Com

© جميع الحقوق محفوظة

UULA

الاقـــتـــصـاد

الـكـورس الـثـانـي

11

KuwaitTeacher.Com

2021 - 2020

UULA.COM

قائمة المحتوى

01 النظام المالي في الاقتصاد

120 النظام المالي في الدولة

127 الجهاز المصرفي

02 الاقتـــصاد الخارجي

132 التبادل التجاري وأهميته

137 قيود التبادل التجاري

140 أهمية الاتفاقيات التجارية

03 الاقتصـــاد الكويتي

143 مقومات الاقتصاد الكويتي

147 أهم المؤسسات ذات الطابع الاقتصادي في دولة الكويت

152 تحديات ومستقبل الاقتصاد الكويتي

04 مقدمة في المشاريع الصغيرة

157 المشاريع الصغيرة مفاهيم وأهميه

159 وسائل تمويل المشاريع الصغيرة و بعض التجارب الناجحة

163 تجارب بعض الدول في دعم المشاريع الصغيرة

05 الوعي الاقتصـــادي للأسرة

168 أهمية اقتصاد الأسرة وعلاقته بالاستقرار الأسري

170 أساسيات التخطيط المالي للأسرة

معلمة الكويت
KuwaitTeacher.Com

© جميع الحقوق محفوظة

النظام المالي في الدولة

دلل على صحة العبارة

س " ليست السلع والخدمات فقط ما يتم تبادلها بين الأفراد والمؤسسات باستخدام النقود "

- بيع وشراء الخدمات المالية كالأسهم والسندات
- إقراض النقود واقتراضها
- بيع بوليصة التأمين وشرائها

أكمل :

س نظام ما هو إلا مكمل إضافي في الاقتصاد ومكمل لسوق السلع وسوق الخدمات وسوق العمل يسمى _ **النظام المالي** _

عرف

النظام المالي

مجموعة من القواعد التي تنظم أسواق ومؤسسات معينه بها بيع وشراء الخدمات المالية والتأمين

س علل - أهمية النظام المالي في اقتصاد الدولة

يعمل كوسيط لتسهيل عملية انتقال الأموال من المقرضين (المدخرون) إلى المقترضين

س فرق

ممكن أن يظهر السؤال في صيغ اخرى: أكمل | اختياري | عرف

المقرضين (المدخرون)	المقترضين
هم الذين يملكون فوائض مالية مؤقتة سواء أفراد أو مؤسسات أو حكومة	هم الذين يحتاجون الأموال ويعانون نقصاً مؤقتاً في الأموال سواء أفراد أو مؤسسات أو حكومة

UULA
صفوة الكويت
KuwaitTeacher.Com

جميع الحقوق محفوظة ©

أكمل المخطط السهمي التالي :

س " ليست السلع والخدمات فقط ما يتم تبادلها بين الأفراد والمؤسسات باستخدام النقود "

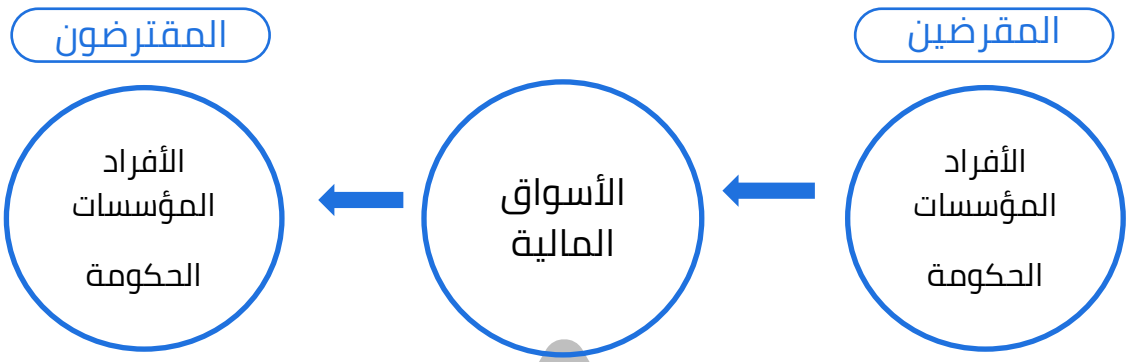

س اكتب مدلول المخطط السهمي : **أهمية النظام المالي**

س عدد - مؤسسات النظام المالي التي تنقل الأموال من المقرضين إلى المقترضين

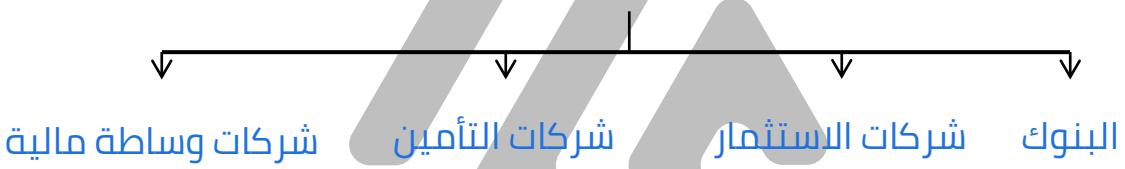

س " أراد عبد الله إقامة مشروع صناعي صغير بتكلفة 10 آلاف دينار, ولم يكن لديه سوى 7 آلاف دينار, وأما سالم فقد أدخر مبلغ 3 آلاف دينار فأراد حفظ أمواله في مكان آمن , " ما الحل برأيك

- يقوم سالم بإيداع ما أدخره في أحد البنوك التجارية
- يقوم عبد الله باقتراض المبلغ المتبقي لإقامة المشروع من البنك التجاري نفسه

س عدد - الأسس التي تميز أنواع الأسواق في النظام المالي عن بعضها بعضاً

- موقع تبادل الخدمات المالية
- أجل أو مدة تبادل الخدمات المالية
- الأدوات المالية المستخدمة فيها

UULA
صفوة الكويت
KuwaitTeacher.Com

س عدد - أنواع المؤسسات المالية (أكمل المخطط السهمي

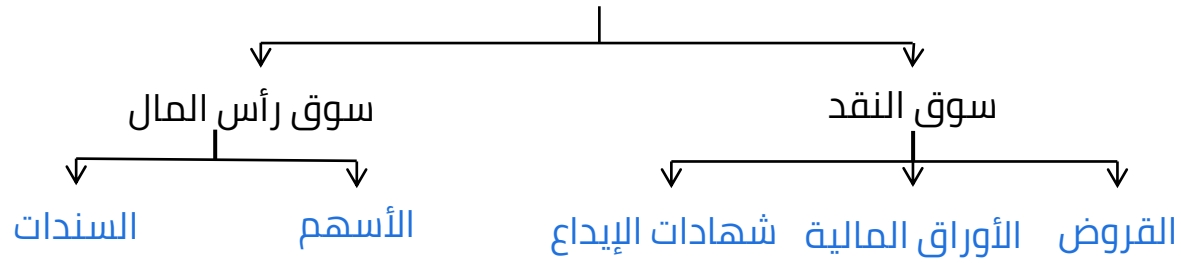

عرف

سوق النقد

سوق يتم فيه تبادل المنتجات المالية كالنقود والأوراق التجارية وشهادات الإيداع

س علل- أهمية سوق النقد

ممكن أن يظهر السؤال في صيغة اخرى: (اكتب أهداف سوق النقد)

تأمين سيولة نقدية قصيرة الأجل لغرض الاستهلاك من قبل المستهلكين والمستثمرين

اختياري

س هدف سوق النقد توفير سيولة نقدية ذات الأجل:

○ طويل ○ محدود ○ متوسط ○ **قصير**

عرف

ممكن أن يظهر السؤال في صيغ اخرى: أكمل اختياري

الأوراق التجارية

أوراق غير الأوراق النقدية قابلة للتداول بين الأفراد والشركات بالطرق التجارية لها شروط محددة تُخصم لدى البنك التجاري

س عدد - أشكال الأوراق التجارية

ممكن أن يظهر السؤال في صيغة اخرى: (اكتب أهداف سوق النقد)



الكمبيالة



الشيك

UULA.COM
© جميع الحقوق محفوظة
KuwaitTeacher.Com

عرف

ممكن أن يظهر السؤال في صيغ اخرى: أكمل اختياري

شهادات الإيداع

شهادات تصدر عن البنك التجاري تثبت إيداع مبلغ معين بفوائد وبفترة محددة

س أكتب مدلول الصورة المقابلة

شهادات الإيداع


شهادة إيداع الإصدار الأول
Certificate of Deposit - First Edition

This Certificate of deposit is Granted to — تقدم شهادة الايداع هذه الى
in the amount of — بمبلغ قدره
with a tenure of — لمدة
Issued on — صادرة بتاريخ
Expected annual profit rate — بنسبة الربح المتوقعة سنويا
Co. Account Number / رقم حساب الشهادة — RIM/رقم العميل

س فرق بين كل من :

الأوراق التجارية	شهادات الإيداع
أوراق غير الأوراق النقدية قابلة للتداول بين الأفراد والشركات بالطرق التجارية	شهادات تصدر عن البنك التجاري تثبت إيداع مبلغ معين بفوائد وبفترة محددة

اختر الإجابة الصحيحة :

س شهادات تصدر عن البنك التجاري تثبت إيداع مبلغ معين بفوائد وبفترة محددة تسمى :

○ الأوراق التجارية ○ **شهادات الإيداع** ○ السندات ○ الأسهم

س أوراق غير الأوراق النقدية قابلة للتداول بين الأفراد والشركات بالطرق التجارية تسمى :

○ **الأوراق التجارية** ○ شهادات الإيداع ○ السندات ○ الأسهم

تـــدرب و تـفـوق
اختبارات الكترونية

UULA
صوت الكويت
KuwaitTeacher.Com

© جميع الحقوق محفوظة



عرف

سوق رأس المال

سوق يتم فيه بيع وشراء الأوراق المالية المصدرة سابقاً كالأسهم والسندات في الأمد الطويل

س علل - أهمية سوق رأس المال

ممكن أن يظهر السؤال في صيغة اخرى: (عدد أهداف سوق رأس المال)

- توفير سيولة نقدية طوية الأجل أكبر من التي يوفرها سوق النقد
- تمويل إنشاء المشاريع التي تحتاج وقتاً طويلاً لتنفيذها

اختياري

س هدف سوق رأس المال توفير سيولة نقدية ذات الأجل :

○ **طويل** ○ محدود ○ متوسط ○ قصير

س عدد - الأدوات المالية المتداولة في سوق رأس المال

- الأسهم
- السندات

س فرق بين كل من

ممكن أن يظهر السؤال في صيغ اخرى: عرف أكمل اختياري

الأسهم	السندات
ورقة مالية تمثل كأداة ملكية لحصة في رأس مال الشركات المساهمة	ورقة مالية تمثل كأداة دين على مصدر السند وتدر دخلاً ثابتاً على حامله

اختر الإجابة الصحيحة :

س ورقة مالية تمثل كأداة ملكية لحصة في رأس مال الشركات المساهمة :

○ شهادات الإيداع ○ الأوراق التجارية ○ النقود ○ **الأسهم**

KuwaitTeacher.Com

© جميع الحقوق محفوظة

س ورقة مالية تمثل كأداة دين على مصدر السند وتدر دخلاً ثابتاً على حامله :

○ شهادات الإيداع ○ **السندات** ○ النقود ○ الأسهم

اكتب مدلول الصور

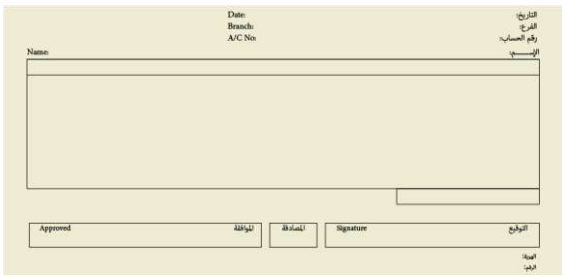

شراء الأسهم



السند

س قارن بين كل من :

اوجه المقارنة	سوق النقد	سوق رأس المال
فترة التمويل	قصير الأجل	طويل الأجل
الأدوات المالية المتداولة	قروض, الأوراق التجارية, شهادات الايداع	الأسهم, السندات
الغرض من التمويل	استهلاكي	تمويل المشاريع

أكمل

س يطلق على سوق الأوراق المالية اسم **البورصة**

UULA
معلمي الكويت
صفوة
KuwaitTeacher.Com

س علل - سوق الأوراق المالية له أهمية كبرى في الاقتصاد

ممكن أن يظهر السؤال في صيغة اخرى: (البورصة من أهم المؤسسات المالية في أي اقتصاد)

- له دور حيوي في دعم الاقتصاد من خلال التدفقات المالية لمدخرات الأفراد والمؤسسات
- توجيهها إلى تنمية القطاعات الاقتصادية بالدولة
- دوره هو استخدام والتعامل مع الأوراق المالية من قبل الأفراد والمؤسسات

س أهمية سوق الأوراق المالية للأفراد

استفادة الأفراد من شراء الأسهم والحصول على الأرباح التي توزع في نهاية الفترة جراء تملك السهم

س أهمية سوق الأوراق المالية للشركات المساهمة

استفادة الشركات في استخدام تلك الأموال لتطوير وتحسين وتوسيع أنشطتها بما يحقق الأرباح للشركة وملاكها (حاملي الأسهم)

فسر

س التعامل مع سوق الأسهم للأوراق المالية من قبل الأفراد والمؤسسات له فوائد لكلا الطرفين

- استفادة الأفراد عند شراء السهم هو الحصول على الأرباح التي توزع في نهاية الفترة جراء تملك هذا السهم
- استفادة الشركات المساهمة في استخدام الأموال لتطوير وتحسين وتوسيع أنشطتها بما يحقق الأرباح للشركة وملاكها (حاملي الأسهم)

تـــدرب و تـفـوق
اختبارات الكترونية
UULA

معلمي الكويت
صفوة
KuwaitTeacher.Com

© جميع الحقوق محفوظة

الجهاز المصرفي

س علل - الجهاز المصرفي من أهم المؤسسات المالية

يسهل انتقال الأموال من المقرضين إلى المقترضين

عدد

س مكونات الجهاز المصرفي

ممكن أن يظهر السؤال في صيغة اخرى: أكمل المخطط

- البنك المركزي
- البنوك التجارية
- البنوك المتخصصة

عرف

البنك المركزي

البنك المسؤول عن الجهاز المصرفي وتنظيم إصدار النقد ويشرف ويراقب على العمليات المصرفية

س عدد - وظائف البنك المركزي

- بنك الاصدار
- بنك البنوك
- بنك البنوك

س اختياري - واحده من المسميات (الوظائف) التالية لا تُطلق على البنك المركزي

- ○ بنك الإصدار
- ○ بنك البنوك
- ○ **البنك المتخصص**
- ○ بنك الحكومة

معلمي الكويت
صفوة
KuwaitTeacher.Com

© جميع الحقوق محفوظة

س علل - يعتبر البنك المركزي هو بنك الاصدار

لأنه الجهة المسؤولة عن طباعة وإصدار عملة البلد

س أكمل - الجهة المسؤولة الوحيدة عن طباعة وإصدار عملة البلد تسمى **البنك المركزي**

اختياري

س الجهة المسؤولة الوحيدة عن طباعة وإصدار عملة البلد

○ البنوك التجارية ○ البنوك المتخصصة
○ **البنك المركزي** ○ البنك الدولي

س علل - يعتبر البنك المركزي هو بنك البنوك

- جميع البنوك التجارية تحتفظ بحساباتها فيه
- الاحتفاظ بودائع البنوك التجارية فيه
- تسوية أرصدة المقاصة فيما بين البنوك التجارية
- يقوم بمهمة المقرض للبنوك التجارية
- مراقبة البنوك التجارية ومتابعة التعليمات الصادرة من البنك المركزي

عرف

أرصدة المقاصة

هي المديونيات المتبادلة بين البنوك التجارية

س علل - يطلق على البنك المركزي بنك الحكومة

- يؤدي الخدمات المصرفية نيابة عن الحكومة
- يحتفظ بأرصدة حسابات الحكومة

عرف

البنوك التجارية

المؤسسات المالية التي تقبل الودائع من الأفراد والمؤسسات وتستخدمها في منح القروض والسلف

UULA
صفوة معلمي الكويت
KuwaitTeacher.Com

عدد

س وظائف البنوك التجارية

ممكن أن يظهر السؤال في صيغة اخرى: (علل/ تتعدد وظائف البنوك التجارية)

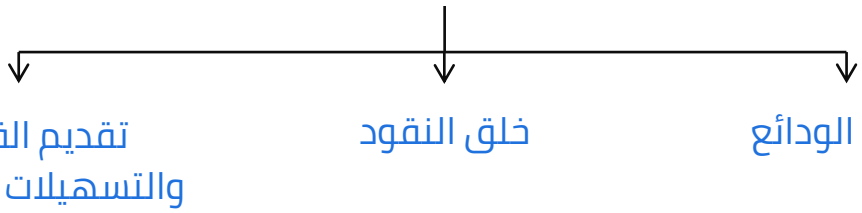

علل

س أهم وظائف البنوك التجارية خلق النقود بالاقتصاد

لأن البنوك التجارية تقوم بإقراض ودائع العملاء للباحثين عن الأموال من الأفراد والمؤسسات وتقوم بخلق نقود إضافية في الاقتصاد

أكمل العبارات التالية :

ممكن أن يظهر السؤال في صيغة اخرى: اختياري

س أساس العمل المصرفي في القطاع المصرفي هو **فتح حسابات مصرفية**

س المصدر الأساسي لتحقيق الأرباح للبنوك التجارية هو - **تقديم القروض والتسهيلات الائتمانية**

س مصدر القروض التي تقدمها البنوك التجارية سواء قصيرة الأجل أو طويلة الأجل هو **الودائع المصرفية**

س فرق بين كل من :

ممكن أن يظهر السؤال في صيغ اخرى: عرف أكمل اختياري

الودائع المصرفية	القروض
المبالغ النقدية المستحقة لعملاء البنك من أفراد ومؤسسات مقابل الحصول على عائد نقدي	تزويد الأفراد والمؤسسات بالمبالغ النقدية المطلوبة على أن يتعهد المدين بسدادها وفوائدها

KuwaitTeacher.Com

اختر الإجابة الصحيحة :

س المؤسسات المالية التي تقبل الودائع من الأفراد والمؤسسات وتستخدمها في منح القروض والسلف :

- ○ **البنوك التجارية**
- ○ البنوك المتخصصة
- ○ البنك المركزي
- ○ البنك الدولي

س المبالغ النقدية المستحقة لعملاء البنك من أفراد ومؤسسات مقابل الحصول على عائد نقدي :

- ○ القروض
- ○ **الودائع المصرفية**
- ○ شهادات الإيداع
- ○ السندات

س تزويد الأفراد والمؤسسات بالمبالغ النقدية المطلوبة على أن يتعهد المدين بسدادها وفوائدها :

- ○ **القروض**
- ○ الودائع المصرفية
- ○ شهادات الإيداع
- ○ السندات

س ليست من وظائف البنوك التجارية :

- ○ قبول الودائع
- ○ خلق النقود
- ○ **إصدار العملة**
- ○ تقديم القروض

عرف

البنوك المتخصصة

المؤسسات المالية التي لا تزاول نشاط البنوك التجارية وتهتم فقط بإنعاش قطاعات محددة في الاقتصاد

س علل - أهمية البنوك المتخصصة

توفير القروض لخدمة نوع محدد من الأنشطة الاقتصادية كالنشاط الصناعي أو الزراعي وغيرها من الأنشطة المهمة في تنمية الاقتصاد

س تختلف البنوك المتخصصة عن البنوك التجارية

- ليس من أعمالها قبول الودائع من الأفراد
- لا تقوم بالعمليات المصرفية التي تقوم بها البنوك التجارية

UULA
معلم الكويت
Kuwaitteacher.Com

© جميع الحقوق محفوظة

أكمل

س تقتصر العمليات المصرفية في البنوك المتخصصة على _ **توفير القروض** _ _

اختياري

س البنوك المتخصصة توفر القروض ذات الأجل :

○ **طويل** ○ محدود
○ متوسط ○ قصير

س فرق بين كل من :

البنوك التجارية	البنوك المتخصصة
المؤسسات المالية التي تقبل الودائع من الأفراد والمؤسسات وتستخدمها في منح القروض والسلف	المؤسسات المالية التي لا تزاول نشاط البنوك التجارية وتهتم فقط بإنعاش قطاعات محددة في الاقتصاد

س فرق بين كل من :

المعيار	البنوك التجارية	البنوك المتخصصة
الوظائف	قبول الودائع - خلق النقود تقديم التسهيلات الائتمانية	توفير القروض لخدمة نوع محدد من الأنشطة الاقتصادية مثل النشاط الزراعي
الأدوات	▪ الودائع ▪ القروض	▪ سوق رأس المال ▪ الاقتراض من البنوك المركزية
فترة التمويل	قصيرة الأجل - طويلة الأجل	طويلة الأجل

تـــدرب و تـفـوق
اختبارات الكترونية

صفوة الكويت
KuwaitTeacher.Com

التبادل التجاري وأهميته

س عدد - الأبعاد التي تميز علاقات الدول بعضها ببعض

- البعد السياسي
- البعد الاجتماعي
- البعد الثقافي
- التعاملات الاقتصادية والتجارية

س علل - تتميز علاقات الدول من خلال تعاملاتها الاقتصادية والتجارية

- الأفراد يقومون بشراء سلع وخدمات غير منتجة في الدولة ذاتها بل تم إنتاجها بدولة أخرى
- انتقال السلع والخدمات خارج الحدود الجغرافية يعزز مفهوم التبادل التجاري بين الدول

أكمل

س المفهوم الذي يعززه انتقال السلع والخدمات خارج الحدود الجغرافية للدولة يسمى _ **التبادل التجاري** _

عرف

التبادل التجاري

تبادل السلع والخدمات بين الدول بغرض تحقيق المنفعة في الحصول على احتياجاتها من السلع والخدمات

س علل - قيام التبادل التجاري بين الدول

عدم وجود دولة في العالم تستطيع أن تستقل اقتصادياً عن توفير حاجاتها من السلع والخدمات من الدول الأخرى

معلمي الكويت
صفوة
KuwaitTeacher.Com

© جميع الحقوق محفوظة

س دلل - " لا يوجد دولة في العالم تستطيع أن تستقل اقتصادياً عن توفير حاجاتها من السلع من الدول الأخرى "

- الولايات المتحدة الأمريكية تقوم بتزويد معظم دول العالم من السلع الزراعية كالقمح والصناعية كالسيارات
- لا تستطيع الولايات المتحدة أن تستغني عن حاجاتها من سلع الدول الأخرى كبعض السلع الاستهلاكية

س عدد - مقومات التبادل التجاري

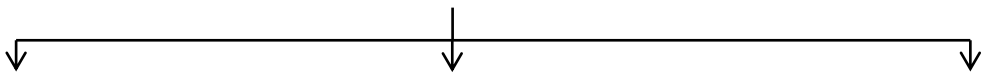

التخصص في الإنتاج | الفروقات الجغرافية والمناخية في الإنتاج | الحاجة للمواد الأولية

عرف

التخصص في الإنتاج

قدرة الدولة على إنتاج سلعة بأقل كلفة وأكثر كفاءة مقارنة بالدول الأخرى

س دلل - التخصص في الإنتاج أحد مقومات التبادل التجاري

- تخصص بعض الدول الأوروبية واليابان في إنتاج السلع الصناعية مقارنة مع غيرها من الدول في الشرق الأوسط وأفريقيا
- بعض الدول معروف عنها وجود متخصصين في مجال التعليم وأخرى بالخدمات الصحية وأخرى بالعطور

س علل - الفروقات الجغرافية والمناخية أحد مقومات التبادل التجاري

لها دور كبير في قدرة بعض الدول على إنتاج سلع معينة

س دلل - الفروقات الجغرافية والمناخية أحد مقومات التبادل التجاري

دول مجلس التعاون الخليجي تتمتع بظروف مُناخية وجغرافية يجعلها أكبر منتجي النفط الخام في العالم

UULA
صفوة الكويت
KuwaitTeacher.Com

© جميع الحقوق محفوظة

أكمل العبارات التالية :

ممكن أن يظهر السؤال في صيغ اخرى: اختياري عرف

س الدول التي تتمتع بظروف مناخية وجغرافية جعلتها أكبر منتج للنفط الخام بالعالم تسمى **دول مجلس التعاون الخليجي**

س قيام بعض الدول بجلب المواد الخام الأولية من الدول الأخرى لإنتاج السلع محلياً يسمى **الحاجة للمواد الأولية**

س دلل - الحاجة إلى توفير المواد الأولية أحد مقومات التبادل التجاري

اليابان والصين تستورد النفط الخام من دول الشرق الأوسط لإنتاج السلع لديها

أكمل

س التبادل التجاري يعتمد على تبادل السلع والخدمات من خلال الصادرات و **الواردات**

س قارن بين كل من :

ممكن أن يظهر السؤال في صيغ اخرى: عرف اختياري

المعيار	الصادرات	الواردات
المفهوم	قيام الدولة والأفراد ببيع السلع والخدمات المنتجة محلياً لدول أخرى	قيام الدولة أو الأفراد بشراء السلع والخدمات المنتجة خارج الدولة
أمثلة السلع	▪ تصدير الكويت النفط للصين ▪ الصين تصدر الإلكترونيات والملابس للكويت	▪ تستورد الكويت الملابس من الدول الأخرى ▪ تستورد المملكة المتحدة النفط من الكويت
أمثلة الخدمات	استخدام الركاب الأوروبيون الخطوط الجوية التابعة لدولة الكويت	تلقي الأفراد الكويتيون العلاج في مستشفيات المملكة المتحدة

معلمي الكويت
صفوة
KuwaitTeacher.Com

س قارن بين كل من :

ممكن أن يظهر السؤال في صيغ اخرى: أكمل اختياري

وجه المقارنة	منطقة التجارة الحرة الأوروبية	اتفاقية التجارة الحرة لشمال أمريكا
سنة التأسيس	1959م	1992م
الدول	سبع دول أوروبية	المكسيك, الولايات المتحدة الأمريكية , كندا

أكمل العبارات التالية :

س قيام الدولة والأفراد ببيع السلع والخدمات المنتجة محلياً لدول أخرى تسمى **الصادرات**

س قيام الدولة أو الأفراد بشراء السلع والخدمات المنتجة خارج الدولة تسمى **الواردات**

س علل - تسعى الدولة لزيادة قدرتها التصديرية

لتحقيق المردود المالي الذي يجعلها تسدد التزاماتها المالية من احتياجاتها من الواردات

س عدد - النتائج المترتبة على حجم الصادرات أقل من حجم الواردات في دولة ما

- تراجع مستوي الإنفاق الكلي
- تراجع الناتج المحلي الإجمالي
- تراجع حجم التوظيف في الاقتصاد
- انكماش في جميع قطاعات الاقتصاد

س علل - حدوث انكماش اقتصادي في جميع قطاعات الاقتصاد

- حجم الصادرات أقل من حجم الواردات
- تراجع مستوي الإنفاق الكلي
- تراجع الناتج المحلي الإجمالي
- تراجع حجم التوظيف في الاقتصاد

UULA
KuwaitTeacher.Com

© جميع الحقوق محفوظة

س عدد - النتائج المترتبة على حجم الصادرات أكبر من حجم الواردات في دولة ما

- تزايد في الإنفاق الكلي
- تزايد الناتج المحلي الإجمالي
- تزايد حجم التوظيف في الاقتصاد
- انتعاش في جميع قطاعات الاقتصاد

س علل - حدوث انتعاش اقتصادي في جميع قطاعات الاقتصاد

- حجم الصادرات أكبر من حجم الواردات
- تزايد في الإنفاق الكلي
- تزايد الناتج المحلي الإجمالي
- تزايد حجم التوظيف في الاقتصاد

س فرق بين النتائج المترتبة على كل من :

حجم الصادرات أقل من حجم الواردات	حجم الصادرات أكبر من حجم الواردات
▪ تراجع مستوي الإنفاق الكلي ▪ تراجع الناتج المحلي الإجمالي	▪ تزايد في الإنفاق الكلي ▪ تزايد الناتج المحلي الإجمالي

تـــدرب و تـفـوق
اختبارات الكترونية

معلمي الكويت
صفوة
KuwaitTeacher.Com

© جميع الحقوق محفوظة

قيود التبادل التجاري

س علل - وضع الدول عوائق على التبادل التجاري على كثير من السلع والخدمات

لأنها تعتمد على مبدأ المستفيدين أو الخاسرين من عملية التبادل التجاري سواء من جانب الصادرات أو جانب الواردات

س عدد - قيود التبادل التجاري

ممكن أن يظهر السؤال في صيغة اخرى: (عدد القيود على الصادرات والواردات)

- القيود الجمركية
- القيود غير الجمركية

س أكمل المخطط السهمي

ممكن أن يظهر السؤال في صيغة اخرى: عدد

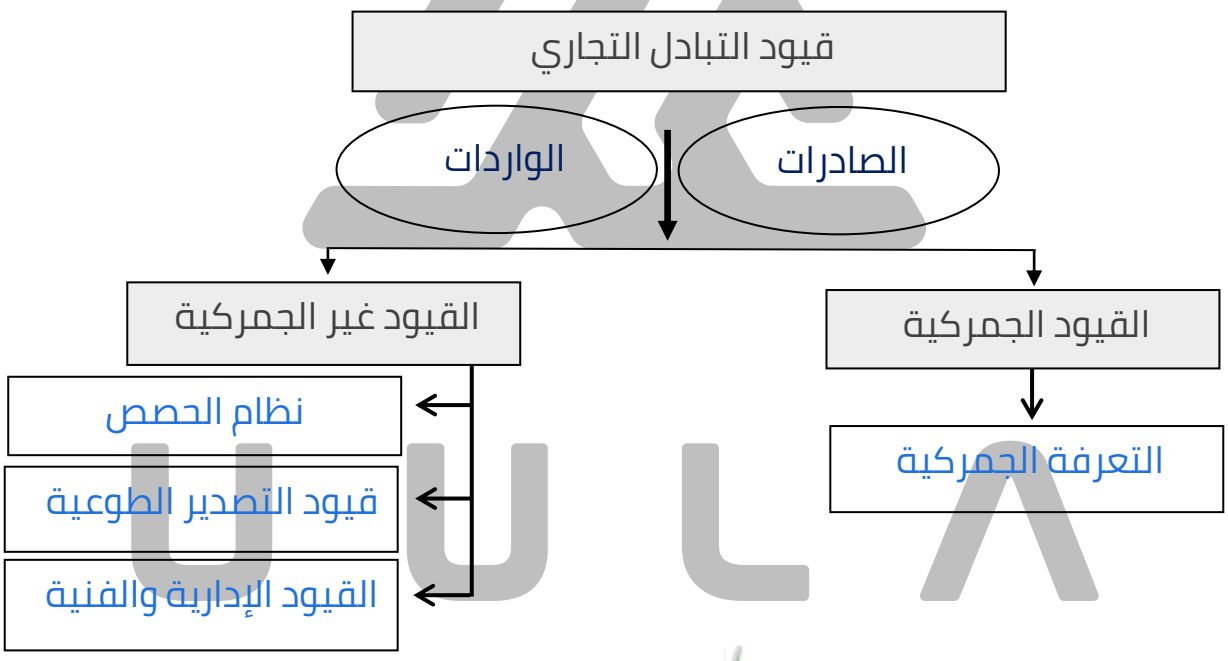

معلمي الكويت
صفوة
KuwaitTeacher.Com

جميع الحقوق محفوظة ©

عرف المفاهيم التالية :

ممكن أن يظهر السؤال في صيغ أخرى: عرف | فرق | اختياري

التعرفة الجمركية

ضريبة تفرض على السلعة في حال عبورها خارج الحدود الجغرافية للدولة أو في حالة دخولها الحدود الجغرافية للدولة

نظام الحصص

هو القيد الكمي على كمية أو قيمة السلع المسموح بتصديرها أو باستيرادها

قيود التصدير الطوعية

هو طلب الدولة المستوردة من الدولة المصدرة الحد من صادراتها من سلعه ما طوعاً

س علل - قيام الدول المستوردة بفرض قيود التصدير الطوعية

بسبب تهديد هذه الصادرات للصناعة المحلية للدولة

س اتفاق الولايات المتحدة مع اليابان لتقليل صادراتها من السيارات إليها

لتجنب الإضرار بصناعة السيارات في السوق الأمريكية

عرف

القيود الإدارية والفنية والتنظيمية

تشمل قيود أنظمة السلامة واللوائح الصحية والقيود المتعلقة بالقوانين واللوائح المحلية المرتبطة بالاستيراد

س عدد - أنواع القيود الإدارية والفنية والتنظيمية

- قيود أنظمة السلامة كالسيارات والإلكترونيات
- قيود اللوائح الصحية كالتعبئة والتغليف للمنتجات المستوردة
- والقيود المتعلقة بالقوانين واللوائح المحلية المرتبطة بالاستيراد

علل

س قيام حكومات الدول بفرض قيود على الصادرات من السلع والخدمات

- لحماية السوق المحلي من انخفاض معروض السلع
- عدم ارتفاع سعر السلع محلياً

UULA.COM
KuwaitTeacher.Com

© جميع الحقوق محفوظة

س قيام روسيا الاتحادية خلال فترات مختلفة بوضع قيود على تصدير الحبوب

- بسبب موجة الجفاف التي تعرضت لها
- تأمين توفير الحبوب للسوق المحلية

س قيام حكومات الدول بفرض قيود على الواردات من السلع والخدمات

لحماية السوق المحلية من منافسة السلع الأجنبية للسلع المحلية

س وضع الاتحاد الأوروبي قيود على الواردات الأمريكية من الحديد والصلب

- بسبب تضرر الشركات المحلية في أوروبا
- ردة فعل على القيود الأمريكية على صادرات الحديد والصلب من خارج الولايات المتحدة

س قيام اليابان بحظر الواردات الأمريكية من لحوم الأبقار

للتأكد من سلامتها

س استخدام حصص الاستيراد من قبل الدول الصناعية و الدول النامية

- استخدمت الدول الصناعية حصص الاستيراد لحماية الزراعة لديها
- استخدمت الدول النامية حصص الاستيراد لتحفيز إحلال الواردات من المنتجات المصنعة محلياً

أكمل العبارات التالية :

س أكثر أنواع القيود تطبيقاً من قبل دول العالم تسمى **القيود غير الجمركية**

س أكثر أنواع القيود غير الجمركية تطبيقاً من قبل الدول يسمى **نظام الحصص**

س القيود التي لا تحصل الدولة على عوائد من تطبيقها تسمى **غير الجمركية**

س الدولة التي تحصل على إيرادات عندما تطبق نوع من القيود يسمى **التعرفة الجمركية**



تـــدرب و تـفـوق
اختبارات الكترونية

UULA
صفوة الكويت
KuwaitTeacher.Com

أهمية الاتفاقيات التجارية

س علل - قيام الدول بإبرام الاتفاقيات التجارية

- كل دولة تسعى لزيادة حجم صادراتها
- حماية اقتصادها وتحقيق أقصى المنافع من التجارة الخارجية
- قيام نزاعات بين الدول نتيجة تطبيق القيود

عدد

س أهداف (فوائد) الاتفاقيات التجارية على اقتصاديات دول العالم

- زيادة حجم التبادل التجاري بين الدول
- تعزيز النمو الاقتصادي
- تحسين اختيار المستهلك
- تحسين مستوى المعيشة

س أنواع الاتفاقيات التجارية

- اتفاقيات منطقة التجارة الحرة
- اتفاقيات الاتحاد الجمركي

أكمل العبارات التالية :

س أكثر الاتفاقيات التجارية شيوعاً هي **اتفاقيات منطقة التجارة الحرة**

س اتفاقيات غالباً ما تبرم بين الدول أو الكتل الاقتصادية تسمى **اتفاقيات منطقة التجارة الحرة**

عدد

س أهداف اتفاقيات منطقة التجارة الحرة

- تسهيل التجارة البينية
- إزالة العوائق التجارية
- احتفاظ كل دولة بسياستها تجاه الدول الأخرى

س أسماء (أمثلة) اتفاقيات منطقة التجارة الحرة

- منطقة التجارة الحرة الأوروبية
- اتفاقية التجارة الحرة لشمال أمريكا

KuwaitTeacher.Com

جميع الحقوق محفوظة ©

اختر الإجابة الصحيحة :

س العام الميلادي الذي تأسست فيه منطقة التجارة الحرة الأوروبية

○ **1959م** ○ 1969م ○ 1979م ○ 1989م

س العام الميلادي الذي تأسست فيه اتفاقية التجارة الحرة لشمال أمريكا

○ 1962م ○ 1972م ○ 1982م ○ **1992م**

س عدد الدول في منطقة التجارة الحرة الأوروبية عام 1959م

○ 5 دول ○ 6 دول ○ **7 دول** ○ 8 دول

س الدول التي أبرمت اتفاقية التجارة الحرة لشمال أمريكا

○ كندا - هندوراس - الولايات المتحدة الأمريكية
○ **المكسيك - كندا - الولايات المتحدة الأمريكية**
○ كندا - المكسيك - هندوراس
○ كوبا - كندا - المكسيك

عرف

اتفاقيات الاتحاد الجمركي

اتفاقية تتبنى فيها الأعضاء سياسة خارجية تجارية موحدة

اختياري

س من اتفاقيات الاتحاد الجمركي :

○ منطقة التجارة الحرة الأوروبية
○ منطقة التجارة الحرة لشمال أمريكا
○ **الاتحاد الجمركي الخليجي**

أكمل العبارات التالية :

س اتفاقيات تجارية تفرض تعرفة جمركية موحدة على الدول خارج الاتحاد تسمى **اتفاقيات الاتحاد الجمركي**

س منطقة التجارة الحرة بين دول الخليج العربية تسمى **الاتحاد الجمركي الخليجي**

UULA
صفوة الكويت
KuwaitTeacher.Com

© جميع الحقوق محفوظة

س قارن بين كل من :

المقارنة	اتفاقيات منطقة التجارة الحرة	اتفاقيات الاتحاد الجمركي
أوجه الاختلاف	احتفاظ كل دولة بسياستها تجاه الدول الأخرى	تتبني الدول الأعضاء في هذا الاتحاد سياسة خارجية تجارية موحدة
أوجه التشابه	يمثلان منطقة تجارة حرة	
مثال	▪ منطقة التجارة الحرة الأوروبية	▪ الاتحاد الجمركي الخليجي

تـــدرب و تـفـوق
اختبارات الكترونية

معلمي الكويت
صفوة
KuwaitTeacher.Com

© جميع الحقوق محفوظة

مقومات الاقتصاد الكويتي

س علل - الاقتصاد الكويتي يعتبر من أهم اقتصاديات دول مجلس التعاون (دول الشرق الأوسط)

لأنه يملك مقومات وميزات تجعله يتمتع بقدرات ساهمت ببناء شكل وهيكل مميز لهذا الاقتصاد

أكمل

س السياسات والقواعد العامة لرسم ملامح الاقتصاد الكويتي حددها **الدستور الكويتي**

عدد

س السياسات والقواعد العامة للاقتصاد الكويتي

ممكن أن يظهر السؤال في صيغ اخرى: (عدد- ملامح الاقتصاد الكويتي)
أثبت صحة العبارة " حدد الدستور الكويتي السياسات والقواعد العامة للاقتصاد الكويتي "

- يقوم على أساس حرية ممارسة النشاط الاقتصادي
- يقوم على أساس العدالة الاجتماعية بين أفراد المجتمع

س عدد - مقومات (ركائز) الاقتصاد الكويتي

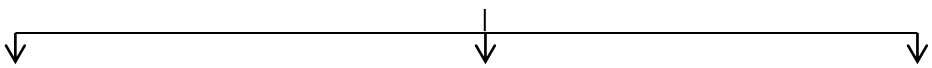

الموارد الطبيعية | الموقع الجغرافي | رأس المال البشري

دلل على صحة العبارة

س " تعتبر المواد الطبيعية من مقومات الاقتصاد الكويتي "

- يساهم انتاج النفط 50 % من الناتج المحلي الإجمالي
- الصادرات النفطية حوالي 95% من صادرات الكويت
- تمثل الايرادات النفطية 93 % من الميزانية العامة للدولة

UULA
صفوة الكويت
KuwaitTeacher.Com

© جميع الحقوق محفوظة

أكمل العبارات التالية :

س المورد الطبيعي الذي يمثل العصب الأساسي للاقتصاد الكويتي يسمى **النفط**

س تعتبر الصادرات النفطية الكويتية أهم مصادر الطاقة للدول المتقدمة و **الصناعية**

اختر الإجابة الصحيحة :

س نسبه مساهمة إنتاج النفط من الناتج المحلي الإجمالي لدولة الكويت الدائرة البيانية التي تحمل الحرف :

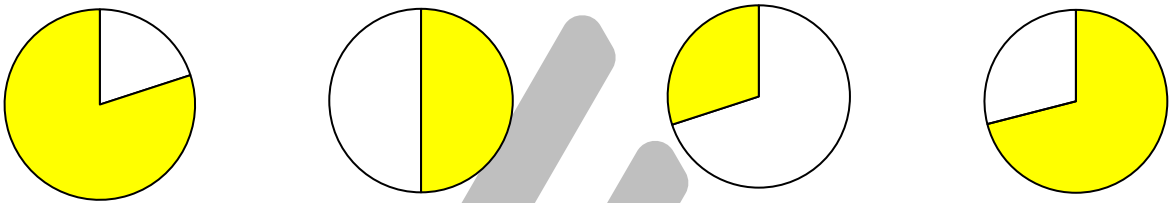

○ أ ○ ب ○ **ج** ○ د

س نسبة الصادرات النفطية من إجمالي صادرات دولة الكويت :

○ %80 ○ % 85 ○ %90 ○ **%95**

س نسبة الإيرادات النفطية من الإيرادات العامة للميزانية العامة لدولة الكويت :

○ %90 ○ % 91 ○ %92 ○ **%93**

س عدد - مميزات الاقتصاد الكويتي

- صغر حجم الاقتصاد
- اقتصاد مفتوح مع دول العالم الخارجي

س علل - يعتبر الموقع الجغرافي من مقومات الاقتصاد الكويتي

- ساهم في ازدهار النشاط التجاري
- ساهم في تعزيز الحياة الاقتصادية
- جعل دولة الكويت مركزاً استراتيجياً للتجارة

UULA
صفوة الكويت
KuwaitTeacher.Com

© جميع الحقوق محفوظة

س علل - الموقع الجغرافي جعل دولة الكويت مركزاً استراتيجياً للتجارة

- الموقع المتميز بعد اكتشاف النفط وقربه من دول شرق آسيا في تصدير النفط
- وصله الربط بين أوروبا وأفريقيا من جهة وآسيا الوسطى وشبة القارة الهندية من جهة أخرى



س علل - أهمية قيام المتعلم بدراسة أساسيات جميع العلوم في المراحل الاثنتي عشرة

- للحصول على معلومات تساعده في دراسته الجامعية
- الذهاب لسوق العمل بقاعدة معرفية تؤهله للقيام بالأعمال
- القدرات المعرفية والتقنية التي استفاد منها تنعكس على جودة الإنتاج في الاقتصاد

س علل - أهمية مفهوم رأس المال البشري

- ليس جميع الموظفين لديهم نفس القدرات والمهارات
- يمكن تحسين جودة أدائهم بالاستثمار الصحيح
- الموظف المثالي له قيمة اقتصادية على مستوى عمله والاقتصاد ككل

UULA
صفوة الكويت
KuwaitTeacher.Com

© جميع الحقوق محفوظة

س عدد - أهم أسس بناء الموظف المثالي

- التعليم
- الخبرة
- المهارات المكتسبة

س علل - يعتبر رأس المال البشري من مقومات الاقتصاد الكويتي

لأن دولة الكويت تتميز بوجود طبقة من المتعلمين وهم ركيزة أساسية لتحسن ممارسة الأعمال وتطوير الاقتصاد

تـــدرب و تـفـوق
اختبارات الكترونية



معلمي الكويت
صفوة
KuwaitTeacher.Com

© جميع الحقوق محفوظة

أهم المؤسسات ذات الطابع الاقتصادي في دولة الكويت

س علل - أهمية المؤسسات ذات الطابع الاقتصادي في دولة الكويت

لها دور مهم في تحسين أداء الاقتصاد المحلي
تحقيق النمو والتنمية الاقتصادية

س عدد - المؤسسات ذات الطابع الاقتصادي في دولة الكويت

- الأمانة العامة للمجلس الأعلى للتخطيط والتنمية
- وزارة المالية
- الهيئة العامة للصناعة
- الإدارة العامة للجمارك
- سوق الكويت للأوراق المالية
- بنك الكويت المركزي
- وزارة التجارة والصناعة
- هيئة سوق المال

عرف

الأمانة العامة للمجلس الأعلى للتخطيط والتنمية

هيئة حكومية أنشئت لوضع رؤية دولة الكويت التنموية وهي مسؤولة عن إعداد استراتيجية التنمية

س علل - إنشاء الأمانة العامة للمجلس الأعلى للتخطيط والتنمية

أنشئت لوضع رؤية دولة الكويت التنموية

س عدد - مسؤوليات الأمانة العامة للمجلس الأعلى للتخطيط والتنمية

- إعداد استراتيجية التنمية للدولة على المستوى الكلي
- إعداد برنامج العمل الحكومي

UULA
صفوة الكويت
KuwaitTeacher.Com

© جميع الحقوق محفوظة

عرف

بنك الكويت المركزي

هو البنك الرسمي لحكومة دولة الكويت وله دور مهم في تحقيق الاستقرار الاقتصادي للدولة

س علل - أهمية بنك الكويت المركزي

- تحقيق الاستقرار الاقتصادي للدولة
- تطوير النظم المصرفية والنقدية
- الإشراف والرقابة على النظام المصرفي في دولة الكويت

عرف

وزارة المالية

جهة حكومية معنية بشؤون المالية العامة في الدولة وإعداد الميزانية العامة للدولة

الهيئة العامة للاستثمار

الذراع الاستثماري لحكومة دولة الكويت ومسؤولة عن إدارة صندوق الاحتياطي العام للدولة

أكمل العبارات التالية :

ممكن أن يظهر السؤال في صيغة أخرى: اختياري

س الذراع الاستثماري لحكومة دولة الكويت تسمى **الهيئة العامة للاستثمار**

س هيئة حكومية مستقلة مسؤولة عن إدارة صندوق الاحتياط العام لدولة الكويت تسمى **الهيئة العامة للاستثمار**

س هيئة حكومية مستقلة مسؤولة عن إدارة صندوق احتياطي الأجيال القادمة نيابة عن حكومة دولة الكويت تسمى **الهيئة العامة للاستثمار**

UULA
معلمة الكويت
KuwaitTeacher.Com

© جميع الحقوق محفوظة

عرف

الهيئة العامة للصناعة

ممكن أن يظهر السؤال في صيغة اخرى: (علل أهمية الهيئة العامة للصناعة)

هيئة عامة مستقلة معنية بتشجع وتطوير الصناعة المحلية وأنشطتها المختلفة

أكمل العبارات التالية :

ممكن أن يظهر السؤال في صيغة اخرى: اختياري

س هيئة عامة مستقلة هدفها توسيع القاعدة الإنتاجية للاقتصاد الوطني الكويتي تسمى الهيئة العامة للصناعة

س الصورة المقابلة تمثل مؤسسة ذات طابع اقتصادي في دولة الكويت تسمى الهيئة العامة للصناعة

عرف

وزارة التجارة والصناعة

جهة حكومية معنية بشؤون التجارة وتنظيم الصناعة في الدولة

س عدد - مسؤوليات وزارة التجارة والصناعة

ممكن أن يظهر السؤال في صيغ أخرى: اختياري أكمل

- دعم الأنشطة التجارية
- توفير مستلزمات واحتياجات المجتمع من السلع والمواد

عرف

سوق الكويت للأوراق المالية

السوق المالي بالدولة الخاص بتداول الأوراق المالية (الأسهم)

KuwaitTeacher.Com

أكمل العبارات التالية :

ممكن أن يظهر السؤال في صيغة اخرى: اختياري

س يطلق على سوق الكويت للأوراق المالية اسم _ بورصة الكويت _



س الصورة المقابلة لمؤسسة ذات طابع اقتصادي في الكويت تسمى _ بورصة الكويت (سوق الكويت للأوراق المالية) _

عرف

هيئة سوق المال



هيئة حكومية مستقلة تشرف على تنظيم وتطوير أنشطة الأوراق المالية وإصدار اللوائح المرتبطة بها

أكمل العبارات التالية :



س الصورة المقابلة لمؤسسة ذات طابع اقتصادي في الكويت تسمى _ هيئة سوق المال _

عرف

الإدارة العامة للجمارك

هيئة حكومية مستقلة مسؤولة عن مراقبة دخول وخروج البضائع وفقاً للوائح والتشريعات

اختياري



س الصورة المقابلة تمثل مؤسسة ذات طابع اقتصادي في دولة الكويت :

- ○ **الإدارة العامة للجمارك**
- ○ وزارة المالية
- ○ الهيئة العامة للاستثمار
- ○ الهيئة العامة للصناعة

س فرق بين كل من :

الهيئة العامة للصناعة	الهيئة العامة للاستثمار
هيئة عامة مستقلة معنية بتشجع وتطوير الصناعة المحلية وأنشطتها المختلفة	الذراع الاستثماري لحكومة دولة الكويت ومسؤولة عن إدارة صندوق الاحتياطي العام للدولة

KuwaitTeacher.Com

س اختر من المجموعة (أ) ما يناسبها من المجموعة (ب) بوضع الرقم المناسب

م	المجموعة (أ)	الرقم	المجموعة (ب)
1	جهة حكومية معنية بشؤون المالية العامة في الدولة وإعداد الميزانية العامة للدولة	4	الإدارة العامة للجمارك
2	تعتبر الذراع الاستثماري لحكومة دولة الكويت	---	وزارة التجارة والصناعة
3	هيئة عامة مستقلة معنية بتشجيع وتطوير الصناعة المحلية وأنشطتها	2	الهيئة العامة للاستثمار
4	هيئة حكومية مستقلة مسؤولة عن مراقبة دخول البضائع وخروجها	3	الهيئة العامة للصناعة
		1	وزارة المالية

تـــدرب و تـفـوق
اختبارات الكترونية

معلمي الكويت
صفوة
KuwaitTeacher.Com

تحديات ومستقبل الاقتصاد الكويتي

س علل - أهمية التعرف على التحديات التي تعيق تطوير الاقتصاد الكويتي

- معالجة الاختلالات الموجودة في اقتصاد الكويت
- يساعد على تحقيق نقلة نوعية في أداء الاقتصاد المحلي

دلل على صحة العبارة

س " هناك تحديات أساسية تعيق تطوير وتحسين الاقتصاد الكويتي "

ممكن أن يظهر السؤال في صيغ اخرى: عدد | مخطط سهمي

- النفط مصدر غير متجدد
- تنويع مصادر الدخل

س دلل - النفط مصدر غير متجدد

ممكن أن يظهر السؤال في صيغ اخرى: (دلل - سيأتي يوم قريب أو بعيد ينضب معه مورد النفط في دولة الكويت) – (علل- أهم أولويات الاقتصاد الكويتي البحث عن مصادر بديلة للنفط)

- كمياته الموجودة تحت الأرض محدودة
- استهلاك كل برميل يعني انخفاض المخزون النفطي الموجود في باطن الأرض

س عدد - طرق تنويع مصادر الدخل بعيداً عن النفط لدولة الكويت

- استغلال المقومات الحالية للاقتصاد
- إيجاد المصادر البديلة
- التنمية البشرية

س فسر - أهمية تنويع مصادر الدخل بعيداً عن النفط لدولة الكويت

ضمان استمرار الحياة الكريمة والرفاهية لأبناء الشعب الكويتي

س علل - استغلال المقومات الحالية للاقتصاد الكويتي من طرق تنويع مصادر الدخل

- الموقع الاستراتيجي المتميز يؤهلها لدور الوسيط التجاري
- الاستفادة من الطبيعة البحرية والجزر الكويتية
- الاستفادة من الاحتياطات الهائلة من فائض إيرادات النفط
- الاستفادة من رأس المال البشري

KuwaitTeacher.Com

جميع الحقوق محفوظة ©

ما تفسيرك

س ليس من المنطقي أن تفكر الكويت بتصنيع السيارات

ممكن أن يظهر السؤال في صيغة اخرى:
(علل- لا يمكن للكويت منافسة الدول الأخرى في صناعة السيارات)

- ارتفاع أسعار العمالة الكويتية
- قلة عدد السكان

س عدد المصادر البديلة لتنويع مصادر الدخل في دولة الكويت

- بيع المشتقات النفطية
- بناء مصافي تكرير نفط جديدة
- تحويل الكويت لمركز مالي وتجاري
- أن تكون الكويت واجهة سياحية إقليمية

ما النتائج المترتبة على

س بيع المشتقات النفطية بدلاً من النفط الخام

- زيادة إيرادات دولة الكويت
- إيجاد فرص عمل جديدة للمواطنين
- تنشيط عجلة الاقتصاد من خلال الصناعات ذات العلاقة كالنقل البحري

س علل - تمتلك الكويت مقومات حالية تحول الكويت لمركز مالي وتجاري

- الموقع الاستراتيجي يجعلها مركز للتبادل التجاري بين الشرق الأقصى والشرق الأوسط
- الكويت مؤهلة لتكون البوابة التجارية لدولتي العراق وإيران
- متانة الوضع المالي الكويتي



Kuwaitteacher.Com

© جميع الحقوق محفوظة

س عدد - المقومات التي تمتلكها الكويت لتكون وجهة سياحية إقليمية

- الجزر الكويتية
- الشواطئ الجميلة
- تمتلك تاريخاً حضارياً وآثاراً تجعلها وجهة للسياح

س عدد - أهم المميزات البشرية التي تمتلكها دولة الكويت

- دولة الكويت من أكثر دول العالم في نسبة المواطنين الحاصلين على مؤهلات علمية
- الأقل بين دول العالم في معدلات الأمية
- توفير البيئة المناسبة لشباب الكويت للقيام بالإبداع والابتكار
- إيجاد أفكار وطرق جديدة مما يحسن إنتاجية العمل

عرف

التنمية البشرية

هي كمية ونوعية المعرفة ومواكبتها للعصر الذي نعيشه وتهيئتها للمستقبل المتسارع

أكمل :

س عماد أي دولة والركيزة الأهم في أي اقتصاد هم **البشر**

فسر العبارة

س " تنمية البشر أهم وأسمى من تنمية الحجر "

البشر والعقل البشري وتطوره هو من يخلق التطور في المجالات الأخرى

س عدد - تجارب الدول الأخرى في التنمية البشرية

- تجربة اليابان
- تجربة كوريا الجنوبية

س علل - تبني الحكومة اليابانية خيار التنمية البشرية بعد الحرب العالمية الثانية

- خرجت بهزيمة مذلة محملة بالدمار والديون
- لم تمتلك أي موارد طبيعية إلا العنصر البشري

UULA
صوت الكويت
KuwaitTeacher.Com

س دلل - اليابان لها تجربة رائدة في التنمية البشرية (أكمل – اختياري)

- البداية بعد الحرب العالمية الثانية عام 1945م
- تبنت خيار التنمية البشرية وتطوير التعليم
- أصبحت ثاني أكبر اقتصاد عالمي بعد الولايات المتحدة
- متوسط دخل الفرد عام 2013م 23000 دولار أمريكي

اختر الإجابة الصحيحة

س الحرب التي بدأت بعدها اليابان تجربتها في التنمية البشرية

○ الحرب اليابانية الروسية ○ الحرب اليابانية الصينية
○ الحرب العالمية الأولى ○ **الحرب العالمية الثانية**

س العام الميلادي الذي بدأت فيه اليابان تجربتها في التنمية البشرية

○ 1942م ○ 1943م ○ 1944م ○ **1945م**

س متوسط دخل الفرد في اليابان عام 1945م لم يتجاوز (بالدولار) :

○ **1340** ○ 1345 ○ 1350 ○ 1355

س متوسط دخل الفرد في اليابان تضاعف بين عامي 1945م – 2013م :

○ 10 أضعاف ○ 15 ضعف ○ **20 ضعف** ○ 25 ضعف

س ثاني أكبر اقتصاد عالمي بعد الولايات المتحدة الأمريكية عام 2013م

○ روسيا ○ الصين ○ **اليابان** ○ إنجلترا

أكمل :

س الشكل المقابل يمثل المقارنة التاريخية لمتوسط دخل الفرد في دولة تسمى **اليابان**

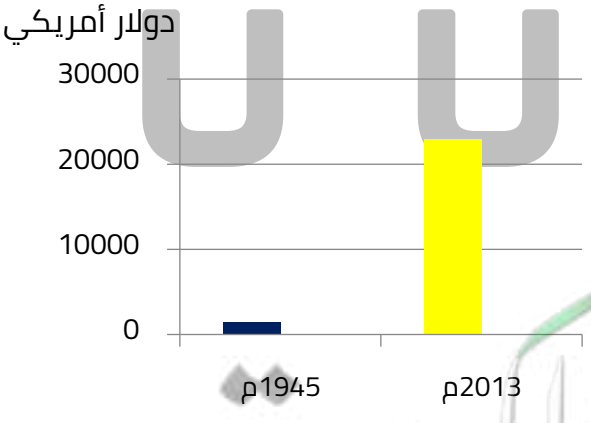

KuwaitTeacher.Com

س دلل - كوريا الجنوبية لها تجربة رائدة في التنمية البشرية

- البداية بعد الحرب الكورية عام 1950 م
- الاستفادة من التجربة اليابانية
- كوريا لا تملك أي مقومات اقتصادية طبيعية
- تبنت خطة طويلة المدى بالتنمية البشرية وتطوير المناهج
- تضاعف دخل الفرد 22 مرة وصل إلى 20 ألف دولار عام 2013م

اختر الإجابة الصحيحة

س العام الميلادي الذي خرجت فيه كوريا الجنوبية من الحرب الكورية

○ 1945م ○ **1950م** ○ 1955م ○ 1960م

س الدولة التي بلغ متوسط دخل الفرد فيها عام 1950م 850 دولار أمريكي

○ روسيا ○ عمان ○ **كوريا الجنوبية** ○ كوريا الشمالية

س الدولة استفادت منها كوريا الجنوبية في تجربتها في التنمية البشرية

○ فرنسا ○ روسيا ○ **اليابان** ○ الصين

أكمل :

س الشكل المقابل يمثل المقارنة التاريخية لمتوسط دخل الفرد في دولة تسمى **كوريا الجنوبية**

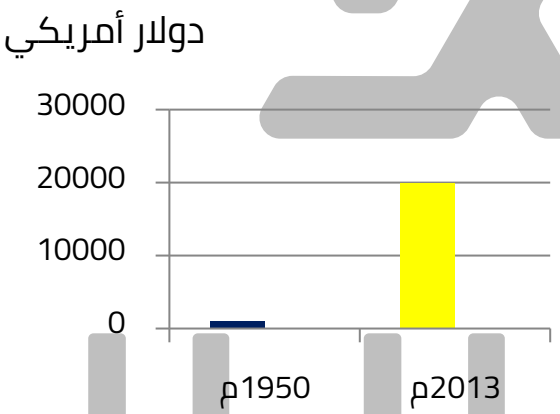

س اكتب عن دور الفرد في مستقبل الاقتصاد

- كل متعلم يجتهد في التحصيل العلمي
- الإخلاص وإتقان العمل
- لا بد أن تكون خياراتنا مبنية على اختيار الأصلح بين الخيارات المتاحة
- ما يحمله الفرد من علم وأفكار تساهم في صنع مستقبل أفضل لوطنك
- أن نساهم ببناء مستقبل أفضل

تـــدرب و تـفـوق

اختبارات الكترونية

KuwaitTeacher.Com

© جميع الحقوق محفوظة

المشاريع الصغيرة مفاهيم وأهميه

علل

س قيام الحكومة بإنشاء المشاريع

- النهوض باقتصاد الدولة
- تحقيق أهداف خطط التنمية
- توفير المستلزمات الأساسية للمجتمع التي لا يوفرها قطاع الأعمال كالشوارع

س قيام الشركات الكبرى بإقامة المشاريع

تهدف لجني الأرباح وزيادتها

س قيام الأفراد بإنشاء المشاريع الصغيرة

لاستخدام مدخراتهم المالية أو قروضهم المصرفية بحسب إمكانياتهم لتحقيق مكاسب مادية

أكمل :

س يطلق على صاحب المشروع الصغير في عالم الاستثمار والأعمال والإدارة مصطلح **الريادي (المنظم)**

س علل - يطلق على صاحب المشروع الصغير اسم الريادي (المنظم)

لأنه أحد الموارد الاقتصادية (عناصر الإنتاج) الرئيسية

س اكتب الصفات التي يمتلكها الريادي (المنظم)

صفات شخصية وسلوكية ومهارات إدارية لتحمل مسؤولية إقامة المشروع ويتحمل مخاطرة تحقيق الربح أو الخسارة

س عدد - معايير تصنيف المشاريع الصغيرة

- مكان مزاولة النشاط
- المواد الأولية المستخدمة
- عدد العمال في المشروع
- محيط التسوق للمنتج

KuwaitTeacher.Com

جميع الحقوق محفوظة ©

س صمم مشروع من اختيارك وحدد فيه أهم احتياجاتك لإنجاح المشروع مع ذكر المعايير

المشروع	المكان	عدد العمال	المواد الأولية	السوق
صناعة الحلويات	المنزل	أقل من 3	محلية رخيصة	الأسرة والأقارب

س علل - أهمية المشاريع الصغيرة في الاقتصاد

- وسيلة لزيادة حجم إنتاج السلع والخدمات
- نواة لمشاريع كبرى
- مصدر مهم للنشاط والنمو الاقتصادي

دلل على صحة العبارة

س " تساهم المشاريع الصغيرة في الاقتصاد المحلي "

ممكن أن يظهر السؤال في صيغة اخرى: (عدد - صمم خريطة ذهنية لمساهمات المشاريع الصغيرة)

- الحد من البطالة
- وجود صناعات بديلة
- المساهمة في تعزيز الصادرات
- المساهمة في زيادة دخل الأفراد

علل

س المشاريع الصغيرة تساهم في الحد من البطالة

لأنها تقوم بتوظيف العمالة من خلال خلق فرص عمل جديدة

س المشاريع الصغيرة تساهم في وجود صناعات بديلة

من خلال تبني صناعة جديدة لمنتجات وسلع قد تكون بديلاً جيداً للاعتماد على الواردات

س المشاريع الصغيرة تساهم في تعزيز الصادرات

- تقوم بتطوير وابتكار سلع وخدمات قابلة للتصدير
- تزود الشركات الكبرى بالمواد الوسيطة التي تحتاج إليها لتصدير سلعها

س المشاريع الصغيرة تساهم في زيادة دخل الأفراد والقضاء على الفقر

- توظيف واستخدام مدخراتهم واستثماراتهم
- تحسن الناتج المحلي للدولة
- ترفع مستوى المعيشة للأفراد والمجتمع

تـــدرب و تـفـوق
اختبارات الكترونية
UULA
KuwaitTeacher.Com

© جميع الحقوق محفوظة

وسائل تمويل المشاريع الصغيرة و بعض التجارب الناجحة

أكمل :

س أساس إنشاء أي مشروع سواء مشروع كبير أو متوسط أو صغير هو _ **المال** _

س علل - المال أساس إنشاء أي مشروع سواء مشروع كبير أو متوسط أو صغير

- المال مفتاح النجاح لأصحاب المشاريع الصغيرة للوصول لطموحاتهم وتحقيق الربح
- تكوين الثروة لهم

س عدد - مصادر التمويل اللازمة لإقامة المشاريع الصغيرة

- مصادر تمويل داخلية مملوكة
- مصادر تمويل خارجية أو مقترضة
- الصندوق الوطني لرعاية وتنمية المشروعات الصغيرة والمتوسطة

س فرق بين مصادر تمويل المشروعات الصغيرة

ممكن أن يظهر السؤال في صيغة اخرى: عدد

مصادر تمويل داخلية مملوكة	مصادر تمويل خارجية أو مقترضة	الصندوق الوطني لرعاية المشروعات الصغيرة
▪ مدخراته وأمواله الخاصة ▪ المنح من بعض الجهات الداعمة له	▪ الاقتراض من البنوك التجارية ▪ الاقتراض من الأشخاص سواء العائلة أو الأقارب	صندوق تم إنشاؤه في دولة الكويت عام 2013 بهدف دعم ورعاية المشروعات الصغيرة وتقديم التمويل لأصحاب المشروعات الصغيرة

KuwaitTeacher.Com

جميع الحقوق محفوظة ©

أكمل العبارات التالية :

ممكن أن يظهر السؤال في صيغة اخرى: عرف

س حصول صاحب المشروع على التمويل اللازم لمشروعه الصغير من خلال مدخراته وأمواله الخاصة يسمى **مصادر تمويل داخلية (مملوكة)**

س حصول صاحب المشروع على التمويل اللازم لمشروعه الصغير من خلال الاقتراض من البنوك التجارية يسمى **مصادر تمويل خارجية (مقترضة)**

س الصندوق الذي تم إنشاؤه في دولة الكويت وفق القانون رقم 98 لسنة 2013 م يسمى **الصندوق الوطني لرعاية وتنمية المشروعات الصغيرة والمتوسطة**

س صندوق يهدف لدعم ورعاية المشروعات الصغيرة وتقديم التمويل لأصحاب المشروعات الصغيرة في الكويت يسمى **الصندوق الوطني لرعاية وتنمية المشروعات الصغيرة والمتوسطة**

اختياري :

س العام الميلادي الذي تم فيه إنشاء الصندوق الوطني لرعاية وتنمية المشروعات الصغيرة والمتوسطة

○ 2010م ○ 2011م ○ 2012م ○ **2013م**

س علل - إنشاء الصندوق الوطني لرعاية وتنمية المشروعات الصغيرة والمتوسطة في الكويت

- دعم ورعاية وتنمية المشروعات الصغيرة
- تقديم التمويل لأصحاب المشروعات الصغيرة والمتوسطة

س عدد - بعض التجارب الناجحة في المشاريع الصغيرة

ممكن أن يظهر السؤال في صيغة اخرى:
(المشاريع الصغيرة التي أصبحت أكبر المشاريع والشركات في العالم)

- لاعب الجري فيليب نايت ومدربة بيل باورمان
- هنري فورد

UULA.COM
© جميع الحقوق محفوظة

س أكتب عن تجربة فيليب نايت ومدربة بيل باورمان في المشاريع الصغيرة

ممكن أن يظهر السؤال في صيغ اخرى: أكمل اختياري

- فليب نايت طالب في جامعة أوريغون الأمريكية في أواخر الستينات من القرن العشرين
- فيليب نايت يعاني من عدم وجود الأحذية المستخدمة في تدريب الجري
- قرر إرسال بعض التصميمات لبعض المصانع لتنفيذها ولكنها رفضت تصنيعها
- اتخذ قرار بإنشاء شركة صغيرة هو و مدريه بيل باورمان برأس مال 300 دولار أمريكي لكل منهم (600 دولار)
- أصبحت الآن من أشهر العلامات التجارية الرياضية

اختياري

س رأس مال الشركة التي أسسها فيليب نايت وبيل باورمان

○ 300 دولار ○ 400 دولار ○ 500 دولار ○ **600 دولار**

س اكتب عن تجربة هنري فورد في المشاريع الصغيرة

ممكن أن يظهر السؤال في صيغ اخرى: أكمل اختياري

- تأسست عام 1896م على يد هنري فورد في مدينة ديربورن في ولاية ميشيغان الأمريكية
- بدأ بصنع عربة صغيرة بأربع عجلات هوائية وكانت من أول العربات التي تعمل بالبنزين
- طورها بإعادة تصميمها من حيث مقاس العجلات والشكل الخارجي
- أسس شركة لصناعة السيارات عام 1903م وشركاء آخرين برأس مال لا يتجاوز 28 ألف دولار أمريكي
- أصبحت الآن من أضخم العلامات التجارية في صناعة السيارات

أكمل العبارات التالية :

س تجربة ناجحة في المشاريع الصغيرة وأصبحت من أكبر الشركات الأمريكية في صناعة السيارات تسمى **تجربة هنري فورد**

س العام الميلادي الذي أسس فيه هنري فورد شركة صناعة السيارات **1896م**

س الصورة المقابلة تمثل **الشكل الأول لمركبة هنري فورد**



KuwaitTeacher.Com

© جميع الحقوق محفوظة

اختر الإجابة الصحيحة :

س العام الميلادي الذي أسس هنري فورد وشركاء أخرين شركة لتصنيع السيارات :

○ 1901م ○ 1902م ○ **1903م** ○ 1904م

س رأس مال شركة هنري فورد وشركاه عام 1903م (بالدولار الأمريكي) :

○ 22 ألف ○ 25 ألف ○ **28 ألف** ○ 31 ألف

س الشركة التي أسسها هنري فورد عام 1896م في صناعة :

○ الملابس الرياضية ○ **السيارات** ○ الطائرات ○ الهواتف المحمولة


تـــدرب و تـفـوق
اختبارات الكترونية

معلمي الكويت
صفوة
KuwaitTeacher.Com

© جميع الحقوق محفوظة

تجارب بعض الدول في دعم المشاريع الصغيرة

عدد

س تجارب بعض الدول في دعم المشاريع الصغيرة

- التجربة اليابانية
- التجربة الأمريكية
- التجربة الصينية
- التجربة الماليزية

أكمل

س تبنت الحكومة اليابانية قوانين داعمة للمشاريع الصغيرة في أوائل الستينات من القرن **العشرين**

علل

س قيام الحكومة اليابانية بتبني قوانين داعمة للمشاريع المتوسطة والصغيرة

- استقرار وديمومة المشاريع
- حمايتها من المنافسين لحين قدرتها على التفوق والمنافسة

دلل

س تعتبر المشاريع الصغيرة عصب النشاط الاقتصادي في اليابان

ممكن أن يظهر السؤال في صيغ اخرى: أكمل اختياري

- عدد المشاريع الصغيرة يمثل 99 % من إجمالي عدد المشاريع في القطاعات المختلفة
- تعتمد الصناعات الكبيرة على المشاريع الصغيرة بدرجة كبيرة

س تعتمد الصناعات الكبيرة في اليابان على المشاريع الصغيرة بدرجة كبيرة

ممكن أن يظهر السؤال في صيغ اخرى: أكمل اختياري

- يعتمد قطاع السيارات بنسبة 89% على المشاريع الصغيرة
- يعتمد قطاع صناعة الأدوات الكهربائية بنسبة 85 % على المشاريع الصغيرة

UULA
صفوة الكويت
KuwaitTeacher.Com

© جميع الحقوق محفوظة

اختر الإجابة الصحيحة :

ممكن أن يظهر السؤال في صيغة اخرى: أكمل

س عدد المشاريع الصغيرة في اليابان من إجمالي عدد المشاريع في القطاعات المختلفة يمثلها الجزء المظلل في الدائرة التي تحمل الحرف :

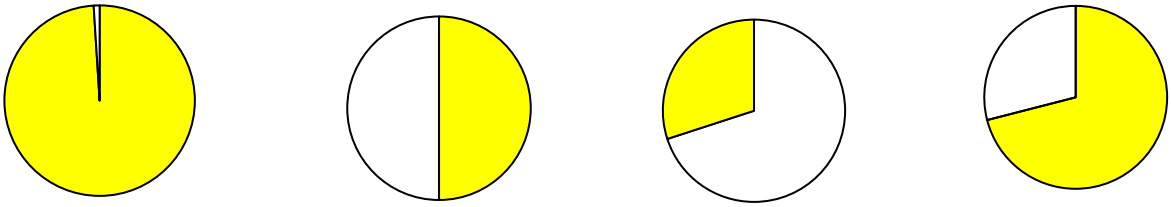

أ ○ ب ○ ج ○ **د** ○

س نسبة اعتماد قطاع صناعة السيارات في اليابان على المشاريع الصغيرة :

% 83 ○ % 86 ○ **% 89** ○ % 92 ○

س نسبة اعتماد قطاع صناعة الأدوات الكهربائية في اليابان على المشاريع الصغيرة

% 82 ○ **% 85** ○ % 88 ○ % 91 ○

س اكتب فيما درست عن التجربة اليابانية في دعم المشاريع الصغيرة

ممكن أن يظهر السؤال في صيغة اخرى: (دلل - اليابان لها تجربة رائدة في دعم المشاريع الصغيرة)

- تبنت الحكومة اليابانية قوانين داعمة للمشاريع الصغيرة في أوائل الستينات من القرن العشرين
- عدد المشاريع الصغيرة يمثل 99 % من إجمالي عدد المشاريع في القطاعات المختلفة
- يعتمد قطاع السيارات بنسبة 89% على المشاريع الصغيرة
- يعتمد قطاع صناعة الأدوات الكهربائية بنسبة 85 % على المشاريع الصغيرة

اختر الإجابة الصحيحة :

ممكن أن يظهر السؤال في صيغة اخرى: أكمل

س أقدم تجارب الدول في دعم المشاريع الصغيرة التجربة :

اليابانية ○ **الأمريكية** ○ الصينية ○ الماليزية ○

س التجربة الأمريكية في دعم المشاريع الصغيرة بدأت في القرن العشرين منذ أوائل

الخمسينات ○ الستينات ○ السبعينات ○ الثمانينات ○

UULA
Kuwaitteacher.Com

© جميع الحقوق محفوظة

س علل - وجود سياسة قومية موجهة نحو تشجيع المشاريع الصغيرة في الولايات المتحدة الأمريكية

- تعزيز الاقتصاد المحلي
- معالجة قضايا الانكماش الاقتصادي
- معالجة البطالة

أكمل

س الاقتصاد الأمريكي يميل إلى التوجه _ **الرأسمالي** _

س اكتب فيما درست عن التجربة الأمريكية في دعم المشاريع الصغيرة

ممكن أن يظهر السؤال في صيغة اخرى:
(دلل - الولايات المتحدة الأمريكية لها تجربة رائدة في دعم المشاريع الصغيرة)

- من أقدم التجارب بدأت منذ الخمسينات من القرن العشرين
- اعتمدت على وجود سياسة قومية موجهة نحو تشجيع المشاريع الصغيرة
- الاقتصاد الأمريكي وفر الحماية للمشاريع الصغيرة وعظم من شأنها

س علل - التجربة الصينية في المشاريع الصغيرة تتصف بتميزها عن باقي الدول

- تعتبرها الصين عنصراً مؤثراً لاستقرار الأسرة الصينية والمجتمع الصيني بأكمله
- قيام الحكومة بإنشاء عدد كبير من الحاضنات للمشروعات الصغيرة والمتوسطة داخل الشركات الضخمة المملوكة للدولة

س علل - قيام الحكومة الصينية بإنشاء عدد كبير من الحاضنات للمشروعات الصغيرة داخل الشركات الضخمة المملوكة للدولة

- لاحتضان المبادرين لإقامة مشروعات صغيرة جديدة تكنولوجية
- رغبتها في تطوير تكنولوجيا المعلومات والإلكترونيات في الدولة

س اكتب فيما درست عن التجربة الصينية في دعم المشاريع الصغيرة

ممكن أن يظهر السؤال في صيغة اخرى: (دلل - الصين لها تجربة رائدة في دعم المشاريع) الصغيرة

- تعتبرها الصين عنصراً مؤثراً لاستقرار الأسرة الصينية والمجتمع الصيني بأكمله
- قيام الحكومة بإنشاء عدد كبير من الحاضنات للمشروعات الصغيرة والمتوسطة داخل الشركات الضخمة المملوكة للدولة
- رغبتها في تطوير تكنولوجيا المعلومات والإلكترونيات في الدولة

UULA.COM
KuwaitTeacher.Com

© جميع الحقوق محفوظة

أكمل

س الدولة التي تميزت بتحولها من اقتصاد يعتمد على المواد الأولية الزراعية إلى اقتصاد يركز على وجود قاعدة صناعية تسمى _ _ _ **ماليزيا** _ _ _

س علل - بالرغم من حداثة تطوير المشاريع الصغيرة في ماليزيا استطاعت رسم أهداف تتوافق مع خطة التنمية الماليزية

- ربط إنشاء المشاريع الصغيرة مع البرامج الصناعية
- التوسع في الصناعات والمنتجات
- دعم القدرة التصديرية لماليزيا

س اكتب فيما درست عن التجربة الماليزية في دعم المشاريع الصغيرة

ممكن أن يظهر السؤال في صيغة اخرى: (دلل - ماليزيا لها تجربة رائدة في دعم المشاريع الصغيرة)

- تحول اقتصادها من اقتصاد يعتمد على المواد الأولية الزراعية إلى اقتصاد يركز على وجود قاعدة صناعية
- ربط إنشاء المشاريع الصغيرة مع البرامج الصناعية
- التوسع في الصناعات والمنتجات لدعم القدرة التصديرية

UULA
معلمي الكويت
صفوة
KuwaitTeacher.Com

© جميع الحقوق محفوظة

لاحظ الخريطة ثم اجب عما يليها من أسئلة :

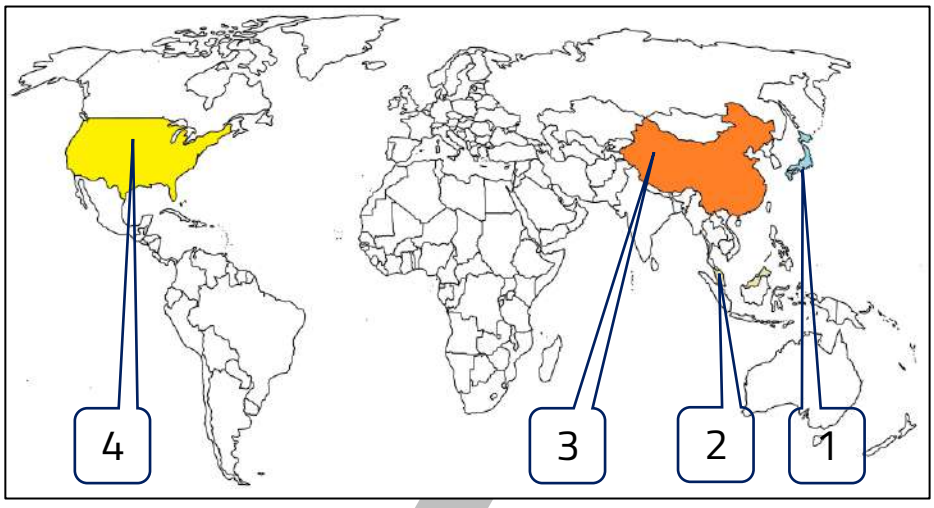

س الدولة التي بدأت تجربتها في دعم المشاريع الصغيرة في أوائل الخمسينات من القرن العشرين يمثلها الرقم **4**

س الدولة التي بدأت تجربتها في دعم المشاريع الصغيرة في أوائل الستينات من القرن العشرين يمثلها الرقم **1**

س الدولة التي تتصف تجربتها في دعم المشاريع الصغيرة بتميزها عن باقي الدول يمثلها الرقم **3**

س الدولة التي تميزت بتحول اقتصاد ها من الاعتماد على المواد الأولية الزراعية إلى اقتصاد يركز على وجود قاعدة صناعية يمثلها الرقم **2**

تـــدرب و تـفـوق
اختبارات الكترونية
UULA

معلمي الكويت
صفوة
KuwaitTeacher.Com

أهمية اقتصاد الأسرة وعلاقته بالاستقرار الأسري

س حاجات الأسرة متعددة ومتزايدة وفقاً لمعايير (اذكرها)

- حجم الأسرة
- الراتب
- المستوى الاجتماعي
- المستوى الثقافي

علل

س الأسرة وحدة اقتصادية لها دور فعال في الاقتصاد

ممكن أن يظهر السؤال في صيغ اخرى:
(علل - النشاط الاقتصادي أساسه الأسرة)
(علل - دور الأسرة في الاقتصاد لا يقل أهمية عن الوحدات الأساسية بالاقتصاد)

- الإنتاج يعتمد على الأسرة من خلال توفير العمالة اللازمة لعملية الإنتاج والتصنيع
- الاستهلاك يعتمد على الأسرة من خلال إنفاق المستهلكين

س بالرغم من اختلاف أدوار أفراد الأسرة بالاقتصاد إلا لكل فرد أهمية لا تقل عن الآخر

- وجود الأسرة بالاقتصاد قاعدة أساسية في الإنتاج والاستهلاك
- كل أسرة تهدف لتحقيق التوازن في وضعها الاقتصادي

س أهمية اقتصاد الأسرة

تمكين الأسرة من إدارة شئونها المالية بأكفأ صورة ممكنة

س عدد - أهداف اقتصاد الأسرة

- مساعدة الأسرة على تدبير أمورها المادية وفق إمكانياتها المالية
- توعية الفرد في تصرفاته الاستهلاكية
- وضع ميزانية للأسرة واتباع نظام للإنفاق الصحيح

س علل - من أهم أهداف اقتصاد الأسرة توعية الفرد في تصرفاته الاستهلاكية

لتكون تصرفاته الاستهلاكية مبنية على مبدأ الرشد والعقلانية والاعتدال في قرارات الشراء بحسب الحاجة

UULA
معلمي الكويت
KuwaitTeacher.Com

© جميع الحقوق محفوظة

س وجود علاقة بين اقتصاد الأسرة والاستقرار الأسري

- انسجام الأسرة فيما بينها اجتماعياً ومادياً يوفر لها التكيف في مواجهة ظروف الحياة
- إدارة الأسرة لأمورها المالية يساعدها للوصول للاستقرار الأسري
- استقرار الأسرة يأتي من خلال دور جميع أفرادها لأداء واجباتهم والتعاون لتحقيق السعادة

س ما النتائج المترتبة على غياب إدارة الأسرة لأمورها المالية

- عدة مشاكل
- عدم الاستقرار في تخطيطها لظروف حياتها المعاشية

س دلل - هناك حالات كثيرة من المشاكل يسببها الفشل في التخطيط الأسري

ممكن أن يظهر السؤال في صيغة اخرى: عدد

- ضعف أفراد الأسرة في تقدير أمورها المالية الذي يخلق المشاكل الأسرية
- التراخي في التخطيط لمستقبل الأسرة وعدم قدرتها على مواجهة ظروف الحياة

س عدد - السلوكيات الراشدة للأسرة لتحقيق الاستقرار الأسري

ممكن أن يظهر السؤال في صيغة اخرى: (عدد المؤشرات على الاتجاهات الاستهلاكية الرشيدة للأسرة)

- ترشيد استهلاك الكهرباء والماء
- ترشيد استهلاك الملابس والكماليات
- عدم الإسراف في الإنفاق على الحاجات المتعددة والإنفاق حسب الحاجة

س أفضل طرق ترشيد الماء والكهرباء في المنزل

- عدم الهدر في استخدام المياه
- استخدام الأجهزة التي تستهلك طاقة منخفضة
- تعلم الأبناء على إطفاء الأجهزة الكهربائية والمصابيح عند انتهاء الحاجة إليها

تـــدرب و تـفـوق
اختبارات الكترونية
UULA

أساسيات التخطيط المالي للأسرة

س علل - أهمية إدارة الأسرة لشؤونها المالية وتدبير مصروفاتها

يجعلها تحقق أقصى إشباع من السلع والخدمات ولكن بحدود دخلها المالي

س صمم خريطة ذهنية توضح فيها فوائد التخطيط المالي للأسرة

ممكن أن يظهر السؤال في صيغة اخرى: (عدد - فوائد التخطيط المالي للأسرة)

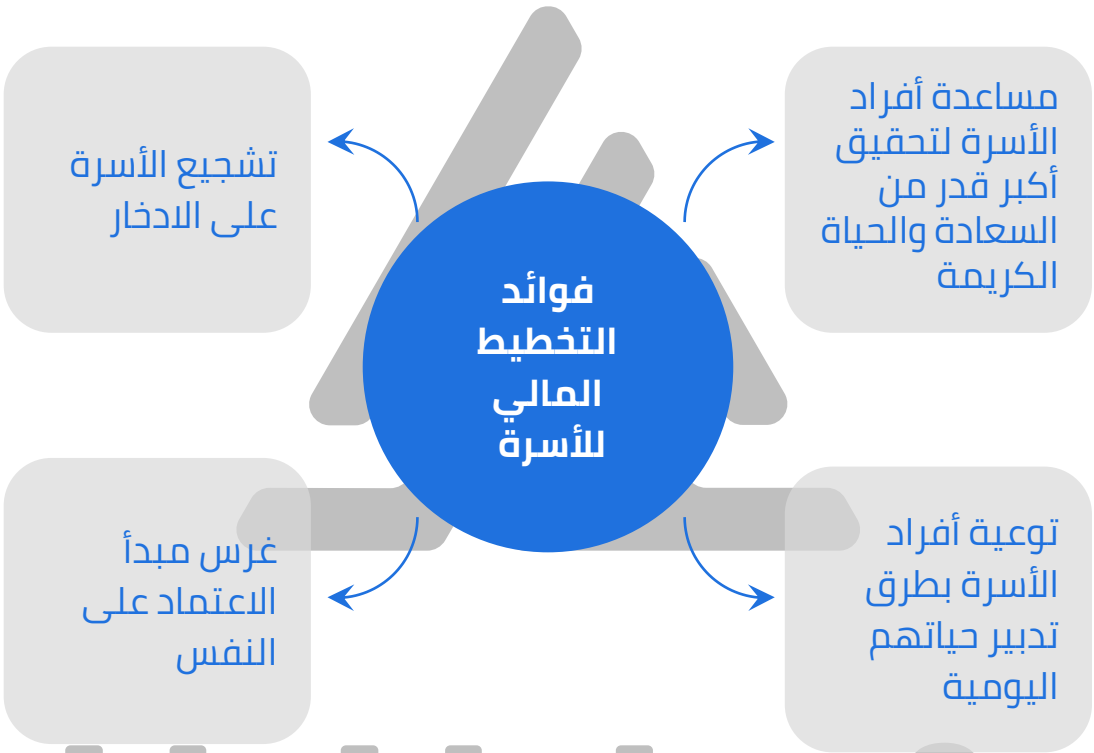

س عدد - العوامل التي تؤثر على سلوك الأسرة عند تنفيذ التخطيط المالي

- عدم وجود الدراية بأساسيات التخطيط لشؤون الأسرة المالية
- عدم مراعاة تحديد الأولويات للأسرة
- عدم وجود ضوابط لبنود المصاريف
- عدم تعاون أفراد الأسرة بخصوص الصرف

س عدد - محاور التخطيط المالي للأسرة



KuwaitTeacher.Com

س عدد - موارد الأسرة المالية

- الأجر عن عمل ما
- الإيراد عن الممتلكات بمختلف أنواعها

س فرق بين كل من :

ممكن أن يظهر السؤال في صيغ أخرى: عرف | أكمل | اختياري

المصروفات	الادخار
إنفاق الأسرة على مصاريف أساسية وشخصية واجتماعية	اقتطاع جزء من الدخل المالي قبل البدء بالإنفاق على مستلزمات الحياة

أكمل العبارات التالية :

س يعتمد الإنفاق على مصاريف الأسرة بشكل أساسي على _ **حجم الأسرة** _

س الموازنة بين المورد المالي والمصروفات يعكس نجاح الأسرة في تنفيذ _ **إدارتها المالية** _

اختياري

س محور من محاور التخطيط المالي الأسري يتم اقتطاع جزء من الدخل المالي :

○ المورد المالي ○ الاستهلاك ○ المصروفات ○ **الادخار**

س علل - لا بد أن يصاحب الادخار المالي للأسرة استثمار

- لتحقيق أهداف الأسرة على المدى القصير أو الطويل
- تحسين الظروف المعاشية للأسرة

س إذا كان مصروفك الشهري 30 دينار كويتي، والهدف الذي تسعى للحصول عليه شراء جهاز إلكتروني قيمته 100 دينار كويتي.

صمم خطة شهرية لتحقيق الهدف السابق مع كتابة محاور التخطيط المالي

- المورد المالي = 30 دينار
- المصروفات = 20 دينار
- الادخار = 10 دينار

10 شهور 10 Xدينار (الادخار الشهري) = 100 دينار

تـــدرب و تـفـوق
اختبارات الكترونية

Kuwaitteacher.Com

© جميع الحقوق محفوظة