

الجغرافيا

الكورس الثاني

11

صفوة معلمي الكويت
KuwaitMaster.Com

UULA

الـجـغـرافـيـا

الـكـورس الثاني

١١

معلم الكويت
صفوة
KuwaitTeacher.Com

شلون تتفوق بدراستك

طريقة علا المتكاملة للدراسة تشمل الاستفادة من المذكرة و الفيديوهات و الاختبارات



⚠ علا تخلي المذكرة أقوى

تبي أعلى الدرجات؟ لا تعتمد على المذكرة بروحها – ادرس صح من الفيديوهات و الاختبارات

فيديوهات تشرح لك

تابع الفيديوهات و انت تدرس المذكرة عشان تضبط الدرس



اختبارات ذكية تدربك

حل الاختبارات الالكترونية أول بأول عشان ترفع مستواك



اشترك بالمادة

احرص على تفعيل اشتراكك عشان تستفيد كثر ما تقدر

اكتشف عالم التفوق مع باقات علا

ادرس جميع مواد مرحلتك باشتراك واحد بسعر خيالي

KuwaitTeacher.Com

المـــــنـــــقـــــذ

أقوى مذكرة صارت الحين أقوى و أقوى مع خاصية
المنقذ للمساعدة الفورية

شنو المنقذ ؟
امسح الباركود بكاميرا تلفونك
وتعرف على طريقة استخدام المنقذ





شنو فايدة هالخاصية ؟
أول ما تحتاج مساعدة بالمادة , المنقذ بينقذك .

امسح الباركود بكاميرا التلفون أو اضغط عليه إذا كنت فاتح
المذكرة من جهازك و يطلع لك فيديو الشرح.

معلم الكويت
KuwaitTeacher.Com

قائمة المحتوى

01 الغلاف المائي

6 أهمية الغلاف المائي في حياتنا

9 حركة مياه البحار والمحيطات (التيارات البحرية)

02 الغلاف الجوي وعناصر المُناخ

14 الغلاف الجوي

16 الغلاف الجوي (الطبقات الرأسية للغلاف الجوي)

19 عناصر الطقس والمناخ

20 عناصر الطقس والمناخ (الإشعاع الشمسي)

24 عناصر الطقس والمناخ (حرارة الهواء)

28 عناصر الطقس والمناخ (الضغط الجوي)

31 عناصر الطقس والمناخ (الرياح)

45 عناصر الطقس والمناخ (الرطوبة و التكاثف و التساقط)

03 الغلاف الحيوي

54 تعريف الغلاف الحيوي

56 الغابات الحارة الاستوائية

61 الغابات الحارة الموسمية

65 الغابات المعتدلة الدفيئة

70 الغابات المعتدلة الباردة

75 الحشائش الحارة الطويلة " السافانا "

80 الحشائش المعتدلة القصيرة " الإستبس "

86 الصحاري الجافة " الحارة – المعتدلة "

91 إقليم الصحاري الباردة القطبية (الصحاري البيضاء) التندرا

KuwaitTeacher.Com

© جميع الحقوق محفوظة

97 مظاهر تدمير الغلاف الحيوي في العالم
112 وسائل حماية وصيانة المحيط الحيوي في العالم
114 المحميات الطبيعية

معلمي الكويت
صفوة
KuwaitTeacher.Com

© جميع الحقوق محفوظة

أهمية الغلاف المائي في حياتنا

عرف

الغلاف المائي

أكمل العبارات التالية:

ممكن أن يظهر السؤال في صيغة اخرى: اختياري

س نسبة البحار والمحيطات من المساحة الكلية لسطح الكرة الأرضية _____

س نسبة اليابس من المساحة الكلية لسطح الكرة الأرضية _____

س نسبة المياه في البحار والمحيطات من جملة المياه على سطح الأرض _____

س نسبة المياه في الغطاءات الجليدية والأنهار الجليدية والبحيرات والأنهار من جملة المياه على سطح الأرض _____

اختر الإجابة الصحيحة:

س نسبة البحار والمحيطات من المساحة الكلية لسطح الكرة الأرضية يمثلها الجزء المظلل في الدائرة البيانية التي تحمل الحرف:

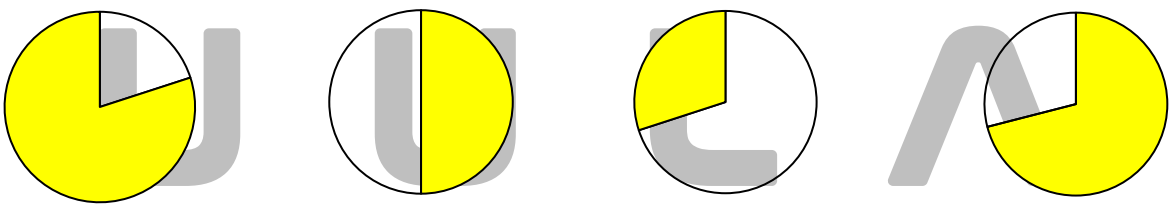

أ ○ ب ○ ج ○ د

س نسبة المياه المالحة من جملة المياه على سطح الأرض يمثلها الجزء المظلل في الدائرة البيانية التي تحمل الحرف :

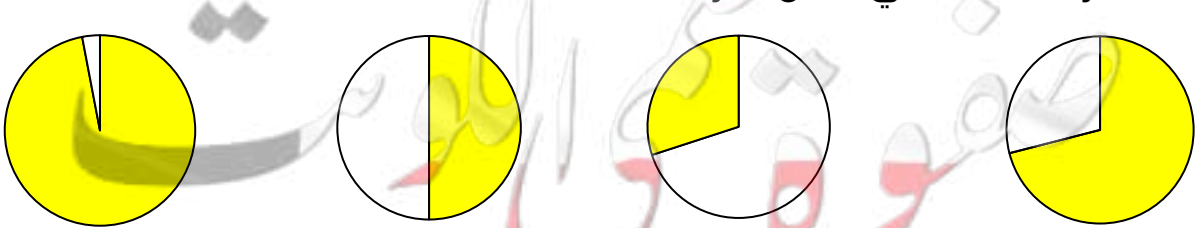

أ ○ ب ○ ج ○ د

KuwaitTeacher.Com

© جميع الحقوق محفوظة

س علل / يعرف كوكب الأرض بالكوكب المائي (الأزرق)

س عدد أهمية البحار والمحيطات لكوكب الأرض

ممكن أن يظهر السؤال في صيغة اخرى: (علل - أهمية الغلاف المائي في حياتنا)

علل

س أهمية المسطحات المائية للمناخ على سطح الأرض

س أهمية المحيط في المراحل المبكرة من تاريخ كوكبنا

س المياه المالحة لها أهمية كبيرة في وقتنا الحاضر - دلل على صحة العبارة

ممكن أن يظهر السؤال في صيغة اخرى: (عدد استخدامات المياه المالحة في الوقت الحاضر)

س أهمية المياه المالحة بالنسبة دول الخليج العربية

س عدد الشروط التي يجب توافرها لاستخدام المياه المالحة في الأغراض الزراعية

UULA.COM
KuwaitTeacher.Com

© جميع الحقوق محفوظة

س علل - يعتبر البحر مورداً لا ينضب

س عدد الدول التي استخدمت الطاقة الناتجة من حركة المياه

ممكن أن يظهر السؤال في صيغ أخرى: اختياري | حدد على الخريطة



س دلل - البحر مصدر سخي للغذاء لم يستغل كما ينبغي ولكن بعد التجارب بشرت بالخير

س علل - أهمية استزراع المحيط بالنباتات البحرية

س دلل - اليابان دولة رائدة في استغلال مياه المحيط

اختياري

س الجزء المظلل في الخريطة المقابلة يشير لدولة نجحت في استزراع اللؤلؤ والنباتات البحرية في مياه المحيط

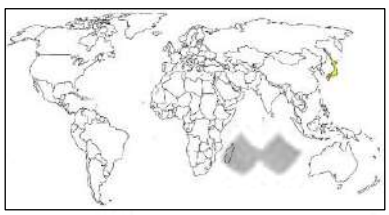

○ اليابان ○ إنجلترا
○ فرنسا ○ أمريكا

تـــدرب و تـفـوق
اختبارات الكترونية

UULA.COM
KuwaitTeacher.Com

© جميع الحقوق محفوظة

حركة مياه البحار والمحيطات (التيارات البحرية)

عرف

التيارات البحرية

س عدد مميزات التيارات البحرية

ممكن أن يظهر السؤال في صيغة اخرى:
(" التيارات البحرية لها خصائص تميزها عن بقية المسطح المائي الذي تتحرك فيه " دلل)

س أكمل: أحد أشكال حركة مياه البحر تختلف في مظهرها وكيفية حدوثها وتحركها عن المد والجزر والأمواج تسمى _____

س عدد أسباب نشأة التيارات البحرية

ممكن أن يظهر السؤال في صيغة اخرى: علل

س علل - ارتفاع كثافة مياه البحر

س ارتفاع كثافة مياه البحر سبب في نشأة التيارات البحرية

س ارتفاع كثافة مياه البحر سبب في نشأة التيارات البحرية

UULA
معلم الكويت
KuwaitTeacher.Com

© جميع الحقوق محفوظة

علل

س انتقال التيارات البحرية الاستوائية للعروض المعتدلة

س الرياح الدائمة أحد أسباب نشأة التيارات البحرية

س وصول المياه الاستوائية نحو أمريكا الوسطى

س خروج تيار الخليج الدافئ نحو شمال غرب أوروبا

أكمل

س المحيط الذي يعبره تيار الخليج الدافئ للوصول لشمال غرب أوروبا يسمى

س أوجد العلاقة بين القوة الناتجة عن دوران الأرض حول محورها (قانون فريل) ونشأة التيارات البحرية

س علل - انحراف الأجسام الطبيعية الحرة إلى يمين اتجاهها في نصف الكرة الشمالي

س أوجد العلاقة بين السواحل ونشأة التيارات البحرية

س علل / التيارات البحرية تؤثر في مناخ السواحل التي تمر بها

UULA
معلمة الكويت
KuwaitTeacher.Com

س قارن بين كل من :

المقارنة	التيارات الدفيئة	التيارات الباردة
المفهوم		
أمثلة		

خريطة التيارات البحرية :

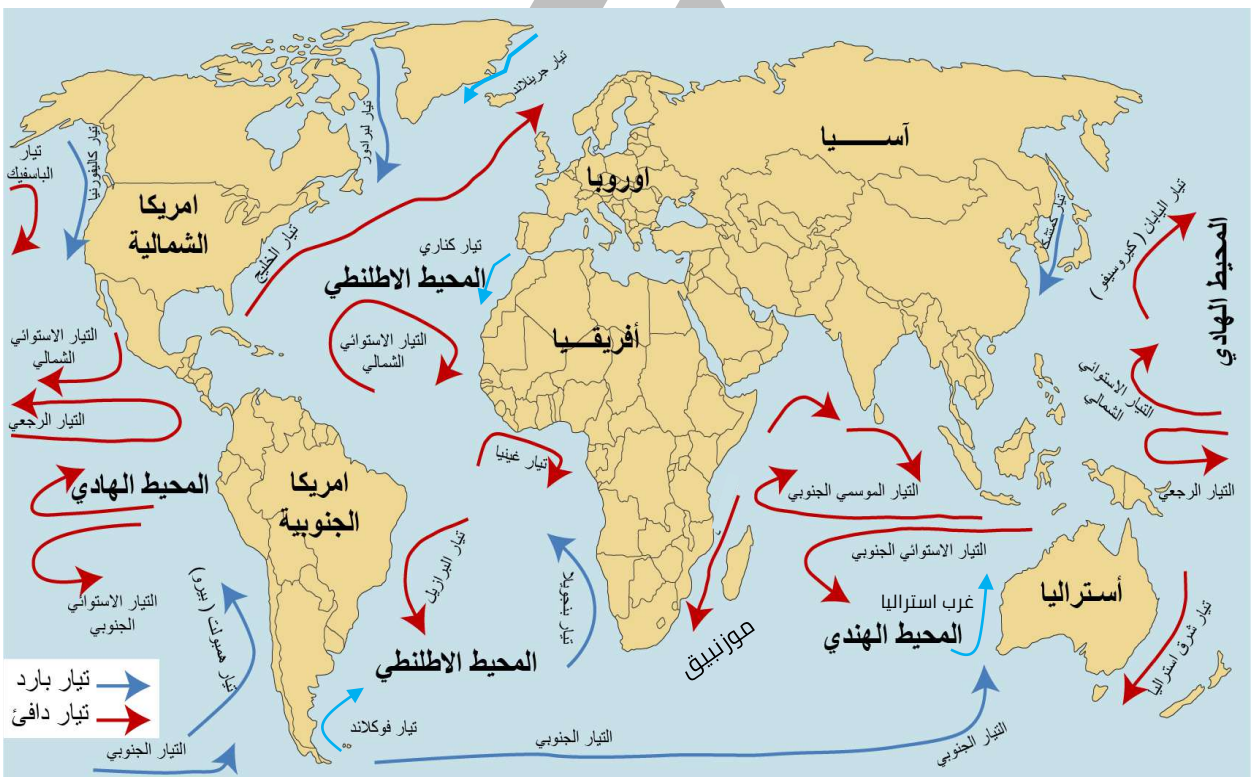

معلمي الكويت
صفوة
KuwaitTeacher.Com

لاحظ الخريطة التي أمامك ثم أجب عما يليها من أسئلة:

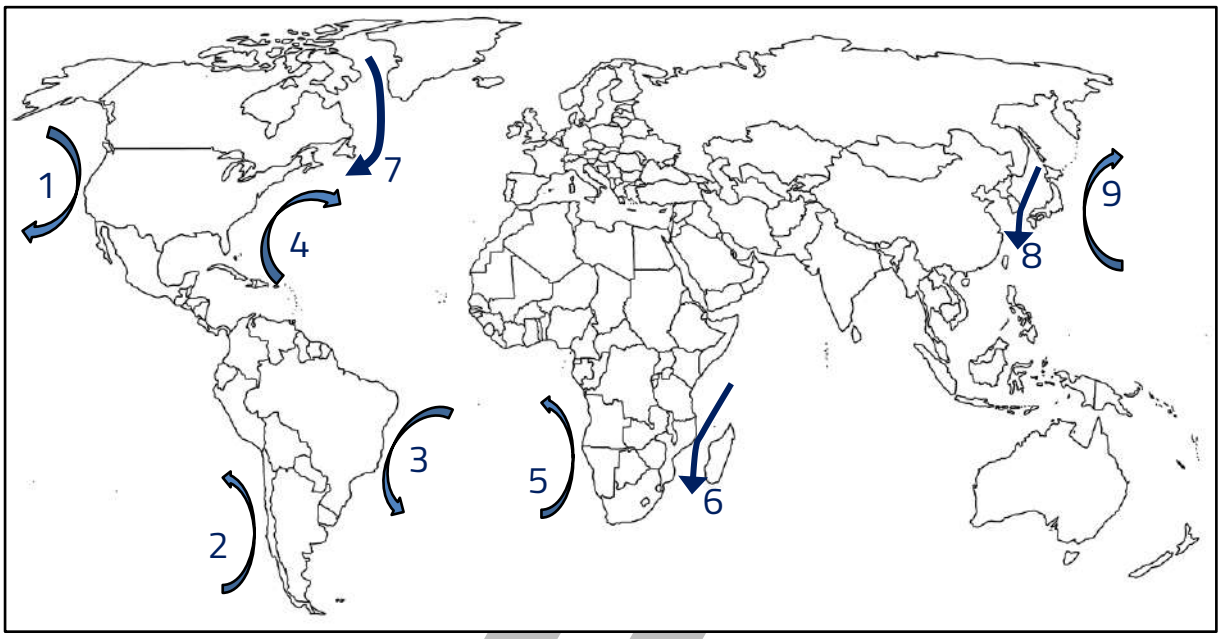

س تيار كاليفورنيا يمثله على الخريطة الرقم _____

س تيار (همبولت) بيرو يمثله على الخريطة الرقم _____

س تيار بنجويلا يمثله على الخريطة الرقم _____

س تيار البرازيل يمثله على الخريطة الرقم _____

س تيار الخليج يمثله على الخريطة الرقم _____

س تيار لبرادور يمثله على الخريطة الرقم _____

س تيار كمتشكا يمثله على الخريطة الرقم _____

س تيار اليابان يمثله على الخريطة الرقم _____

س تيار موزمبيق يمثله على الخريطة الرقم _____

UULA
معلمي الكويت
صفوة
KuwaitTeacher.Com

اختر الإجابة الصحيحة :

س تيار بيرو (همبولت) البارد يسير بمحاذاة قارة أسمها :

- ○ أمريكا الجنوبية
- ○ آسيا
- ○ أفريقيا
- ○ أستراليا

س التيار البحري الدافئ الذي يرمز له بالسهم في الخريطة المقابلة يسمى

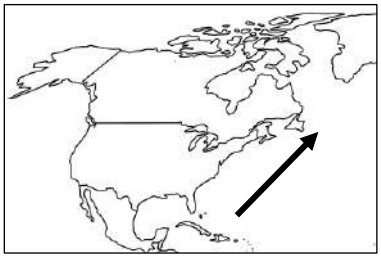

- ○ كاليفورنيا
- ○ بنجويلا أستراليا
- ○ الخليج
- ○ ليبرادور

تـــدرب و تـفـوق
اختبارات الكترونية

معلمي الكويت
صفوة
KuwaitTeacher.Com

© جميع الحقوق محفوظة

الغلاف الجوي

عرف

الغلاف الجوي

عبارة عن غطاء سميك من الغازات يحيط بالكرة الأرضية من جميع الجهات

أكمل العبارات التالية :

س يتراوح سمك الغلاف الجوي من _____

س الهواء لا يشعر به الإنسان إلا عند تحركه وهنا يعرف _____

س عدد خصائص (مميزات) الهواء

علل

س أهمية الغلاف الجوي

ممكن أن يظهر السؤال في صيغ اخرى: (عدد فوائد الغلاف الجوي)
(دلل على بطلان العبارة " تستمر الحياه على سطح الأرض حتى وإن لم يكن هناك غلاف جوي ")

س الغلاف الجوي يحمي الأرض من تساقط بقايا الأجسام الكونية من الفضاء الخارجي

س - الغلاف الجوي سبب الحياة على سطح الأرض

ممكن أن يظهر السؤال في صيغة أخرى:
(عدد – فوائد الغلاف الجوي على سطح الأرض وعلى الكائن الحي)

UULA
معلمة الكويت
KuwaitTeacher.Com

© جميع الحقوق محفوظة

س علل - أهمية وجود غاز الأكسجين في الغلاف الجوي

س ماذا يحدث لو : لم يكن للأرض غلاف جوي

س عدد الغازات التي يتألف منها الغلاف الجوي

أكمل العبارات التالية :

س نسبة النتروجين والأكسجين والأرجون وثاني أكسيد الكربون من حجم الهواء _____

س نسبة بخار الماء والأتربة الدقيقة والدخان والغبار البركاني من حجم الهواء_____

تـــدرب و تـفـوق
اختبارات الكترونية

معلمي الكويت
صفوة
KuwaitTeacher.Com

© جميع الحقوق محفوظة

الطبقات الرأسية للغلاف الجوي

س عدد أسس تقسيم الغلاف الجوي لطبقات رأسية

س عدد الطبقات الرأسية للغلاف الجوي

س أعد ترتيب الأسماء التي أمامك مستعيناً بالشكال المقابل:
الطبقات الرأسية للغلاف الجوي (من الأسفل الأعلى)

الأستراتوسفير -الميزوسفير – التروبوسفير

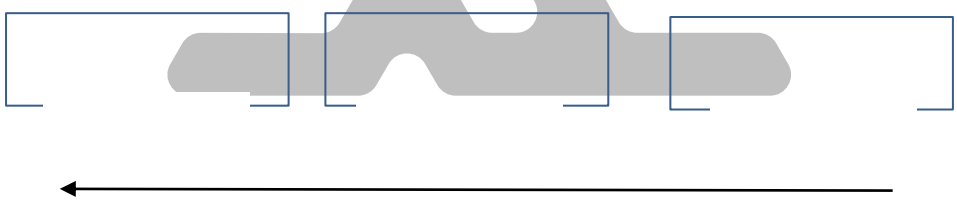

س علل - أهمية طبقة الغلاف الجوي التروبوسفير

ممكن أن يظهر السؤال في صيغة اخرى: (عدد – الخصائص العامة لطبقة التروبوسفير)

س اختياري: طبقة الغلاف الجوي التي تنشأ فيها السحب والعواصف والأمطار

- ○ الأستراتوسفير
- ○ الميزوسفير
- ○ التروبوسفير
- ○ الثيرموسفير

UULA
معلمة الكويت
Kuwaitteacher.Com

© جميع الحقوق محفوظة

س عدد – الخصائص العامة لطبقة الأستراتوسفير

ممكن أن يظهر السؤال في صيغ اخرى: أكمل اختياري

أكمل العبارات التالية :

ممكن أن يظهر السؤال في صيغة اخرى: اختياري

س الطبقة التي تفصل بين طبقة التروبوسفير وطبقة الأستراتوسفير تسمى _____

س طبقة الغلاف الجوي التي تتضمن الجزء الأكبر من طبقة الأوزون تسمى _____

س عدد – الخصائص العامة لطبقة الميزوسفير

ممكن أن يظهر السؤال في صيغ اخرى: (أكمل – اختياري)
(ما النتائج المترتبة على اختراق الشهب والنيازك لطبقة الميزوسفير)

س علل - ارتفاع درجة حرارة الجزء الأسفل من طبقة الميزوسفير

س اختياري: الطبقة التي تتميز بارتفاع درجة حرارة الهواء في القسم الأسفل منها

- ○ التربوسفير
- ○ الأستراتوسفير
- ○ الميزوسفير
- ○ الثيرموسفير

س عدد – الخصائص العامة لطبقة الثيرموسفير

ممكن أن يظهر السؤال في صيغ اخرى: أكمل اختياري

أكمل العبارات التالية :

س الطبقة التي تقع أسفل طبقة الثيرموسفير تسمى _____

س الطبقة التي تتركز بها الجزئيات الأيونية تسمى _____

UULA
معلم الكويت
KuwaitTeacher.Com

س علل أهمية طبقة الثيرموسفير

ممكن أن يظهر السؤال في صيغة اخرى:
(ما النتائج المترتبة على تركز الجزئيات الأيونية في طبقة الأينوسفير (الأثير))

.....

.....

س اختياري : طبقة أسفل طبقة الثيرموسفير وتتركز بها الجزئيات الأيونية ولها أثر انعكاسي على الموجات اللاسلكية والكهرومغناطيسية :

○ التروبوسفير ○ التروبوبوز
○ الميزوسفير ○ الأينوسفير

س فرق بين كل من :

طبقة التروبوسفير	طبقة الميزوسفير
▪ ---------- ---------- ▪ ---------- ----------	▪ ---------- ---------- ▪ ---------- ----------

اختر الإجابة الصحيحة:

س طبقة من الغلاف الجوي تنشأ فيها السحب والعواصف والتيارات الصاعدة والهابطة والأمطار

○ الأسترا توسفير ○ الأينوسفير
○ التروبوسفير ○ الميزوسفير

س الطبقة التي تتميز بارتفاع درجة حرارة الهواء في الجزء الأسفل منها لاختراق الشهب

○ التروبوسفير ○ الأستراتوسفير
○ الميزوسفير ○ الثيرموسفير

تـــدرب و تـفـوق
اختبارات الكترونية
UULA
معلمي الكويت
KuwaitTeacher.Com

© جميع الحقوق محفوظة

عناصر الطقس والمناخ

س أكمل: من مظاهر الطبيعة المرئية والمحسوسة الطقس و _ _ _ _ _ _ _

س " الطقس والمناخ يتكونان من تفاعل عناصر جوية عديدة " (أذكرها)

ممكن أن يظهر السؤال في صيغة اخرى:
(عدد العناصر التي تعمل مجتمعة لتشكل حالة الطقس والمناخ السائد)

س عدد عناصر (مكونات) الطقس والمناخ

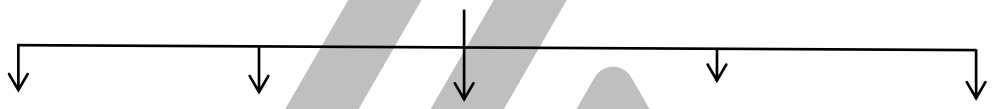

س "الظروف المناخية لها أثرها على سطح الأرض "دلل على صحة العبارة

س فرق بين كل من :

ممكن أن يظهر السؤال في صيغ اخرى: أكمل اختياري

المُناخ	الطقس

تـــدرب و تـفـوق
اختبارات الكترونية

معلمي الكويت
KuwaitTeacher.Com

عناصر الطقس والمناخ

الإشعاع الشمسي

عرف المفاهيم التالية :

ممكن أن يظهر السؤال في صيغ اخرى: فرق | أكمل | اختياري

الإشعاع الشمسي

الإشعاع الأرضي

س علل - تسخين الغلاف الجوي من الأسفل إلى الأعلى

س انخفاض درجة حرارة الهواء في طبقة التروبوسفير من أسفل إلى أعلى

أكمل العبارات التالية :

س الأشعة التي تؤدي لتسخين الغلاف الجوي تسمى _____

س نسبة الأشعة المكتسبة من جملة الإشعاع الشمسي _____

س نسبة الأشعة المفقودة من جملة الإشعاع الشمسي _____

س الشكل المقابل يمثل _____

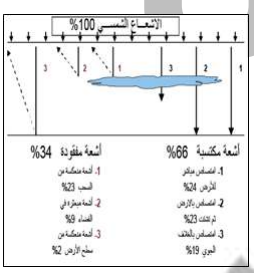

UULA
معلمي الكويت
KuwaitTeacher.Com

© جميع الحقوق محفوظة

س عدد أنواع الأشعة الشمسية حسب طول موجاتها ؟

س فرق بين كل من :

ممكن أن يظهر السؤال في صيغ اخرى: عرف | أكمل | اختياري | ارسم دائرة بيانية

الأشعة تحت الحمراء	الأشعة الضوئية	الأشعة الحيوية

اختر الإجابة الصحيحة:

س نسبة الأشعة الضوئية من جملة الإشعاع الشمسي يمثلها الدائرة البيانية التي تحمل الحرف :

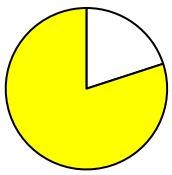

د ○

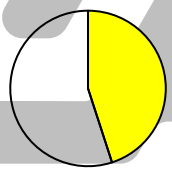

ج ○

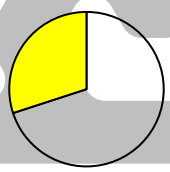

ب ○

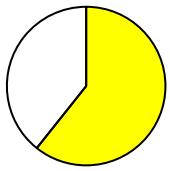

أ ○

س الأشعة التي لا تزيد نسبتها عن 9% من جملة الإشعاع الشمسي:

○ تحت الحمراء ○ الحرارية
○ الحيوية ○ الضوئية

س أعد ترتيب الأسماء التي أمامك مستعيناً بالشكال المقابل:
النسبة من الإشعاع الشمسي (من الأكثر إلى الأقل)

الضوئية – الحيوية - الحرارية



UULA.COM
© جميع الحقوق محفوظة
KuwaitTeacher.Com

س عدد - العوامل التي تؤثر في الإشعاع الشمسي

س علل - اختلاف درجة حرارة الهواء من مكان لأخر

ممكن أن يظهر السؤال في صيغ اخرى: (علل - تختلف درجات الحرارة في مختلف مناطق سطح الأرض) - (دلل على بطلان العبارة " تتشابه درجات الحرارة في مختلف المناطق على سطح الأرض")

س علل - المدى الحراري أكبر فوق الهواء الملامس لليابس عنه فوق الهواء الملامس للمياه عند نفس دوائر العرض

ممكن أن يظهر السؤال في صيغة اخرى:
(أوجد العلاقة بين - اختلاف حرارة الهواء والتوزيع الغير منتظم لليابس والماء)

س الغطاءات النباتية تقلل من المدي الحراري اليومي

س دلل بمثال على صحة العبارة التالية:
" للتيارات البحرية تأثير كبير على درجة حرارة هواء السواحل التي تمر عليها "

UULA
معلمي الكويت
صفوة
KuwaitTeacher.Com

© جميع الحقوق محفوظة

س علل - ارتفاع درجة حرارة السواحل الجنوبية الشرقية للولايات المتحدة عن السواحل الغربية الواقعة معها على نفس العروض

س تجمع الثلوج فوق القمم الجبلية

ممكن أن يظهر السؤال في صيغ اخرى: (علل - هواء القمم الجبلية العالية منخفض الحرارة)
(علل - انخفاض درجة الحرارة مع الارتفاع عن سطح الأرض)

س الكتل الهوائية الباردة والدفيئة لها تأثير في اختلاف حرارة الهواء



تـــدرب و تـفـوق
اختبارات الكترونية

UULA
معلمي الكويت
صفوة
KuwaitTeacher.Com

© جميع الحقوق محفوظة

عناصر الطقس والمناخ

حرارة الهواء

أكمل العبارات التالية :

س الجهة التي تقوم برصد حرارة الهواء تسمى _____

س المراصد الجوية تقوم برصد حرارة الهواء في الظل وعلى علو

_____

س عدد أجهزة قياس درجة الحرارة

ممكن أن يظهر السؤال في صيغ اخرى: (أكتب مدلول الأشكال التالية) - (أكتب عناصر الطقس والمناخ التي تقيسها الأجهزة التالية)









س أكمل : الأجهزة التي يمكن أن تقيس غالبية عناصر الطقس والمناخ تسمى

_____

س عدد أنظمة تسجيل القراءات الحرارية

_____

أكمل العبارات التالية :

س النظام المئوي (سيليوس) يقيس درجة الحرارة من صفر م إلى _____

س النظام الفهرنهيتي يقيس درجة الحرارة من 32°ف إلى _____

س تبلغ درجة التجمد المئوية نحو صفر ويعادلها بالنظام الفهرنهيتي _____

س درجة الحرارة الفهرنهيتية تساوي بالنظام المئوي _____

KuwaitTeacher.Com

© جميع الحقوق محفوظة

س تسجل درجة الحرارة خلال اليوم كل ساعة أو كل_ _ _ _ _ _ _ _

س حول درجة الحرارة المئوية إلى فهرنهايتية والعكس

- 55 ˚فهرنهايتي
- 13 °مئوية
- 89 ˚فهرنهايتي
- 45 ° مئوية

القانون لتحويل الدرجة الفهرنهيتي إلي مئوية =
الدرجة - 32 = الناتج ÷ 1.8

- 55 ˚فهرنهايتي

- 89 ˚ فهرنهايتي

القانون لتحويل الدرجة المئوية إلي فهرنهيتي =
الدرجة = 1.8 xالناتج +32

- 13 °مئوية

- 45 ° مئوية

س عدد - اهتمامات الدراسات المناخية

س عدد القياسات المتعلقة بدرجة حرارة الهواء الملامس لسطح الأرض

UULA
معلمي الكويت
صفوة
KuwaitTeacher.Com

© جميع الحقوق محفوظة

عرف المفاهيم التالية :

ممكن أن يظهر السؤال في صيغ اخرى: فرق أكمل اختياري

المتوسط اليومي لدرجة الحرارة

المدى الحراري اليومي

س الجدول التالي يبين درجات الحرارة المسجلة خلال اليوم في مدينة الكويت :

القراءة	السادسة صباحاً	الثانية عشر ظهراً	الثالثة بعد الظهر	السادسة مساءاً
درجة الحرارة	5°م	15°م	25°م	15°م

- احسب المتوسط اليومي لدرجة الحرارة مع كتابة القانون :

- احسب المدى الحراري اليومي :

اختر الإجابة الصحيحة :

س إذا كانت درجة الحرارة العليا لمنطقة ما (26°) والحرارة الدنيا (12°) فإن متوسط درجة الحرارة اليومي هو :

○ 18° ○ 19° ○ 20° ○ 21°

س تم رصد درجات الحرارة يوم الثلاثاء الماضي بدولة الكويت وكانت درجة الحرارة في فترة الظهيرة (25 ْم) ودرجة الحرارة ليلاً (10 ْم) فيكون المدى الحراري في ذلك اليوم:

○ 5 ْم ○ 10 ْم ○ 15 ْم ○ 20 ْم

UULA.COM
KuwaitTeacher.Com

© جميع الحقوق محفوظة

عرف

المتوسط الشهري لدرجة الحرارة

س عدد النطاقات الحرارية الكبرى (ارسم شكل)

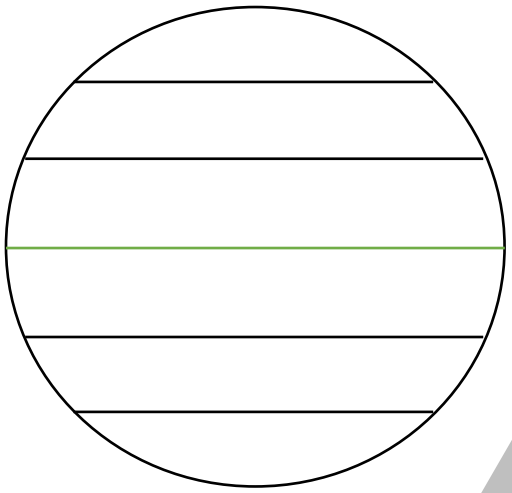

س الجزء المظلل من مخطط النطاقات الحرارية الكبرى في العالم يمثل المنطقة _____

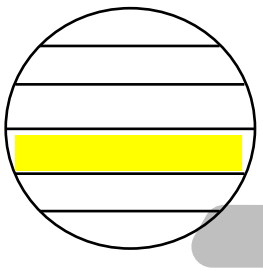

تـــدرب و تـفـوق
اختبارات الكترونية

UULA.COM
© جميع الحقوق محفوظة
صفوة معلمي الكويت
KuwaitTeacher.Com

عناصر الطقس والمناخ

الضغط الجوي

عرف المفاهيم التالية:

الضغط الجوي

مقدار متوسط الضغط الجوي

الضغط المرتفع

الضغط المنخفض

س كيف تفرق : بين الضغط الجوي المرتفع والمنخفض في الخرائط المناخية

أكمل العبارات التالية :

س يطلق على وحدة قياس الضغط الجوي _____

س قيمة الضغط الجوي على ارتفاع 10000متر حوالي _____

س يقاس متوسط مقدار الضغط الجوي بمحاذاة _____

س عدد -أجهزة قياس الضغط الجوي

UULA
معلمة الكويت
KuwaitTeacher.Com

©جميع الحقوق محفوظة

س اكتب مدلول الأجهزة التالية :

ممكن أن يظهر السؤال في صيغة اخرى: (اكتب عناصر الطقس والمناخ التي تقيسها الأجهزة التالية)





س عدد - العوامل الطبيعية المؤثرة في الضغط الجوي

س اكتب العلاقة بين درجة الحرارة والضغط الجوي

س أكمل : العلاقة بين درجة الحرارة والضغط الجوي علاقة _____

س علل - انخفاض مقدار الضغط الجوي في المناطق الاستوائية

س أكتب العلاقة بين الرطوبة والضغط الجوي

س وضح العلاقة بين الارتفاع والضغط الجوي

ممكن أن يظهر السؤال في صيغة اخرى: (علل – يختلف مقدار الضغط الجوي فوق المناطق المرتفعة عن المناطق المنخفضة)

س أكمل : العلاقة بين الارتفاع والضغط الجوي علاقة _____

س علل - يختلف مقدار الضغط الجوي فوق اليابس عنه فوق المحيطات

UULA
معلمة الكويت
KuwaitTeacher.Com

س عدد مراكز الضغط الجوي الأساسية

س ارسم مخططا للكرة الأرضية موضحا عليه مناطق الضغط الجوي الأساسية

س لاحظ شكل الكرة الأرضية المقابلة ثم حدد عليها كل مما يلي :

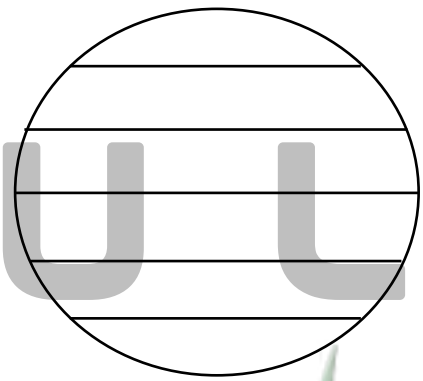

- مناطق الضغط المنخفض في نصف الكرة الشمالي فقط بالرمز -
- المنطقة الباردة في نصف الكرة الشمالي والجنوبي بالرمز +

تـــدرب و تـفـوق
اختبارات الكترونية
UULA
KuwaitTeacher.Com

© جميع الحقوق محفوظة

عناصر الطقس والمناخ

الرياح

عرف المفاهيم التالية :

ممكن أن يظهر السؤال في صيغ اخرى: فرق | أكمل | اختياري

الهواء الساكن

الرياح

س علل - حركة الرياح قد تكون سريعة أو بطيئة

س أكمل: تتحرك الرياح حركة سريعة أو بطيئة حسب مقدار اختلاف _____

س "الهواء لا يرى بالعين المجردة ولكن نشعر بحركاته واتجاهه " دلل على صحة العبارة

س عدد - أجهزة قياس سرعة الرياح



_____



_____



س أكمل : الأجهزة التالية تقيس أحد عناصر الطقس والمناخ يسمى _____

UULA
Kuwaitteacher.Com

© جميع الحقوق محفوظة

س اختياري : الجهاز الذي يقيس سرعة الرياح :

○ السيكرومتر ○ الأنيمومتر ○ الهيجروجراف ○ الباروجراف

س علل - اختلاف اتجاهات الرياح وأنواعها على سطح الأرض

س انتقال الرياح من مراكز الضغط المرتفع إلى مراكز الضغط المنخفض

س وضح العلاقة بين الحرارة والضغط الجوي والرياح

تـــدرب و تـفـوق
اختبارات الكترونية

س عدد أنواع الرياح فوق سطح الأرض

عرف

الرياح الدائمة

س علل - هبوب رياح دائمة ومنتظمة على مناطق مختلفة في نصفي الكرة الأرضية

UULA
معلمي الكويت
Kuwaitteacher.Com

س عدد أنواع الرياح الدائمة

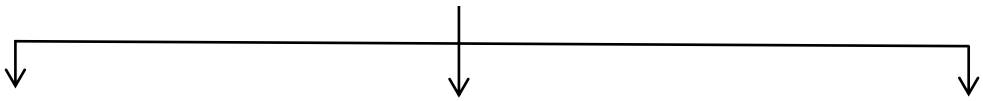

س ارسم شكل يمثل اتجاهات الرياح الدائمة فوق سطح الأرض

عرف

الرياح التجارية

س عدد آثار الرياح التجارية على المناطق التي تهب عليها

س اختياري : الرياح التي يسود بعض أجزاء نطاقها الأعاصير والعواصف المدارية المدمرة تسمى

- ○ الرياح التجارية
- ○ الرياح العكسية
- ○ الرياح القطبية
- ○ الرياح المحلية

UULA
معلمي الكويت
KuwaitTeacher.Com

س علل - زيادة كمية الأمطار الساقطة صيفاً في العروض المدارية

أكمل العبارات التالية :

س اتجاه الرياح التجارية في نصف الكرة الشمالي _____

س اتجاه الرياح التجارية في نصف الكرة الجنوبي _____

عرف

الرياح العكسية الغربية

س اختياري - الرياح التي تهب في المناطق المعتدلة بين دائرتي عرض 35° – 60° ش, ج تسمى:

○ التجارية ○ العكسية الغربية
○ القطبية ○ الموسمية

أكمل العبارات التالية :

ممكن أن يظهر السؤال في صيغة اخرى: اختياري

س اتجاه الرياح العكسية الغربية في نصف الكرة الشمالي _____

س اتجاه الرياح العكسية الغربية في نصف الكرة الجنوبي _____

س عدد آثار الرياح العكسية الغربية على المناطق التي تهب عليها

س علل - حدوث الانخفاضات الجوية في المناطق المعتدلة (35° – 60° ش .ج)

UULA
معلم الكويت
Kuwaitteacher.Com

عرف

الرياح القطبية

.....

.....

أكمل العبارات التالية :

ممكن أن يظهر السؤال في صيغة اخرى: اختياري

س اتجاه الرياح القطبية في نصف الكرة الشمالي _____

س اتجاه الرياح القطبية في نصف الكرة الجنوبي _____

س عدد آثار الرياح القطبية على المناطق التي تهب عليها

.....

.....

س علل حدوث العواصف المطيرة والثلجية في شمال أوراسيا وأمريكا الشمالية وجزيرة جرينلاند

.....

س عدد المناطق التي تؤثر الرياح القطبية على مُناخاتها

.....

.....

.....

لاحظ الرسم التالي لدورة الرياح ثم اجب عما يلي

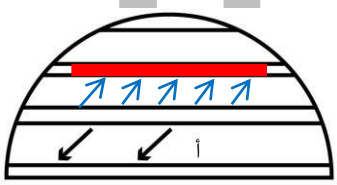

س حدد بالأسهم اتجاه الرياح العكسية الغربية

س ظلل على الرسم منطقة الضغط المنخفض شبه القطبي

س الحرف (أ) يمثل رياح دائمة تسمى _____

UULA
معلمي الكويت
KuwaitTeacher.Com

© جميع الحقوق محفوظة

س قارن بين كل من :

المقارنة	الرياح التجارية	الرياح العكسية الغربية
التعريف	----------	----------
الآثار	▪ ----------	▪ ----------

تـــدرب و تـفـوق
اختبارات الكترونية

عرف

الرياح الموسمية

س علل - نشأة الرياح الموسمية

اختر الإجابة الصحيحة

س النطاق التي تهب عليه الرياح الموسمية :

- ○ الاستوائي
- ○ المداري
- ○ القطبي
- ○ دون القطبي

س الرياح الموسمية تهب على النطاق المداري وخصوصاً في :

- ○ شمال القارات
- ○ جنوب القارات
- ○ غرب القارات
- ○ شرق القارات

KuwaitTeacher.Com

س علل - نشأة الرياح الموسمية الصيفية

علل

س الرياح الموسمية تكون محملة بالأمطار صيفاً

س سقوط الأمطار صيفاً على مناطق جنوب شرق أسيا

س ما تأثير الرياح الموسمية على المناخ في مناطق جنوب شرق آسيا

س فرق بالرسم بين اتجاه الرياح الموسمية الصيفية والرياح الموسمية الشتوية على جنوب شرق آسيا

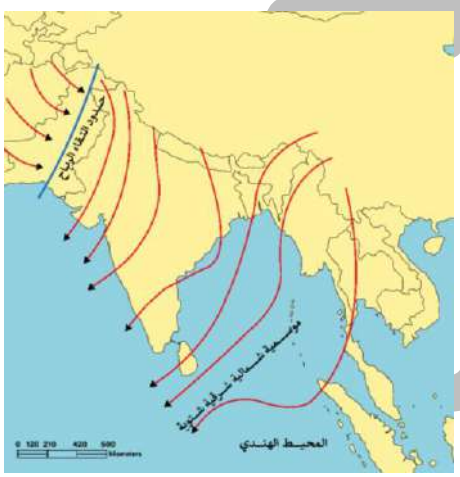

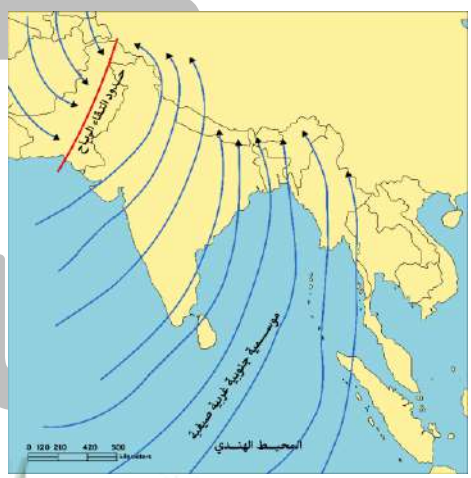

س اختياري: الرياح الموضحة على الخريطة المقابلة تعرف باسم :

- ○ التجارية
- ○ العكسية
- ○ الموسمية الصيفية
- ○ الموسمية الشتوية

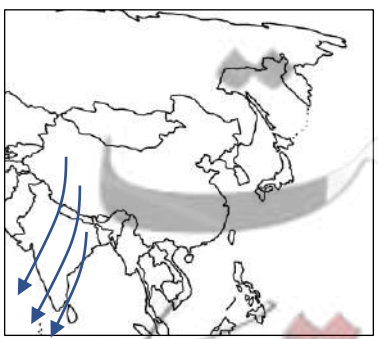

KuwaitTeacher.Com

عرف

الرياح المحلية

س عدد - أقسام الرياح المحلية

س علل - يطلق على مجموعة الرياح المحلية الحارة التي تهب نحو مناطق الانخفاضات الجوية أسماء عديدة

س عدد أسماء مجموعة الرياح المحلية الحارة التي تهب نحو مناطق الانخفاضات الجوية

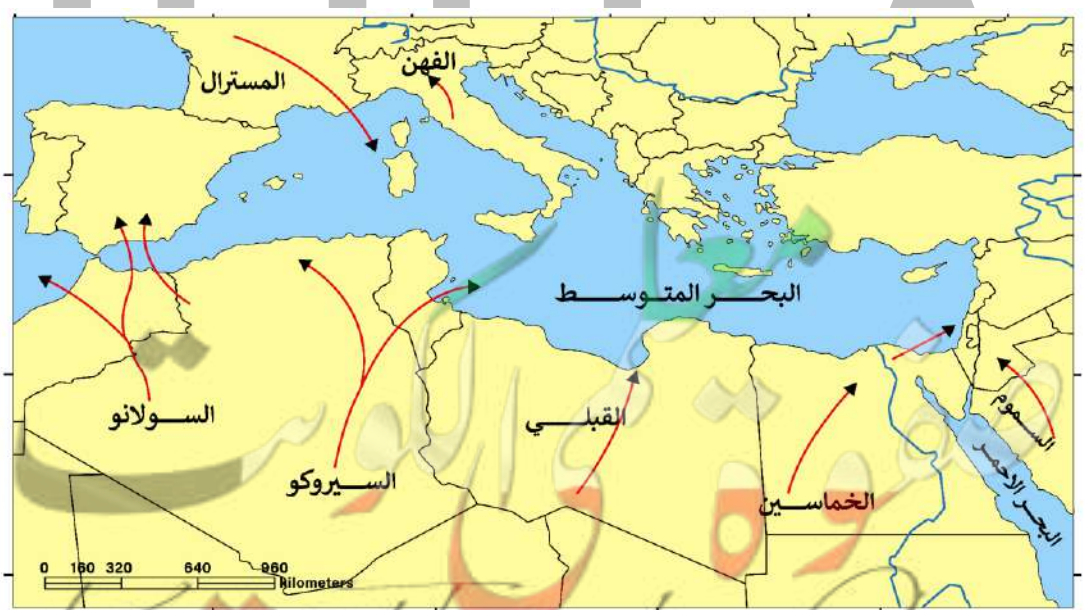

Kuwaitteacher.Com

© جميع الحقوق محفوظة

س قارن بين كل من :

أوجه المقارنة	رياح السموم	رياح الخماسين
المناطق التي تهب عليها		
الآثار		

أكمل العبارات التالية :

ممكن أن يظهر السؤال في صيغة اخرى: اختياري

س تهب رياح السموم في شبه الجزيرة العربية خلال فصل _ _ _ _ _ _ _

س رياح الخماسين تؤدي لحدوث العواصف الترابية الشديدة في مصر خلال فصل _ _ _ _ _

س علل - تسمية رياح الخماسين بهذا الاسم

س عدد آثار هبوب رياح الخماسين على مصر

اختر الإجابة الصحيحة

س ريا ح محلية تؤدي إلى حدوث عواصف ترابية في مصر ويصل عدد أيام هبوبها إلى نحو 50 يوماً في السنة:

○ السموم ○ السيروكو
○ القبلي ○ الخماسين

س تساعد رياح الخماسين في نضوج محصول القمح في دولة عربية تسمى :

○ السودان ○ الجزائر ○ مصر ○ ليبيا

KuwaitTeacher.Com

© جميع الحقوق محفوظة

س رياح الخماسين في مصر تساعد على نضج محصول .

○ الشعير ○ الذرة ○ القمح ○ الأرز

س قارن بين كل من :

ممكن أن يظهر السؤال في صيغ اخرى: أكمل اختياري

أوجه المقارنة	رياح القبلي	رياح الفهن الجبلية
المناطق التي تهب عليها		
الآثار		

أكمل العبارات التالية :

س الجبال التي تعبرها رياح الفهن الجبلية للوصول إلى وسط أوروبا تسمى _____

س الرياح التي تهب من الصحراء الكبرى متجهة نحو سواحل تونس والجزائر والمغرب تسمى _____

س الرياح التي يصل تأثيرها إلى جزيرة صقلية وسردينيا وسواحل أسبانيا تسمى _____

س البحر الذي تعبره رياح السيروكو للوصول لجزيرة صقلية يسمى _____

اختر الإجابة الصحيحة

س الدولة التي تهب منها رياح الفهن الجبيلة المحلية:

○ فرنسا ○ إيطاليا ○ السويد ○ النمسا

س الصحراء التي تهب منها الرياح المحلية (القبلي – السيروكو - السولانو)

○ جوبي ○ كلهاري ○ الصحراء الكبرى ○ ثار

UULA
معلمة الكويت
KuwaitTeacher.Com

© جميع الحقوق محفوظة

لاحظ الخريطة التالية جيداً ونفذ المطلوب منك:

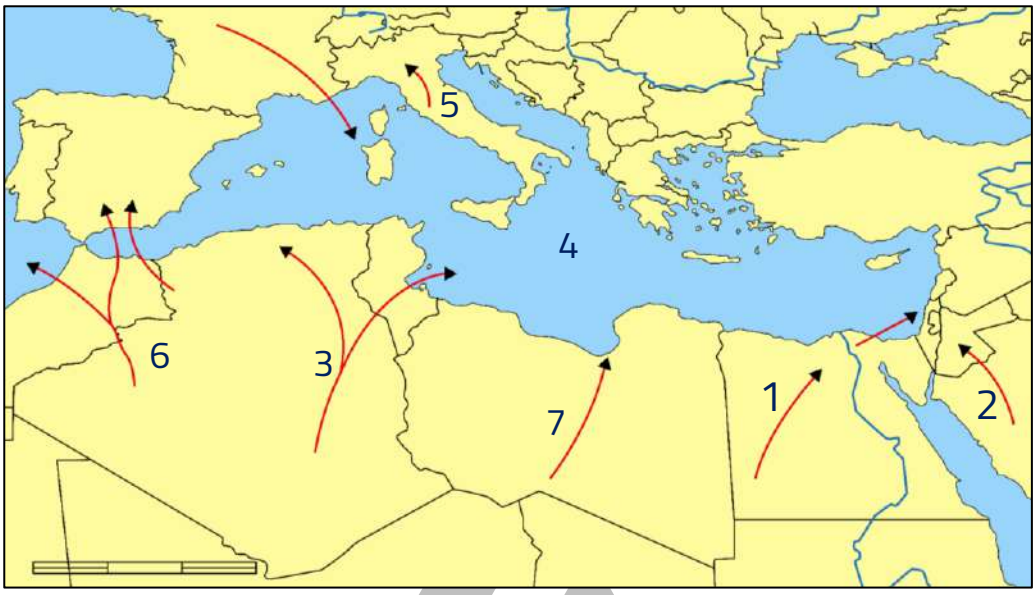

س رياح السموم يمثلها على الخريطة الرقم _____

س رياح الخماسين يمثلها على الخريطة الرقم _____

س رياح القبلي يمثلها على الخريطة الرقم _____

س رياح السيروكو يمثلها على الخريطة الرقم _____

س رياح الفهن الجبلية يمثلها على الخريطة الرقم _____

س رياح السولانو يمثلها على الخريطة الرقم _____

س البحر الذي تعبره رياح السيروكو للوصول لجزيرة صقلية يمثله على الخريطة الرقم _____

س دلل - " بالرغم من كل الأخطار التي تسببها الرياح المحلية من عواصف ورمال إلا أن لها أهمية كبيرة "

تـــدرب و تـفـوق
اختبارات الكترونية

معلم الكويت
KuwaitTeacher.Com

© جميع الحقوق محفوظة

س عدد - أنواع الرياح المحلية التي تنشأ لتباين توزيع اليابس والماء والتضاريس

قارن بين كل من:

المقارنة	نسيم الجبل	نسيم الوادي
الرسم		
المفهوم		

المقارنة	نسيم البحر	نسيم البر
الرسم		
المفهوم		

معلمي الكويت
Kuwaitteacher.Com

© جميع الحقوق محفوظة

س علل – حدوث نسيم البحر والبر

س أكمل : المناطق التي يحدث فيها نسيم البحر والبر تسمى _ _ _ _ _ _ _ _ _ _ _ _ _ _

س أكتب مدلول الصور التالية :

ممكن أن يظهر السؤال في صيغة اخرى: اختياري



س أعطي أمثله لمجموعة الرياح المحلية الباردة التي تهب نحو مؤخرة الانخفاضات الجوية

س قارن بين كل من :

الرياح	المناطق التي تهب عليها	الآثار
المسترال		
النورثر (الشمالية)		

س حدد كل من رياح النورثر ورياح المسترال باستخدام الرمز

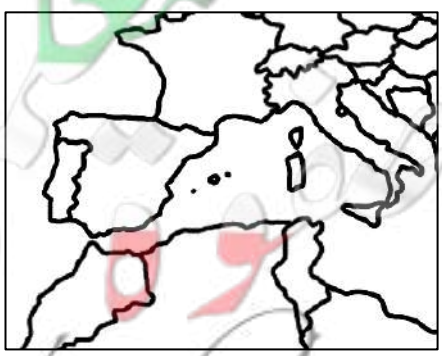

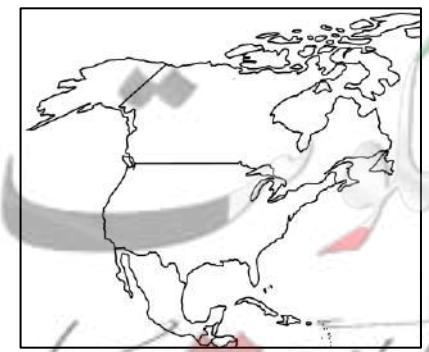

KuwaitTeacher.Com

© جميع الحقوق محفوظة

اختر الإجابة الصحيحة

س الدولة التي تهب منها رياح المسترال المحلية :

○ فرنسا ○ إيطاليا ○ السويد ○ النمسا

س تهب رياح المسترال من الجبال المحيطة بوادي :

○ الراين ○ الرون ○ الدون ○ السين

س رياح محلية تهب من الجبال العالية التي تحيط بوادي الرون بفرنسا خلال فصل الشتاء :

○ النورثر ○ المسترال ○ السموم ○ الخماسين

س رياح باردة تهب نحو مؤخرة الانخفاضات الجوية في رومانيا :

○ المسترال ○ كريفت ○ النورثر ○ السموم

س رياح محلية شمالية تهب فوق القسمين الأوسط والجنوبي من الولايات المتحدة الأمريكية :

○ السيروكو ○ السموم ○ القبلي ○ النورثر

تـــدرب و تـفـوق
اختبارات الكترونية
UULA

UULA
معلمي الكويت
صفوة
KuwaitTeacher.Com

©جميع الحقوق محفوظة

عناصر الطقس والمناخ

الرطوبة والتكاثف والتساقط

س أكمل : يعتبر عنصر الماء من مكونات الغلاف الجوي الأساسية ويعبر عنه بـــ _____

س " الرطوبة الجوية تأخذ أشكال مرئية " دلل على صحة العبارة

عرف

الرطوبة

س علل أهمية بخار الماء في الهواء

أكمل العبارات التالية :

س المصدر الرئيسي للرطوبة من النباتات عملية تسمى _____

س تعتبر عملية النتح من النباتات المصدر الرئيسي _____

س عدد أجهزة قياس الرطوبة

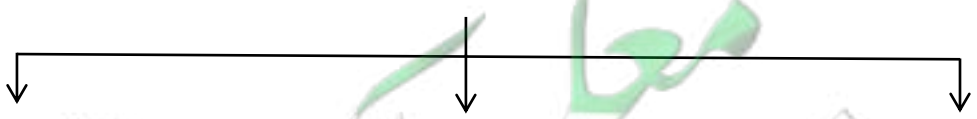

معلمي الكويت
صفوة
KuwaitTeacher.Com

© جميع الحقوق محفوظة

س أكتب مدلول الأجهزة التالية :



_ _ _ _ _ _ _ _



_ _ _ _ _ _ _ _

عرف

السيكرو متر

س أكتب عن طريقة احتساب الرطوبة باستخدام جهاز السيكرومتر

عرف المفاهيم التالية

ممكن أن يظهر السؤال في صيغ اخرى: أكمل | اختياري | فرق

التكاثف

التسامي

س عدد - مظاهر التكاثف

س فرق بين كل من

ممكن أن يظهر السؤال في صيغ اخرى: عدد | اختياري

مظاهر التكاثف على سطح الأرض	مظاهر التكاثف في طبقات الجو العليا
_ _ _ _ _ _ _ _ _ _ _ _ _ _ _ _ _ _	_ _ _ _ _ _ _ _ _ _ _ _ _ _ _ _ _ _

UULA
معلمة الكويت
KuwaitTeacher.Com

س اختياري : من مظاهر التكاثف على سطح الأرض :

○ الندى ○ السحب ○ الثلوج ○ البرد

عرف المفاهيم التالية

ممكن أن يظهر السؤال في صيغ اخرى: أكمل | اختياري | فرق

الضباب

الندى

س ماذا يحدث إذا : " وصل الهواء الجوي الرطب إلى اليابسة الأكثر برودة منه "

س أكتب مدلول الصورة المقابلة :

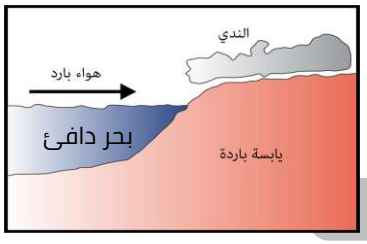

عرف

الصقيع

س ماذا يحدث إذا : " انخفضت درجة حرارة الهواء الملامس لسطح الأرض دون الصفر المئوي انخفاضاً تدريجياً "

س أكمل الجدول التالي

أوجه	الندي	الصقيع
التشابه	----------	
الاختلاف	----------	

UULA
معلمة الكويت
KuwaitTeacher.Com

عرف

السحب

س أكتب تعليلاً جغرافياً لتكون السحب

س فرق بين كل من :

ممكن أن يظهر السؤال في صيغ اخرى: (أكمل – اختياري – أكتب المفهوم العلمي)

الثلج	الجليد Ice

س أكتب تعليلاً جغرافياً لتكون الثلوج

عرف

البرد

س أكتب تعليلاً جغرافياً لتكون البرد

تـــدرب و تـفـوق
اختبارات الكترونية

© جميع الحقوق محفوظة

المطر

أكمل العبارات التالية :

س تتوقف كمية الأمطار الساقطة على مقدار كمية _____

س الجهاز الذي يقيس كمية الأمطار الساقطة يسمى _____





س الجهاز الذي تمثله الصورة المقابلة يسمى _____

س تنقسم الأمطار إلى مجموعات مختلفة حسب _____

س عدد أنواع الأمطار حسب نشأتها

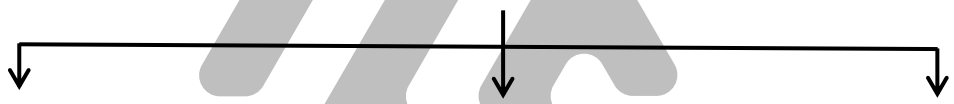

س علل - نشأة المطر الإعصاري:

_____

_____

_____

أكمل العبارات التالية :

ممكن أن يظهر السؤال في صيغ اخرى: اختياري

س المناطق التي يحدث فيها المطر الإعصاري تسمى _____

س المطر الإعصاري يحدث في المناطق المعتدلة خاصة في حوض يسمى _____

س سقوط المطر الإعصاري في حوض البحر المتوسط في فصل الشتاء مرتبط بـ _____

UULA
KuwaitTeacher.Com

جميع الحقوق محفوظة ©

س الصورة المقابلة تمثل أحد أنواع الأمطار يسمى

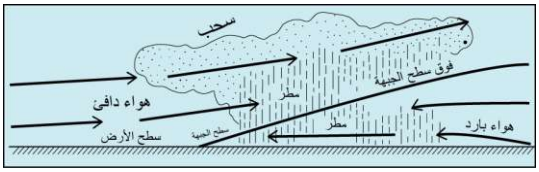

س علل - حدوث المطر التضاريسي

أكمل العبارات التالية :

س الجهة التي يسقط عليها المطر التضاريسي بكميات كبيرة في السفوح الجبلية هي _____

س الجهة التي يسقط عليها المطر التضاريسي بكميات قليلة في السفوح الجبلية هي _____

س السفوح الجبلية التي يسقط عليها المطر التضاريسي في لبنان تسمى _____

س اختياري : من مظاهر التكاثف على سطح الأرض :

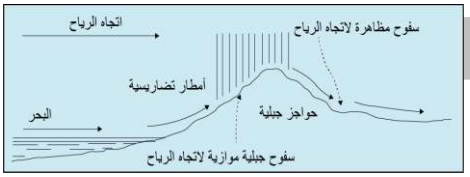

○ إعصاري ○ تضاريسي
○ انقلابي ○ تصاعدي

س علل - سقوط المطر بكميات قليلة في السفوح الجبلية المضادة للرياح

س عرف - المطر الانقلابي (التصاعدي – الحملي)

س علل - حدوث المطر الانقلابي

UULA
معلمي الكويت
KuwaitTeacher.Com

اختر الإجابة الصحيحة

س المطر الحملي يحدث في المناطق :

○ المعتدلة ○ القطبية
○ المدارية ○ الاستوائية

س الطبقة التي يصعد لها الهواء الرطب في المناطق الاستوائية :

○ التروبوسفير ○ الأستراتوسفير
○ الميزوسفير ○ الثيرموسفير

س قارن بين كل من :

المقارنة	المطر الإعصاري	المطر التضاريسي
التعريف		
المنطقة		
الرسم		

معلمي الكويت
صفوة
KuwaitTeacher.Com

© جميع الحقوق محفوظة

س صنف ما يلي حسب موقعة في الجدول التالي بوضع الرقم فقط



1



2



3



4

جهاز لقياس سرعة الرياح	جهاز لقياس الرطوبة	جهاز لقياس الضغط الجوي	جهاز لقياس حرارة الهواء

س لاحظ الصور التالية ونفذ المطلوب منك:

- أسم الجهاز
- عناصر الطقس والمناخ التي تقيسها









_ _ _ _





الأجهزة تقيس الرياح









الأجهزة تقيس الرطوبة

الأجهزة تقيس المطر

س ضع الرمز (أ) إذا كانت العبارتان صحيحتان والرمز (ب) إذا كانت العبارتان خاطئتان والرمز (ج) إذا إحدى العبارتان صحيحة والأخرى خاطئة

م	العبارات		الرمز
1	يقاس الضغط الجوي بجهاز السيكرومتر	تقاس سرعة الرياح بجهاز الترموجراف	
2	تهب الرياح من مراكز الضغط المرتفع إلى مراكز الضغط المنخفض	هبوب رياح الخماسين تؤدي إلى حدوث عواصف ترابية خلال فصل الربيع في مصر	
3	البرد هو أحد مظاهر التكاثف في طبقات الجو العليا	الرياح الموسمية الشتوية ممطرة على جنوب شرق آسيا	

تـــدرب و تـفـوق
اختبارات الكترونية

© جميع الحقوق محفوظة

تعريف الغلاف الحيوي

عرف المفاهيم التالية :

ممكن أن يظهر السؤال في صيغ اخرى: أكمل | اختياري | فرق

الغلاف الحيوي

الإقليم الحيوي

س فسر - نشأة الغلاف الحيوي

س ما النتائج المترتبة على : الارتباط القوي بين الظروف المُناخية والحياة النباتية والحيوانية

س تسمى الأقاليم الحيوية بمسميات مناخية نباتية " دلل على صحة العبارة

ممكن أن يظهر السؤال في صيغة اخرى: (عدد - أنواع الأقاليم الحيوية في العالم)

UULA
معلمي الكويت
صفوة
KuwaitTeacher.Com

© جميع الحقوق محفوظة

س أكمل المخطط السهمي

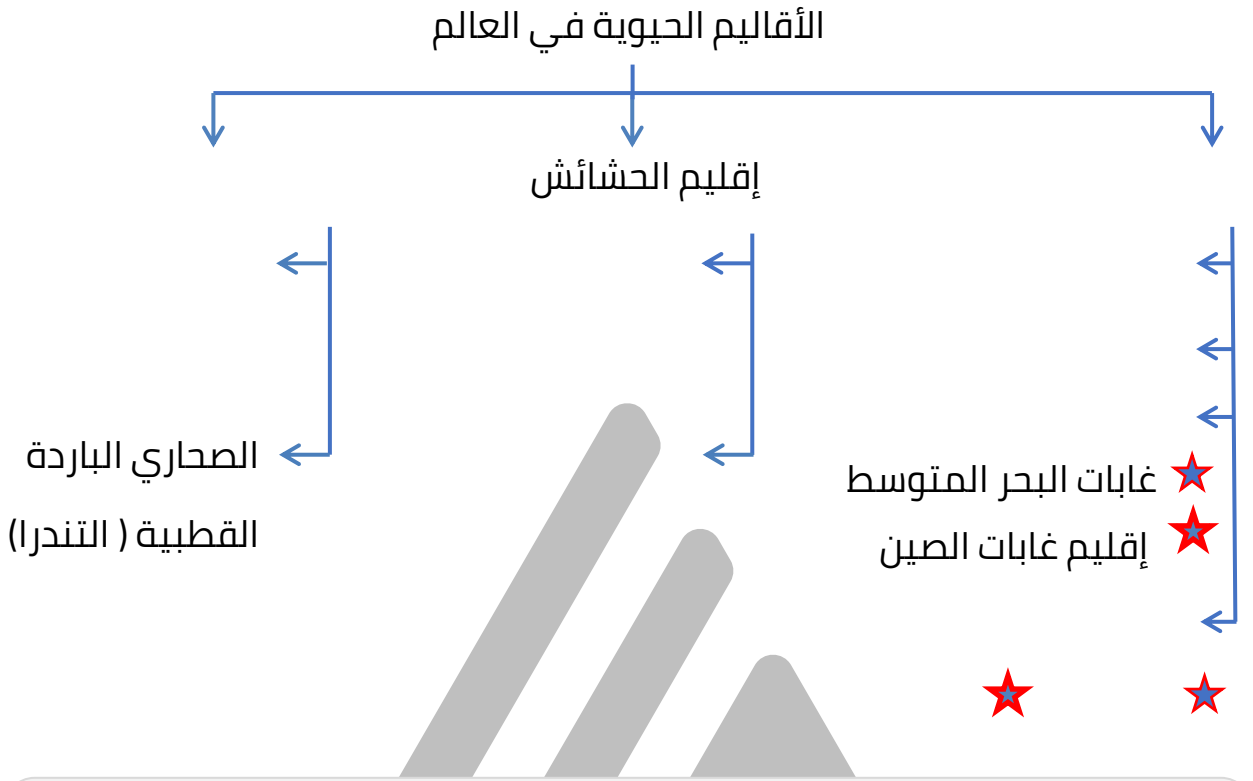

تـــدرب و تـفـوق
اختبارات الكترونية
UULA

UULA
معلمي الكويت
صفوة
KuwaitTeacher.Com

© جميع الحقوق محفوظة

الغابات الحارة الاستوائية

س أكمل : تمتد الغابات الحارة الاستوائية بين دائرتي عرض _ 5 شمالاً - 5 جنوباً _

س التوزيع الجغرافي للغابات الحارة الاستوائية :

قارة أسيا	قارة أفريقيا	قارة أمريكا الجنوبية
_ _ _ _ _ _ _ _ _	_ _ _ _ _ _ _ _ _	
_ _ _ _ _ _ _ _ _	_ _ _ _ _ _ _ _ _	_ _ _ _ _ _ _ _ _
_ _ _ _ _ _ _ _ _		

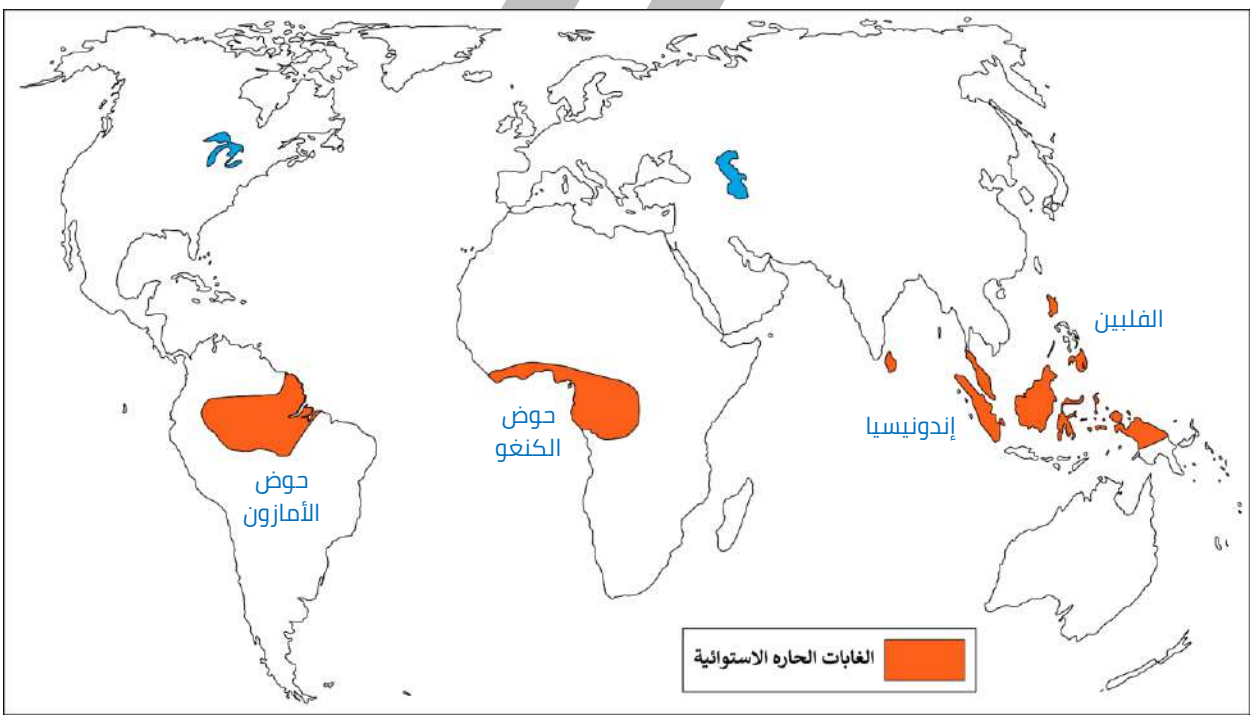

س اختياري: تتوزع الغابات الحارة الاستوائية في قارة أمريكا الجنوبية في:

○ حوض الكونغو ○ حوض الأمازون
○ ساحل غانا ○ سهل البمباس

معلمي الكويت
صفوة
KuwaitTeacher.Com

© جميع الحقوق محفوظة

س فرق بين الظروف المناخية في الغابات الحارة الاستوائية :

درجة الحرارة	الأمطار

س اختياري : كمية المطر السنوي في إقليم الغابات الحارة الاستوائية

○ 20 بوصة ○ 40 بوصة
○ 60 بوصة ○ 80 بوصة

س عدد مميزات الحياه النباتية في الغابات الحارة الاستوائية

س أكمل : صعوبة استغلال الغابات الحارة الاستوائية اقتصادياً بسبب _ _ _ _ _ _ _ _ _

عرف

غابات الدهاليز

علل

س انتشار البرك والمستنقعات في الغابات الاستوائية

س انتشار الأمراض والأوبئة في مناطق الغابات الاستوائية (غابات الدهاليز)

UULA
صفوة معلمي الكويت
KuwaitTeacher.Com

س علل- يطلق على أشجار الغابات الاستوائية اسم أشجار التاج

س اختياري : الاسم الذي يطلق على قمم أشجار الغطاء النباتي في الغابة الاستوائية هو :

○ الأبنوس ○ الماهوجني
○ خشب الورد ○ التاج

علل

س ارتفاع الأشجار في قلب الغابات الاستوائية ليصل إلى 50 متر

س تقل كثافة وحجم الأشجار كلما ابتعدنا عن قلب الغابة الاستوائية

ممكن أن يظهر السؤال في صيغة اخرى:
(علل – يتراوح ارتفاع الأشجار في أطراف الغابة الاستوائية من 15 -30 م)

س الغابات الاستوائية مناطق غير صالحة للسكن والاستقرار

س عدد أهم أنواع الأشجار في الغابات الاستوائية

ممكن أن يظهر السؤال في صيغ اخرى: اختياري فرق

UULA
معلمي الكويت
صفوة
KuwaitTeacher.Com

© جميع الحقوق محفوظة

اختر الإجابة الصحيحة :

س أهم أنواع أشجار إقليم الغابات الحارة الاستوائية :

○ الصندل ○ الساج
○ الأبنوس ○ الهشاب

س أشجار الأخشاب الصلبة ذات القيمة الاقتصادية في الغابات الاستوائية :

○ المطاط ○ خشب الورد
○ الهشاب ○ المسافر

س علل - كثرة النباتات المتسلقة في الغابات الاستوائية

س أكتب مدلول الصورة المقابلة:



س عدد – أنواع الحياة الحيوانية في الغابات الحارة الاستوائية

ممكن أن يظهر السؤال في صيغة اخرى: (صمم مخطط سهمي لأنواع الحيوانات في الغابات الاستوائية)

س عدد مميزات الثدييات المتسلقة في الغابات الاستوائية

س علل - كثرة الثدييات المتسلقة في الغابات الاستوائية

UULA
صفوة معلمي الكويت
KuwaitTeacher.Com

© جميع الحقوق محفوظة

أكمل العبارات التالية :



ممكن أن يظهر السؤال في صيغ اخرى: اختياري عرف

س الحيوان الأكثر خطراً في الغابة الأمازونية يسمى _____

س الصورة المقابلة تمثل حيوان يسمى _____

س أضخم ثعابين العالم وأخطرها حيث يقوم بعصر فريسته حتى الموت ويبلغ طولها من 8.5م إلى 10 م تسمى _____



س الصورة المقابلة تمثل الأناكوندا التي يكثر وجودها في الغابات الاستوائية في حوض يسمى _____

س أكتب مدلول الصور التالية









_____ _____ _____ _____

تـــدرب و تـفـوق
اختبارات الكترونية

UULA
معلمي الكويت
صفوة
KuwaitTeacher.Com

© جميع الحقوق محفوظة

الغابات الحارة الموسمية

س التوزيع الجغرافي :

قارة آسيا	قارة أفريقيا	قارة أمريكا الجنوبية	قارة أستراليا

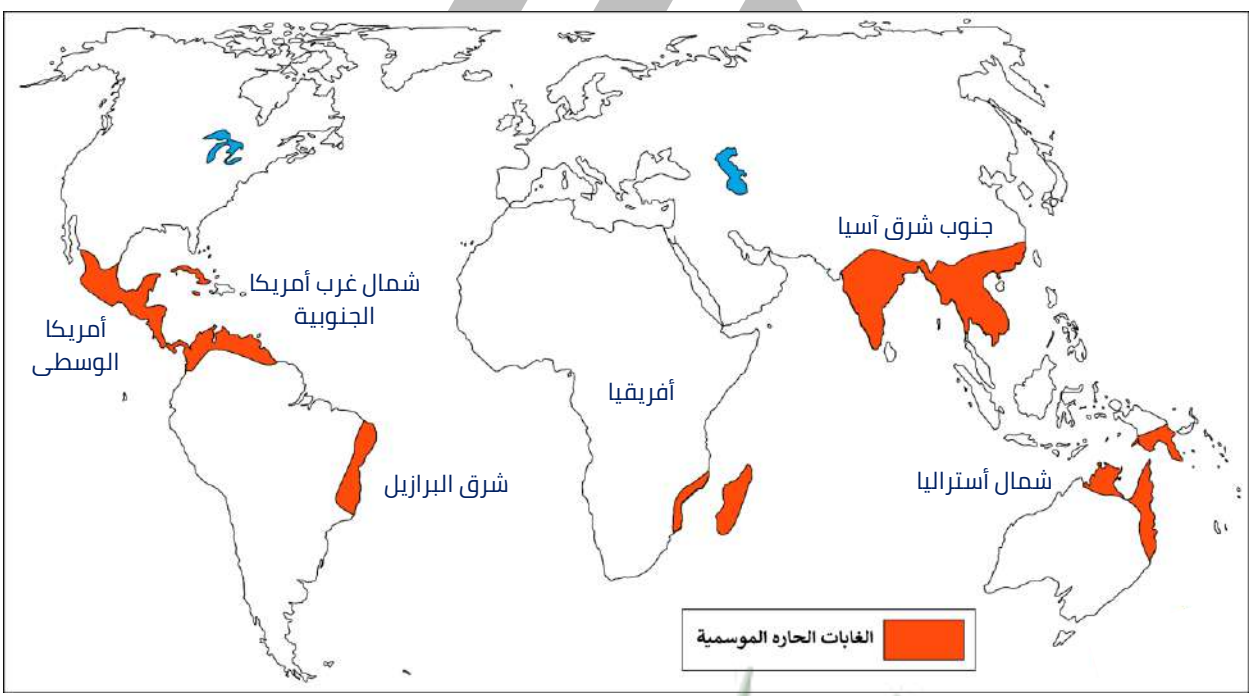

س اختياري : تقع الغابات الحارة الموسمية في قارة آسيا جهة :

○ الجنوب الغربي ○ الجنوب الشرقي
○ الشمال الغربي ○ الشمال الشرقي

معلمة الكويت
KuwaitTeacher.Com

© جميع الحقوق محفوظة

س فرق بين الظروف المناخية الغابات الحارة الموسمية :

درجة الحرارة	الأمطار

س اختياري : كمية المطر السنوي في إقليم الغابات الحارة الموسمية :

○ أقل من 10 بوصة
○ 20- 40 بوصة
○ 40 – 60 بوصة
○ 40 – 80 بوصة

س عدد - مميزات الحياة النباتية في الغابات الحارة الموسمية

س عدد أهم أنواع الأشجار في الغابات الحارة الموسمية

ممكن أن يظهر السؤال في صيغة اخرى: اختياري

س اختياري : من أشجار الصمغ في الغابات الحارة الموسمية :

○ الهشاب والطلح
○ الزيتون والخروب
○ السرو والعرعر
○ المطاط ونخيل الزيت

UULA
معلمي الكويت
صفوة
KuwaitTeacher.Com

© جميع الحقوق محفوظة

س صمم مخططاً سهمياً يوضح الأنواع الرئيسية لحيوانات الغابات الموسمية

س أكتب عن الحياة الحيوانية في الغابات الحارة الموسمية

س فرق بين كل من :

مميزات الثدييات في الغابات الحارة الاستوائية	مميزات الثدييات في الغابات الحارة الموسمية

س أكتب مدلول الصور التالية :






صفوة الكويت
KuwaitTeacher.Com

© جميع الحقوق محفوظة

عرف المفاهيم التالية :

ممكن أن يظهر السؤال في صيغ اخرى: أكمل | اختياري | فرق

فن التخفي

التسي تسي

المثقبيات



س أكمل : الصورة المقابلة تمثل ذبابة أفريقية تسمى _____

س قارن بين كل من :

أوجه المقارنة	الغابات الحارة الاستوائية	الغابات الحارة الموسمية
التوزيع الجغرافي		
الظروف المناخية		
أنواع الأشجار		

تـــدرب و تـفـوق
اختبارات الكترونية
UULA

© جميع الحقوق محفوظة

الغابات المعتدلة الدفيئة

س عدد أقاليم الغابات المعتدلة الدفيئة

س اختياري : تنتمي غابات البحر المتوسط إلى إقليم الغابات :

- ○ الحارة الموسمية
- ○ الحارة الاستوائية
- ○ المعتدلة الدفيئة
- ○ المعتدلة الباردة

س فرق بين كل من :

وجه المقارنة	إقليم غابات البحر المتوسط	إقليم غابات الصين
التوزيع الجغرافي		

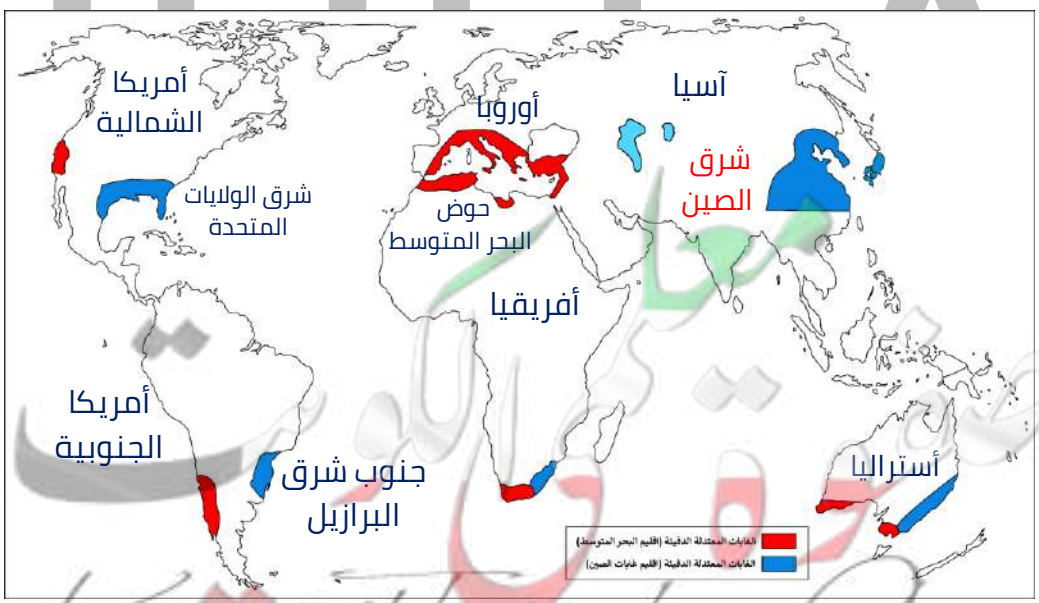

KuwaitTeacher.Com

© جميع الحقوق محفوظة

س فرق بين كل من :

المعيار	إقليم غابات البحر المتوسط	إقليم غابات الصين
الظروف المناخية		

اختر الإجابة الصحيحة:

س كمية المطر السنوي في إقليم غابات البحر المتوسط :

- ○ أقل من 10 بوصة
- ○ 20- 40 بوصة
- ○ 40 – 60 بوصة
- ○ 40 – 80 بوصة

س كمية المطر السنوي في إقليم غابات الصين:

- ○ أقل من 10 بوصة
- ○ 20- 30 بوصة
- ○ 30 – 50 بوصة
- ○ 40 – 50 بوصة

س عدد – أنواع نباتات إقليم البحر المتوسط

ممكن أن يظهر السؤال في صيغ اخرى: أكمل اختياري

UULA
معلمة الكويت
صفوة
KuwaitTeacher.Com

© جميع الحقوق محفوظة

أكمل العبارات التالية :

س أشجار تنمو في إقليم غابات البحر المتوسط جذوعها ذات عقد تسمى _ _ _ _ _ _ _

س الحشائش التي تنمو في إقليم غابات البحر المتوسط تسمى _ _ _ _ _ _ _ _ _ _ _ _

اختر الإجابة الصحيحة:

س الأشجار ذات الأوراق العريضة الخضراء في إقليم غابات البحر المتوسط:

○ الزيتون ○ الخروب ○ الصنوبر ○ الكافور

س أشجار جذوعها ذات عقد كثيرة تنمو إقليم غابات البحر المتوسط:

○ الفستق ○ الخروب ○ الصنوبر ○ الكافور

س عدد أنواع نباتات الإقليم الصيني

س اختياري : الإقليم النباتي الذي تنمو فيه السرخسيات والبامبو والمتسلقات:

○ الغابات الحارة الاستوائية ○ الغابات الحارة الموسمية
○ غابات البحر المتوسط ○ غابات الصين

س الإقليم الحيوي الذي تتشابه فيه الحياة الحيوانية مع إقليم البحر المتوسط يسمى _ _ _ _ _ _ _ _ _ _ _ _

س أكتب عن الحياة الحيوانية في الغابات المعتدلة الدفيئة

ممكن أن يظهر السؤال في صيغ اخرى:
(عدد الأنواع الرئيسية للحيوانات فى الغابات المعتدلة الدفيئة) - (اختيارى)

UULA
معلمي الكويت
صفوة
KuwaitTeacher.Com

س أكتب مدلول الصور التالية :



_ _ _ _ _ _ _



_ _ _ _ _ _ _



_ _ _ _ _ _ _



_ _ _ _ _ _ _ _ _ _ _

عرف المفاهيم التالية :

الكنغر

_ _ _ _ _ _ _ _ _ _ _

س أضخم وأقدم شجرة على وجه الأرض عمرها يفوق _ _ _ _ _ _ _ _ _ _

س شجرة تكفي بناء 40 منزل خشبي تسمى _ _ _ _ _ _ _

س شجرة وزنها 1385 طن ويحملها قاطرة من 30 عربة تسمى _ _ _ _ _ _ _

س اختياري: أضخم وأقدم شجرة على وجه الأرض وعمرها يفوق 3500 سنة:

○ التبلدي ○ السكويا ○ المسافر ○ الأمبو

لاحظ خريطة العالم ثم اجب عما يليها من أسئلة :

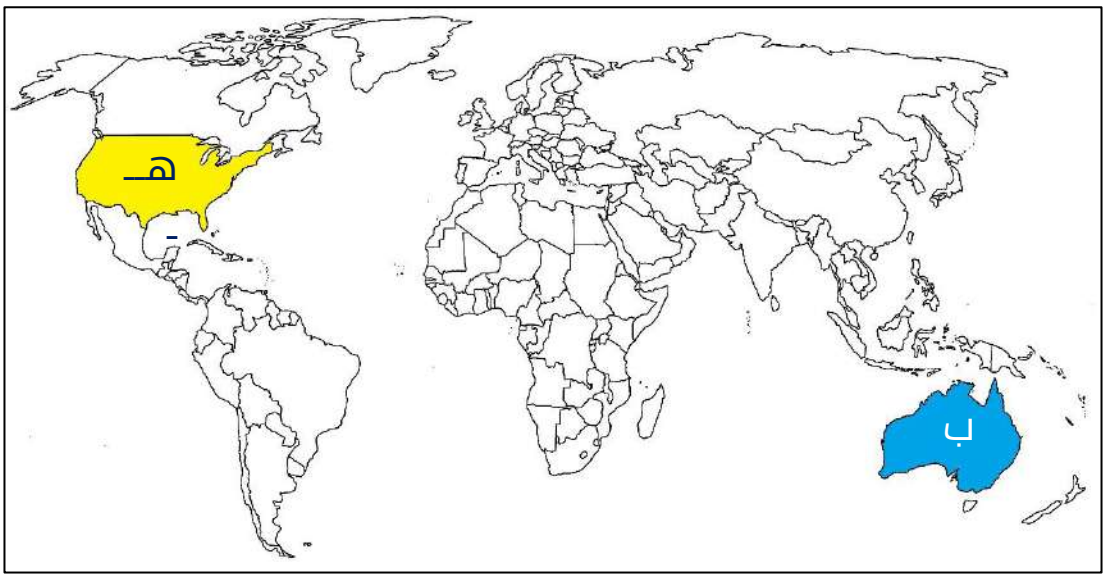

س القارة التي يعيش فيها حيوان الكنغر يمثلها الحرف _ _ _ _

س الدولة التي تنمو فيها أقدم وأضخم شجرة على وجه الأرض يمثلها الحرف _ _ _ _

تـــدرب و تـفـوق
اختبارات الكترونية

معلمي الكويت
صفوة
KuwaitTeacher.Com

الغابات المعتدلة الباردة

س عدد - أنواع الغابات المعتدلة الباردة

س اختياري : الغابات النفضية تنتمي إلى إقليم الغابات:

○ الحارة الموسمية ○ الحارة الاستوائية
○ المعتدلة الدفيئة ○ المعتدلة الباردة

س التوزيع الجغرافي للغابات المعتدلة الباردة :

المعيار	قارة آسيا	قارة أوروبا	قارة أمريكا الشمالية
الغابات النفضية	---------	----------	----------
الغابات المخروطية	---------	----------	----------

معلمي الكويت
صفوة
KuwaitTeacher.Com

س فرق بين الظروف المناخية في إقليم الغابات المعتدلة الباردة :

درجة الحرارة	الأمطار

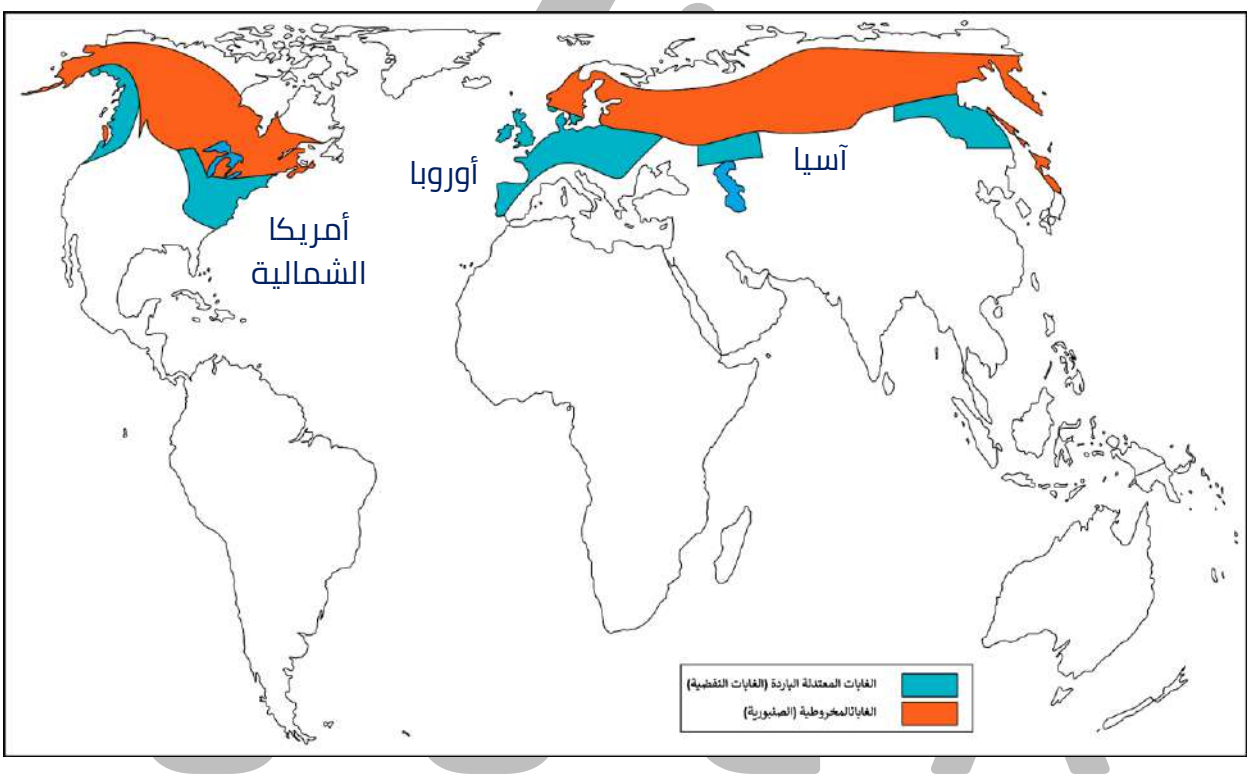

معلمي الكويت
صفوة
KuwaitTeacher.Com

س علل / زيادة كمية الأمطار في غرب القارات في إقليم الغابات المعتدلة الباردة

س اختياري : إقليم حيوي معظم التساقط فيه يكون على شكل ثلج :

- ○ الغابات المعتدلة الدفيئة
- ○ إقليم الغابات المعتدلة الباردة
- ○ الغابات الباردة القطبية
- ○ الغابات الموسمية

عرف المفاهيم التالية :

الغابات النفضية

الغابات المخروطية (الصنوبرية)

أكمل العبارات التالية :

س الغابات النفضية تسمى غابات _____

س تعرف الغابات الصنوبرية باسم _____

س نسبة الغابات الصنوبرية من المساحة الكلية لدولة السويد _____

س نسبة الغابات الصنوبرية من المساحة الكلية لدولة فنلندا _____

س اختياري : نسبة الغابات الصنوبرية من المساحة الكلية لدولة فنلندا يمثله الجزء المظلل في الدائرة البيانية

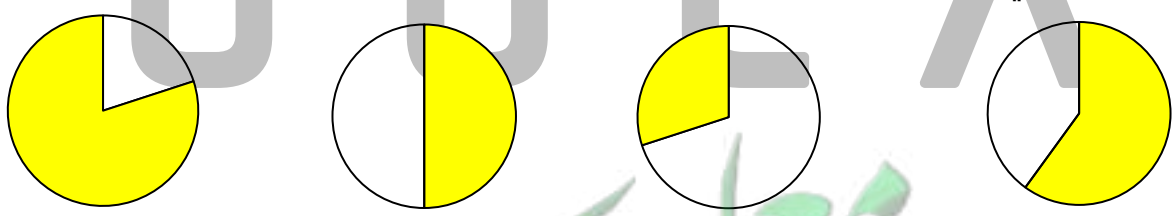

○ أ ○ ب ○ ج ○ د

س بم نفسر تسمية الغابات النفضية بهذا الاسم

ممكن أن يظهر السؤال في صيغ اخرى: (علل- الغابات النفضية تسمى بالغابات متساقطة الأوراق)

KuwaitTeacher.Com

©جميع الحقوق محفوظة

س علل - تسمية الغابات الصنوبرية بالغابات الإبرية الأوراق حاملة المخاريط

س يطلق على الغابات المخروطية اسم غابات الأخشاب الرخوة

س عدد الأسماء التي تطلق على الغابات المخروطية

س اذكر اسمين لكل نبات طبيعي حسب الجدول التالي :

ممكن أن يظهر السؤال في صيغ اخرى: اختياري عدد

الأشجار النفضية	الأشجار الصنوبرية
----------	----------
----------	----------

س عدد الأنواع الرئيسية للحيوانات في الغابات المعتدلة الباردة

عرف

الوشق

UULA
صفوة معلمي الكويت
KuwaitTeacher.Com

© جميع الحقوق محفوظة

أكمل العبارات التالية:



س الصورة المقابلة تمثل حيوان يسمى _ _ _ _ _ _ _ _

س السمور والمنك والظربان الأمريكي حيوانات ذات _ _ _ _ _

س أكتب مدلول الصور التالية :







_ _

س قارن بين كل من : (حيوانات ذات فراء)

المقارنة	السمور " القندس "	المنك	الظربان الأمريكي
الموطن الرئيسي	_ _ _ _ _ _ _ _	_ _ _ _ _ _ _ _	_ _ _ _ _ _ _ _
الوصف	_ _ _ _ _ _ _ _	_ _ _ _ _ _ _ _	_ _ _ _ _ _ _ _

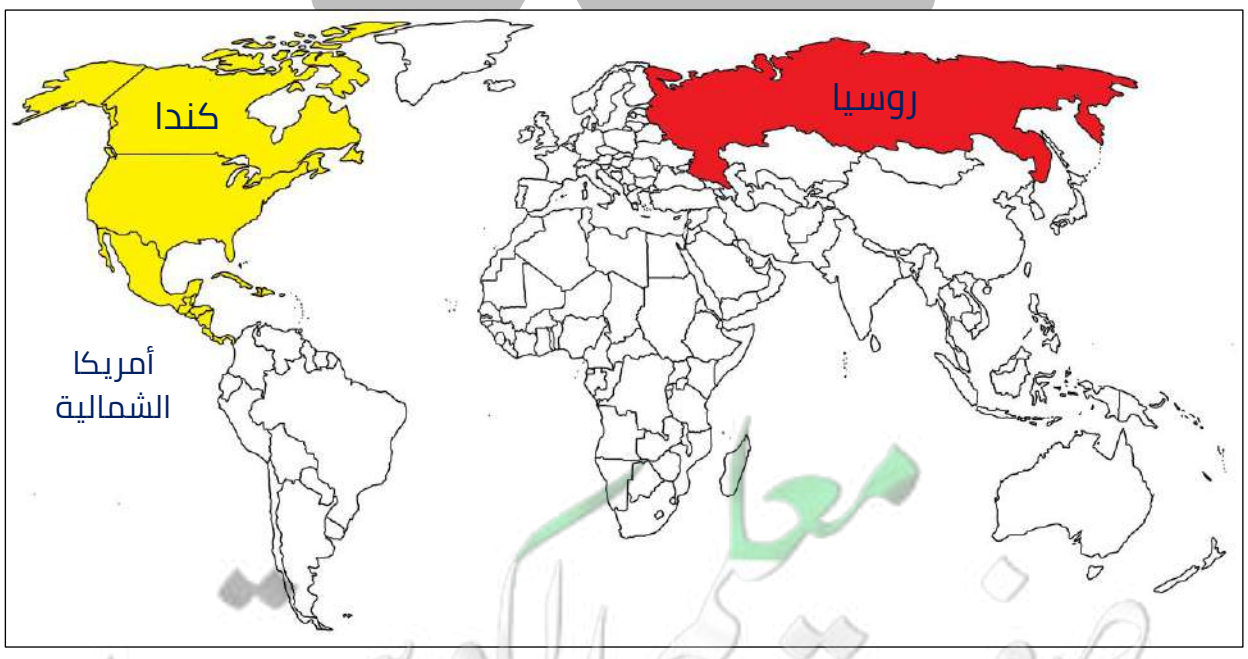

تـــدرب و تـفـوق
اختبارات الكترونية
UULA
معلمي الكويت
KuwaitTeacher.Com

الحشائش الحارة الطويلة " السافانا "



عرف

السافانا

س أكمل جدول التوزيع الجغرافي لحشائش السافانا:

قارة أفريقيا	قارة أمريكا الجنوبية	قارة أستراليا
----------	----------	----------

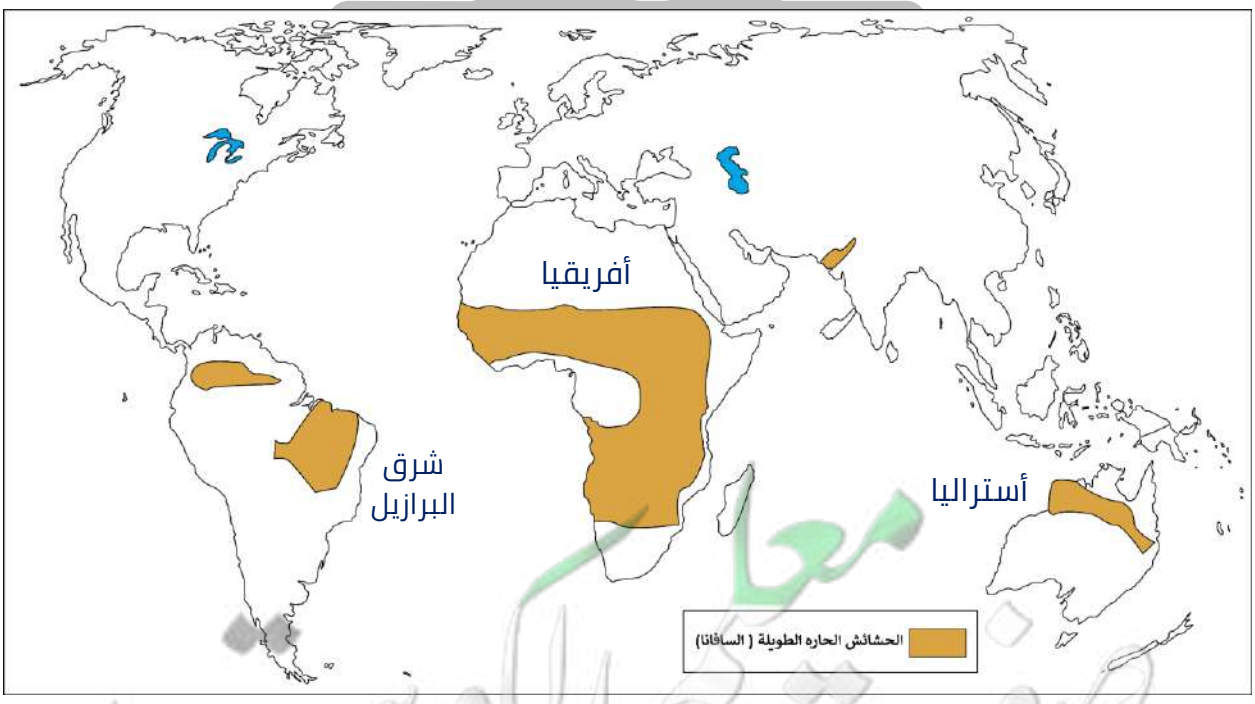

معلمة الكويت
KuwaitTeacher.Com

© جميع الحقوق محفوظة

س فرق بين الظروف المناخية في إقليم السافانا :

ممكن أن يظهر السؤال في صيغ اخرى: اختياري أكمل

درجة الحرارة	الأمطار
▪ _____ ▪ _____ ▪ _____	▪ _____ ▪ _____ ▪ _____

اختر الإجابة الصحيحة:

س فصل سقوط الأمطار في إقليم الحشائش الطويلة (السافانا) :

○ الربيع ○ الصيف ○ الشتاء ○ الخريف

س - كمية المطر السنوي في إقليم حشائش السافانا:

○ أقل من 10 بوصة ○ 20- 40 بوصة
○ 40– 50 بوصة ○ 40 – 80 بوصة

س عدد - مميزات الحياة النباتية في إقليم الحشائش الحارة الطويلة (السافانا)

_____

_____

س ارسم خريطة ذهنية لأنواع السافانا

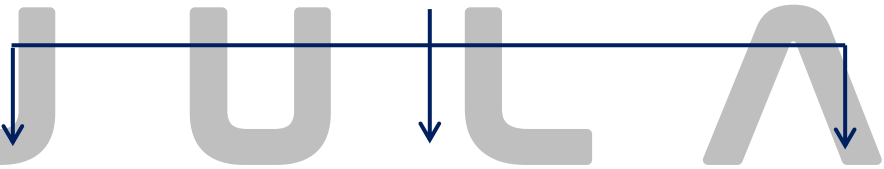

UULA
معلمي الكويت
صفوة
KuwaitTeacher.Com

أكتب المفهوم العلمي:

ممكن أن يظهر السؤال في صيغ اخرى: عرف | فسر | فرق | اختياري

س الحشائش المدارية الطويلة ويتراوح طولها من 2 – 4 متر تسمى _____

س الحشائش الطويلة الكثيفة التي تعوق الرؤية ولا تظهر الطرقات تسمى _____

س الحشائش المدارية الخشنة التي يتراوح طولها إلى 1 متر تسمى _____

س أشجار معمرة السعة التخزينية في تجويفها 40 – 100 برميل للشجرة الواحدة تسمى _____

أكمل العبارات التالية :

س الصورة المقابلة تمثل أشجار معمرة يزيد عمر الواحدة منها عن 200 عام تسمى _____



س فصل سقوط المطر في كردفان بالسودان يسمى _____

س القبائل السودانية ذات الأصول العربية والمعروفة بتربية الإبل والضأن بكردفان تسمى _____

س علل - أهمية أشجار التبلدي للقبائل السودانية

_____

_____

_____

_____

س قيام قبائل دار حمر بتخزين مياه الأمطار في جذوع أشجار التبلدي

_____

س اختياري : الدولة التي تنمو فيها أشجار التبلدي :

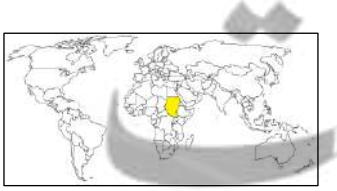

○ الأرجنتين ○ السودان
○ تشاد ○ مدغشقر

UULA
معلمي الكويت
KuwaitTeacher.Com

س اكتب عن الحياة الحيوانية في إقليم حشائش السافانا

ممكن أن يظهر السؤال في صيغ اخرى: عرف فرق

س أكتب مدلول الصور التالية :







_____ _____ _____ _____ _____

أكمل العبارات التالية :

س أي من الأحياء التالية لا يعيش في إقليم حشائش السافانا :






○ أ ○ ب ○ ج ○ د

س الحمار الوحشي من الحيوانات آكلة العشب ويعيش في إقليم:

○ الغابات المعتدلة الباردة
○ حشائش السافانا
○ حشائش الإستبس
○ الصحاري الجافة

UULA
معلمي الكويت
KuwaitTeacher.Com

© جميع الحقوق محفوظة

س " حاجة الفيلة للسافانا توازي حاجة السافانا لها " دلل على صحة العبارة

تـــدرب و تـفـوق
اختبارات الكترونية

معلمي الكويت
صفوة
KuwaitTeacher.Com

© جميع الحقوق محفوظة

الحشائش المعتدلة القصيرة " الإستبس "

س التوزيع الجغرافي لحشائش الإستبس :

قارة آسيا			قارة أوروبا
قارة أمريكا الشمالية	قارة أمريكا الجنوبية	قارة أستراليا	قارة أفريقيا

س اختياري : موقع الحشائش المعتدلة القصيرة (الإستبس) في أمريكا الشمالية في السهول :

○ الشمالية ○ الجنوبية ○ الشرقية ○ الوسطى

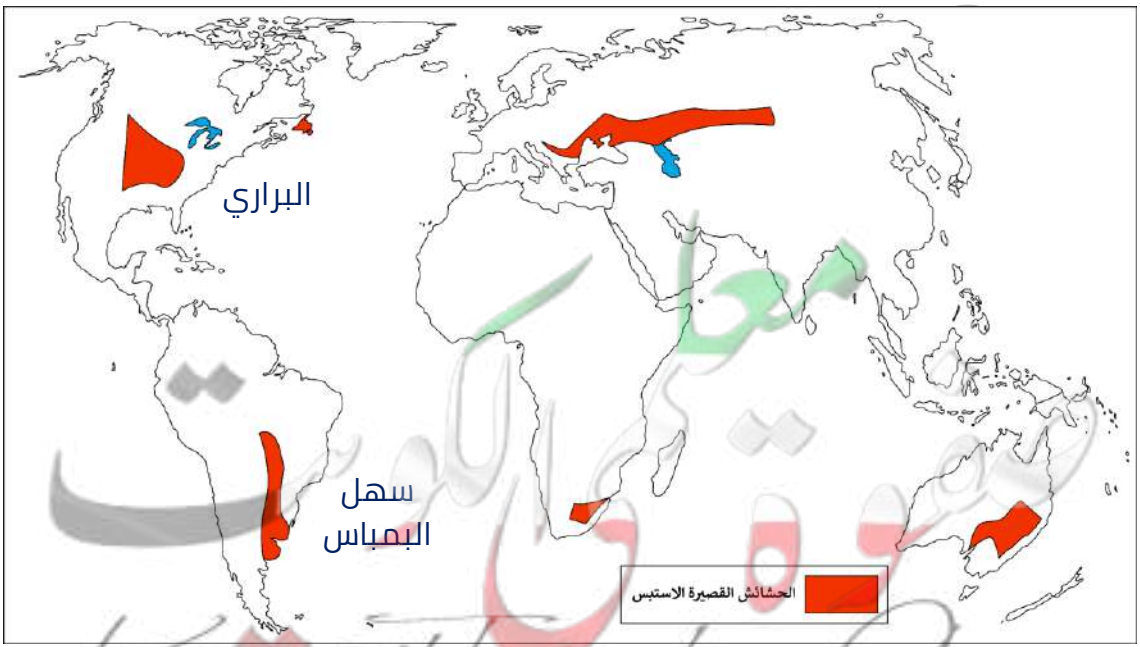

معلم الكويت
KuwaitTeacher.Com

© جميع الحقوق محفوظة

س فرق بين الظروف الظروف المناخية في إقليم السافانا:

ممكن أن يظهر السؤال في صيغ اخرى: اختياري أكمل

درجة الحرارة	الأمطار

س أكمل: قسم علماء النبات أراضي الحشائش إلى السهب و _____

عرف المفاهيم التالية :

ممكن أن يظهر السؤال في صيغ اخرى: أكمل فرق اختياري

السهب

البراري

س عدد مميزات الحياة النباتية في إقليم الإستبس

ممكن أن يظهر السؤال في صيغة اخرى: أكمل

س ارسم خريطة ذهنية لأقسام إقليم الإستبس

ممكن أن يظهر السؤال في صيغة اخرى: عدد

KuwaitTeacher.Com

س قارن بين كل من :

ممكن أن يظهر السؤال في صيغ اخرى: اختياري | أكمل | عدد

المقارنة	الإستبس الحقيقي	الإستبس الجاف
المناطق التي تمثله	_____ _____	_____ _____
اسم التربة	_____	_____
مميزات التربة	▪ _____ ▪ _____	▪ _____ ▪ _____
الأهمية الاقتصادية	_____	_____

س علل - يُستغل إقليم الإستبس الجاف في عمليات الرعي

.....

.....

أكمل العبارات التالية

ممكن أن يظهر السؤال في صيغة اخرى: اختياري

س نوع تربة إقليم الإستبس الجاف تسمى _____

س نوع تربة إقليم الإستبس الحقيقي تسمى _____

س تربة التشرنوزم تتشبع بالرطوبة عند انصهار الثلج في فصل _____

س يطلق على إقليم الإستبس في أوكرانيا وحول القسم الشمالي من البحر الأسود اسم _____

س القبائل التي تقوم برعي الخيول في أراضي الإستبس الحقيقي تسمى _____

س أحد أقسام الإستبس يقع شمال إقليم الإستبس الحقيقي يسمى إقليم _____

معلم الكويت
Kuwaitteacher.Com

© جميع الحقوق محفوظة

س عدد مميزات إقليم الإستبس

س علل - إزالة مساحات واسعة من حشائش الإستبس في أوروبا

س اكتب عن الحياة الحيوانية في إقليم حشائش الإستبس

س أكمل :الحيوان المهدد بالانقراض في إقليم الحشائش المعتدلة القصيرة يسمى

س اكتب مدلول الصور التالية :






عرف

شجرة المسافر

معلمي الكويت
صفوة
KuwaitTeacher.Com

© جميع الحقوق محفوظة

أكمل العبارات التالية

ممكن أن يظهر السؤال في صيغة اخرى: اختياري



س الصورة المقابلة تمثل شجرة _ _ _ _ _ _ _ _

س الدولة التي تنمو فيها شجرة المسافر تسمى

_ _ _ _ _ _ _ _

س علل - تسمية شجرة المسافر بهذا الاسم

أكمل العبارات التالية

ممكن أن يظهر السؤال في صيغة اخرى: اختياري



س الصورة المقابلة تمثل أكثر الأشجار تحملاً للظروف القاسية تسمى _ _ _ _ _ _ _ _ _ _ _ _

س الدولة التي تنمو فيها شجرة الأومبو تسمى

_ _ _ _ _ _ _

س علل- شجرة الأومبو من أكثر الأشجار تحملا للظروف المناخية القاسية

ممكن أن يظهر السؤال في صيغة اخرى: عدد مميزات

س اختياري : أكثر الأشجار تحملاً للظروف القاسية ومقاومة الجفاف والإصابة بالآفات الحشرية :

○ السافانا ○ المسافر ○ التبلدي ○ الأومبو

UULA
معلمي الكويت
صفوة
KuwaitTeacher.Com

لاحظ الخريطة التالية ثم نفذ المطلوب منك :

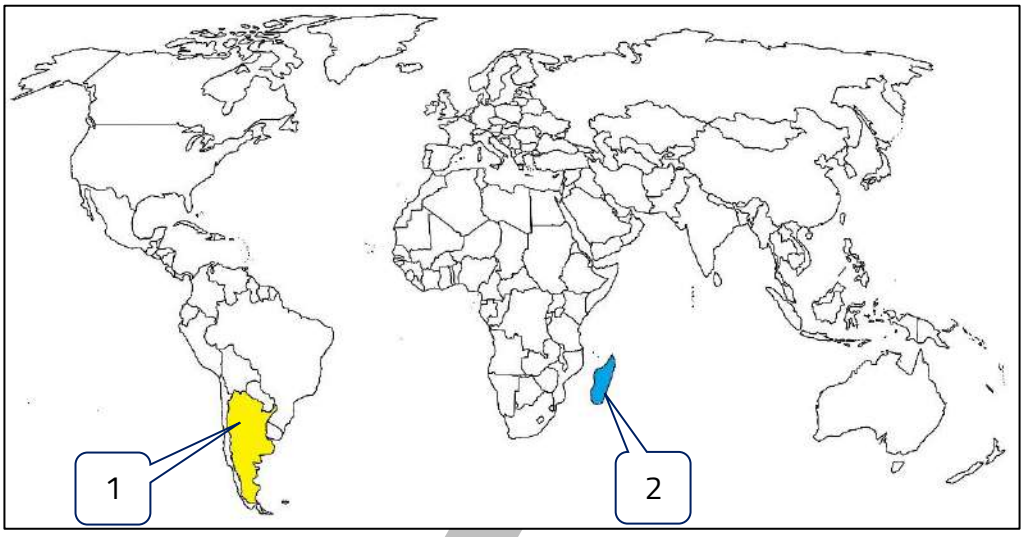

س الدولة التي تنمو فيها شجرة المسافر يمثلها الرقم _ _ _ _ _ _ _

س الدولة التي تنمو فيها شجر الأومبو يمثلها الرقم _ _ _ _ _ _ _

س قارن بين كل مما يلي :

أوجه المقارنة	الحشائش الحارة الطويلة " السافانا "	الحشائش المعتدلة القصيرة " الاستبس "
درجة الحرارة		
الأمطار		

تـــدرب و تـفـوق
اختبارات الكترونية

© جميع الحقوق محفوظة

الصحاري الجافة
" الحارة – المعتدلة "

عرف

صحراء

س أكمل جدول التوزيع الجغرافي للصحاري الحارة - المعتدلة

القارة	آسيا	أفريقيا
الصحاري الجافة الحارة		
الصحاري الجافة المعتدلة		

القارة	أمريكا الشمالية	أمريكا الجنوبية	أستراليا
الصحاري الجافة الحارة			
الصحاري الجافة المعتدلة			

معلمي الكويت
صفوة
KuwaitTeacher.Com

© جميع الحقوق محفوظة

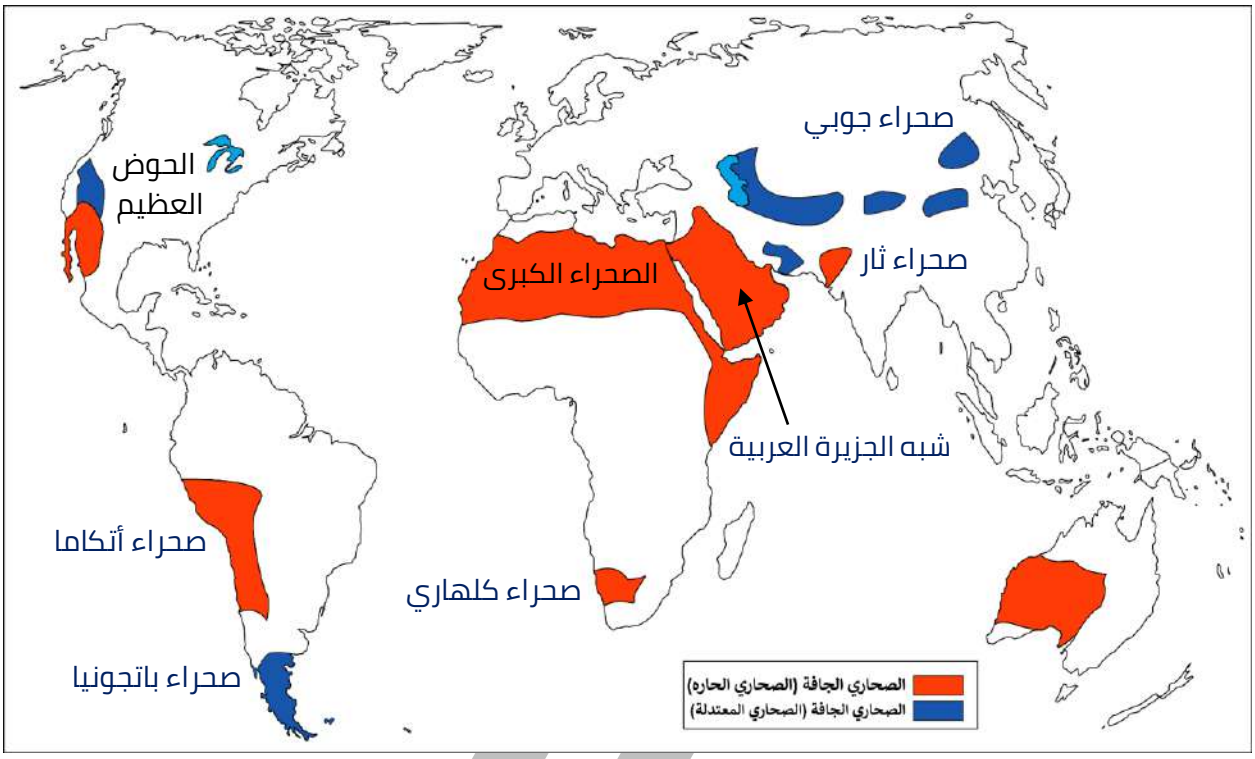

س أذكر أهم صحاري قارة أفريقيا

اختر الاجابة الصحيحة

ممكن أن يظهر السؤال في صيغة اخرى: أكمل

س تقع صحراء " ثار " في شمال غرب :

○ تشيلي ○ الهند ○ الصومال ○ استراليا

س الدولة التي تقع فيها صحراء أتكاما :

○ الأرجنتين ○ الهند ○ شيلي ○ الولايات المتحدة

س النسبة التي تشغلها الصحاري الحارة من المساحة الكلية لليابس :

○ الخمس ○ الربع ○ الثلث ○ النصف

UULA
معلمي الكويت
KuwaitTeacher.Com

© جميع الحقوق محفوظة

س نسبة الصحاري الحارة من المساحة الكلية لليابس يمثلها الجزء المظلل في الدائرة البيانية

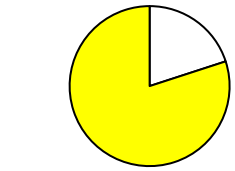

أ ○ ب ○ ج ○ د ○

س أكبر صحاري العالم تمتد شمال قارة أفريقيا تسمى :

○ صحراء ناميبيا ○ صحراء كلهاري
○ الصحراء الكبرى ○ صحراء جوبي

س تبلغ مساحة الصحراء الكبرى حوالي:

○ 8 مليون كم2 ○ 9 مليون كم2
○ 10 مليون كم2 ○ 11 مليون كم2

س تمتد الصحراء الكبرى من الشمال للجنوب بطول :

○ 3000 كم ○ 1500 كم
○ 2000 كم ○ 1000كم

س تمتد الصحراء الكبرى من الشرق إلى الغرب بطول :

○ 1500 كم ○ 2000 كم
○ 3000كم ○ 5000 كم

س القارة التي تمد شمالها الصحراء الكبرى :

○ أستراليا ○ أفريقيا
○ أمريكا الجنوبية ○ آسيا

عرف

الصحراء الكبرى



UULA
صفوة معلمي الكويت
KuwaitTeacher.Com

س فرق بين الظروف المناخية في إقليم الصحاري الحارة -الجافة -المعتدلة

درجة الحرارة	الأمطار

س عدد - المميزات النباتية في إقليم الصحاري الحارة

س أنواع النباتات في إقليم الصحاري الحارة

س اكتب عن الحياة الحيوانية في إقليم الصحاري (الجافة – الحارة – المعتدلة)

UULA
معلمي الكويت
KuwaitTeacher.Com

© جميع الحقوق محفوظة

س اختياري : حيوان ينتمي للثدييات كبيرة الحجم يعيش في الصحاري الجافة - الحارة :

○ الجاموس ○ الجمل ○ الخيل ○ الزراف

س عدد سمات الغزال - الظبي -الوعل

.....

.....

.....

عرف

القيوط

.....

.....

أكمل العبارات التالية



س الصورة المقابلة تمثل نوع من الذئاب يسمى _____



س صحراء ينمو فيها نبات يشبه الشمعدان العملاق يشكل مأوى لحيوانات كثيرة ويخزن كميات كبيرة من المياه في جذوعة تسمى _____

س علل - أهمية النبات الموضح في الصورة المقابلة

.....

.....

س اكتب مدلول الصور التالية :



_____



_____

تـــدرب و تـفـوق

اختبارات الكترونية

UULA
صفوف الكويت
KuwaitTeacher.Com

إقليم الصحاري الباردة القطبية (الصحاري البيضاء) التندرا

عرف

تندرا

س أكمل جدول التوزيع الجغرافي لإقليم الصحاري الباردة القطبية

ممكن أن يظهر السؤال في صيغة اخرى: حدد على الخريطة

قارة آسيا	قارة أوروبا	قارة أمريكا الشمالية

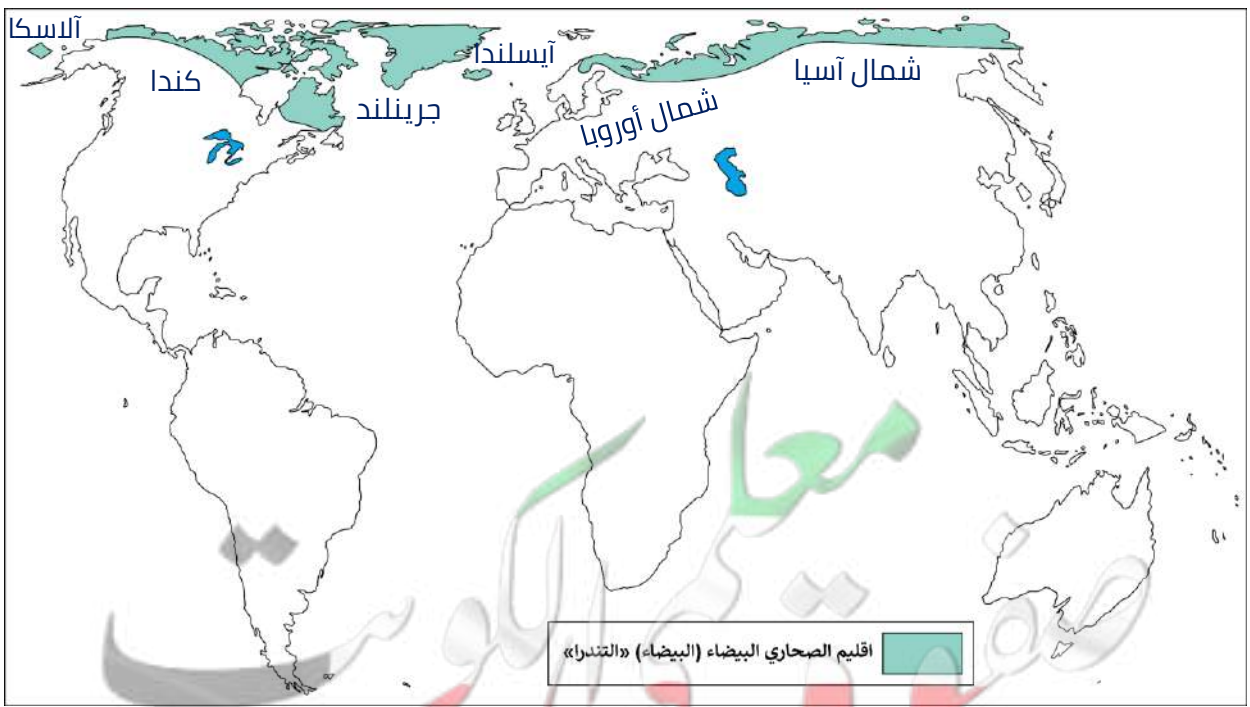

معلم الكويت
KuwaitTeacher.Com

© جميع الحقوق محفوظة

س فرق بين الظروف المناخية لإقليم التندرا

درجة الحرارة	الأمطار

أكمل العبارات التالية

ممكن أن يظهر السؤال في صيغة اخرى: عرف

س كائنات حية مكونة من الطحالب والفطريات تسمى _____

س كائنات حية مكونة من اندماج ولقاء الطحلب والفطرة تسمى _____



س الصورة المقابلة تمثل كائنات حية تسمى _____

اختر الاجابة الصحيحة

س " الطحالب – الأشنة " تزدهر في فصل الصيف عقب ذوبان الجليد في إقليم :

- ○ الصحاري الباردة القطبية
- ○ الصحاري البيضاء
- ○ التندرا
- ○ كل ما سبق

س العشبيات الباردة في إقليم الصحاري البيضاء:

- ○ الهشاب والطلح
- ○ الكراوبري والراسبري
- ○ البامبو والماكي
- ○ الطحالب والأشنة

س علل - للنباتات الحولية مميزات عديدة

ممكن أن يظهر السؤال في صيغة اخرى: (عدد المميزات النباتية في إقليم التندرا)

UULA
صفوة الكويت
KuwaitTeacher.Com

© جميع الحقوق محفوظة

س اكتب عن الحياة الحيوانية في إقليم الصحاري الباردة القطبية ؟

ممكن أن يظهر السؤال في صيغ اخرى: اختياري

س اكتب مدلول الصور التالية :






_____ _____ _____ _____

س أكمل - حيوان يتعرض للإبادة في إقليم الصحاري البيضاء يسمى

_____

س اختياري : ثور المسك ذو الفراء والذي يتعرض للإبادة نتيجة للصيد المفرط يعيش في إقليم اسمه

○ الحشائش ○ الصحاري المعتدلة
○ الصحاري القطبية ○ الصحاري القطبية

س علل - تعرض ثور المسك ذو الفراء للإبادة

س عدد مميزات الحيوانات آكلة اللحوم في إقليم التندرا

UULA
معلمي الكويت
KuwaitTeacher.Com

عرف

قبائل اللاب

ممكن أن يظهر السؤال في صيغة اخرى: أكمل



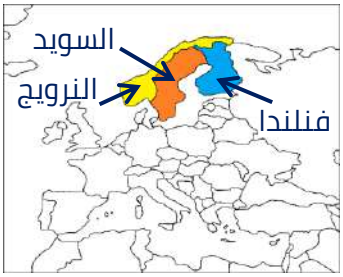

س علل - أهمية حيوان الرنة لقبائل اللاب

س قارن بين كل من :

المقارنة	جماعات المغول	قبائل اللاب
التوزيع الجغرافي		
النشاط الاقتصادي		

س ماذا يحدث إذا-رتفعت درجة حرارة المناطق القطبية أكثر مما عليه الآن بعشر درجات مئوية

UULA.COM
© جميع الحقوق محفوظة

س وازن بين كل من :

المميزات النباتية في إقليم الصحاري الحارة	المميزات النباتية في إقليم التندرا

س اكتب رقم الصورة في الدائرة المناسبة على الخريطة


1


2


3


4

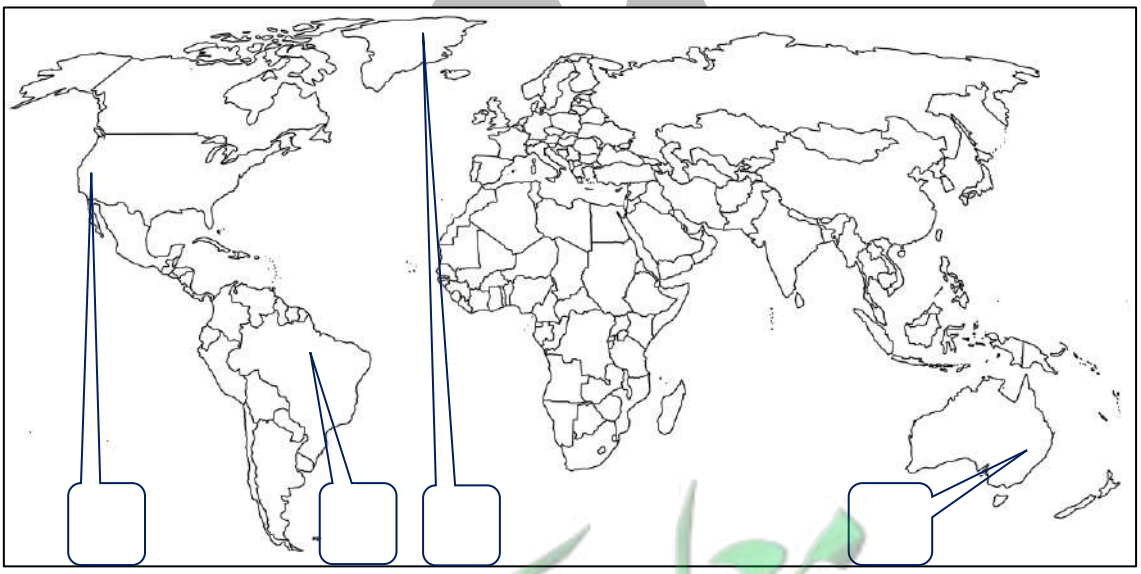

معلمي الكويت
صفوة
KuwaitTeacher.Com

© جميع الحقوق محفوظة

ادرس الجدول الذي أمامك ثم أجب عن الأسئلة التالية

الأقاليم النباتية	المطر السنوي
الغابات الاستوائية	80 بوصة
الصحاري الحارة	10 بوصة
حشائش الإستبس	20 بوصة
حشائش السافانا	30بوصة

س اكتب حقيقة جغرافية من الجدول المقابل

س حول الجدول التالي إلى أعمدة بيانية (منحنى بياني)

تـــدرب و تـفـوق
اختبارات الكترونية
UULA
Kuwaitteacher.Com

© جميع الحقوق محفوظة

مظاهر تدمير الغلاف الحيوي في العالم

س عدد - مظاهر تدمير الغلاف الحيوي في العالم

س قام الإنسان بعمليات تدميرية في نطاق الغابات الاستوائية وشبة الاستوائية (عددها)

س ما النتائج المترتبة - قيام الانسان بعمليات تدميرية في نطاق الغابات الاستوائية وشبه الاستوائية

ممكن أن يظهر السؤال في صيغة اخرى:
ما النتائج المترتبة (تدمير الغابات الاستوائية وشبه الاستوائية بنسبة 10% من قبل الإنسان)

س أكمل: الدولة التي تم إزالة مساحات واسعة من الغابات الموسمية فيها بهدف الزراعة تسمى _____

ممكن أن يظهر السؤال في صيغ اخرى: اختياري | حدد على الخريطة



UULA
KuwaitTeacher.Com

© جميع الحقوق محفوظة

س علل - إزالة مساحات واسعة من الغابات الموسمية في جنوب شرق آسيا والبرازيل




س أهمية الغطاء النباتي

س الغطاء النباتي له دور في التركيب الكيميائي للغازات الجوية

عرف

النتح

أهميته

أكمل العبارات التالية

ممكن أن يظهر السؤال في صيغة اخرى: اختياري

س الشجرة الواحدة تنتج في اليوم العادي من الماء ما يقرب ___

س العلاقة بين درجة الحرارة والمنتج من عملية النتح _____

س علل - العلاقة بين درجة الحرارة والمنتج من عملية النتح طردية

UULA.COM
Kuwaitteacher.Com

© جميع الحقوق محفوظة

س أكمل-أول أفريقية تسلمت جائزة نوبل للسلام تسمى _ _ _ _ _ _ _ _ _ _





س أكمل الخريطة الذهنية التالية :



الاسم:

الجنسية :

الوظيفة:

الإنجاز عام 2004:

س علل- حصول وانجاري ماثاي على جائزة نوبل للسلام (الجائزة الرفيعة)

س عدد أهم انجازات داعية حماية البيئة وانجاري ماثاي في مكافحة إزالة الغابات

اختر الإجابة الصحيحة:

س الداعية لحماية البيئة الكينية والتي أسست حركة الحزام الأخضر :

○ لاليتا رامداس ○ وانجاري ماثاي
○ كومي نايدو ○ غرين بيس

س الدولة التي تحمل جنسيتها داعية حماية البيئة ونجاري ماثاي :

○ السودان ○ كينيا
○ تشاد ○ نيجيريا

س وانجاري ماثاي أول أفريقية تحصل على جائزة نوبل في :

○ الكمياء ○ الطب
○ البيئة ○ السلام

UULA
معلمة الكويت
KuwaitTeacher.Com

س الحركة التي أسستها وانجاري ماثاي عام 1977م :

○ السلام الأخضر ○ الحزام الأخضر
○ أصدقاء البيئة ○ أصدقاء الأرض

س عدد الأشجار التي قامت بزراعتها حركة الحزام الأخضر :

○ 10 مليون ○ 20 مليون
○ 30 مليون ○ 40 مليون

أكمل العبارات التالية :

س القرن الميلادي الذي في منتصفه بدأ المزارعون في استعمال الكيميائيات القاتلة _ _ _ _ _ _ _ _

س الصورة المقابلة تمثل مظهراً لتدمير الغلاف الحيوي في العالم يسمى _ _ _ _ _ _ _ _ _ _ _ _ _ _ _ _



س علل - استعمال المزارعون كميات متزايدة من الكيميائيات القاتلة

س ما النتيجة المترتبة - على استعمال المزارعين كميات متزايدة من الكيميائيات القاتلة

س دلل " استعمال المزارعين الكيميائيات القاتلة كان لها أثر مدمر على الحياة البرية "

س علل - حظر الولايات المتحدة الأمريكية استعمال مبيد الحشرات DDT

ممكن أن يظهر السؤال في صيغ اخرى: أكمل | اختياري | حدد على الخريطة

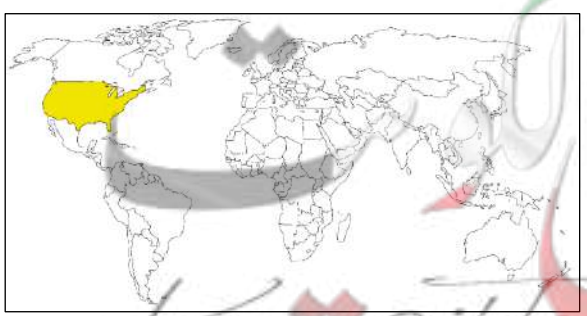

UULA.COM
© جميع الحقوق محفوظة

س ما النتائج المترتبة على حظر الولايات المتحدة استعمال مبيد الحشرات DDT

.....

اختر الإجابة الصحيحة:

س مبيد الحشرات الذي أدى لقتل العديد من الصقور الجوالة في الولايات المتحدة الأمريكية

○ T ID ○ DDT ○ TTD ○ BBC

س الولايات المتحدة الأمريكية حظرت استعمال مبيد الحشرات DDTلتأثيره السلبي على :

○ اللاموس ○ الصقور الجوالة ○ القيوط ○ نمر فلوريدا

س " البحار تحتضر من نفايات المصانع والمجاري الصحية والنفط " دلل

.....

.....

.....

.....

س أكمل : أكبر بحار العالم المغلقة يسمى _ _ _ _

ممكن أن يظهر السؤال في صيغة اخرى: (اختياري – حدد على الخريطة – اكتب مدلول الصورة)





س علل - يتعرض بحر قزوين للتلوث

ممكن أن يظهر السؤال في صيغ اخرى: (فسر جغرافياً تعرض 23 نوعاً من الكائنات الحية في بحر قزوين لخطر الانقراض)

.....

.....

.....

.....

.....

Kuwaitteacher.Com

© جميع الحقوق محفوظة

س ما النتائج المترتبة على تلوث بحر قزوين

.....

اختر الإجابة الصحيحة:

س أكبر بحار العالم المغلقة:

○ آرال ○ قزوين ○ الميت ○ الأسود

س عدد أنواع الكائنات الحية التي تتعرض لخطر الانقراض في بحر قزوين :

○ 13 ○ 17 ○ 23 ○ 32

س كمية المياه من المجاري الصحية ونفايات المصانع التي يتم ضخها سنوياً في بحر قزوين :

○ 4 مليار متر مكعب ○ 8 مليار متر مكعب
○ 12 مليار متر مكعب ○ 16 مليارمتر مكعب

تـــدرب و تـفـوق
اختبارات الكترونية

س علل - هناك عدد كبير من الأنواع الكائنات الحية مهددة بالصيد المفرط

.....

.....

س فسر بعض الناس يشجعون الصيد والتجارة غير المشروعة

.....



س أكمل : الصورة المقابلة تمثل _ _ _ _ _ _ _ _ _ _ _ _ _

س علل تعرض الحيتان للصيد الجائر (المفرط)

.....

.....

.....

.....

صفوة معلمي الكويت
KuwaitTeacher.Com

©جميع الحقوق محفوظة

س اختياري : الدول التي لا يزال لحم الحيتان من المأكولات الشعبية فيها

ممكن أن يظهر السؤال في صيغة اخرى: حدد على الخريطة

- ○ اليابان والفلبين
- ○ الصين والفلبين
- ○ كوريا واليابان
- ○ كوريا والصين

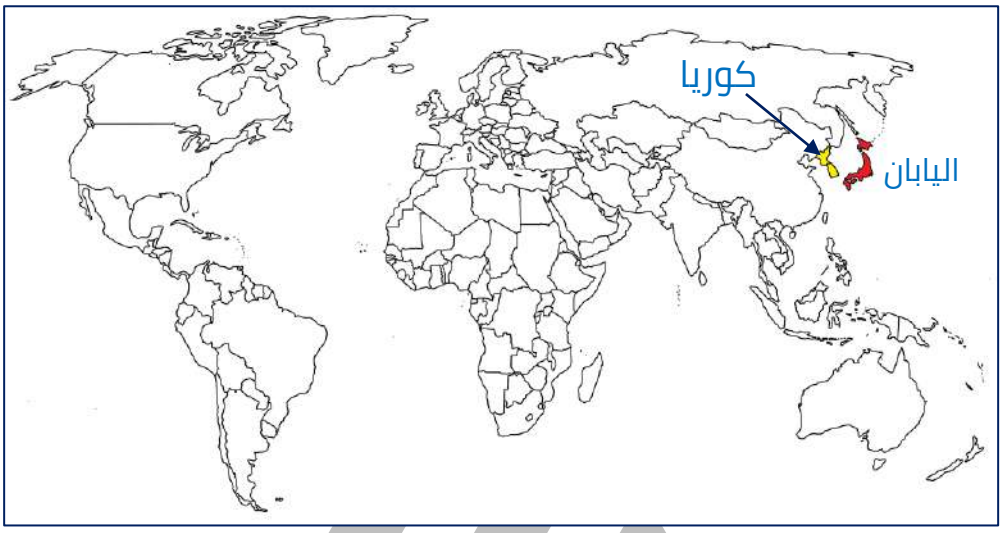

س علل - مجموعة الدول المناهضة لعمليات صيد الحيتان انتقدت الدول التي اقترحت زيادة عمليات الصيد السنوية

.....

أكمل العبارات التالية :



ممكن أن يظهر السؤال في صيغة اخرى: اختياري حدد على الخريطة

س الدولة التي اشتهرت بصناعة الفراء الطبيعي منذ 100 عام تسمى _ _ _ _ _ _ _

س الدولة التي تنتج ثلث حاجيات العالم من الفرو تسمى _ _ _ _ _ _ _

س اختياري : تتركز صناعة الفراء في مدينتين هما كستوريا و سياستا والواقعتين في :

- ○ مقدونيا
- ○ كريت
- ○ جنوب إيجة
- ○ أثينا

س عدد الجمعيات التي أدخلت منطقة شمال اليونان في أزمة

.....

.....

.....

UULA
معلمي الكويت
Kuwaitteacher.Com

س علل - ادخال جمعيات الرفق بالحيوان والعولمة شمال اليونان في أزمة

س دلل - الاتحاد العالمي للطبيعة له دور في مكافحة الصيد المفرط

س فسر صياغة الاتحاد العالمي للطبيعة تقرير حول تهديدات انقراض أنواع من الحيوانات

أكمل العبارات التالية :

ممكن أن يظهر السؤال في صيغة اخرى: اختياري

س الاتحاد الذي صاغ تقرير حول تهديدات بالانقراض التي تتعرض لها أنواع الحيوانات يسمى _____

س عدد الحيوانات الثديية التي انقرضت على سطح الأرض _____

س نسبة الحيوانات الثديية التي انقرضت على سطح الأرض _____

س اختياري : نسبة الحيوانات الثديية التي انقرضت على سطح الأرض يمثلها الجزء المظلل في الدائرة التي تحمل الحرف



س علل - القردة على رأس الثدييات المعرضة للانقراض



معلم الكويت
صفوة
KuwaitTeacher.Com

© جميع الحقوق محفوظة

أكمل العبارات التالية :



ممكن أن يظهر السؤال في صيغة اخرى: اختياري حدد على الخريطة

س الاتحاد الذي صاغ تقرير حول تهديدات بالانقراض التي تتعرض لها أنواع الحيوانات يسمى _ _ _ _ _ _ _ _

س الدولة التي تم اكتشاف مرض أنفلونزا الطيور فيها منذ أكثر من 100 عام تسمى _ _ _ _ _ _

س مرض قديم تم اكتشافه في إيطاليا منذ أكثر من 100 عام يسمى _ _ _ _ _ _ _ _ _ _

س الفيروس (A(H5N1ينتقل للإنسان عن طرق المخالطة اللصيقة بواسطة _ _ _ _ _ _ _

س المنظمة التي استنفرت من انتقال مرض أنفلونزا الطيور من الحيوان للإنسان تسمى _ _ _ _ _ _ _ _ _ _

س علل - منظمة الصحة العالمية استنفرت من انتقال أنفلونزا الطيور من الحيوان للإنسان

.....

.....

عرف

الرعي الجائر

.....

أكمل العبارات التالية :

ممكن أن يظهر السؤال في صيغة اخرى: اختياري



س الصورة المقابلة تمثل مظهراً لتدمير الغلاف الحيوي في العالم يسمى _ _ _ _ _ _ _ _ _

س أكثر وسائل تدمير الغلاف الحيوي في العالم يسمي _ _ _ _ _ _ _ _ _

س أهم الأسباب الرئيسية للتصحر خصوصاً في البيئات الجافة يسمى _ _ _ _ _ _ _ _ _

UULA.COM
© جميع الحقوق محفوظة
KuwaitTeacher.Com

س اختياري : أكثر وسائل تدمير الغلاف الحيوي في العالم

○ إزالة الغابات ○ الصيد المفرط
○ الرعي الجائر ○ المبيدات الحشرية

س علل - الرعي الجائر من وسائل تدمير الغلاف الحيوي

س أكمل : الصورة المقابلة تمثل مظهراً لتدمير الغلاف الحيوي في العالم يسمى _____



س علل - حدوث تغير في مناخ الأرض

س عدد النتائج المترتبة على ارتفاع درجة الحرارة (التغيرات المناخية)

س ما النتائج المترتبة على ارتفاع حرارة مياه البحار والمحيطات

س علل - ارتفاع درجة حرارة مياه البحار يؤدي إلى تدمير الشعاب المرجانية

ممكن أن يظهر السؤال في صيغة اخرى: (ما العلاقة)

س علل - تآكل طبقة الجليد وتعرضها للذوبان في المناطق القطبية

تـــدرب و تـفـوق
اختبارات الكترونية
UULA
UULA
Kuwaitteacher.Com

© جميع الحقوق محفوظة

أكمل العبارات التالية :

ممكن أن يظهر السؤال في صيغة اخرى: عرف اختياري

س طبقة تحتوي على غاز الأوزن في طبقات الجو العليا تسمى _ _ _ _ _ _ _ _ _ _

س طبقة الأوزون تقع في الغلاف الجوي ضمن غلاف يسمى _ _ _ _ _ _ _ _ _ _ _ _

س الطبقة التي تقوم بدور الدرع الواقي الذي يحيط بالأرض تسمى _ _ _ _ _ _ _ _ _ _ _

س علل - أهمية طبقة الأوزون

ممكن أن يظهر السؤال في صيغ اخرى: (علل - طبقة الأوزون الدرع الواقي للأرض)

س ماذا يحدث لو : " زاد ثقب الأوزن اتساعاً "

عرف

ظاهرة الاحتباس الحراري

س علل - تعرض طبقة الأوزون للتدمير

ممكن أن يظهر السؤال في صيغ اخرى: (علل - حدوث ظاهرة الاحتباس الحراري)

عرف

طبقة التروبوسفير

ممكن أن يظهر السؤال في صيغ اخرى: أكمل اختياري

UULA
معلمي الكويت
KuwaitTeacher.Com

أكمل العبارات التالية :

ممكن أن يظهر السؤال في صيغ اخرى: اختياري | حدد علي الخريطة

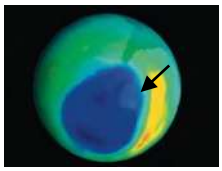

س أكثر اتساع لثقب الأوزون أعلى قارة تسمى

_____

س السهم في الصورة المقابلة يشير إلى

_____



لاحظ الشكل التالي , ثم أجب عما يليه :

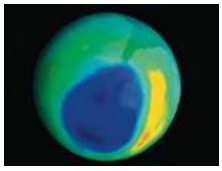

س ضع عنوان مناسب للشكل المقابل

_____

س حدد على الشكل المقابل موقع هذه الظاهرة باستخدام الرمز ←

س أذكر النتيجة المترتبة على هذه الظاهرة

_____

س في أي طبقة من طبقات الغلاف الجوي تقع هذه الظاهرة

_____

س أقترح حلا لهذه الظاهرة

UULA
معلمي الكويت
صفوة
KuwaitTeacher.Com

أكمل العبارات التالية :

ممكن أن يظهر السؤال في صيغ اخرى: اختياري حدد علي الخريطة

س عدد المفاعلات النووية لتوليد الطاقة الكهربائية في العالم نحو _ _ _ _ _ _ _ _ _ _

س نسبة كمية الإشعاع المتسربة من مفاعل تشرنوبيل حوالي _ _ _

س الصورة المقابلة تمثل _ _ _ _ _ _ _ _ _ _ _ _ _



س المنطقة التي حدث فيها مفاعل تشرنوبل عام 1986م تسمى _ _ _ _ _ _ _ _



س الدولة التي حدث فيها حادث مفاعل تشرنوبل عام 1986م تسمى _ _ _ _ _ _ _ _ _ _ _ _ _ _ _ _ _

س العام الميلادي الذي وقع فيه حادث مفاعل تشرنوبل _ _ _ _ _ _ _

س عدد النتائج المترتبة على : "حادث مفاعل تشرنوبل "

ممكن أن يظهر السؤال في صيغة اخرى:
(لفظ 100 مليون وحده إشعاعية في الاتحاد السوفيتي عام 1986م)

س علل- إصابة 800 طفل بالسرطان في الاتحاد السوفيتي عام 1986م

UULA
معلمي الكويت
صفوة
KuwaitTeacher.Com

اختر الإجابة الصحيحة:

س عدد الأشخاص اللذين تعرضوا لجرعات عالية من الإشعاع في الاتحاد السوفيتي عام 1986م

○ 100 ألف
○ 110 ألف
○ 120 ألف
○ 130 ألف

س عدد حالات الإصابة بالسرطان في الاتحاد السوفيتي عام 1986م

○ 800
○ 900
○ 1000
○ 1100

س عدد مكونات النفايات النووية

س فسر - يجب عند التخلص من النفايات النووية عزلها عن البيئة الخارجية عزلاً تاماً

س أكمل : المكون الأساسي للنفايات النووية يسمى _____

س دلل - المفاعلات النووية سلاح ذو حدين

UULA
معلمي الكويت
صفوة
KuwaitTeacher.Com

© جميع الحقوق محفوظة

دون على الخريطة رقم كل عبارة :

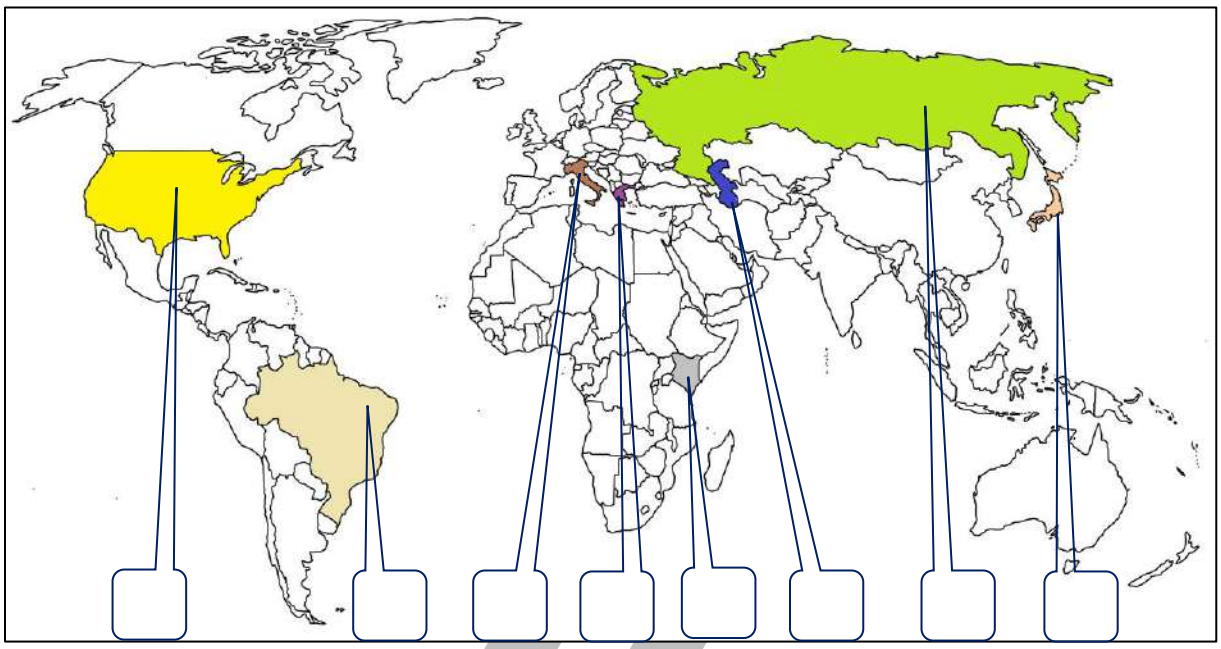

س دولة تم إزالة مساحات واسعة من الغابات الموسمية فيها بهدف الزراعة ( )

س دولة تنتمي لها داعية حماية البيئة وانجاري ماثاي ( )

س دولة قامت بحظر استعمال مبيد الحشرات DDTلتأثيره السلبي على الكائنات الحية ( )

س أحد البحار المغلقة والذي تتعرض الكائنات الحية فيه لخطر الانقراض ( )

س دولة لا يزال لحم الحيتان من المأكولات الشعبية فيها ( )

س دولة تم اكتشاف مرض انفلونزا الطيور فيها منذ أكثر من 100 عام ( )

س دولة تنتج ثلث حاجيات العالم من الفرو ( )

س الدولة التي حدث فيها حادثة مفاعل تشرنوبل عام 1986م ( )

تـــدرب و تـفـوق
اختبارات الكترونية

© جميع الحقوق محفوظة

وسائل حماية وصيانة المحيط الحيوي في العالم

س عدد وسائل حماية وصيانة المحيط الحيوي في العالم

س عرف الحدائق الوطنية :

س عدد الخطوات التي يجب ان تتبعها الحكومات لصيانة النباتات والحيوانات البرية

س عدد وسائل نشر الوعي البيئي لحماية وصيانة المحيط الحيوي في العالم

س عدد مصادر تلوث البيئة البحرية

س علل - أهمية التوسع في استخدام الوقود الخالي من الرصاص

معلم الكويت
صفوة الكويت
KuwaitTeacher.Com

© جميع الحقوق محفوظة

س اختياري: التوسع في استخدام الوقود الخالي من الرصاص يسهم في معالجة

○ التلوث المائي ○ التلوث الهوائي
○ التلوث الضوضائي ○ تلوث التربة

س علل - أهمية تناسب أعداد السكان والزيادة السنوية للسكان مع معطيات البيئة الطبيعة والحيوية

س اشرح العلاقة التي تربط النمو السكاني بالرسم البياني وتدهور الغلاف الحيوي في العالم

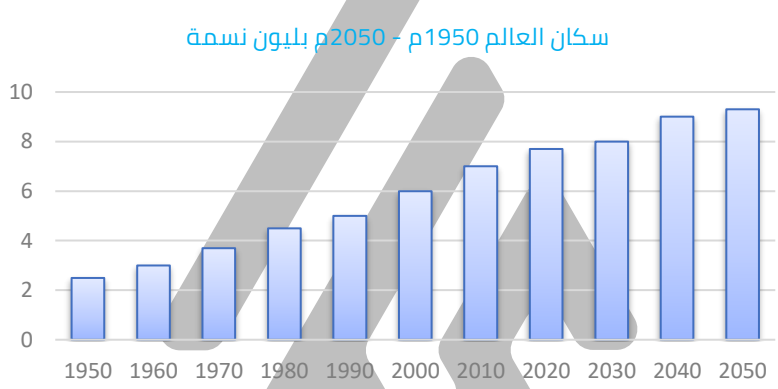

تـــدرب و تـفـوق
اختبارات الكترونية
UULA

معلمي الكويت
صفوة
KuwaitTeacher.Com

المحميات الطبيعية

عرف

المحميات الطبيعية

علل

س المحميات الطبيعية تساهم في التنمية المستمرة

س المحميات الطبيعية لها دور في المحافظة على استقرار البيئة التي تمثلها

س عدد المواصفات المؤهلة للمنطقة لتصبح محمية طبيعية

UULA
معلمي الكويت
صفوة
KuwaitTeacher.Com

© جميع الحقوق محفوظة

عدد

س الشروط والإجراءات الواجب اتباعها للمحافظة على المحمية الطبيعية

س عدد المحميات الطبيعية الموجودة في دولة الكويت

ممكن أن يظهر السؤال في صيغة اخرى: صمم مخطط سهمي

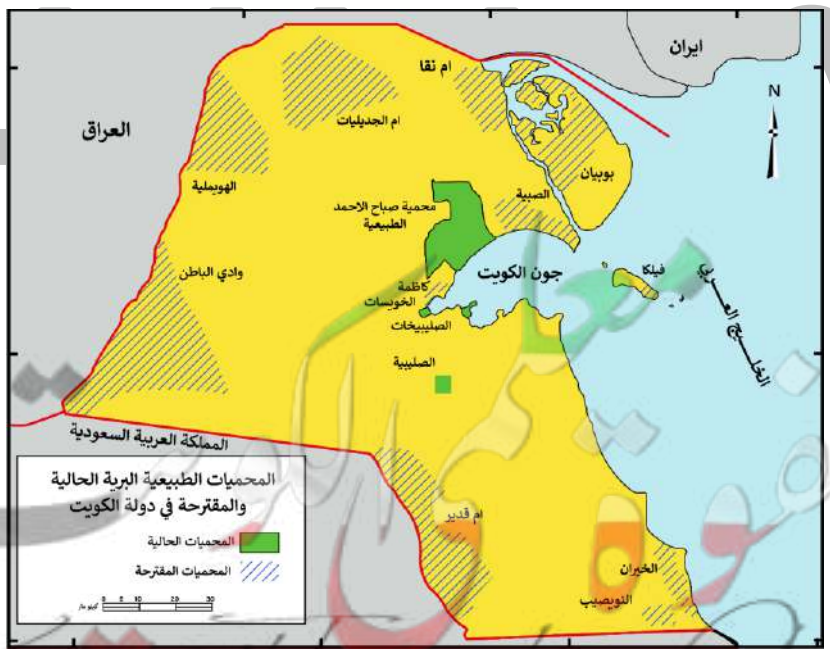

Kuwaitteacher.Com

اختر الإجابة الصحيحة:

س تقع محمية الشيخ صباح الأحمد الطبيعة في الكويت:

○ الشمال الشرقي ○ الشمال الغربي
○ الجنوب الشرقي ○ الجنوب الغربي

س تبلغ مساحة محمية الشيخ صباح الأحمد الطبيعة:

○ 230 كيلو متر ○ 330 كيلو متر
○ 200 كيلو متر ○ 1000 كيلو متر

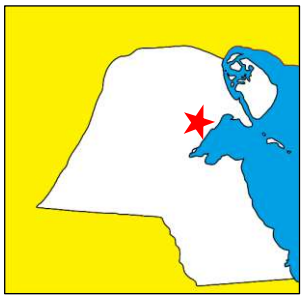

س الرمز (★) على الخريطة المقابلة يشر لمحمية طبيعية

○ صباح الأحمد الطبيعية ○ شرق الجهراء
○ الدوحة ○ السهل الساحلي

س اكتب مدلول الصورة المقابلة



س دلل - محمية الشيخ صباح الأحمد الطبيعة في الكويت تحتوي على تنوع تضاريسي

س علل - أهمية محمية الشيخ صباح الأحمد الطبيعية






UULA.COM
© جميع الحقوق محفوظة
KuwaitTeacher.Com

س ارسم خريطة دولة الكويت وحدد

- محمية صباح الأحمد الطبيعية بالرمز

تـــدرب و تـفـوق
اختبارات الكترونية
UULA

UULA
معلمي الكويت
صفوة
KuwaitTeacher.Com

© جميع الحقوق محفوظة

UULA

الاقـــتـــصـاد

الـكـورس الـثـانـي

11

KuwaitTeacher.Com

2021 - 2020

UULA.COM

قائمة المحتوى

01 النظام المالي في الاقتصاد

120 النظام المالي في الدولة

127 الجهاز المصرفي

02 الاقتـــصاد الخارجي

132 التبادل التجاري وأهميته

137 قيود التبادل التجاري

140 أهمية الاتفاقيات التجارية

03 الاقتصـــاد الكويتي

143 مقومات الاقتصاد الكويتي

147 أهم المؤسسات ذات الطابع الاقتصادي في دولة الكويت

152 تحديات ومستقبل الاقتصاد الكويتي

04 مقدمة في المشاريع الصغيرة

157 المشاريع الصغيرة مفاهيم وأهميه

159 وسائل تمويل المشاريع الصغيرة و بعض التجارب الناجحة

163 تجارب بعض الدول في دعم المشاريع الصغيرة

05 الوعي الاقتصـــادي للأسرة

168 أهمية اقتصاد الأسرة وعلاقته بالاستقرار الأسري

170 أساسيات التخطيط المالي للأسرة

معلمة الكويت
KuwaitTeacher.Com

© جميع الحقوق محفوظة

النظام المالي في الدولة

دلل على صحة العبارة

س " ليست السلع والخدمات فقط ما يتم تبادلها بين الأفراد والمؤسسات باستخدام النقود "

أكمل :

س نظام ما هو إلا مكمل إضافي في الاقتصاد ومكمل لسوق السلع وسوق الخدمات وسوق العمل يسمى _____

عرف

النظام المالي

س علل - أهمية النظام المالي في اقتصاد الدولة

س فرق

ممكن أن يظهر السؤال في صيغ اخرى: أكمل | اختياري | عرف

المقرضين (المدخرون)	المقترضين

UULA
معلمي الكويت
Kuwaitteacher.Com

جميع الحقوق محفوظة ©

أكمل المخطط السهمي التالي :

س " ليست السلع والخدمات فقط ما يتم تبادلها بين الأفراد والمؤسسات باستخدام النقود "

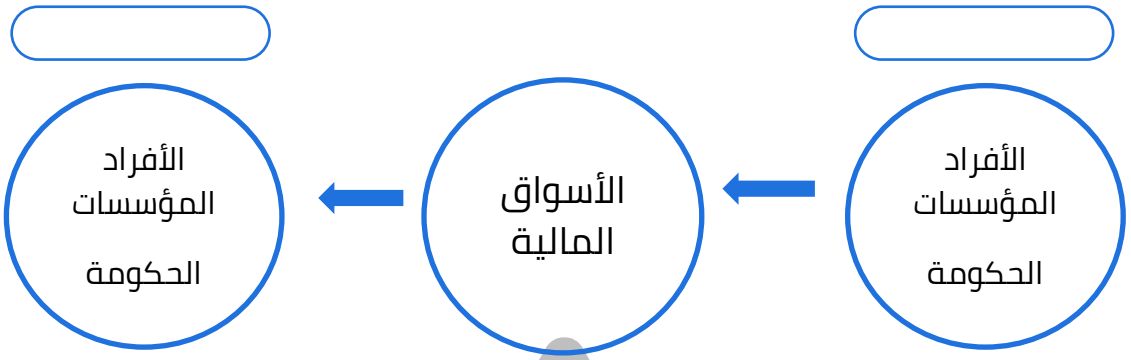

س اكتب مدلول المخطط السهمي : _____

س عدد - مؤسسات النظام المالي التي تنقل الأموال من المقرضين إلى المقترضين



س " أراد عبد الله إقامة مشروع صناعي صغير بتكلفة 10 آلاف دينار, ولم يكن لديه سوى 7 آلاف دينار, وأما سالم فقد أدخر مبلغ 3 آلاف دينار فأراد حفظ أمواله في مكان آمن , " ما الحل برأيك

س عدد - الأسس التي تميز أنواع الأسواق في النظام المالي عن بعضها بعضاً

UULA
معلمي الكويت
KuwaitTeacher.Com

جميع الحقوق محفوظة ©

س عدد - أنواع المؤسسات المالية (أكمل المخطط السهمي

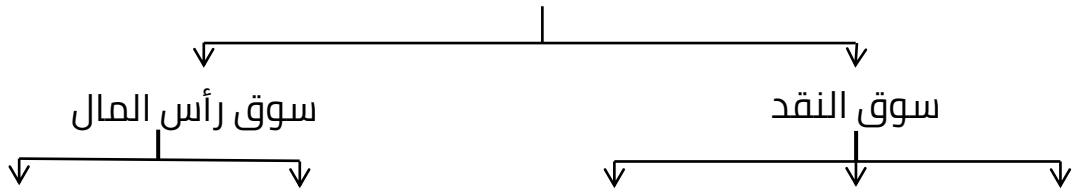

عرف

سوق النقد

س علل- أهمية سوق النقد

ممكن أن يظهر السؤال في صيغة اخرى: (اكتب أهداف سوق النقد)

اختياري

س هدف سوق النقد توفير سيولة نقدية ذات الأجل:

○ طويل ○ محدود ○ متوسط ○ قصير

عرف

ممكن أن يظهر السؤال في صيغ اخرى: أكمل اختياري

الأوراق التجارية

س عدد - أشكال الأوراق التجارية

ممكن أن يظهر السؤال في صيغة اخرى: (اكتب أهداف سوق النقد)





UULA
KuwaitTeacher.Com

عرف

ممكن أن يظهر السؤال في صيغ اخرى: أكمل | اختياري

شهادات الإيداع

س أكتب مدلول الصورة المقابلة


شهادة إيداع الإصدار الأول
Certificate of Deposit - First Edition

This Certificate of deposit is Granted to — تقدم شهادة الايداع هذه الى
in the amount of — بمبلغ قدره
with a tenure of — لمدة
Issued on — صادرة بتاريخ
Expected annual profit rate — بنسبة الربح المتوقعة سنويا
Co. Account Number / رقم حساب الشهادة — RIM/رقم العميل

س فرق بين كل من :

الأوراق التجارية	شهادات الإيداع
_____	_____
_____	_____
_____	_____

اختر الإجابة الصحيحة :

س شهادات تصدر عن البنك التجاري تثبت إيداع مبلغ معين بفوائد وبفترة محددة تسمى :

○ الأوراق التجارية ○ شهادات الإيداع ○ السندات ○ الأسهم

س أوراق غير الأوراق النقدية قابلة للتداول بين الأفراد والشركات بالطرق التجارية تسمى :

○ الأوراق التجارية ○ شهادات الإيداع ○ السندات ○ الأسهم

تـــدرب و تـفـوق
اختبارات الكترونية

UULA
صفوة الكويت
KuwaitTeacher.Com

سوق رأس المال

س علل - أهمية سوق رأس المال

ممكن أن يظهر السؤال في صيغة اخرى: (عدد أهداف سوق رأس المال)

اختياري

س هدف سوق رأس المال توفير سيولة نقدية ذات الأجل :

○ طويل ○ محدود ○ متوسط ○ قصير

س عدد - الأدوات المالية المتداولة في سوق رأس المال

س فرق بين كل من

ممكن أن يظهر السؤال في صيغ اخرى: عرف أكمل اختياري

الأسهم	السندات
----------	----------
----------	----------
----------	----------

اختر الإجابة الصحيحة :

س ورقة مالية تمثل كأداة ملكية لحصة في رأس مال الشركات المساهمة :

○ شهادات الإيداع ○ الأوراق التجارية ○ النقود ○ الأسهم

KuwaitTeacher.Com

© جميع الحقوق محفوظة

س ورقة مالية تمثل كأداة دين على مصدر السند وتدر دخلاً ثابتاً على حامله :

○ شهادات الإيداع ○ السندات ○ النقود ○ الأسهم

اكتب مدلول الصور

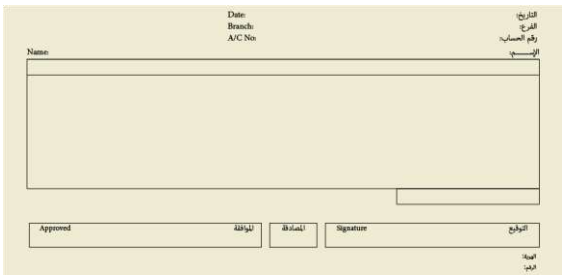



_ _ _ _ _ _ _ _ _ _ _

_ _ _ _ _ _ _ _ _ _ _

س قارن بين كل من :

اوجه المقارنة	سوق النقد	سوق رأس المال
فترة التمويل	_ _ _ _ _ _ _ _ _ _ _ _ _ _ _ _ _ _	_ _ _ _ _ _ _ _ _ _
الأدوات المالية المتداولة	_ _ _ _ _ _ _ _ _ _ _ _ _ _ _ _ _ _	_ _ _ _ _ _ _ _ _ _
الغرض من التمويل	_ _ _ _ _ _ _ _ _ _ _ _ _ _ _ _ _ _	_ _ _ _ _ _ _ _ _ _

أكمل

س يطلق على سوق الأوراق المالية اسم _ _ _ _ _ _ _ _

UULA
معلمي الكويت
صفوة
KuwaitTeacher.Com

س علل - سوق الأوراق المالية له أهمية كبرى في الاقتصاد

ممكن أن يظهر السؤال في صيغة اخرى: (البورصة من أهم المؤسسات المالية في أي اقتصاد)

س أهمية سوق الأوراق المالية للأفراد

س أهمية سوق الأوراق المالية للشركات المساهمة

فسر

س التعامل مع سوق الأسهم للأوراق المالية من قبل الأفراد والمؤسسات له فوائد لكلا الطرفين

تـــدرب و تـفـوق
اختبارات الكترونية
UULA

معلمي الكويت
صفوة
KuwaitTeacher.Com

© جميع الحقوق محفوظة

الجهاز المصرفي

س علل - الجهاز المصرفي من أهم المؤسسات المالية

عدد

س مكونات الجهاز المصرفي

ممكن أن يظهر السؤال في صيغة اخرى: أكمل المخطط



عرف

البنك المركزي

س عدد - وظائف البنك المركزي

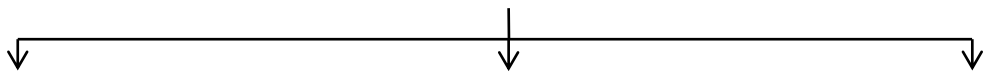

س اختياري - واحده من المسميات (الوظائف) التالية لا تُطلق على البنك المركزي

- ○ بنك الإصدار
- ○ البنك المتخصص
- ○ بنك البنوك
- ○ بنك الحكومة

معلمي الكويت
صفوة
KuwaitTeacher.Com

© جميع الحقوق محفوظة

س علل - يعتبر البنك المركزي هو بنك الاصدار

س أكمل - الجهة المسؤولة الوحيدة عن طباعة وإصدار عملة البلد تسمى _____

اختياري

س الجهة المسؤولة الوحيدة عن طباعة وإصدار عملة البلد

○ البنوك التجارية ○ البنوك المتخصصة
○ البنك المركزي ○ البنك الدولي

س علل - يعتبر البنك المركزي هو بنك البنوك

عرف

أرصدة المقاصة

س علل - يطلق على البنك المركزي بنك الحكومة

عرف

البنوك التجارية

UULA
معلمي الكويت
صفوة
KuwaitTeacher.Com

© جميع الحقوق محفوظة

عدد

س وظائف البنوك التجارية

ممكن أن يظهر السؤال في صيغة اخرى: (علل/ تتعدد وظائف البنوك التجارية)

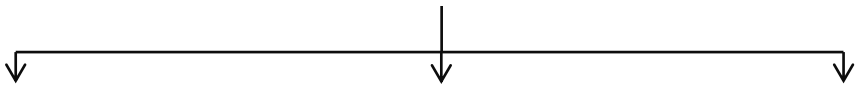

علل

س أهم وظائف البنوك التجارية خلق النقود بالاقتصاد

.....

.....

أكمل العبارات التالية :

ممكن أن يظهر السؤال في صيغة اخرى: اختياري

س أساس العمل المصرفي في القطاع المصرفي هو _____

س المصدر الأساسي لتحقيق الأرباح للبنوك التجارية هو _____

_____

س مصدر القروض التي تقدمها البنوك التجارية سواء قصيرة الأجل أو طويلة الأجل هو _____

س فرق بين كل من :

ممكن أن يظهر السؤال في صيغ اخرى: عرف أكمل اختياري

الودائع المصرفية	القروض
_____	_____
_____	_____
_____	_____

معلمة الكويت
Kuwaitteacher.Com

اختر الإجابة الصحيحة :

س المؤسسات المالية التي تقبل الودائع من الأفراد والمؤسسات وتستخدمها في منح القروض والسلف :

- ○ البنوك التجارية
- ○ البنوك المتخصصة
- ○ البنك المركزي
- ○ البنك الدولي

س المبالغ النقدية المستحقة لعملاء البنك من أفراد ومؤسسات مقابل الحصول على عائد نقدي :

- ○ القروض
- ○ الودائع المصرفية
- ○ شهادات الإيداع
- ○ السندات

س تزويد الأفراد والمؤسسات بالمبالغ النقدية المطلوبة على أن يتعهد المدين بسدادها وفوائدها :

- ○ القروض
- ○ الودائع المصرفية
- ○ شهادات الإيداع
- ○ السندات

س ليست من وظائف البنوك التجارية :

- ○ قبول الودائع
- ○ خلق النقود
- ○ إصدار العملة
- ○ تقديم القروض

عرف

البنوك المتخصصة

س علل - أهمية البنوك المتخصصة

س تختلف البنوك المتخصصة عن البنوك التجارية

UULA
معلم الكويت
صفوة الكويت
KuwaitTeacher.Com

أكمل

س تقتصر العمليات المصرفية في البنوك المتخصصة على _____

اختياري

س البنوك المتخصصة توفر القروض ذات الأجل :

○ طويل ○ محدود
○ متوسط ○ قصير

س فرق بين كل من :

البنوك التجارية	البنوك المتخصصة
_____ _____ _____	_____ _____ _____

س فرق بين كل من :

المعيار	البنوك التجارية	البنوك المتخصصة
الوظائف	_____ _____ _____	_____ _____ _____
الأدوات	▪ _____ ▪ _____	▪ _____ ▪ _____
فترة التمويل	_____	_____



تـــدرب و تـفـوق
اختبارات الكترونية

صفوة الكويت
KuwaitTeacher.Com

التبادل التجاري وأهميته

س عدد - الأبعاد التي تميز علاقات الدول بعضها ببعض

س علل - تتميز علاقات الدول من خلال تعاملاتها الاقتصادية والتجارية

أكمل

س المفهوم الذي يعززه انتقال السلع والخدمات خارج الحدود الجغرافية للدولة يسمى _____

عرف

التبادل التجاري

س علل - قيام التبادل التجاري بين الدول

معلمي الكويت
صفوة
KuwaitTeacher.Com

© جميع الحقوق محفوظة

س دلل - " لا يوجد دولة في العالم تستطيع أن تستقل اقتصادياً عن توفير حاجاتها من السلع من الدول الأخرى "

س عدد - مقومات التبادل التجاري

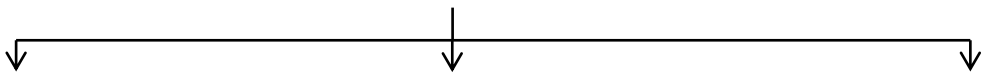

عرف

التخصص في الإنتاج

س دلل - التخصص في الإنتاج أحد مقومات التبادل التجاري

س علل - الفروقات الجغرافية والمناخية أحد مقومات التبادل التجاري

س دلل - الفروقات الجغرافية والمناخية أحد مقومات التبادل التجاري

UULA
معلمة الكويت
KuwaitTeacher.Com

أكمل العبارات التالية :

ممكن أن يظهر السؤال في صيغ اخرى: اختياري عرف

س الدول التي تتمتع بظروف مناخية وجغرافية جعلتها أكبر منتج للنفط الخام بالعالم تسمى _____

س قيام بعض الدول بجلب المواد الخام الأولية من الدول الأخرى لإنتاج السلع محلياً يسمى _____

س دلل - الحاجة إلى توفير المواد الأولية أحد مقومات التبادل التجاري

أكمل

س التبادل التجاري يعتمد على تبادل السلع والخدمات من خلال الصادرات و _____

س قارن بين كل من :

ممكن أن يظهر السؤال في صيغ اخرى: عرف اختياري

المعيار	الصادرات	الواردات
المفهوم	_____ _____ _____	_____ _____ _____
أمثلة السلع	▪ _____ ▪ _____	▪ _____ ▪ _____
أمثلة الخدمات	_____ _____ _____	_____ _____ _____

معلمي الكويت
صفوة
KuwaitTeacher.Com

© جميع الحقوق محفوظة

س قارن بين كل من :

ممكن أن يظهر السؤال في صيغ اخرى: أكمل اختياري

وجه المقارنة	منطقة التجارة الحرة الأوروبية	اتفاقية التجارة الحرة لشمال أمريكا
سنة التأسيس	----------	----------
الدول	---------- ----------	---------- ----------

أكمل العبارات التالية :

س قيام الدولة والأفراد ببيع السلع والخدمات المنتجة محلياً لدول أخرى تسمى

س قيام الدولة أو الأفراد بشراء السلع والخدمات المنتجة خارج الدولة تسمى

س علل - تسعى الدولة لزيادة قدرتها التصديرية

س عدد - النتائج المترتبة على حجم الصادرات أقل من حجم الواردات في دولة ما

س علل - حدوث انكماش اقتصادي في جميع قطاعات الاقتصاد

UULA
معلمي الكويت
KuwaitTeacher.Com

© جميع الحقوق محفوظة

س عدد - النتائج المترتبة على حجم الصادرات أكبر من حجم الواردات في دولة ما

س علل - حدوث انتعاش اقتصادي في جميع قطاعات الاقتصاد

س فرق بين النتائج المترتبة على كل من :

حجم الصادرات أقل من حجم الواردات	حجم الصادرات أكبر من حجم الواردات
▪ ---------- ▪ ----------	▪ ---------- ▪ ----------

تـــدرب و تـفـوق
اختبارات الكترونية

معلمي الكويت
صفوة
KuwaitTeacher.Com

© جميع الحقوق محفوظة

قيود التبادل التجاري

س علل - وضع الدول عوائق على التبادل التجاري على كثير من السلع والخدمات

س عدد - قيود التبادل التجاري

ممكن أن يظهر السؤال في صيغة اخرى: (عدد القيود على الصادرات والواردات)

س أكمل المخطط السهمي

ممكن أن يظهر السؤال في صيغة اخرى: عدد

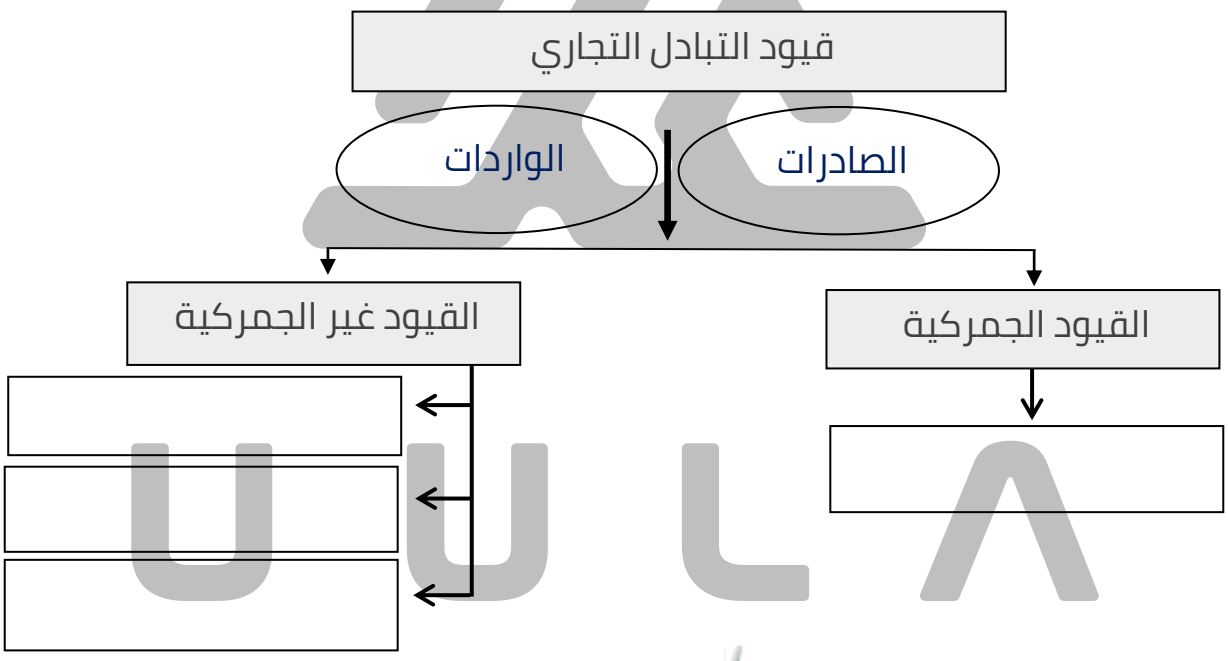

معلمي الكويت
صفوة
KuwaitTeacher.Com

© جميع الحقوق محفوظة

عرف المفاهيم التالية :

ممكن أن يظهر السؤال في صيغ أخرى: عرف | فرق | اختياري

التعرفة الجمركية

نظام الحصص

قيود التصدير الطوعية

س علل - قيام الدول المستوردة بفرض قيود التصدير الطوعية

س اتفاق الولايات المتحدة مع اليابان لتقليل صادراتها من السيارات إليها

عرف

القيود الإدارية والفنية والتنظيمية

س عدد - أنواع القيود الإدارية والفنية والتنظيمية

علل

س قيام حكومات الدول بفرض قيود على الصادرات من السلع والخدمات

UULA
معلمي الكويت
KuwaitTeacher.Com

© جميع الحقوق محفوظة

س قيام روسيا الاتحادية خلال فترات مختلفة بوضع قيود على تصدير الحبوب

س قيام حكومات الدول بفرض قيود على الواردات من السلع والخدمات

س وضع الاتحاد الأوروبي قيود على الواردات الأمريكية من الحديد والصلب

س قيام اليابان بحظر الواردات الأمريكية من لحوم الأبقار

س استخدام حصص الاستيراد من قبل الدول الصناعية و الدول النامية

أكمل العبارات التالية :

س أكثر أنواع القيود تطبيقاً من قبل دول العالم تسمى _____

س أكثر أنواع القيود غير الجمركية تطبيقاً من قبل الدول يسمى _____

س القيود التي لا تحصل الدولة على عوائد من تطبيقها تسمى _____

س الدولة التي تحصل على إيرادات عندما تطبق نوع من القيود يسمى _____



تـــدرب و تـفـوق
اختبارات الكترونية

UULA
صفوة الكويت
KuwaitTeacher.Com

أهمية الاتفاقيات التجارية

س علل - قيام الدول بإبرام الاتفاقيات التجارية

عدد

س أهداف (فوائد) الاتفاقيات التجارية على اقتصاديات دول العالم

س أنواع الاتفاقيات التجارية

أكمل العبارات التالية :

س أكثر الاتفاقيات التجارية شيوعاً هي _____

س اتفاقيات غالباً ما تبرم بين الدول أو الكتل الاقتصادية تسمى _____

عدد

س أهداف اتفاقيات منطقة التجارة الحرة

س أسماء (أمثلة) اتفاقيات منطقة التجارة الحرة

UULA
معلمة الكويت
صفوة
KuwaitTeacher.Com

© جميع الحقوق محفوظة

اختر الإجابة الصحيحة :

س العام الميلادي الذي تأسست فيه منطقة التجارة الحرة الأوروبية

○ 1959م ○ 1969م ○ 1979م ○ 1989م

س العام الميلادي الذي تأسست فيه اتفاقية التجارة الحرة لشمال أمريكا

○ 1962م ○ 1972م ○ 1982م ○ 1992م

س عدد الدول في منطقة التجارة الحرة الأوروبية عام 1959م

○ 5 دول ○ 6 دول ○ 7 دول ○ 8 دول

س الدول التي أبرمت اتفاقية التجارة الحرة لشمال أمريكا

○ كندا - هندوراس - الولايات المتحدة الأمريكية
○ المكسيك - كندا - الولايات المتحدة الأمريكية
○ كندا - المكسيك - هندوراس
○ كوبا - كندا - المكسيك

عرف

اتفاقيات الاتحاد الجمركي

اختياري

س من اتفاقيات الاتحاد الجمركي :

○ منطقة التجارة الحرة الأوروبية
○ منطقة التجارة الحرة لشمال أمريكا
○ الاتحاد الجمركي الخليجي

أكمل العبارات التالية :

س اتفاقيات تجارية تفرض تعرفة جمركية موحدة على الدول خارج الاتحاد تسمى _____

س منطقة التجارة الحرة بين دول الخليج العربية تسمى _____

معلمي الكويت
KuwaitTeacher.Com
UULA.COM
© جميع الحقوق محفوظة

س قارن بين كل من :

المقارنة	اتفاقيات منطقة التجارة الحرة	اتفاقيات الاتحاد الجمركي
أوجه الاختلاف	----------	----------
أوجه التشابه	----------	
مثال	▪ ----------	▪ ----------

تـــدرب و تـفـوق
اختبارات الكترونية

معلمي الكويت
صفوة
KuwaitTeacher.Com

© جميع الحقوق محفوظة

مقومات الاقتصاد الكويتي

س علل - الاقتصاد الكويتي يعتبر من أهم اقتصاديات دول مجلس التعاون (دول الشرق الأوسط)

أكمل

س السياسات والقواعد العامة لرسم ملامح الاقتصاد الكويتي حددها

عدد

س السياسات والقواعد العامة للاقتصاد الكويتي

ممكن أن يظهر السؤال في صيغ اخرى: (عدد- ملامح الاقتصاد الكويتي)
أثبت صحة العبارة " حدد الدستور الكويتي السياسات والقواعد العامة للاقتصاد الكويتي "

س عدد - مقومات (ركائز) الاقتصاد الكويتي

دلل على صحة العبارة

س " تعتبر المواد الطبيعية من مقومات الاقتصاد الكويتي "

UULA
معلمة الكويت
صفوة
KuwaitTeacher.Com

© جميع الحقوق محفوظة

أكمل العبارات التالية :

س المورد الطبيعي الذي يمثل العصب الأساسي للاقتصاد الكويتي يسمى _____

س تعتبر الصادرات النفطية الكويتية أهم مصادر الطاقة للدول المتقدمة و _____

اختر الإجابة الصحيحة :

س نسبه مساهمة إنتاج النفط من الناتج المحلي الإجمالي لدولة الكويت الدائرة البيانية التي تحمل الحرف :

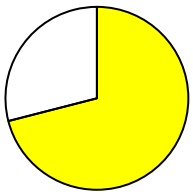

○ أ

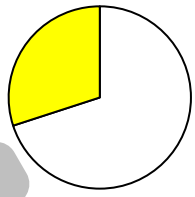

○ ب

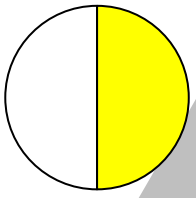

○ ج

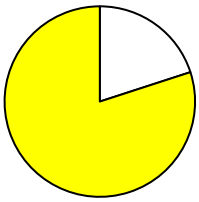

○ د

س نسبة الصادرات النفطية من إجمالي صادرات دولة الكويت :

○ %80 ○ % 85 ○ %90 ○ %95

س نسبة الإيرادات النفطية من الإيرادات العامة للميزانية العامة لدولة الكويت :

○ %90 ○ % 91 ○ %92 ○ %93

س عدد - مميزات الاقتصاد الكويتي

س علل - يعتبر الموقع الجغرافي من مقومات الاقتصاد الكويتي

UULA
معلمي الكويت
KuwaitTeacher.Com

© جميع الحقوق محفوظة

س علل - الموقع الجغرافي جعل دولة الكويت مركزاً استراتيجياً للتجارة



س علل - أهمية قيام المتعلم بدراسة أساسيات جميع العلوم في المراحل الاثنتي عشرة

س علل - أهمية مفهوم رأس المال البشري

UULA
معلمي الكويت
KuwaitTeacher.Com

س عدد - أهم أسس بناء الموظف المثالي

س علل - يعتبر رأس المال البشري من مقومات الاقتصاد الكويتي

تـــدرب و تـفـوق
اختبارات الكترونية

معلمي الكويت
صفوة
KuwaitTeacher.Com

© جميع الحقوق محفوظة

أهم المؤسسات ذات الطابع الاقتصادي في دولة الكويت

س علل - أهمية المؤسسات ذات الطابع الاقتصادي في دولة الكويت

س عدد - المؤسسات ذات الطابع الاقتصادي في دولة الكويت

عرف

الأمانة العامة للمجلس الأعلى للتخطيط والتنمية



س علل - إنشاء الأمانة العامة للمجلس الأعلى للتخطيط والتنمية

س عدد - مسؤوليات الأمانة العامة للمجلس الأعلى للتخطيط والتنمية

UULA
معلمة الكويت
KuwaitTeacher.Com

©جميع الحقوق محفوظة

عرف

بنك الكويت المركزي

س علل - أهمية بنك الكويت المركزي

عرف

وزارة المالية

الهيئة العامة للاستثمار

أكمل العبارات التالية :

ممكن أن يظهر السؤال في صيغة أخرى: اختياري

س الذراع الاستثماري لحكومة دولة الكويت تسمى _____

س هيئة حكومية مستقلة مسؤولة عن إدارة صندوق الاحتياط العام لدولة الكويت تسمى _____

س هيئة حكومية مستقلة مسؤولة عن إدارة صندوق احتياطي الأجيال القادمة نيابة عن حكومة دولة الكويت تسمى _____

UULA
صوت الكويت
KuwaitTeacher.Com

© جميع الحقوق محفوظة

عرف

الهيئة العامة للصناعة

ممكن أن يظهر السؤال في صيغة اخرى: (علل أهمية الهيئة العامة للصناعة)

.....

.....

أكمل العبارات التالية :

ممكن أن يظهر السؤال في صيغة اخرى: اختياري

س هيئة عامة مستقلة هدفها توسيع القاعدة الإنتاجية للاقتصاد الوطني الكويتي تسمى _____

س الصورة المقابلة تمثل مؤسسة ذات طابع اقتصادي في دولة الكويت تسمى _____

عرف

وزارة التجارة والصناعة

.....

.....

.....

.....

.....

س عدد - مسؤوليات وزارة التجارة والصناعة

ممكن أن يظهر السؤال في صيغ أخرى: اختياري أكمل

.....

.....

عرف

سوق الكويت للأوراق المالية

.....

.....

.....

.....

UULA
صفوة الكويت
KuwaitTeacher.Com

أكمل العبارات التالية :

ممكن أن يظهر السؤال في صيغة اخرى: اختياري

س يطلق على سوق الكويت للأوراق المالية اسم _____

س الصورة المقابلة لمؤسسة ذات طابع اقتصادي في الكويت تسمى _____



عرف

هيئة سوق المال



أكمل العبارات التالية :



س الصورة المقابلة لمؤسسة ذات طابع اقتصادي في الكويت تسمى _____

عرف

الإدارة العامة للجمارك

اختياري



س الصورة المقابلة تمثل مؤسسة ذات طابع اقتصادي في دولة الكويت :

- ○ الإدارة العامة للجمارك
- ○ وزارة المالية
- ○ الهيئة العامة للاستثمار
- ○ الهيئة العامة للصناعة

س فرق بين كل من :

الهيئة العامة للصناعة	الهيئة العامة للاستثمار

معلمة الكويت
Kuwaitteacher.Com

س اختر من المجموعة (أ) ما يناسبها من المجموعة (ب) بوضع الرقم المناسب

م	المجموعة (أ)	الرقم	المجموعة (ب)
1	جهة حكومية معنية بشؤون المالية العامة في الدولة وإعداد الميزانية العامة للدولة		الإدارة العامة للجمارك
2	تعتبر الذراع الاستثماري لحكومة دولة الكويت		وزارة التجارة والصناعة
3	هيئة عامة مستقلة معنية بتشجيع وتطوير الصناعة المحلية وأنشطتها		الهيئة العامة للاستثمار
4	هيئة حكومية مستقلة مسؤولة عن مراقبة دخول البضائع وخروجها		الهيئة العامة للصناعة
			وزارة المالية

تـــدرب و تـفـوق
اختبارات الكترونية

UULA
معلمي الكويت
صفوة
KuwaitTeacher.Com

تحديات ومستقبل الاقتصاد الكويتي

س علل - أهمية التعرف على التحديات التي تعيق تطوير الاقتصاد الكويتي

دلل على صحة العبارة

س " هناك تحديات أساسية تعيق تطوير وتحسين الاقتصاد الكويتي "

ممكن أن يظهر السؤال في صيغ اخرى: عدد | مخطط سهمي

س دلل - النفط مصدر غير متجدد

ممكن أن يظهر السؤال في صيغ اخرى: (دلل - سيأتي يوم قريب أو بعيد ينضب معه مورد النفط في دولة الكويت) – (علل- أهم أولويات الاقتصاد الكويتي البحث عن مصادر بديلة للنفط)

س عدد - طرق تنويع مصادر الدخل بعيداً عن النفط لدولة الكويت

س فسر - أهمية تنويع مصادر الدخل بعيداً عن النفط لدولة الكويت

س علل - استغلال المقومات الحالية للاقتصاد الكويتي من طرق تنويع مصادر الدخل

UULA
معلم الكويت
Kuwaitteacher.Com

© جميع الحقوق محفوظة

ما تفسيرك

س ليس من المنطقي أن تفكر الكويت بتصنيع السيارات

ممكن أن يظهر السؤال في صيغة اخرى:
(علل- لا يمكن للكويت منافسة الدول الأخرى في صناعة السيارات)

س عدد المصادر البديلة لتنويع مصادر الدخل في دولة الكويت

ما النتائج المترتبة على

س بيع المشتقات النفطية بدلاً من النفط الخام

س علل - تمتلك الكويت مقومات حالية تحول الكويت لمركز مالي وتجاري



KuwaitTeacher.Com

س عدد - المقومات التي تمتلكها الكويت لتكون وجهة سياحية إقليمية

س عدد - أهم المميزات البشرية التي تمتلكها دولة الكويت

عرف

التنمية البشرية

أكمل :

س عماد أي دولة والركيزة الأهم في أي اقتصاد هم

فسر العبارة

س " تنمية البشر أهم وأسمى من تنمية الحجر "

س عدد - تجارب الدول الأخرى في التنمية البشرية

س علل - تبني الحكومة اليابانية خيار التنمية البشرية بعد الحرب العالمية الثانية

UULA
معلمي الكويت
KuwaitTeacher.Com

© جميع الحقوق محفوظة

س دلل - اليابان لها تجربة رائدة في التنمية البشرية (أكمل – اختياري)

.....

.....

.....

.....

اختر الإجابة الصحيحة

س الحرب التي بدأت بعدها اليابان تجربتها في التنمية البشرية

○ الحرب اليابانية الروسية ○ الحرب اليابانية الصينية
○ الحرب العالمية الأولى ○ الحرب العالمية الثانية

س العام الميلادي الذي بدأت فيه اليابان تجربتها في التنمية البشرية

○ 1942م ○ 1943م ○ 1944م ○ 1945م

س متوسط دخل الفرد في اليابان عام 1945م لم يتجاوز (بالدولار) :

○ 1340 ○ 1345 ○ 1350 ○ 1355

س متوسط دخل الفرد في اليابان تضاعف بين عامي 1945م – 2013م :

○ 10 أضعاف ○ 15 ضعف ○ 20 ضعف ○ 25 ضعف

س ثاني أكبر اقتصاد عالمي بعد الولايات المتحدة الأمريكية عام 2013م

○ روسيا ○ الصين ○ اليابان ○ إنجلترا

أكمل :

س الشكل المقابل يمثل المقارنة التاريخية لمتوسط دخل الفرد في دولة تسمى _____

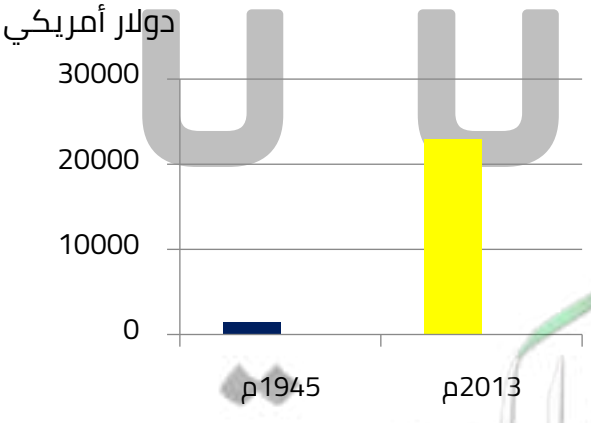

معلمي الكويت
صفوة
KuwaitTeacher.Com

س دلل - كوريا الجنوبية لها تجربة رائدة في التنمية البشرية

اختر الإجابة الصحيحة

س العام الميلادي الذي خرجت فيه كوريا الجنوبية من الحرب الكورية

○ 1945م ○ 1950م ○ 1955م ○ 1960م

س الدولة التي بلغ متوسط دخل الفرد فيها عام 1950م 850 دولار أمريكي

○ روسيا ○ عمان ○ كوريا الجنوبية ○ كوريا الشمالية

س الدولة استفادت منها كوريا الجنوبية في تجربتها في التنمية البشرية

○ فرنسا ○ روسيا ○ اليابان ○ الصين

أكمل :

س الشكل المقابل يمثل المقارنة التاريخية لمتوسط دخل الفرد في دولة تسمى _____

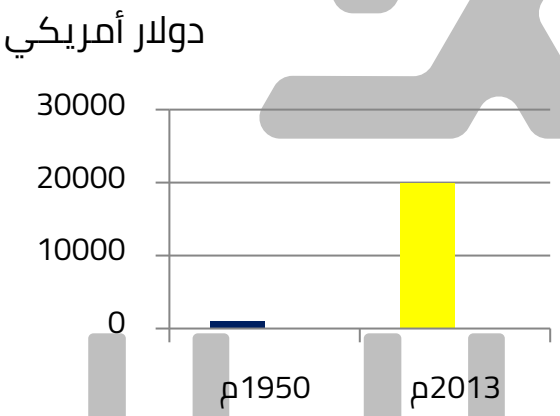

س اكتب عن دور الفرد في مستقبل الاقتصاد

تـــدرب و تـفـوق
اختبارات الكترونية

جميع الحقوق محفوظة ©

المشاريع الصغيرة مفاهيم وأهميه

علل

س قيام الحكومة بإنشاء المشاريع

س قيام الشركات الكبرى بإقامة المشاريع

س قيام الأفراد بإنشاء المشاريع الصغيرة

أكمل :

س يطلق على صاحب المشروع الصغير في عالم الاستثمار والأعمال والإدارة مصطلح _____

س علل - يطلق على صاحب المشروع الصغير اسم الريادي (المنظم)

س اكتب الصفات التي يمتلكها الريادي (المنظم)

س عدد - معايير تصنيف المشاريع الصغيرة

UULA
معلمي الكويت
صفوة
KuwaitTeacher.Com

© جميع الحقوق محفوظة

س صمم مشروع من اختيارك وحدد فيه أهم احتياجاتك لإنجاح المشروع مع ذكر المعايير

س علل - أهمية المشاريع الصغيرة في الاقتصاد

دلل على صحة العبارة

س " تساهم المشاريع الصغيرة في الاقتصاد المحلي "

ممكن أن يظهر السؤال في صيغة اخرى: (عدد - صمم خريطة ذهنية لمساهمات المشاريع الصغيرة)

علل

س المشاريع الصغيرة تساهم في الحد من البطالة

س المشاريع الصغيرة تساهم في وجود صناعات بديلة

س المشاريع الصغيرة تساهم في تعزيز الصادرات

س المشاريع الصغيرة تساهم في زيادة دخل الأفراد والقضاء على الفقر

تـــدرب و تـفـوق
اختبارات الكترونية
UULA
UULA
صفوف معلمي الكويت
KuwaitTeacher.Com

© جميع الحقوق محفوظة

وسائل تمويل المشاريع الصغيرة و بعض التجارب الناجحة

أكمل :

س أساس إنشاء أي مشروع سواء مشروع كبير أو متوسط أو صغير هو _ _ _ _ _ _

س علل - المال أساس إنشاء أي مشروع سواء مشروع كبير أو متوسط أو صغير

س عدد - مصادر التمويل اللازمة لإقامة المشاريع الصغيرة

س فرق بين مصادر تمويل المشروعات الصغيرة

ممكن أن يظهر السؤال في صيغة اخرى: عدد

مصادر تمويل داخلية مملوكة	مصادر تمويل خارجية أو مقترضة	الصندوق الوطني لرعاية المشروعات الصغيرة

معلمي الكويت
صفوة
KuwaitTeacher.Com

© جميع الحقوق محفوظة

أكمل العبارات التالية :

ممكن أن يظهر السؤال في صيغة اخرى: عرف

س حصول صاحب المشروع على التمويل اللازم لمشروعه الصغير من خلال مدخراته وأمواله الخاصة يسمى _____

س حصول صاحب المشروع على التمويل اللازم لمشروعه الصغير من خلال الاقتراض من البنوك التجارية يسمى _____

س الصندوق الذي تم إنشاؤه في دولة الكويت وفق القانون رقم 98 لسنة 2013 م يسمى _____

س صندوق يهدف لدعم ورعاية المشروعات الصغيرة وتقديم التمويل لأصحاب المشروعات الصغيرة في الكويت يسمى _____

_____

اختياري :

س العام الميلادي الذي تم فيه إنشاء الصندوق الوطني لرعاية وتنمية المشروعات الصغيرة والمتوسطة

○ 2010م ○ 2011م ○ 2012م ○ 2013م

س علل - إنشاء الصندوق الوطني لرعاية وتنمية المشروعات الصغيرة والمتوسطة في الكويت

س عدد - بعض التجارب الناجحة في المشاريع الصغيرة

ممكن أن يظهر السؤال في صيغة اخرى:
(المشاريع الصغيرة التي أصبحت أكبر المشاريع والشركات في العالم)

UULA
صفوة معلمي الكويت
KuwaitTeacher.Com

© جميع الحقوق محفوظة

س أكتب عن تجربة فيليب نايت ومدربة بيل باورمان في المشاريع الصغيرة

ممكن أن يظهر السؤال في صيغ اخرى: أكمل اختياري

اختياري

س رأس مال الشركة التي أسسها فيليب نايت وبيل باورمان

○ 300 دولار ○ 400 دولار ○ 500 دولار ○ 600 دولار

س اكتب عن تجربة هنري فورد في المشاريع الصغيرة

ممكن أن يظهر السؤال في صيغ اخرى: أكمل اختياري

أكمل العبارات التالية :

س تجربة ناجحة في المشاريع الصغيرة وأصبحت من أكبر الشركات الأمريكية في صناعة السيارات تسمى _____

س العام الميلادي الذي أسس فيه هنري فورد شركة صناعة السيارات _____

س الصورة المقابلة تمثل




KuwaitTeacher.Com

© جميع الحقوق محفوظة

اختر الإجابة الصحيحة :

س العام الميلادي الذي أسس هنري فورد وشركاء أخرين شركة لتصنيع السيارات :

○ 1901م ○ 1902م ○ 1903م ○ 1904م

س رأس مال شركة هنري فورد وشركاه عام 1903م (بالدولار الأمريكي) :

○ 22 ألف ○ 25 ألف ○ 28 ألف ○ 31 ألف

س الشركة التي أسسها هنري فورد عام 1896م في صناعة :

○ الملابس الرياضية ○ السيارات ○ الطائرات ○ الهواتف المحمولة

تـــدرب و تـفـوق
اختبارات الكترونية
UULA

UULA
معلمي الكويت
صفوة
KuwaitTeacher.Com

تجارب بعض الدول في دعم المشاريع الصغيرة

عدد

س تجارب بعض الدول في دعم المشاريع الصغيرة

أكمل

س تبنت الحكومة اليابانية قوانين داعمة للمشاريع الصغيرة في أوائل الستينات من القرن _____

علل

س قيام الحكومة اليابانية بتبني قوانين داعمة للمشاريع المتوسطة والصغيرة

دلل

س تعتبر المشاريع الصغيرة عصب النشاط الاقتصادي في اليابان

ممكن أن يظهر السؤال في صيغ اخرى: أكمل اختياري

س تعتمد الصناعات الكبيرة في اليابان على المشاريع الصغيرة بدرجة كبيرة

ممكن أن يظهر السؤال في صيغ اخرى: أكمل اختياري

UULA.COM
© جميع الحقوق محفوظة

اختر الإجابة الصحيحة :

ممكن أن يظهر السؤال في صيغة اخرى: أكمل

س عدد المشاريع الصغيرة في اليابان من إجمالي عدد المشاريع في القطاعات المختلفة يمثلها الجزء المظلل في الدائرة التي تحمل الحرف :

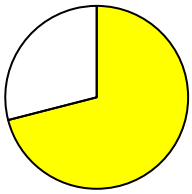

أ ○

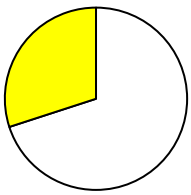

ب ○

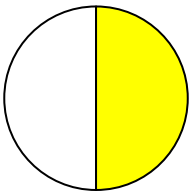

ج ○

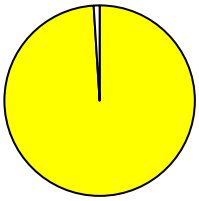

د ○

س نسبة اعتماد قطاع صناعة السيارات في اليابان على المشاريع الصغيرة :

% 83 ○ % 86 ○ % 89 ○ % 92 ○

س نسبة اعتماد قطاع صناعة الأدوات الكهربائية في اليابان على المشاريع الصغيرة

% 82 ○ % 85 ○ % 88 ○ % 91 ○

س اكتب فيما درست عن التجربة اليابانية في دعم المشاريع الصغيرة

ممكن أن يظهر السؤال في صيغة اخرى: (دلل - اليابان لها تجربة رائدة في دعم المشاريع الصغيرة)

اختر الإجابة الصحيحة :

ممكن أن يظهر السؤال في صيغة اخرى: أكمل

س أقدم تجارب الدول في دعم المشاريع الصغيرة التجربة :

اليابانية ○ الأمريكية ○ الصينية ○ الماليزية ○

س التجربة الأمريكية في دعم المشاريع الصغيرة بدأت في القرن العشرين منذ أوائل

الخمسينات ○ الستينات ○ السبعينات ○ الثمانينات ○

UULA
Kuwaitteacher.Com
UULA.COM
© جميع الحقوق محفوظة

س علل - وجود سياسة قومية موجهة نحو تشجيع المشاريع الصغيرة في الولايات المتحدة الأمريكية

أكمل

س الاقتصاد الأمريكي يميل إلى التوجه _ _ _ _ _ _ _ _ _ _

س اكتب فيما درست عن التجربة الأمريكية في دعم المشاريع الصغيرة

ممكن أن يظهر السؤال في صيغة اخرى:
(دلل - الولايات المتحدة الأمريكية لها تجربة رائدة في دعم المشاريع الصغيرة)

س علل - التجربة الصينية في المشاريع الصغيرة تتصف بتميزها عن باقي الدول

س علل - قيام الحكومة الصينية بإنشاء عدد كبير من الحاضنات للمشروعات الصغيرة داخل الشركات الضخمة المملوكة للدولة

س اكتب فيما درست عن التجربة الصينية في دعم المشاريع الصغيرة

ممكن أن يظهر السؤال في صيغة اخرى: (دلل - الصين لها تجربة رائدة في دعم المشاريع) الصغيرة

معلمي الكويت
Kuwaitteacher.Com

© جميع الحقوق محفوظة

أكمل

س الدولة التي تميزت بتحولها من اقتصاد يعتمد على المواد الأولية الزراعية إلى اقتصاد يركز على وجود قاعدة صناعية تسمى _ _ _ _ _ _ _ _ _ _

س علل - بالرغم من حداثة تطوير المشاريع الصغيرة في ماليزيا استطاعت رسم أهداف تتوافق مع خطة التنمية الماليزية

س اكتب فيما درست عن التجربة الماليزية في دعم المشاريع الصغيرة

ممكن أن يظهر السؤال في صيغة اخرى: (دلل - ماليزيا لها تجربة رائدة في دعم المشاريع الصغيرة)

UULA
معلمي الكويت
صفوة
KuwaitTeacher.Com

© جميع الحقوق محفوظة

لاحظ الخريطة ثم اجب عما يليها من أسئلة :

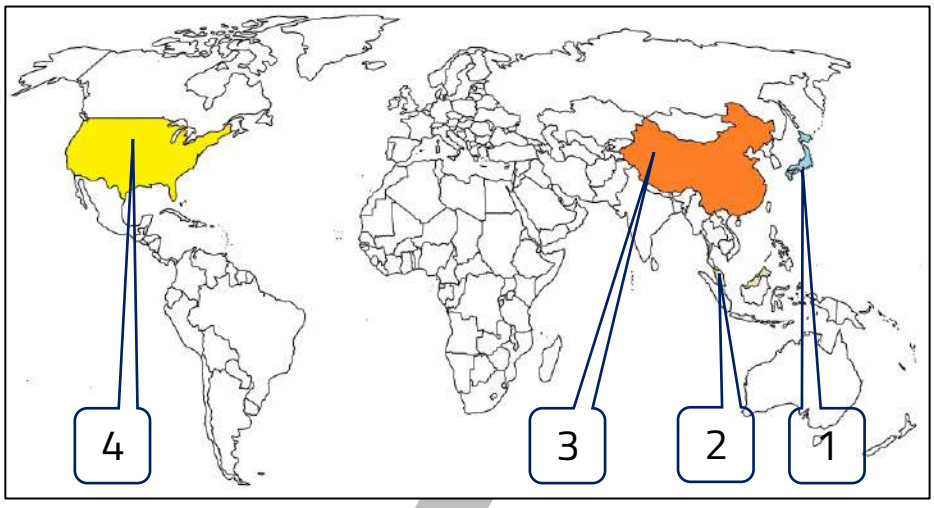

س الدولة التي بدأت تجربتها في دعم المشاريع الصغيرة في أوائل الخمسينات من القرن العشرين يمثلها الرقم _____

س الدولة التي بدأت تجربتها في دعم المشاريع الصغيرة في أوائل الستينات من القرن العشرين يمثلها الرقم _____

س الدولة التي تتصف تجربتها في دعم المشاريع الصغيرة بتميزها عن باقي الدول يمثلها الرقم _____

س الدولة التي تميزت بتحول اقتصاد ها من الاعتماد على المواد الأولية الزراعية إلى اقتصاد يركز على وجود قاعدة صناعية يمثلها الرقم _____

تـــدرب و تـفـوق
اختبارات الكترونية

معلمي الكويت
صفوة
KuwaitTeacher.Com

أهمية اقتصاد الأسرة وعلاقته بالاستقرار الأسري

س حاجات الأسرة متعددة ومتزايدة وفقاً لمعايير (اذكرها)

علل

س الأسرة وحدة اقتصادية لها دور فعال في الاقتصاد

ممكن أن يظهر السؤال في صيغ اخرى:
(علل - النشاط الاقتصادي أساسه الأسرة)
(علل - دور الأسرة في الاقتصاد لا يقل أهمية عن الوحدات الأساسية بالاقتصاد)

س بالرغم من اختلاف أدوار أفراد الأسرة بالاقتصاد إلا لكل فرد أهمية لا تقل عن الآخر

س أهمية اقتصاد الأسرة

س عدد - أهداف اقتصاد الأسرة

س علل - من أهم أهداف اقتصاد الأسرة توعية الفرد في تصرفاته الاستهلاكية

معلمة الكويت
KuwaitTeacher.Com

© جميع الحقوق محفوظة

س وجود علاقة بين اقتصاد الأسرة والاستقرار الأسري

س ما النتائج المترتبة على غياب إدارة الأسرة لأمورها المالية

س دلل - هناك حالات كثيرة من المشاكل يسببها الفشل في التخطيط الأسري

ممكن أن يظهر السؤال في صيغة اخرى: عدد

س عدد - السلوكيات الراشدة للأسرة لتحقيق الاستقرار الأسري

ممكن أن يظهر السؤال في صيغة اخرى: (عدد المؤشرات على الاتجاهات الاستهلاكية الرشيدة للأسرة)

س أفضل طرق ترشيد الماء والكهرباء في المنزل



تـــدرب و تـفـوق
اختبارات الكترونية

UULA
صوت الكويت
KuwaitTeacher.Com

© جميع الحقوق محفوظة

أساسيات التخطيط المالي للأسرة

س علل - أهمية إدارة الأسرة لشؤونها المالية وتدبير مصروفاتها

س صمم خريطة ذهنية توضح فيها فوائد التخطيط المالي للأسرة

ممكن أن يظهر السؤال في صيغة اخرى: (عدد - فوائد التخطيط المالي للأسرة)

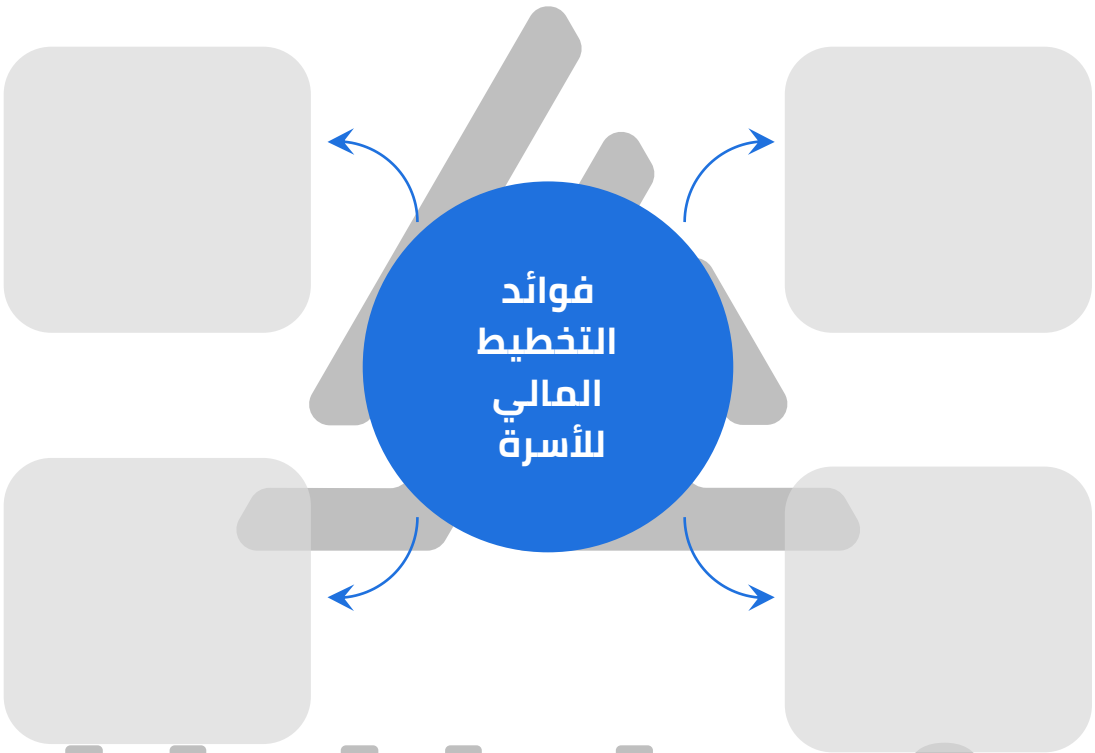

س عدد - العوامل التي تؤثر على سلوك الأسرة عند تنفيذ التخطيط المالي

س عدد - محاور التخطيط المالي للأسرة



معلمة الكويت
KuwaitTeacher.Com

س عدد - موارد الأسرة المالية

.....

س فرق بين كل من :

ممكن أن يظهر السؤال في صيغ أخرى: عرف أكمل اختياري

المصروفات	الادخار
_____	_____
_____	_____

أكمل العبارات التالية :

س يعتمد الإنفاق على مصاريف الأسرة بشكل أساسي على _____

س الموازنة بين المورد المالي والمصروفات يعكس نجاح الأسرة في تنفيذ

_____

اختياري

س محور من محاور التخطيط المالي الأسري يتم اقتطاع جزء من الدخل المالي :

○ المورد المالي ○ الاستهلاك ○ المصروفات ○ الادخار

س علل - لا بد أن يصاحب الادخار المالي للأسرة استثمار

.....

.....

س إذا كان مصروفك الشهري 30 دينار كويتي، والهدف الذي تسعى للحصول عليه شراء جهاز إلكتروني قيمته 100 دينار كويتي.

صمم خطة شهرية لتحقيق الهدف السابق مع كتابة محاور التخطيط المالي

.....

.....

.....

.....

تـــدرب و تـفـوق
اختبارات الكترونية
UULA
Kuwaitteacher.Com