تاريخ

الصف: الحادي عشر أدبي

نماذج اختبار نهائي
الفصل الدراسي الأول





مدرسة التميز النموذجية
ابتدائي - متوسط - ثانوي



خيطان الجنوبي - قطعة ٤ - شارع ١٠٠

الفصل الدراسي الأول 2026 / 2027

مراجعات غير مخصصة للبيع
المصدر
الكتاب المدرسي
وزارة التربية / الكويت
طبعة
2027/2026م
خاصة بطلبة مدارس التميز النموذجية

صفحة معلمي الكويت

مراجعات غير مخصصة للبيع
المصدر
الكتاب المدرسي
وزارة التربية / الكويت
طبعة
2027/2026م
خاصة بطلبة مدارس التميز النموذجية

نموذج اختبار تجريبي مادة التاريخ الإسلامي

الصف الحادي عشر أدبي

الفصل الدراسي الأول2026-2027م

أجب عن جميع الأسئلة الآتية

السؤال الأول: موضوعي يتكون من (أ-ب-ج-د) (5×1=5)

(أ) اختر البديل المناسب من البدائل التي تلي كل عبارة وضع دائرة حول حرف الإجابة الصحيحة

1. **فترة حكم الخلفاء الراشدين يمثلها على الخط الزمني الحرف**



2. **العام الذي ولد فيه النبي صلى الله عليه وسلم يسمى عام:**

أ- الجماعة ب- الحزن ج- الفيل د- الرمادة

3. **الصحابي الجليل الذي أشار على النبي صلى الله عليه وسلم بحفر الخندق في غزوة الأحزاب هو:**

أ- الحباب بن المنذر ب- سلمان الفارسي ج- نعيم بن مسعود د- عمر بن الخطاب

4. **قوم ثمود وعاد من العرب تسمى العرب:**

أ- الباقية ب- العاربة ج- المستعربة د- البائدة

5. **مدينة فتحها المسلمون في العراق كان الفرس يستخدمونها كمخزن للغلال:**

أ- الأنبار ب- الحيرة ج- البصرة د- اليس

مدرسة التميز النموذجية (ابتدائي - متوسط - ثانوي)
صفوة معلمي الكويت

(ب) اربط بين كل عبارة من المجموعة (أ) بما يناسبها من المجموعة (ب) بكتابة الرقم المناسب بين القوسين:

(4=1×4)

	المجموعة (أ)		المجموعة (ب)
1.	الصحابي الذي كان له دور في انتصار المسلمين في غزوة الخندق	( )	عبد الرحمن بن ملجم
2.	قائد الفتح الإسلامي لمصر	( )	عثمان بن عفان
3.	الصحابي الذي أرسله الرسول (ﷺ) ليفاوض قريش في صلح الحديبية	( )	سعد بن معاذ
4.	قاتل الخليفة علي بن ابي طالب	( )	نعيم بن مسعود
.		( )	عمرو بن العاص

(ج) أكمل العبارات التالية: (5=1×5)

1. الدار التي أسسها زعيم قريش قصي بن كلاب تسمى .....
2. السنة الهجرية التي وقعت فيها حجة الوداع هي .....
3. قائد المسلمين في معركة كاظمة 12 هـ هو .....
4. الدار التي اتخذها النبي صلى الله عليه وسلم مقرا لدعوته السرية تسمى.....
5. المدينة التي هرب اليها يزدجرد الثالث بعد سقوط المدائن تسمى .....

(د) أكتب المدلول التاريخي للعبارات في الجدول التالي: (4=1×4)

	العبارات	المصطلح
1.	دستور وضعه النبي ﷺ عند هجرته إلى المدينة لتنظيم الحياة فيها.	
2.	مبايعة 12 رجلا من أهل يثرب الرسول ﷺ على الإسلام.	
3.	عرب انضموا الى القبيلة بالحلف والجوار ولهم كل الحقوق ما عدا الرئاسة.	
4.	العام الذي أصاب المدينة جوع شديد هلك فيه كثير من الناس 17-18 هـ.	

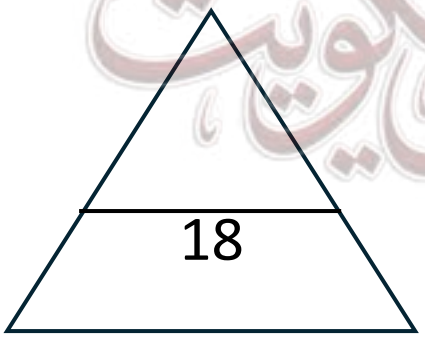

السؤال الثاني: مقالي يتكون من (أ -ب-ج)

(أ) علل تاريخيا ما يلي: (خمس درجات)

1- هزيمة المسلمون في غزوة أحد. (درجة واحدة)

- .....

2- تعتبر معركة اليرموك من أعظم المعارك الإسلامية. (درجتان)

- .....

- .....

3- قيام حركة الردة في عهد الخليفة أبو بكر الصديق. (درجتان)

- .....

- .....

(ب) فرق حسب الجدول: (4×1=4)

عوامل ضعف الروم	عوامل ضعف الفرس
-	-
-	-

(ج) دلل على صحة العبارات التالية:

1. براعة الرسول صلى الله عليه وسلم في التخطيط في غزوة بدر. (درجتان)

- .....

- .....

2. يعتبر صلح الحديبية نصرا عظيما للإسلام والمسلمين. (ثلاث درجات)

- .....

- .....

- .....

مدرسة التميز النموذجية (ابتدائي - متوسط - ثانوي)
صفوة معلمي الكويت

السؤال الثالث: مقالي يتكون من (أ-ب-ج-د)

(أ) عرف المفاهيم التالية: (5×1=5)

1. القبيلة: .....
2. حركة الردة: .....
3. الانصار: .....
4. المتحنفين: .....
5. الخوارج: .....

(ب) فرق حسب الجدول التالي: (درجتان)

مكانة المرأة في النظام الملكي قبل الإسلام	مكانة المرأة في النظام القبلي قبل الإسلام

(ج) نفذ المطلوب فيما بين القوسين:

1- تعتبر الزراعة أقل الحرف انتشارا في شبه الجزيرة العربية. **(علل)** (درجة)

.....-

2- الإسلام أنتشر بحد السيف. **(فند)** (درجة)

.....-

3- معركة نهاوند 21هـ من المعارك الهامة بالنسبة للمسلمين. **(نتائج)** (درجتان)

.....-

.....-

(د) أكتب فقرة مترابطة مستعينا بالكلمات التالية: (ثلاث درجات)

(بيعة عامة - السقيفة – خليفة – بيعة خاصة)

.....

.....

.....

مدرسة التميز النموذجية بنين (ابتدائي - متوسط - ثانوي) خيطان – قطعة (٤) – شارع (١٠٠)

مراجعات غير مخصصة للبيع
المصدر
الكتاب المدرسي
وزارة التربية / الكويت
طبعة
2027/2026م
خاصة بطلبة مدارس التميز النموذجية

السؤال الرابع: مقالي يتكون من (أ -ب-ج)

(أ) أكتب فيما يلي:

1- نتائج معركة عقرباء (حديقة الموت). (درجتان)

- .....

- .....

2-مهام السرايا في الإسلام. (ثلاث درجات)

- .....

- .....

- .....

3- دور هاشم بن عبد مناف في ازدهار مكة. (درجة)

- .....

4-دور العباس بن عبد المطلب في بيعة العقبة الثانية. (درجة)

- .....

(ب) من القائل وما المناسبة:

1. (إنك إن فتحتها كانت قوة للمسلمين وعون لها). . (درجتان)

القائل: .....

المناسبة: .....

2. (إني وليت عليكم ولست بخيركم فإن أحسنت فأعينوني وإن أسأت فقوموني) (درجتان)

القائل: .....

المناسبة: .....

(ج) شاهد المخطط المقابل ثم نفذ المطلوب: (ثلاث درجات)

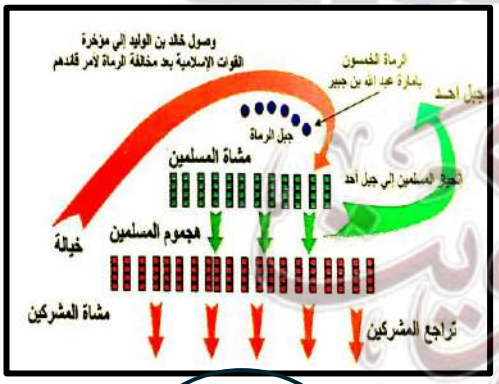

1- ما الحدث الذي يمثله المخطط؟ .....

2- ما النتائج المترتبة على الحدث؟

- .....

- .....

انتهت الأسئلة

نموذج إجابة اختبار تجريبي مادة التاريخ الإسلامي

الصف الحادي عشر أدبي

الفصل الدراسي الأول2026-2027م

أجب عن جميع الأسئلة الآتية

السؤال الأول: موضوعي يتكون من (أ -ب-ج-د) (5=1×5)

(أ) اختر البديل المناسب من البدائل التي تلي كل عبارة وضع دائرة حول حرف الإجابة الصحيحة

1. **فترة حكم الخلفاء الراشدين يمثلها على الخط الزمني الحرف**



2. **العام الذي ولد فيه النبي صلى الله عليه وسلم يسمى عام:**

أ- الجماعة ب- الحزن ج- الفيل د- الرمادة

3. **الصحابي الجليل الذي أشار على النبي صلى الله عليه وسلم بحفر الخندق في غزوة الأحزاب هو:**

أ- الحباب بن المنذر ب- سلمان الفارسي ج- نعيم بن مسعود د- عمر بن الخطاب

4. **قوم ثمود وعاد من العرب تسمى العرب:**

أ- الباقية ب- العاربة ج- المستعربة د- البائدة

5. **مدينة فتحها المسلمون في العراق كان الفرس يستخدمونها كمخزن للغلال:**

أ- **الأنبار** ب- الحيرة ج- البصرة د- اليس

مدرسة التميز النموذجية (ابتدائي - متوسط - ثانوي)
صفوة معلمي الكويت

(ب) اربط بين كل عبارة من المجموعة (أ) بما يناسبها من المجموعة (ب) بكتابة الرقم المناسب بين القوسين:

(4=1×4)

	المجموعة (أ)		المجموعة (ب)
1.	الصحابي الذي كان له دور في انتصار المسلمين في غزوة الخندق	(4)	عبد الرحمن بن ملجم
2.	قائد الفتح الإسلامي لمصر	(3)	عثمان بن عفان
3.	الصحابي الذي أرسله الرسول (ﷺ) ليفاوض قريش في صلح الحديبية	(-)	سعد بن معاذ
4.	قاتل الخليفة علي بن ابي طالب	(1)	نعيم بن مسعود
.		(2)	عمرو بن العاص

(ج) أكمل العبارات التالية: (5=1×5)

1. الدار التي أسسها زعيم قريش قصي بن كلاب تسمى **دار الندوة**
2. السنة الهجرية التي وقعت فيها حجة الوداع هي **10 هـ**
3. قائد المسلمين في معركة كاظمة 12 هـ **خالد بن الوليد**
4. الدار التي اتخذها النبي ﷺ مقرا لدعوته السرية تسمى دار **الأرقم بن الأرقم**
5. المدينة التي هرب اليها يزدجرد الثالث بعد سقوط المدائن تسمى **حلوان**

(د) أكتب المدلول التاريخي للعبارات في الجدول التالي: (4=1×4)

	العبارات	المصطلح
1.	دستور وضعه النبي ﷺ عند هجرته إلى المدينة لتنظيم الحياة فيها.	**الصحيفة**
2.	مبايعة 12 رجلا من أهل يثرب الرسول ﷺ على الإسلام.	**بيعة العقبة الأولى**
3.	عرب انضموا الى القبيلة بالحلف والجوار ولهم كل الحقوق ما عدا الرئاسة	**الموالي**
4.	العام الذي أصاب المدينة جوع شديد هلك فيه كثي من الناس 17-18 هـ.	**عام الرمادة**

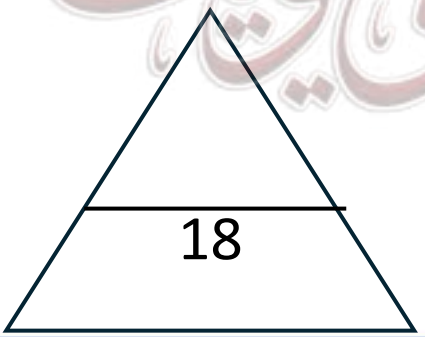

مراجعات غير مخصصة للبيع
المصدر
الكتاب المدرسي
وزارة التربية / الكويت
طبعة
2027/2026م
خاصة بطلبة مدارس التميز النموذجية

السؤال الثاني: مقالي يتكون من (أ -ب-ج)

(أ) علل تاريخيا ما يلي:

1- **هزيمة المسلمون في غزوة أحد.** (درجة)

- مخالفة الرماة لأوامر الرسول (ﷺ) بعدم النزول من على جبل عينين(الرماة)

2- **تعتبر معركة اليرموك من أعظم المعارك الإسلامية.** (درجتان)

- هزيمة جيش الروم اقوى جيوش العالم يومئذ هزيمة قاسية
- غادر هرقل المنطقة نهائيا

3- **قيام حركة الردة في عهد الخليفة أبو بكر الصديق.** (درجتان)

- ضعف الإيمان
- الحقد على الإسلام
- ادعاء النبوة

(ب) فرق حسب الجدول: (4×1=4)

عوامل ضعف الروم	عوامل ضعف الفرس
1- الصراع المذهبي بين مذاهب المسيحية	1- الصراع المذهبي حول الإباحة أو الزهد
2- النزاع السياسي حول العرش	2- الصراع حول العرش
3- كراهية أهل الشام ومصر للروم	3- كثرة الضرائب

(ج) دلل على صحة العبارات التالية:

1. **براعة الرسول صلى الله عليه وسلم في التخطيط في غزوة بدر.** (درجتان)

1- أناب عنه الصحابي أبا لبابه بن المنذر على المدينة 2- متابعة أخبار قريش

3- أخذ برأي الصحابي الحباب بن المنذر بجعل البئر خلف المسلمين 4- اتخذ مقر للقيادة في مكان مرتفع

يعتبر صلح الحديبية نصرا عظيما للإسلام والمسلمين. (ثلاث درجات)

- كان اعتراف صريح من قريش بالدولة الإسلامية.
- ساعد المسلمين على التفرغ لوضع حد لخطر يهود خيبر.
- أعلن الكثير من أبطال قريش الإسلام مثل خالد بن الوليد وعمرو بن العاص.
- تفرغ الرسول ﷺ لنشر الدعوة خارج شبه الجزيرة العربية.

14

السؤال الثالث: مقالي يتكون من (أ -ب-ج-د)

(أ) عرف المفاهيم التالية: (5=1×5)

1. **القبيلة**: مجموعة من الناس تربطهم رابطة القرابة والنسب والدم
2. **حركة الردة:** تمرد القبائل العربية على سلطان الحكومة الإسلامية في المدينة المنورة.
3. **الأنصار:** الأوس والخزرج أهل المدينة الذين ناصروا النبي ﷺ
4. **المتحنفين**: عرب سفهوا عبادة الأصنام واعتنقوا ديانة سيدنا إبراهيم عليه السلام.
5. الخوارج: فرقة من جيش علي بن ابي طالب انشقت عنه واضطر علي رضي الله عنه لمحاربتهم

(ب) فرق حسب الجدول التالي: (درجتان)

مكانة المرأة في النظام الملكي قبل الإسلام	مكانة المرأة في النظام القبلي قبل الإسلام
تبوأت مركز الرئاسة مثل بلقيس ملكة سبأ	تدنت مكانتها حيث انتشرت عادة وأد البنات وتعدد الزوجات إلى عدد غير معروف والجمع بين الأختين وزواج المقت.

(ج) نفذ المطلوب فيما بين القوسين:

1- **تعتبر الزراعة أقل الحرف انتشارا في شبه الجزيرة العربية.** **(علل)** (درجة)

تمتد الصحاري في معظم أرض شبه الجزيرة العربية ويسودها المناخ الصحراوي.

2- **الإسلام أنتشر بحد السيف.** **(فند)** (درجة)

العبارة خطا. قبل الفتوحات كانت تخيرهم بين الإسلام أو الجزية أو الحرب مثال فتح بيت المقدس

3- **معركة نهاوند 21هـ من المعارك الهامة بالنسبة للمسلمين.** **(نتائج)** (درجتان)

- قضت على آخر الجيوش الفارسية.
- أنهت على الدولة الساسانية.

(د) أكتب فقرة مترابطة مستعينا بالكلمات التالية: (ثلاث درجات)

(بيعة عامة - السقيفة – خليفة – بيعة خاصة)

تمت البيعة الخاصة من المهاجرين والأنصار في سقيفة بني ساعده لأبي بكر الصديق وفي اليوم التالي تمت مبايعة عامة الناس لأبي بكر الصديق في المسجد

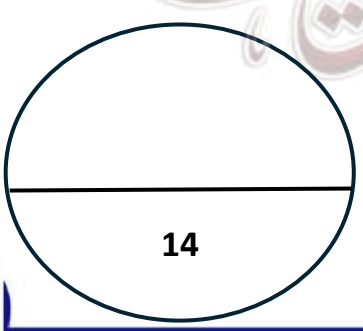

السؤال الرابع: مقالي يتكون من (أ -ب-ج)

(أ) أكتب فيما يلي:

1- **نتائج معركة عقرباء (حديقة الموت).** (درجتان)

1- هزم مسيلمة لواءين من ألوية المسلمين بقيادة عكرمة بن أبي جهل وشرحبيل بن حسنة.

2- انتصار خالد بن الوليد وقتل مسيلمة الكذاب على يد (وحشي الحبشي).

3- استشهد فيها العديد من حفظة القرآن الكريم.

2-**مهام السرايا في الإسلام.** (ثلاث درجات)

1-ضمان أمن المدينة ومراقبة الحدود 2- إشعار القبائل بهيبة الدولة الإسلامية

3- الوقوف على تحركات قريش ضد الدولة الإسلامية 4- التعرض لقوافل قريش التجارية

3- **دور هاشم بن عبد مناف في ازدهار مكة.** (درجة)

سن لهم رحلة الشتاء والصيف فزادت مكانتها بين العرب ووفر لها ثروة اقتصادية

4-**دور العباس بن عبد المطلب في بيعة العقبة الثانية.** (درجة)

قام العباس بن عبد المطلب بدور كبير فكان أول المتكلمين وأخذ منهم العهد لحماية الرسول ﷺ

(ب) من القائل وما المناسبة:

1. **(إنك إن فتحتها كانت قوة للمسلمين وعون لها).** (درجتان)

القائل: عمرو بن العاص

المناسبة: عندما استأذن عمرو بن العاص من الخليفة عمر بن الخطاب فتح مصر

2. **(إني وليت عليكم ولست بخيركم فإن أحسنت فأعينوني وإن أسأت فقوموني)** (درجتان)

القائل: أبو بكر الصديق

المناسبة: خطبة تولية خلافة أمور المسلمين بعد وفاة النبي ﷺ

(ج) شاهد المخطط المقابل ثم نفذ المطلوب: (ثلاث درجات)

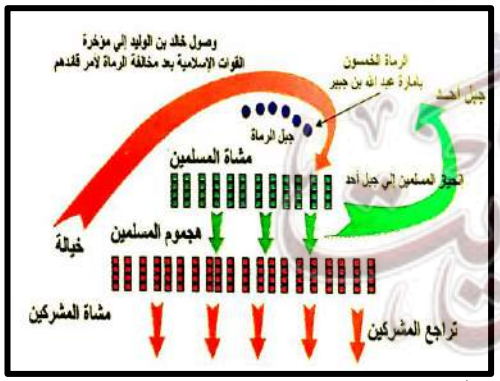

1-ما الحدث الذي يمثله المخطط؟ غزوة أحد 3 هـ

2-ما النتائج المترتبة على الحدث؟

1- هزيمة المسلمين وسقوط 70 شهيدا. 2 - طرد بني النضير من المدينة.

انتهت الإجابة

نموذج امتحان نهاية الفترة الدراسية الأولى

مادة (التاريخ الإسلامي)

للصف الحادي عشر - الأدبي

أجب عن جميع الأسئلة التالية

السؤال الأول (موضوعي): ويتكون من (أ - ب - جـ - د)

أ. أكمل العبارات التالية بما يناسبها: (1×5=5)

1. الصحابي الذي كلفه الرسول ﷺ قائداً لسرية نخلة اسمه.....
2. العام الهجري الذي حج فيه الرسول الله ﷺ - حجة الوداع هو..... هـ
3. قائد جيش القبائل العربية في غزوة الأحزاب (الخندق) اسمه.....
4. المدينة التي أشار أهلها للمصالحة مع الخليفة عمر بن الخطاب [في فتحها] .....
5. الصحابي الذي أرسله الرسول ﷺ ليفاوض قريش في صلح الحديبية اسمه.....

ب) اختر للمجموعة (أ) ما يرتبط بها من المجموعة (ب) بوضع الرقم في المكان المناسب: (1×5=5)

م	المجموعة (أ)	المكان المناسب	المجموعة (ب)
.1	القائد المسلم الذي استشهد في معركة الجسر		الوليد بن عقبة
.2	قائد المسلمين في معركة القادسية		يزيد بن أبي سفيان
.3	قائد المسلمين في معركة عين شمس (هليوبوليس)		أسامة بن زيد
.4	قائد ميسرة جيش المسلمين في معركة اليرموك		سعد بن أبي وقاص
.5	القائد الذي أعاد سيطرة المسلمين على أرمينيا عام 24 هـ		عمرو بن العاص
			أبو عبيدة الثقفي

تابع / السؤال الأول (موضوعي)

ج) صوب ما تحته خط في العبارات التالية: (1×4=4)

1. المدينة التي فتحها خالد بن الوليد وكانت مخازن الغلال للفرس **الحيرة**(.....) .
2. حدثت موقعة البويب بين المسلمين والفرس عام **١٢ هـ**(.....) .
3. ملك الفرس الذي دعاه الرسول ﷺ لدخول الإسلام فمزق كتابه فردّ الله ملكه **هرقل**.(.....)
4. الخليفة الذي استنسخ المصاحف وفرقها في الامصار هو أبو بكر الصديق (.....)

د) لاحظ خريطة شبه الجزيرة العربية ثم اكتب الرقم الدال على العبارات التالية: (1×4=4)

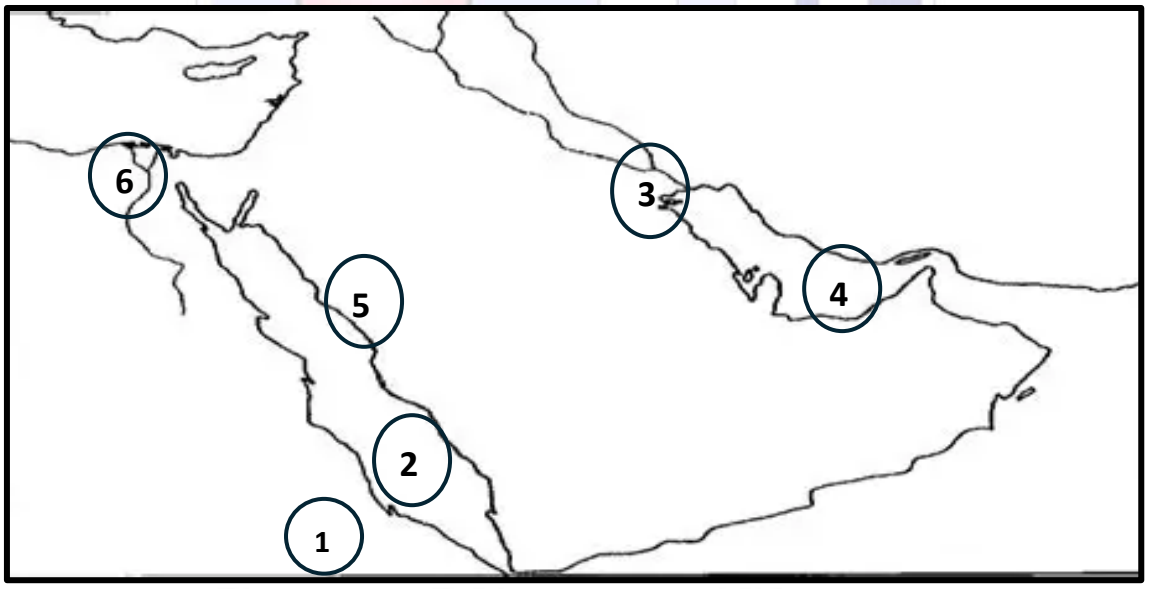

1. موقع الخليج العربي على الخريطة يمثله الرقم. (.....)
2. موقع المدينة المنورة على الخريطة يمثله الرقم.(.....)
3. موقع منطقة الحبشة على الخريطة يمثله الرقم.(.....)
4. موقع معركة كاظمة على الخريطة يمثله الرقم.(.....)

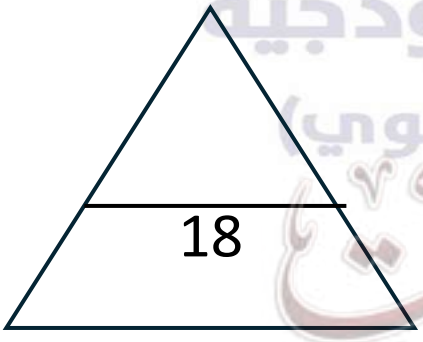

مدرسة التميز النموذجية
صفوة معلمي الكويت

مراجعات غير مخصصة للبيع
المصدر
الكتاب المدرسي
وزارة التربية / الكويت
طبعة
2027/2026م
خاصة بطلبة مدارس التميز النموذجية

السؤال الثاني (مقالي): ويتكون من (أ - ب - ج)

أ) علل لما يأتي: (1×5=5 درجة)

1. عرفت معركة نهاوند بفتح الفتوح .

* .....

* .....

2. معارضة قريش الدعوة الإسلامية .

* .....

* .....

* .....

ب) قارن بين كل مما يلي في الجدول التالي: (1×6=6) (لكل نقطة درجة)

أوجه المقارنة	غزوة حنين	غزوة أحد
العام الهجري		
الأسباب		
النتائج		

ج) أجب عن السؤال الآتي من خلال المخطط السهمي بما يناسبه: (1×3=3) (لكل نقطة درجة)

أعمال الرسول ﷺ في المدينة المنورة) :

....

مدرسة التميز النموذجية
(ابتدائي - متوسط - ثانوي)
صفوة معلمي الكويت

السؤال الثالث (مقالي): ويتكون من (أ - ب - ج)

أ) عرف المفاهيم التالية: (1×4=4) (لكل نقطة درجة)

1. السرية:.....
2. المتنبئة.....
3. الخلافة: .....
4. الخوارج:.....

ب) عدد الأعمال في الجدول التالي: (1×4=4) (لكل نقطة درجة)

أعمال الخليفة أبوبكر الصديق	أعمال الخليفة عمر بن الخطاب
- -	- -

ج) من قائل العبارات التالية وما المناسبة التي قيلت فيها: (1×6=6) (لكل نقطة درجة)

1. "إنّ الله ابتعثنا والله جاء بنا لنخرج من شاء من عبادة العباد إلى عبادة الله ومن ضيق الدنيا إلى سعتها ومن جور الأديان إلى عدل الإسلام ."
   - القائل: .....
   - المناسبة :.....
2. "لقد آمنا بك وصدقناك وشهدنا أن ما جئت به هو الحق ."
   - القائل: .....
   - المناسبة: .....
3. "السلام عليك يا سورية سلاماً لا لقاء بعده ."
   - القائل: .....
   - المناسبة: .....

14

مدرسة التميز النموذجية (ابتدائي - متوسط - ثانوي) صفوة معلمي الكويت

السؤال الرابع (مقالي): ويتكون من (أ - ب - ج)

أ) اقرأ الفقرة التالية ثم أجب عما يليها من أسئلة:

"في أواخر أيام النبي ﷺ - ظهرت مشكلة سياسية ما لبثت أن اتسع نطاقها وخطرها بعد وفاته ﷺ - وهي **حركة الردة** التي انتشرت في أجزاء كبيرة من شبه الجزيرة العربية بأشكال عديدة ومختلفة منهم من رفض دفع الزكاة ومنهم من ادعى النبوة، ولكن كان الخليفة أبو بكر الصديق الذي خلف الرسول ﷺ - لهم بالمرصاد وخاض معهم عدة معارك إلى أن تم القضاء على هذه الحركة بالكامل ورجعت شبه الجزيرة العربية للتوحيد تحت راية الإسلام.".

1. ضع عنواناً للفقرة. (درجة واحدة)
* .....
2. عرف ما تحته خط. (درجة واحدة)
* .....
3. ما الأساليب التي اتبعها أبو بكر الصديق لمواجهة حركة الردة؟ (يكتفى بنقطتين)
* .....
* .....
4. عدد أسماء مدعي النبوة الذين ظهروا في شبه الجزيرة العربية. (يكتفى بنقطتين)
.....

ب) فرق بين كل مما يلي: (1×4=4) (لكل نقطة درجة)

فضل الأنصار	فضل المهاجرين

ج) ما النتائج المترتبة على كل من: (1×4=4) (لكل نقطة درجة)

1. عقد صلح الحديبية. (يكتفى بنقطتين)
* .....
* .....
2. غزوة بدر. (يكتفى بنقطة واحدة فقط)
* .....
* .....

انتهت الأسئلة

مدرسة التميز النموذجية بنين (ابتدائي - متوسط - ثانوي) خيطان – قطعة (٤) – شارع (١٠٠)

إجابة نموذج امتحان تجريبي نهاية الفترة الدراسية الأولى

مادة (التاريخ الإسلامي)

للصف الحادي عشر - الأدبي

عدد الأوراق (٥)

أجب عن جميع الأسئلة التالية:

السؤال الأول (موضوعي): ويتكون من (أ - ب - جـ - د)

أ. أكمل العبارات التالية بما يناسبها: (1×5=5)

1. الصحابي الذي كلفه الرسول ﷺ قائداً لسرية نخلة اسمه :**عبد الله بن جحش**.
2. العام الهجري الذي حج فيه الرسول الله ﷺ - حجة الوداع هو :**١٠ هـ**
3. قائد جيش القبائل العربية في غزوة الأحزاب (الخندق) اسمه :**أبو سفيان بن حرب**
4. المدينة التي أشار أهلها للمصالحة مع الخليفة عمر بن الخطاب [في فتحها] تسمى :**بيت المقدس**
5. الصحابي الذي أرسله الرسول ﷺ ليفاوض قريش في صلح الحديبية اسمه :**عثمان بن عفان**.

ب) اختر للمجموعة (أ) ما يرتبط بها من المجموعة (ب) بوضع الرقم في المكان المناسب: (1×5=5)

م	المجموعة (أ)	المكان المناسب	المجموعة (ب)
.6	القائد المسلم الذي استشهد في معركة الجسر	5	الوليد بن عقبة
.7	قائد المسلمين في معركة القادسية	4	يزيد بن أبي سفيان
.8	قائد المسلمين في معركة عين شمس (هليوبوليس)	-	أسامة بن زيد
.9	قائد ميسرة جيش المسلمين في معركة اليرموك	2	سعد بن أبي وقاص
.10	القائد الذي أعاد سيطرة المسلمين على أرمينيا عام 24 هـ	3	عمرو بن العاص
.11		1	أبو عبيدة الثقفي

تابع / السؤال الأول (موضوعي)

ج) صوب ما تحته خط في العبارات التالية: (1×5=5)

1. المدينة التي فتحها خالد بن الوليد وكانت مخازن الغلال للفرس **الحيرة** **الأنبار**
2. العام الذي وقعت فيه موقعة البويب بين المسلمين والفرس عام ١٢ هـ **١٣ هـ**
3. ملك الفرس الذي دعاه الرسول ﷺ لدخول الإسلام فمزق كتابه فردّ الله ملكه **هرقل كسرى**
4. الخليفة الذي استنسخ المصاحف وفرقها في الامصار هو أبو بكر الصديق **عثمان بن عفان**

د) لاحظ خريطة شبه الجزيرة العربية ثم اكتب الرقم الدال على العبارات التالية: (1×5=5)

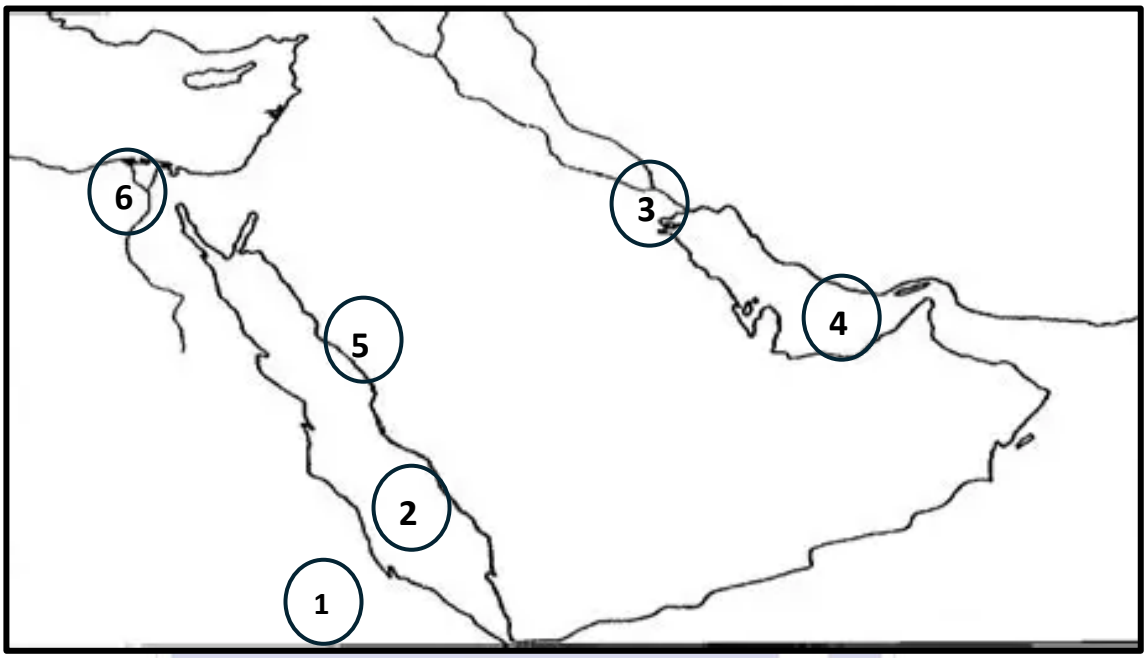

1. موقع الخليج العربي على الخريطة يمثله الرقم (4)
2. موقع المدينة المنورة على الخريطة يمثله الرقم (5)
3. موقع منطقة الحبشة على الخريطة يمثله الرقم (1)
4. موقع معركة كاظمة على الخريطة يمثله الرقم (3)

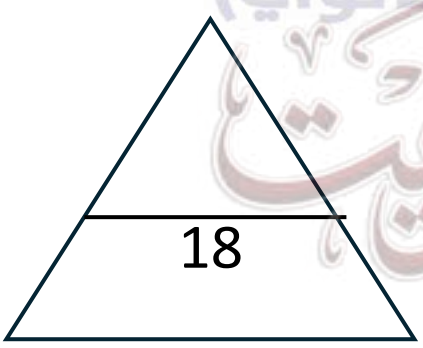

مدرسة التميز النموذجية (ابتدائي - متوسط - ثانوي)
صفوة معلمي الكويت

السؤال الثاني (مقالي): ويتكون من (أ - ب - ج)

أ) علل لما يأتي: (1×5=5درجة)

1. **عرفت معركة نهاوند بفتح الفتوح** (يكتفى بنقطتين)
   - لأنها قضت على آخر الجيوش الفارسية.
   - أنهت الدولة الساسانية.
   - هروب يزدجرد الثالث آخر ملوك ساسان إلى الشمال وظل يتنقل من بلد إلى آخر حتى قُتل
2. **معارضة قريش الدعوة الإسلامية .**(يكتفى بثلاث نقاط)

- أن الرسول ﷺ كان يدعو إلى المساواة بين الناس وهي أساس المجتمع الإسلامي وقريش لا تريد ذلك.
- التفريق بين النبوة والسيادة وظنت أن التسليم بـ محمد معناه التسليم له بالزعامة
- التمسك بعادات وتقاليد الآباء والأجداد.
- الخوف من فقدانهم للثراء والجاه اللذين كانوا يتمتعون بهما ويبعدونها عن خدمتهم للأصنام ورعاية الحجاج .

ب) قارن بين كل مما يلي في الجدول التالي: (1×6=6) (لكل نقطة درجة)

أوجه المقارنة	غزوة حنين	غزوة أحد
العام الهجري	٨ هـ	٣ هـ
الأسباب	استعداد قبائل هوازن وثقيف لمهاجمة المسلمين	رغبة قريش في الثأر من هزيمتها في بدر
النتائج	انتصار المسلمين في نهاية المعركة	هزيمة المسلمين واستشهاد ٧٠ شهيداً. طرد قبيلة بني النضير اليهودية

ج) أجب عن السؤال الآتي من خلال المخطط السهمي بما يناسبه: (1×3=3) (لكل نقطة درجة)

أعمال الرسول ﷺ في المدينة المنورة:

بناء المسجد. الصلح بين الأوس والخزرج. المؤاخاة بين المهاجرين والأنصار / وضع الصحيفة.

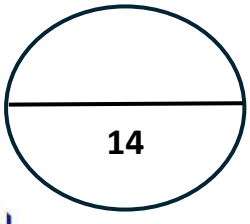

مراجعات غير مخصصة للبيع
المصدر
الكتاب المدرسي
وزارة التربية / الكويت
طبعة
2027/2026م
خاصة بطلبة مدارس التميز النموذجية

السؤال الثالث (مقالي): ويتكون من (أ - ب - ج)

أ) عرف المفاهيم التالية: (1×4=4) (لكل نقطة درجة)

- **السرية** :فرقة من الجنود بقيادة أحد الصحابة.
- **المتنبئة** :هو قيام بعض الشخصيات من القبائل العربية الكبرى بادعاء النبوة بعد وفاة الرسول ﷺ.
- **الخلافة** :رياسة دينية ودنيوية وخلافتهم للناس على ما فيه صلاحهم متبعاً الخليفة في ذلك الكتاب وسنة نبيه.
- **الخوارج**: فرقة من جيش الخليفة علي بن ابي طالب انشقت عنه واضطر علي رضى الله عنه لمحاربتهم

ب) عدد الأعمال في الجدول التالي: (1×4=4) (لكل نقطة درجة)

أعمال الخليفة أبوبكر الصديق	أعمال الخليفة عمر بن الخطاب
جمع القرآن في عهده استكمال مسيرة جيش أسامة نحو الشمال لمواجهة خطر الروم في الشام أول من سمى القرآن مصحفا القضاء على حركة الردة	أول من وضع التاريخ الهجري أول من دون الدواوين في الإسلام أول من صلى صلاة القيام في رمضان فتحت في أيامه الشام والعراق وفارس، والمدائن، ومصر، والجزيرة أول من مصر الأمصار

ج) من قائل العبارات التالية وما المناسبة التي قيلت فيها: (1×6=6) (لكل نقطة درجة)

1. "إنّ الله ابتعثنا والله جاء بنا لنخرج من شاء من عبادة العباد إلى عبادة الله ومن ضيق الدنيا إلى سعتها ومن جور الأديان إلى عدل الإسلام ."
   - القائل :**ربعي بن عامر**.
   - المناسبة :**عندما بعثه سعد بن أبي وقاص في وفد للتحدث إلى رستم قائد الفرس**.
2. "لقد آمنا بك وصدقناك وشهدنا أن ما جئت به هو الحق ."
   - القائل :**سعد بن معاذ**.
   - المناسبة :**الاستعداد لغزوة بدر**.
3. "السلام عليك يا سورية سلاماً لا لقاء بعده ."
   - القائل :**هرقل**.
   - المناسبة :**هزيمة جيش الروم أمام جيش المسلمين في معركة اليرموك، مما جعل هرقل يغادر المنطقة نهائياً**.

14

السؤال الرابع (مقالي): ويتكون من (أ - ب - ج)

أ) اقرأ الفقرة التالية ثم أجب عما يليها من أسئلة:

"في أواخر أيام النبي ﷺ - ظهرت مشكلة سياسية ما لبثت أن اتسع نطاقها وخطرها بعد وفاته ﷺ - وهي **حركة الردة** التي انتشرت في أجزاء كبيرة من شبه الجزيرة العربية بأشكال عديدة ومختلفة منهم من رفض دفع الزكاة ومنهم من ادعى النبوة، ولكن كان الخليفة أبو بكر الصديق الذي خلف الرسول ﷺ - لهم بالمرصاد وخاض معهم عدة معارك إلى أن تم القضاء على هذه الحركة بالكامل ورجعت شبه الجزيرة العربية للتوحيد تحت راية الإسلام.".

1. **ضع عنواناً للفقرة.** (درجة واحدة)
   - **حركة الردة /دور أبوبكر الصديق لمواجهة حركة الردة.**
2. **عرف ما تحته خط.** (درجة واحدة)
   - **حركة الردة** :تمرد قبائل شبه الجزيرة العربية على سلطان الحكومة الإسلامية في المدينة المنورة.
3. **ما الأساليب التي اتبعها أبو بكر الصديق لمواجهة حركة الردة؟** (يكتفى بنقطتين)
   - إقامة الحجة على المرتدة بخطابهم وإنذارهم وتحذيرهم.
   - الحل العسكري والقتال لنصرة دين الحق.
   - عقد أحد عشر لواء لكبار قادة المسلمين لمواجهة مشكلة الردة.
4. **عدد أسماء مدعي النبوة الذين ظهروا في شبه الجزيرة العربية.** (يكتفى بنقطتين)
   - مسيلمة الكذاب.
   - سجاح.
   - الأسود العنسي.
   - طليحة بن خويلد.

مدرسة التميز النموذجية
(ابتدائي - متوسط - ثانوي)
صفوة معالي الكويت
مذكرات غير مخصصة للبيع
المصدر
الكتاب المدرسي
وزارة التربية / الكويت
طبعة
2027/2026م
خاصة بطلبة مدارس التميز النموذجية

ب) فرق بين كل مما يلي: (1×4=4) (لكل نقطة درجة) (يكتفى بنقطتين)

فضل الأنصار	فضل المهاجرين
أهل البلد	أول الناس إسلاماً
آووا الرسول ونصروا دعوته	تحملوا عداوة قومهم وأهلهم
ناصروا الرسول ﷺ وآووه	تركوا أوطانهم وأهلهم

ج) ما النتائج المترتبة على كل من: (1×4=4) (لكل نقطة درجة)

1. **عقد صلح الحديبية** .(يكتفى بنقطتين)
   - اعتراف صريح من قريش بالدولة الإسلامية
   - تفرغ المسلمين لوضع حد لخطر اليهود الذين تجمعوا في خيبر.
   - تفرغ الرسول ﷺ لنشر الدعوة فأرسل الرسل إلى الملوك والأمراء للدخول في الإسلام .
2. **غزوة بدر** .(يكتفى بنقطتين)
   - تثبيت دعائم الدولة الإسلامية وعلت كلمة الإسلام ودخل الكثير من المشركين في الاسلام
   - كان وقع الهزيمة على قريش شديد وخاصة بعد مقتل كثير من رجالاتها مما دعاهم للثأر والانتقام لاستعادة هيبتها بين القبائل.
   - إخراج يهود بنو قينقاع من المدينة المنورة

انتهت الاجابة

مدرسة التميز النموذجية (ابتدائي - متوسط - ثانوي)
صفوة معلمي الكويت

عندما يكون تعليم أبنائكم
اهتمامكم الأول في الحياة

مدرسة التميز النموذجية
ابتدائي - متوسط - ثانوي

قنواتنا على تليجرام


الصف الرابع


الصف الثالث


الصف الثاني


الصف الأول


الصف الثامن


الصف السابع


الصف السادس


الصف الخامس


صف ١١ أدبي


صف ١١ علمي


الصف العاشر


الصف التاسع


صف ١٢ أدبي


صف ١٢ علمي