الجغرافيا



الصف: الحادي عشر أدبي

المراجعة النهائية

الفصل الدراسي الأول

مدرسة التميز النموذجية
ابتدائي - متوسط - ثانوي



مراجعات غير مخصصة للبيع
المصدر
الكتاب المدرسي
وزارة التربية / الكويت
طبعة
2027/2026م
خاصة بطلبة مدارس التميز النموذجية

صفوف معالي الكويت

خيطان الجنوبي - قطعة ٤ - شارع ١٠٠

الفصل الدراسي الأول 2026 / 2027

مبادئ علم الجغرافيا والاقتصاد

أولا مفهوم علم الجغرافيا

المقارنة	تعريفات علم الجغرافيا
عند الإغريق	هي علم وصف الأرض
فان ريبر 1962	لا شيء سوى الإنسان والبيئة
علماء القرن العشرين	علم يختص بالتوزيع الجغرافي للظواهر الطبيعية والبشرية على سطح الأرض

س. عدد أهمية علم الجغرافيا؟



1. مهم في عمليات التخطيط الإقليمي
2. يفيد في التوجيهات الجغرافية
3. يفيد في عمليات التخطيط البيئي

س. فروع علم الجغرافيا؟

الاسم	التعريف
الجغرافيا الطبيعية	تختص بدراسة عناصر البيئة الطبيعية الذي يعيش فيها الإنسان وليس له دخل في نشأتها مثل " التضاريس . المناخ . جغرافيا البحار . جغرافيا الموارد المائية"
الجغرافيا البشرية	تختص بدراسة النشاط البشري وتوزيع الإنسان على سطح الأر ض مثل الجغرافيا الاقتصادية جغرافيا السكان . جغرافيا الحضر والمدن والجغرافيا السياسية
الجغرافيا الإقليمية	تتضمن كافة النواحي الجغرافية (الطبيعية والبشرية والاقتصادية) وتطبيقاتها على الإقليم بقصد إظهار الشخصية الجغرافية للإقليم ونمو الشعور الوطني
الجغرافيا التاريخية	تهتم بما حدث خلال الأزمنة القديمة كتطور نشأة المدن أو الدول

س. عدد مصادر المعلومات في علم الجغرافيا؟ **1.الخرائط** **2. الدارسات الميدانية**

3. الإحصائيات الرسمية **4. المؤلفات والمراجع العلمية والد راسات البحثية** **5. الاستشعار عن بعد**

س. عرف الخريطة: هي رسم أو صورة توضيحية مصغرة لمظاهر سطح الأرض أو جزء منه على لوحة مستوية بمقياس رسم معين

علل لما يلي: تعتبر الخريطة من المصادر الهامة للجغرافي؟ 1. يستفيد منها في الحصول على المعلومات

2. يوقع عليها البيانات والإحصائيات على هيئة أشكال بيانية أو رموز

س . عدد أهم عناصر الخريطة؟

1.عنوان الخريطة 2. مقياس الرسم 3. إطار الخريطة 4. الرموز والعلامات الاصطلاحية

س . عرف مقياس الرسم: هو النسبة بين القياسات على الخريطة وما يقابلها على الطبيعة.

س . عدد أنواع مقياس الرسم؟

اسم المقياس	الشكل
المقياس المباشر	1سم لكل 2ك م
المقياس النسبي	1: 200000
المقياس البياني (الكسر البياني)	1 / 25000
المقياس الخطي	
المقياس الخطي المقارن	

س . ما المقصود بإطار الخريطة؟

هو الذي يضم جميع محتويات الخريطة داخله ويكون على شكل مربع أو مستطيل.

س- ما هي القواعد والأسس التي يجب مراعاتها عند الكتابة على الخرائط؟

1. نوع الخط 2. حجم الخط 3. لون الخط 4. موقع الخط

س - فرق بين أنواع اتجاه الشمال؟

الشمال الحقيقي أو الجغرافي	الشمال المغناطيسي	الشمال العام أو الاحداثي
هو الذي يشير إلي نقطة القطب الشمال الجغرافي	هو الذي تشير إلية الإبرة. المغناطيسية الحرة الحركة	هو الشمال الذي يوازي خط الطول الأوسط لمسقط الخريطة ويوازي إطار الخريطة
★		

صفوة معلمي الكويت

س- ما المقصود بالمسقط؟

عملية إسقاط لشبكة خطوط الطول ودائر العرض من السطح الكروي إلي السطح المستوي للخريطة

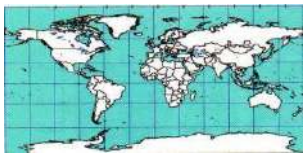

مسقط أسطواني

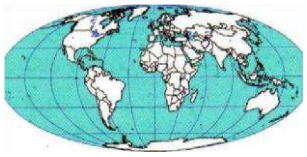

مسقط مولفايدي

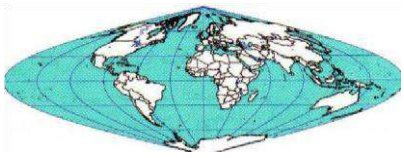

مسقط سانسون

س- عرف الخريطة الركنية؟

هو رسم خريطة لمساحة صغيرة من سطح الأرض لدولة ما وتضاف لخريطة الدولة لتبين موقع المنطقة الصغيرة بالنسبة للدولة ككل

مراجعات غير مخصصة للبيع
المصدر
الكتاب المدرسي
وزارة التربية / الكويت
طبعة
2027/2026م
خاصة بطلبة مدارس التميز النموذجية

علل من الصعب وضع تصنيف دقيق وشامل للخرائط؟

لان الخرائط متعددة الأنواع والأشكال.

س- عدد أسس تصنيف الخرائط؟

1. حسب مقياس الرسم **2. حسب الموضوع** **3. حسب الشكل**

س / عدد خرائط حسب المقياس (كبيرة - متوسطة - صغيرة)

س ـ صنف الخرائط حسب الموضوع؟ (عامة - التوزيعات)

1. **الخرائط العامة:** هي الخرائط التي تمثل مظاهر سطح الأرض الطبيعية والبشرية مثل **الخرائط الطبوغرافية - وخرائط أطلس العامة**
2. **خرائط التوزيعات:** خرائط تتعامل موضوع محدد وتهتم بإظهار توزيعه الجغرافي

س ـ عدد أقسام خرائط التوزيعات؟

الخرائط البشرية	الخرائط الطبيعية	الخرائط الاقتصادية
خرائط المرتبطة بالإنسان وأنشطته	التي تمثل المظاهر الطبيعية على سطح الأرض	خرائط المرتبطة بالثروات الطبيعية والموارد الاقتصادية
مثل خرائط السكان – العمران – السياسية – التاريخية	مثل خرائط التضاريس – الجيولوجية – الطقس والمناخ	

س ـ ماذا يقصد بتصنيف الخرائط حسب الشكل؟

يقصد بالشكل: حجم الخريطة وعدد النسخ وطريقة التغليف وأسلوب التقديم والعرض للمستخدمين

1. خرائط الأطلس العامة **2. خرائط الأطلس الوطنية** **3. الخرائط المطوية**

4. الخرائط الحائطية أو الجدارية **5. الخرائط الطبوغرافية والتفصيلية**

ثانيا الدراسة الميدانية

س علل الدارسة الميدانية من أهم خطوات البحث العلمي

1. تساعد الباحث في التعرف على كثير من الظواهر التي لم تكن واضحة في معظم الكتب والمراجع
2. تساعد الباحث في التأكد من صحة المعلومات عن الظاهرة موضوع الدراسة

س ـ عدد الأدوات والأجهزة التي يجب توافرها مع الباحث أثناء إجراء الدراسة الميدانية؟

1. سيارة عادية للمدن وسيارة جيب للصحراء 2. بوصلة حديثة 3. منظار تكبير 4. شريط قياسات 5. لوحة رسم خشبية لتثبيت الخرائط عليها 6. مجموعة من الأقلام الملونة 7. الأكياس لأخذ العينات

س – أذكر الأمور (الخطوات) الذي يجب أن يقوم بها الباحث أثناء إجراء الدراسة الميدانية؟

1. **التأكد من المعلومات التي تم جمعها**
2. **جمع بيانات حديثة وجديدة**
3. **القيام بزيارات ومقابلات شخص مع السكان**
4. **أخذ مجموعة من الصور الفوتوغرافية للظواهر**

س ـ عدد أنواع الإحصائيات الرسمية كمصدر للمعلومات الجغرافية؟

1. التعداد 2. الإحصائيات الحيوية 3. المجموعة الإحصائية السنوية

س – عرف ما يلي؟ س 2/ اكتب المفهوم أو المصطلح العلمي؟

1. التعداد: عملية الكلية لجمع وتصنيف وتبويب المعلومات الديموغرافية والاقتصادية والاجتماعية ونشرها لكل أفارد المجتمع داخل الدولة خلال فترة زمنية محددة

2. الإحصائيات السنوية: هي نشرة سنوية لوازرة التخطيط لحالات للمواليد والوفيات والطلاق والزواج حسب السن والنوع والجنس والعمر.

س - ما هي أهم المؤلفات العلمية كمصدر للمعلومات الجغرافية؟

1. الموسوعات 2. الببلوجرافيا 3. الدوريات 4. الرسائل الجامعية - الماجستير + الدكتوراه

س عرف الموسوعات: هي دائرة من المعارف تغطي ميادين مختلفة من العلوم والآداب

عرف الببلوجرافيا: هو تسجيل كل ما كتب عن موضوع معين علي المست وى العلمي

عرف الدوريات: هي المجلات العلمية التي تصدر شهريا أو سنويا.

س ـ عرف الاستشعار عن بعد؟ هو رؤية ما يرى بالعين المجردة / أو علم الحصول علي معلومات عن منطقة أو ظاهرة طبيعية أو بشرية من خلال أجهز لا تلمس هذه الأشياء

س – عدد مكونات عملية الاستشعار عن بعد؟

1. الأقمار الاصطناعية 2. الطائرات 3. أجهزة التقاط البيانات 4. آلات تصوير وأنظمة الرادار

س أكمل ما يلي: بدأ التصوير الفوتوغرافي لسطح الأرض في عام **1960 م**

س- عدد المجالات التطبيقية العلمية الاستخدامات العلمية للاستشعار عن بعد؟

1. دارسة الخصائص الطبيعية لسطح الأرض
2. دارسة تلوث البيئة
3. دارسة الكوارث الطبيعية

ثالثا: الانسان والكون

س- عرف كرة النار؟

الكون بدأ وهو ضئيل جد ا وحار ويعرف بكرة النار ثم بلغت غاية الحرارة والكثافة بتمدد الكون بسرعة كبيرة جدا وحدوث انفجار عظيم يسمي (بيج بونج)



س- عرف الكون؟

مجموع الموجودات الكائنة من مختلف صور المادة والطاقة والزمان والمكان وهو النظام الشامل للأجرام السماوية

س- كيف نشا الكون؟

1. حدوث الانفجار العظيم
2. تكونت المجرات والنجوم والأجرام السماوية
3. الابتعاد عن المركز

س- علل الكون في حالة اتساع؟ دلل على صحة نظرية الانفجار العظيم؟

1. **الدليل المادي بمقارنة الصور القديمة للكون مع صور حديثة وجد العلماء أن جميع النجوم والكواكب قد تحركت من مكانها.**
2. **الدليل من القرآن (والسماء بنينها بأيد وإنا لموسعون) الآية 47 من الذاريات تؤكد استمرار الكون في اتساعه**

س . عرف ما يلي؟ (اكتب المفهوم أو المصطلح)؟

1. **المجر ات: نظام نجمي يتكون من بلايين النجوم والغبار الكوني في تجمعات وأشكال مختلفة مثل "مجرة درب التبانة "** أشكال المجرة إما حلزوني أو بيضاوي
2. **السدم: سحب كونية تتكون غازات متأنية ما بين النجوم والغبار وتشكل 10 – 12 من كتلة المجرة**
3. **الشهب: أجسام صخرية أو معدنية التركيب متباينة في أشكالها وكتلتها**
4. **النيازك: قطع كبيرة صلبة تتكون من الأحجار الحديدية تأتي من الفضاء الخارجي وتخترق الغلاف الجوي للأرض وتتحطم على شكل شهب مضيئة**
5. **المذنبات: جرم فلكي غير مضيء تتكون من أتربة وغازات متجمدة مثل " الأمونيا والميثان والثلج " وعند اقترابها من الشمس يكون لها ذيل.**

6. **الأقمار:** أجارم سماوية مظلمة تستمد نورها من انعكاس أشعة الشمس عليها وهي تتبع الكواكب.

7. **النجوم:** أجرام سماوية مضيئة تتكون من غاز الهيدروجين والهيليوم ودرجة حرارتها مرتفعة جدا مثل الشمس.

الفصل الثاني المجموعة الشمسية

س . عرف المجموعة الشمسية؟

نظام يتكون من الشمس ومجموعة كواكب عددها ثمانية تدور حولها في مدار إهليلجي

س . أكمل 1. تمثل الشمس نسبة 99,86 % من كتلة النظام.

2. جميع الكواكب تدور حول الشمس من الغرب إلى الشرق عدا كوكب يسمى أورانوس

عرف الشمس: هي إحدى نجوم مجرة التبانة وهي عبارة عن كرة من الغازات الملتهبة الهيدروجين والهيليوم

عدد أنو اع الأشعة الشمسية؟

1. **أشعة حرارية: غير مرئية تتألف من الأشعة تحت الحمراء** ونسبتها 46%
2. **أشعة ضوئية: تسبب الضوء عندما تنعكس** ونسبتها 45%
3. **أشعة فوق البنفسجية: هي الأشعة الحيوية يستفيد منها الإنسان وإذا زادت تسبب الأمراض**

س . صف الكواكب حسب الجدول؟ ما هي أنواع الكواكب؟

1. الكواكب الصخرية (الداخلية)		2. الكواكب الغازية (الخارجية)		
عطارد	الزهرة	المشترى	نيوتن	ر زحل
الأرض	المريخ	2003-313	أورانوس	بلوتو

س حزام الكويكبات:

أجسام صخرية تدور حول الشمس وأشكالها غير محدودة وتتركز95% منها ما بين كوكب المريخ والمشتري

صفوة معلمي الكويت

س- اكتب عن أهم خصائص كل من؟

1. عطارد: أصغر وأقرب الكواكب إلى الشمس يكمل دورته حول الشمس في 88 يوم ويدور حول نفسه
2. الزهرة: ثاني كوكب من الشمس جاف وحرارته عالية جدا تشبه الفرن ذات الضغط العالي.
3. الأرض: ثالث كوكب من الشمس يحيط به الهواء لذلك هو الوحيد الذي يسمح بوجود الحياة ويتكون من يابس وماء. الغلاف الجوي للأرض من غاز النيتروجين 78 % . والأكسجين 21% والباقي 1% أخرى
4. المريخ: رابع كوكب وهو بارد يتكون غلافه الجوي من النيتروجين وقليل من بخار الماء وتحدث عليه عواصف ترابية ويحتوي علي الحديد والرمل ولونه احمر

س- علل تنتشر الحفر على سطح كوكب عطارد؟ بسبب تساقط النيازك عليه

س- علل يعتبر كوكب الزهرة توأم الأرض - يكونان بين المنطقة نفسها من سديم الشمس

- تركيبهما واحد بشكل عام -الكوكبان نفس الحجم والكتلة والكثافة

س- علل يتميز كوكب ا لأرض باللون الأزرق؟ بسبب شغل المحيطات نحو 71% من مساحة الأرض

س- علل يميل كوكب المريخ إلي اللون الأحمر؟ بسبب وجود معدن أكسيد الحديد

س- عرف المفاهيم الآتية / أكتب عن خصائص كل من؟

1. المشترى هو أكبر كواكب المجموعة الشمسية وخامسها بعدا يغطي سطحه الأمونيا والميثان
2. زحل سادس كوكب من الشمس والثاني حجما يشكل الهيدروجين 85% وتحيط به حلقات لامعة
3. أورانوس: هو كوكب غريب فهو خالي من المعالم يجمع بين اللون الأزرق والأخضر
4. نبتون: ثامن الكواكب من الشمس غلافه الجوي مشبع بغاز الهيدروجين والميثان
5. كوكب 313 (Xena) هو الكوكب التاسع شكله دائري وقد اكتشف حديثا
6. بلوتو: هو كوكب قزم وسوف يجرد من تصنيف الكواكب

س- علل يرغب العلماء في تجريد بلوتو من تصنيفه ككوكب؟ لصغر حجمه وعدم انتظام مداره

س- أكمل/ الكوكب الذي يدور عكس اتجاه دوران الكواكب هو كوكب أورانوس

صفوة معلمي الكويت

مراجعات غير مخصصة للبيع
المصدر
الكتاب المدرسي
وزارة التربية / الكويت
طبعة
2027/2026م
خاصة بطلبة مدارس التميز النموذجية

رابعا: الخصائص العامة للكرة الأرضية

س: فسر المفاهيم التالية:

محور الأرض: هو المحور الوهمي المائل بزاوية 23,5 الواصل بين نقطتي الشمال والجنوب

س: علل الأرض مفلطحة عن القطبين ومنبعجة عند خط الاستواء؟

يرجع ذلك لدوران الأرض حول محورها في مراحل تكونها الأولى.

علل _ اختفاء الشمس عند القطب الجنوبي صيفا؟

-بسبب تعامد الشمس على مدار السرطان صيفا مع ميل الأرض تكون الأشعة أفقية عند القطب الشمالي.

س: قارن بين حركات الأرض المختلفة؟

وجه المقارنة	**الحركة المحورية** (حول نفسها)	**الحركة الانتقالية** (حول الشمس)
المفهوم	هي دورة الأرض حول محورها المائل بزاوية قدرها 23,5 غربا	هي دورة الأرض حول الشمس
المدة التي تستغرقها في الدورا ن	24 ساعة	365 يوم وربع

س: قارن بين خطوط الطول ودوائر العرض

وجه المقارنة	خطوط الطول	دوائر العرض
المفهوم	أنصاف دوائر أطوالها ثابتة وتلتقي عند القطبين الشمالي والجنوبي	الدوائر التي تقسم الكرة الأرضية لدوائر متعددة تقطعها بحسب مستويات موازية للدائرة الاستوائية العظمى.
العدد	360	180
الخط الرئيسي	جرينتش	الاستواء
الأهمية	تساعدنا في رسم الخرائط. تساعدنا في تحديد الاتجاهات. تحديد الزمن.	تساعدنا في رسم الخرائط. تحديد الاتجاهات. تقسيم الكرة الأرضية إلي مناطق حرارية.

س أكمل عقد المؤتمر الجغرافي العالمي.**1884بواشنطن** لتقسيم سطح الكره الأرضية إلى **24 منطقه زمنيه**

س / عر ف خط التاريخ الدولي أو التوقيت العالمي؟

هو خط الطول 180 الذي يقع في المحيط الهاد ي وتقرأ عنده قراءتين مختلفتين

#ملحوظة: إذا عبرت طائرة متجهة شرقا وكانت الساعة**5 يوم الثلاثاء** يعدل الوقت ويكون **5 يوم الاثنين**

إذا عبرت طائرة متجهة غربا وكانت الساعة **5 يوم السبت** يعدل الوقت ويكون **5 يوم الأحد**

****** خطوات لحل أي مسائل للزمن**

1- حساب الفرق في عدد خطوط الطول إذا كانت شرق وشرق أو غرب وغرب نطرح

2- أما إذا كانت شرق وغرب فتجمع عدد خطوط الطول

3- تحويل عدد خطوط الطول إلى زمن من خلال × 4 دقائق

4- تقسم عدد دقائق على 60 دقيقة لتحويلها إلى ساعات

5- حساب الزمن في البلد بزيادة الوقت إذا كانت تسبق والعكس

مثال // أراد شخص في البحرين التي تقع على خط طول 50شرقاً الاتصال بصديق له في الرباط، حيث كانت الساعة في البحرين العاشرة صباحاء فكم تكون الساعة في مدينة الرباط الواقعة على خط غرينتش؟

1 -عدد خطوط الطول = 50- 0 = 50 خطاً

2-الفارق الزمني= 50×4 دقائق = 200 دقيقة

3 -لحساب الزمن بالساعات= 140 ÷60 = 3,30 ساعة

4-الرباط تقع غربا عن البحرين فهي تقل في الزمن فتكون الساعة في الرباط 10- 3,30 = 6,30 صباحا

س: أكتب عن أهم خصائص القمر التابع الوحيد للأرض؟

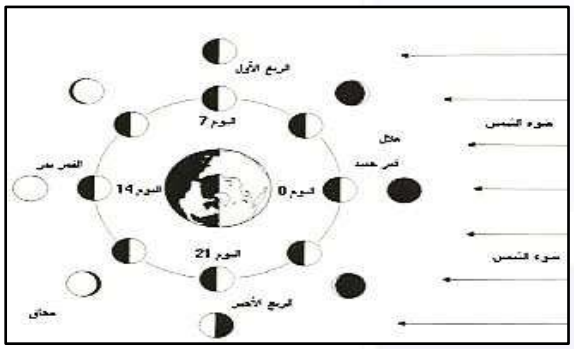

1. هو التابع الوحيد للأرض
2. يدور حول الأرض مرة كل 27,32يوم
3. تتساوى حركته المحورية وحركته حول الأرض
4. تظهر على سطحه الحفر والفوهات الدائرية
5. لا يرى منه سوى 59% فقط

س علل وجود الحفر على سطح القمر؟ بسبب اصطدام النيازك بسطح القمر.

س: أذكر النتائج المترتبة على دوران القمر حول الأرض

1- اختلاف أوجه القمر 3- كسوف الشمس

2- خسوف القمر 4-حدوث ظاهرة المد والجزر

الكسوف الحلقي:

ظاهرة تحدث عند وقوع القمر بين الشمس والأرض لا يظهر من الشمس إلا حلقه من الضوء

صفوف معلم الكويت

س: قارن بين الكسوف والخسوف من حيث الرسم – أسباب الحدوث – الأنواع

وجه المقارنة	خسوف القمر	كسوف للشمس
التعريف	يحدث الخسوف عند وقوع القمر في منطقة ظل الأرض أو شبه الظل	يحدث الكسوف عندما يقع القمر بين الشمس والأرض فيحجب ضوئها / في منطقة الظل
الرسم	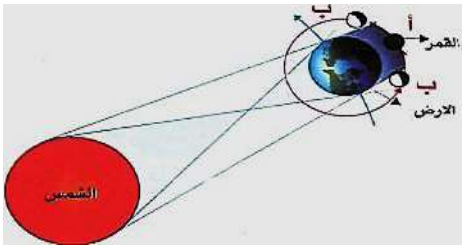	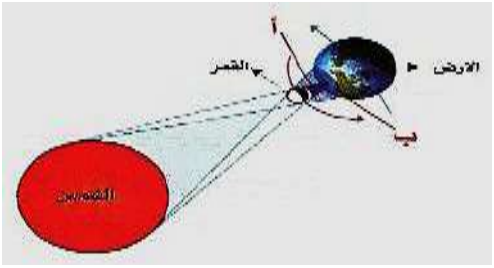

س /علل ما يلي: حدوث ظاهرة المد والجزر

بسبب اختلاف قوة الجاذبية بين الشمس والقمر والأرض

س/ أكمل تم ملاحظة كسوف جزئي للشمس في دولة الكويت عام 2006 م

خامسا: الجغرافيا الطبيعية؟

عرف الجغرافيا الطبيعية: هي تختص بدارسة كافة الظواهر الطبيعية في البيئة التي يعيش فيها الإنسان والتي ليس له دخل في نشأتها

س- عدد الأغلفة الطبيعية التي تتكون منها الكرة أرضية؟

- الغلاف الصخري - الغلاف المائي - الغلاف الجوي - الغلاف الحيوي

س/ عرف الغلاف الصخري: عبارة عن القشرة الخارجية لكوكب الأرض ومتوسط سمكه100 كم مكون من طبقتي السيال والسيما

س- فرق بين؟

طبقة السيال	طبقة السيما
هي الطبقة العليا وهي صخور جرانيتيه تتألف من السليكا والألمنيوم	هي طبقة الصخور السفلى تتكون من صخور بازلتية وتتألف من السيليكا والماغنسيوم

س- فرق بين أنواع الصخور؟

وجه المقارنة	الصخور النارية	الصخور الرسوبية	الصخور المتحولة
التعريف	هي صخور كانت أول الأمر منصهرة لشدة الحرارة ثم تصلبت فوق القشرة الأرض	تتكون من مفتات الصخور النارية أو المتحولة أو نتيجة عملية التعرية والتجوية	هي صخور تغير تركيبها المعدني والكيميائي نتيجة الحرارة والضغط
المميزات	بلورات شديدة الصلابة كتلية - عديمة المسامية تخلو من الأحافير	طباقيه تحتوي على أحافير - المسامية	1. توجد بها أحافير 2. ذات معادن متبلورة
الأنواع	1-نارية جوفية عميقة 2-نارية متداخلة 3-نارية طفحيه بركانية	1- صخور ميكانيكية 2-صخور كيميائية 3-صخور عضوية	مثل صخور – الرخام – الإردواز – النيس والشيست

س- علل تسمي الصخور النارية بالصخور الأولية؟

لأنها أول صخور وجدت والصخور الأخرى اشتقت منها

س- علل أهمية الصخور؟

1. مصدر للمواد الخام في أعمال البناء الصلبوخ – الحجر الجيري – الأسمنت – الرخام
2. مصدر للطاقة كالفحم – النفط – الغاز الطبيعي
3. مصدر للمعادن مثل الفوسفات – الحديد النحاس – الذهب
4. مصدر للمياه الجوفية

س-) فرق بين العوامل والقوى المؤثرة في تشكيل سطح الأرض؟

من حيث	عوامل داخلية	عوامل خارجية
التعريف	هي علميات تحدث في باطن الأرض وتؤثر على السطح	يتأثر سطح الأرض بالغلاف المائي والجوي بهدف تسوية سطح الأرض
الأنواع	عمليات سريعة: مثل الزلازل والباركين عمليات بطيئة: مثل الالتواءات والانكسارات	التجوية - عوامل التعرية

فرق بين؟

المقارنة	الزلازل	البراكين
التعريف	هي هزات فجائية سريعة تصيب القشرة الأرضية في شكل موجات متتالية	خروج المواد المنصهرة والغازات والأبخرة المحبوسة في جوف الأرض عبر مناطق ضعيفة جيولوجيا من القشرة الأرضية
الأنواع	الزلازل التكتونية - الزلازل البلوتونية الزلازل الصناعية:	حسب النشا ط 1. نشطة ثائرة 500 بركان 2- هادية 3 - خامدة
المخاطر والفوائد	1.خسائر فادحة في الممتلكات والأرواح 2.ترفع أو تخفض أجزاء من قاع البحر والسواحل 3.انهيار وانزلا قات أرضية 4.تنشئ أمواجا عالية تسمي تسونا مي	1.خصوبة التربة 2.تخرج مع المصهورات كثير من المعادن 3. تستخدم المياه الحارة في التدفئة

علل حدوث الزلازل؟

1.نتيجة اضطرابات تتعرض لها القشرة الأرضية 2. تحرك المواد الصخرية المنصهرة

أكمل الجهاز الذي يمكن إن يرصد الزلازل يسمي السيسموجراف



س- حدد التوزيع الجغرافي لمناطق الزلازل والبراكين؟

1. **سواحل المحيط الهادي حلقة نارية 78 % من الزلازل والباركين**
2. **النطاق الألبي البحر المتوسط والمرتفعات الألبية وتركيا و إيران.**
3. **نطاق حافة وسط الأطلنطي** **4.** الأخدود الأفريقي العظيم

س- ما هي عناصر البركان؟

1. **جبل مخروط الشكل: هو تراكم الرماد البركاني بعد تصلبها.**
2. **القصبة أو المدخنة أو العنق: تجويف أسطواني تخرج منه المواد المنصهرة**
3. **فوهة البركان: تجويف مستدير تخرج منه المواد المنصهرة**

س- عدد أنواع المواد البركانية؟

1.الحطام الصخري 2. الغازات 3. المواد السائلة: اللافا الحمضية – اللافا القاعدية

س- عرف الالتواءات؟ عبارة عن انثناء الطبقات الصخرية إما إلى أعلي أو إلى أسفل ويكون في الطبقات

س عدد أنواع الالتواءات

1. **وحيد الطرف الأحادي** وفيه تنثني الطبقات في اتجاه واحد
2. **الالتواء المتماثل المنتظم** يتساوى فيه ميل الطبقات
3. **الالتواء الغير متماثل** زاوية ميل أحد الجوانب أكبر من الأخر
4. **الالتواء المتوازي** هو ثنيات محدبة ومقعرة متوازية
5. **الالتواء المقلوب** هو ميل الطبقات على الأخر بزاوية 60 درجة
6. **الالتواء المستلقي النائم** وهو أن يستلقي جانب الالتواء على سطح الأرض
7. **الالتواء الزاحف** هو التواء نائم تزحزح بعيدا بفعل الضغط

س- عرف الانكسارات (الصدوع)؟

هو حدوث كسر في الطبقات الصخرية ويصاحبه زحزحة بعض أجزاء الطبقات إما رأسيا أو أفقيا.

س- عدد أنواع الانكسارات مع الرسم؟

المقارنة	التعريف	الرسم
الانكسار البسيط العادي	بسبب الحركات الراسية ولا تصاحبه حركات جانبية	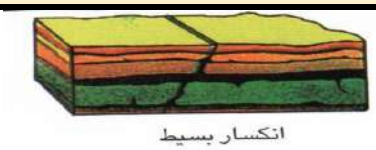 انكسار بسيط
الانكسار المعكوس الضغط	بفعل الضغط ويصاحبه تحرك الحائط المعلق إلي أعلي	
الانكسار الزاحف	هنا يزحف الحائط المعلق فوق الحائط الأساسي	 انكسار زاحف
الانكسار السلمي (المدرج)	هو مجموعة من الانكسارات المتوازية تكون على شكل مدرجات سلمية	 انكسار مدرج
5- الظهور الصدعية (الهورست)	تعني عش النسر وهي هبوط الكتل الصخرية الجانبية مع بقاء الوسطي بارزة	 هورست
الانكسار الأخدودي	يعني هبوط الكتل الصخرية بين كسرين مكونة منخفض طولي يسمي أخدود مثل البحر الأحمر	 انكسار أخدودي

س ـ عرف التجوية؟

هي تفكك وتفتت وتحلل الصخور في موضعها بتأثير العناصر الجوية ميكانيكيا أو كيميائيا.

س/ فرق بين الآتي

المقارنة	التجوية الميكانيكية	التجوية الكيميائية	التجوية الحيوية
التعريف	تفكك وتفتت الصخور إلى مفتات دون تغير في التركيب المعدني	هو تفاعل الماء بعناصر الصخر فتتحول مكونات الصخور إلى تركيب يختلف عن حالته الأصلية	هي توسيع الشقوق والمفاصل ويكون بفعل الأشجار والحيوانات

س ـ عدد عوامل التعرية

1.الرياح 2. المياه الجارية 3. الجليد 4. الأمواج 5. المياه الجوفية

س ـ عدد عمليات الرياح وتأثيرها على سطح الأرض: النحت النقل الإرساب

س ـ عدد وسائل الرياح كعامل النحت؟

1. **التذرية**: تتم بقوة التيا ارت الهوائية واحتكاكها بسطح الأرض وقدرتها علي جر المواد الصخرية المفككة.
2. **البري:** هي الرياح المسلحة بحبيبات الرمال فتنشط الأجزاء الضعيفة من الصخور

##س/ عدد أهم الظاهرات التضاريسية بفعل التذرية: صحراء الرق- المنخفضات الصحراوية.

أهم الظاهرات التضاريسية بفعل البري: الجلاميد – اليارداتج – الأشكال الصخرية –المنخفضات الصحراوية

س ـ عدد طرق النقل بفعل الرياح: - التعليق - القفز - الزحف السطحي

س ـ عدد طرق الترسيب بفعل الرياح؟ الترسيب الارتشاف التوقف

س ـ عدد أنواع الكثبان الرملية؟

1. الكثبان الطولية 2. الكثبان الهلالية 3. التموجات الرملية

4.الكثبان الهابطة 5. الكثبان النجمية 6. النباك

س عرف المياه الجارية

هي الأنهار ومجاري السيول والمياه الناتجة عن ذوبان الجليد والتي تجري جميعها على سطح الأرض

س/ أكمل: أكثر عوامل تشكيل لسطح الأرض قوة ونشاطا هي الأنهار

س- عدد عناصر النظام النهري؟

1. **حوض النهر:** المساحة الأرضية وتضم جميع أج ازء النهر من روافده العليا حتى المصب
2. **مجري النهر:** القناة المائية التي تجرى فيها المياه من المنبع إلي المصب.
3. **وادي النهر**: الأرض المنخفضة التي تمتد علي جانبي النهر.
4. **شبكة التصريف المائي:** هي جميع القنوات المائية للنهر : شجري – متشابك – مستطيل - حلقي

س- عدد دو ر الأنها ر في تشكيل سطح الأرض؟ تقوم بنحت الصخور – ثم حفر الأودية وتوسعيها - ثم نقل الرواسب والإرساب

س- ما هي أشكال الجليد؟

1. **الجليد: هو تراكم الثلج في طبقات سميكة دون إذابة بسبب انخفاض الحرارة دون التجمد.**
2. **غطاءات جليدية: هي مناطق واسعة يغطيها الجليد مثل قارة انتاركتيكا.**
3. **الثلاجات أو الأنهار الجليدية: أنهار تخرج من حقل جليدي ويسير حتى خط الثلج الدائم.**
4. **حقل الثلج: مساحة كبيرة تحيط بها القمم والمرتفعات تجمع فيها الثلوج.**

س- أذكر دور الجليد في تشكيل سطح الأرض؟

1.الجليد المتحرك 2. النحت بفعل الجليد عن طريق - تفتيت الصخور في قاع الوادي - تأكل الصخور أسفل النهر الجليدي

س- علل حدوث الامواج؟ تحدث نتيجة هبوط الرياح والمد والجزر والحركات الزلزالية

أكبر الحركات المائية تأثيرا على السواحل هي الأمواج

س- عدد أهم المظاهر الناتجة عن النحت بفعل الأمواج؟

1. **الجروف البحرية:** هي الحافة الصخرية التي تشرف علي البحر مباشرة ب انحدار شديد
2. **الكهوف البحرية:** تنشأ نتيجة اصطدام الأمواج بنقاط الضعف في الصخور فتتهشم الصخور مكونه الكهوف
3. **الأقواس البحرية:** عبارة عن فجوات أو فتحات محفورة في الجرف الصخري مثل صخرة الروشة في بيروت.
4. **المسلات البحرية:** أعمدة صخرية ناتئة كجزر في البحر تنشأ نتيجة اختلال أسقف الأقواس البحرية وانهياره

س- عدد أنوا ع المياه الجوفية؟

1. **مياه جوفية عذبة:** مصدرها الأمطار أو الثلوج الذائبة
2. **مياه جوفية معدنية:** مياه حارة مصاحبة للبراكين
3. **مياه جوفية مالحة:** مصدرها البحار والمحيطات

س/ أ ذكر الشروط الطبيعية لتوافر المياه الجوفية؟

أ- درجة مسامية التكوينات الصخرية ب- درجة نفاذية التكوينات الصخرية.

س- ما هي مظاهر المياه الجوفية؟

1. **الآبار العادية** هي التي تحفر في الصخور بغرض الوصول إلي خ ازن الماء الجوفي
2. **الآبار ا لارتوازية:** وهي المياه الجوفية التي يحصل عليها الإنسان عن طريق حفر الآبار.
3. **الينابيع:** هي تدفق المياه بصورة طبيعية من باطن الأرض.
4. **النافورات (الجيزر):** تدفق المياه من بين الصخور الساخنة عبر الشقوق مثل نافورات أيسلندا.
5. **الينابيع الحارة:** هي أحواض مليئة بالمياه تغلي في هدوء واستمرار.

عدد أهم الظواهر الجيومورفولوجية المرتبطة بالمياه الجوفية؟

* الكارست بفعل الإذابة والتأثير الكيميائي على الصخور الجيرية -الأنهار الجوفية- الكهوف الجوفية

صفوة معلمي الكويت

علم الاقتصاد

س . علل أهمية علم الاقتصاد؟

1. يعُتبر محور مهم وأساسي للحياة وللأفراد
2. يسُعى إلى إ يجُاد الحلول المناسبة والممكنة التي تتوافق مع إمكانيات المجتمع وقدارته
3. تحقق العدالة بين أفراد المجتمع لتساعد إلي ازدهار الدولة وتقدمها بجميع الجوانب الاقتصادية

الحاجات والنشاط الاقتصادي

عرف الحاجة: هي رغبات الفرد في سبيل الحصول على السلعة أو الخدمة .

س . فرق بين الآتي؟

المقارنة	السلعة	الخدمة
التعريف	كل شيءً مادي ملموس حسيا أي أن له حجم وملمس ووزن حُصل عليه الفرد بعد شراءه	كل شيءً معنوي غيرٌ ملموس حُصل عليه الفرد وينتفع منه بعد شراءه
أمثلة	المنزل – السيارة – الدواء – الغذاء -	الأمن – التعليم – التوصيل - التمريض

س/ عد د خصائص الحاجة الاقتصادية

– متعددة - متزايدة - أساس النشاط الاقتصادي



س عرف النشاط الاقتصادي

هي عملية إنتاج وتبادل السلع والخدمات بين البائع والمشترى

س/ عد د مراحل النشاط الاقتصاد ي

مرحلة الموا رد الاقتصاديةٌ ← مرحلة الإنتاج ← مرحلة السلع والخدمات.

س/ عرف مرحلة الموارد الاقتصادية: هي العناصر التي تستخدم لإنتاج السلع والخدمات في المجتمع

س / قارن بين التالي:

المقارنة	الأرض	العمل	أرس المال	المنظم
التعريف	كل ما وهبه الله عز وجل وليس للإنسان دخل فيه	كل مجهود بشري يقوم به الإنسان	الآلات والأموال التي تنفق لإنتاج السلع والخدمات	الشخص الذي يقوم بتأليف عملية الإنتاج
أمثلة	الثروات المعدنية – المياه الغابات	العامل	الآلات والمعدات	اختيار الموقع الخاص بالمشروع

عرف مرحلة العملية الإنتاجية

هي المرحلة التي يتم فيها مزج الموارد الاقتصادية (عناصر الإنتاج) المطلوبة في إنتاج سلعة أو خدمة

عرف مرحلة السلع والخدمات هي المرحلة التي تم بها إنتاج السلع والخدمات بشكلها النهائي

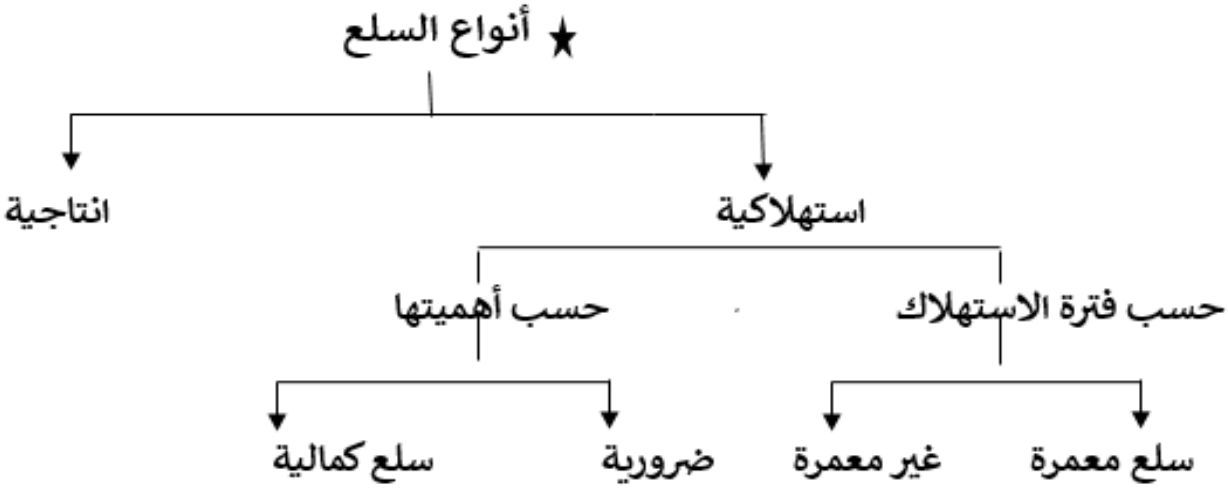

س / فرق بين كل من التالي:

السلع الاستهلاكية	السلع الإنتاجية
هي السلع التي يسُتخدمها الفرد مباشرةً لإشباع حاجاته	هي السلع التي تستخدمها الشركات والمؤسسات لزيادة قدرتها الإنتاج لإنتاج سلع أو خدمات جديدًة.

س / فرق بين أنواع السلع الاستهلاكية:

سلع استهلاكية حسب فترة الاستهلاك		سلع استهلاكية حسب أهميتها	
سلع استهلاكية المعمرة	سلع استهلاكية غيرٌ المعمرة	سلع استهلاكية الضرورية	سلع استهلاكية كمالية
السلع التي يسُتطيعٌ الفرد من استخدامها لفترة طويلة من الزمن	السلع التي لا يسٌ تطيع الفرد من استخدامها لفترة طويلة من الزمن	السلع التي لا يسُتطيع الفرد الاستغناء عنها مقارنة بالسلع الأخرى.	السلع التي يسُتطيع الفرد التقليل أو التوقف عن استهلاكها مقارنة بالسلع الأخرى
مثال الالكترونيات والسيارات	**مثال المأكل والمشرب والدواء**	**مثال الغذاء والدواء والملابس**	**مثال: المجوهرات - الألعاب الالكترونية**

صفوة معلمي الكويت

أولا: مفاهيم في الاقتصاد

س/ عدد أهداف الاقتصاد

1. **تحسين الكفاءة الإنتاجية**

بغرض تحسين مستوى المعيشة للأفراد وتحقيق الرفاهية الاقتصادية والاجتماعية

2. **إنتاج السلع والخدمات التي يحُتاجها المجتمع** هناك بعض الدول أو المجتمعات تركز على إنتاج سلع وخدمات لا يحُتاجها المجتمع على حساب السلع الأساسية، على سبيل المثال قيام الدولة بالإفراط في إنتاج سلع حربية على حساب السلع الزراعية
3. **التوزيع العادل للدخل** على أساس تكافؤ الفرص، والحصول على عائد الإنتاج العادل عن طريقٌ توزيعٌ الدخل مقابل الجهد والعمل المبذول

عرف علم الاقتصاد أحد العلوم الاجتماعية الذي يدُرس سلوك الإنسان بغرض الوصول لإشباع حاجاته المتعددة والمتزايدٌ ة في ظل وجود موارد اقتصاديةٌ محدودة

ثانيا: علاقة علم الاقتصاد بالعلوم الأخرى

س. ما هي علاقة علم الاقتصاد بالعلوم الآتية؟

العلم	العلاقة مع علم الاقتصاد
علم الاجتماع	تكمن عاد ة ب وجود مشاكل اجتماعية كالجرائم والتفكك الأسري والسرقة وغيرها ترجع غالبا إلى وجود مشاكل اقتصادية.
علم السياسة	عادة ما ترتبط بالثورات السياسية والأوضاع الاقتصادية، لذلك فإن السياسيين صانعي القرار يضُعون غالبا الاعتبارات الاقتصادية عند اتخاذ قرار سياسي معين
علم الجغرافيا	يهُتم علم الاقتصاد بدارسة كثير من المجالات كالنظم الاقتصادية ودارسة السوق والعرض والطلب والقيمة والسياسات الاقتصاديةٌ، وترتبط تلك المجالات بعلم **الجغرافيا الاقتصادية**
علم الإحصاء	غالبا ما يحُتاج تحليل الظواهر والمشاكل الاقتصاديةٌ المختلفة استخدام الأساليب والطرق والأدوات الإحصائية

تعريف المشكلة الاقتصادية

هي درة نسبية للموارد الاقتصاديةٌ المتاحة بسبب حاجات الأفراد المتزايدة في ظل محدوديةٌ الموارد الاقتصادية

ثالثا: خصائص المشكلة الاقتصادية

س: عدد خصائص المشكلة الاقتصادية؟

1. **الندرة:** تتميز بوجود موارد اقتصادية محدودة تستخدم لإنتاج كمية من السلع والخدمات تقل عن كمية السلع والخدمات التي يرغب الأف أرد من استهلاكها
2. **الاختيار:** عدم قدرة المجتمع على توظيف جميع موارده الاقتصادية المتاحة لإنتاج جميع السلع والخدمات من بين عدة بدائل لإنتاجها بحسب أهميتها للمجتمع
3. **التضحية:** فإن على الأفراد اختيار سلع وخدمات محددة مقابل التضحية بسلع وخدمات أخرى

المشكلة الاقتصاديةٌ والنظم الاقتصادية

عرف الأنظمة الاقتصادية: هي مجموعة التشريعات والأفكار التي تبنتها المجتمعات المختلفة خلال فترات تاريخية متفاوتة في سبيل تقديمٌ معالجة المشكلة الاقتصادية

س: ما هي أسس اختلاف النظم الاقتصاديةٌ؟

1. ملكية الموارد الاقتصاديةٌ سواء أكانت ملكية خاصة أو عامة.
2. دور الدولة بالاقتصاد.
3. تحديد أسعار السلع والخدمات

مراجعات غير مخصصة للبيع
المصدر
الكتاب المدرسي
وزارة التربية / الكويت
طبعة
2027/2026م
خاصة بطلبة مدارس التميز النموذجية

قارن بين كل من:

مجال المقارنة	اقتصاديات السوق	اقتصاديات التخطيط المركزي
الخصائص	1. الحرية الاقتصادية - التملك 2. ممارسة النشاط الاقتصادي الذي يرغب به	1. الدولة تقوم بالتخطيط الاقتصادي الشامل 2. ملكية الدولة لأدوات الإنتاج
أبرز المفكرين	**ادم سميث**	**كارل ماركس ـ فردريك انجلز**
أهم الدول	الولايات المتحدة – اليابان – كوريا الجنوبية	الاتحاد السوفيتي سابقا – الصين – بولندا

س: ما هو نظام الاقتصاد المختلط؟

هو نظام لجأ ت إليه كثير من الدول لتلافي عيوب نظام اقتصاديات السوق ونظام اقتصاديات التخطيط المركزي ويجمع بين خصائص كلا النظامين

س: قارن بين أساليب الأنظمة الاقتصادية لحل المشكلة الاقتصادية ؟

اقتصاديات السوق	اقتصاديات التخطيط المركزي	النظام المختلط	النظام الاسلامي
الملكية خاصة	عامة	مختلط	مختلط
دور الحكومة اشرافي لسن القوانين	مركزي لاتخاذ القرار	مختلط	مختلط
تحديد الأسعار حسب العرض	الحكومة	مختلط	مختلط

الأسواق

س: أذكر أهم مكونات السوق؟

1- **البائـع:** هو الشخص أو الجهة التي ل ديها سلعه أو خدمه يرغب ببيعها مقابل سعر معين

2- **المشـتري:** هو الشخص أو الجهة التي ترغب بشراء سلعة أو خدمة بمقابل مادي

س: أذكر أهم أنواع الأسواق في العالم؟

مجال المقارنة	سوق المنافسة الكاملة	سوق الاحتكار	سوق المنافسة الاحتكارية	سوق احتكار القلة
عدد المنتجين	عدد كبير من البائعين والمشترين للسلعة	وجود بائع وحي د في السوق.	كثرة عدد البائعين والمشترين	عدد البائعين في هذا السوق قليل
نوع الإنتاج	تجانس السلعة في هذا السوق	السلعة في هذا السوق وحيدة وليس لها بدائل قريبة	عدم تطابق السلع، تختلف في الشكل والنوعية والجود ة	السلع بدائل قريبة جدا لبعضها البعض
التحكم في السعر	المنتج (البائع) الذي لا يتحكم بالسعر في هذا السوق	البائع (المحتكر) في هذا السوق هو من يتحكم بالسعر	للبائع القدرة على التحكم في السعر	قرارات المتنافسين في هذا السوق تؤثر على بعضهم البع ض
حرية دخول السوق	حرية الدخول إلى السوق والخروج منه	وجود عوائق كثيرة تمنع المنافسين من دخول السوق	حرية دخول وخروج البائعين من السوق	قلة المنافسين في هذا السوق
أمثلة	الأكثر ندرة في الواقع العملي	عندما يكُون هناك منتج (بائع) واحد في السوق.	خليط بين سوق المنافسة الكاملة والاحتكار	الأكثر شيوعا بعد سوق المنافسة الاحتكارية.

رابعا: الطلب

الطلب هو الاسم الاقتصاد ي للمشتر ي أحد أهم مكونا ت السوق والاقتصاد بشكل عام.

1- قانون الطلب

وجو د علاقة عكسية بين الكمية المطلوبة للسلعة وسعرها مع ثبات العوامل الأخرى والتي تسمى بالاقتصاد محددا ت الطلب

س2 - أذكر أهم محددا ت الطلب؟

1- **الذوق** هو تفضيل المستهلكين لسلعة ما

2- **الدخل** يرْتبط الدخل بشكل مباشر بما نشتريه أو نطلبه من السلع

3- **أسعار السلع الأخرى** السلع البديلة والمكملة

4- **توقعات الأسعار** توقعات ارتفاع الأسعار في المستقبل ستزيد الطلب اليوم والتوقعات بانخفاضها ستقلل الطلب اليوم

س3 قارن بين ما يلي:

السلعة البديلة	السلع المكملة
هي السلعة ال تي تحقق عند شرائها إلى حد ما نفس درجة الإشباع التي نحصل عليها من شراء السلعة الأخرى. **مثال: الهواتف النقالة الذكية والمواد الغذائية**	هي السلع التي لا يمكن استهلاكهما إلا معا **مثال: الهاتف النقال وشريحة الاتصال**

4 – جدول الطلب مثال شراء كمية من التفاح

الأسبوع	السعر	الكميات المطلوبة
الأول	1 دينار	10
الثاني	2 دينار	9
الثالث	3 دينار	8
الرابع	4 دينار	7
الخامس	5 دينار	6

جدول الطلب: يبين الكميات المطلوبة من سلعة معينة عند مستويات مختلفة من الأسعار

منحني الطلب

رسم بياني في شكل منحنى يوُضح العلاقة بين السعر والكمية

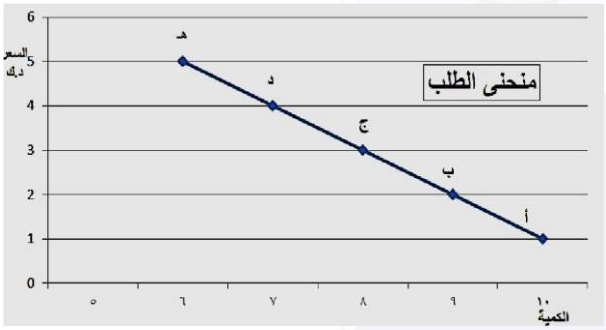

خامسا: العرض

عرف العرض

الاسم الاقتصادي (للمنتج)، وهو يبُين الكميات المختلفة التي يرغب المنتج ببيعها عند كل مستوى سعري

عرف قانون العرض

وجود علاقة طردية بين السعر والكمية المعروضة بافتراض ثبات العوامل الأخرى

س: -أذكر أهم محددات العرض؟

1. **تكاليف عناصر الإنتاج** ارتفاع تكاليف عناصر الإنتاج مع ثبات سعر السلعة سيعمل المنتج إلى تخفيضٌ إنتاجه من السلعة
2. **التطور التقني** فكلما تطورت أساليب الإنتاج، يصُبح بإمكان زيادة إنتاجه بتكاليف أقل وبفترة زمنية أقصر
3. **الدعم والضرائب** فرض الدولة ضرائب على بعض السلع بهدف التقليل من استهلاكها أو إنتاجها،

جدول العرض على مثال شراء كمية من التفاح

الأسبوع	السعر	الكميات المعروضة
الأو ل	5 دينا ر	10
الثاني	4 دينا ر	9
الثالث	3 دينا ر	8
الرابع	2 دينا ر	7
الخامس	1 دينا ر	6

جدول العرض يبيِّن الكميات المعروضة من سلعة معينة عند مستويات مختلفة من الأسعار

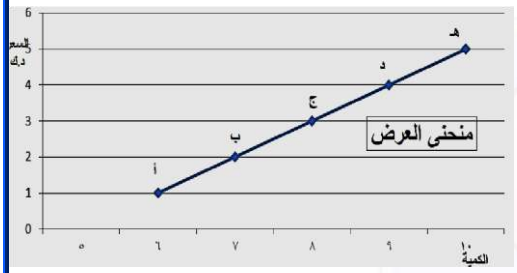

منحنى العرض رسم بياني في شكل منحنى يوّضح العلاقة بين السعر والكمية يُعْكس العلاقة الطردية بين الكمية المعروضة والسعر، كما أنه يبين لنا الكميات المعروضة المختلفة عند مستويات مختلفة الأسعار

سادسا: توازن السوق

الأسبوع	السعر	الكميات المطلوبة	الكميات المعروضة
الثاني	4 دينار	7	9
الثالث	**3 دينار**	**8**	**8**
الرابع	2 دينار	9	7
الخامس	1 دينار	10	6

س: متى يتحقق توازن السوق؟ يتحقق توازن السوق عند السعر الذي تتساوى فيه الكمية المعروضة مع الكمية المطلوبة وعندها فلا يوّجد فائض

توازن السوق وفائض الطلب والعرض

الأسبوع	السعر	الكمية المطلوبة	الكمية المعروضة	السوق
الأول	1 دينا ر	10	6	فائض طلب بمقدار 4 كيلو جرا م
الثاني	2 دينا ر	9	7	فائض طلب بمقدار 2 كيلو جرا م
الثالث	3 دينا ر	8	8	توازن السوق
الرابع	4 دينا ر	7	9	فائض عرض بمقدار 2 كيلو جرام
الخامس	5 دينا ر	6	10	فائض عرض بمقدار 4 كيلو جرام

سابعا: دور الدولة في الاقتصاد

نعم بالتأكيد الدولة التي تنتج سلع وخدمات أكثر هي الأفضل لأن إشباع حاجاتنا يكّون من خلال استهلاك أكبر قدر ممكن من السلع والخدمات، وهذا ما دفع الاقتصاديينٌ لقياس ما سُمى بالناتج المحلي الإجمالي

س: ما المقصود بالناتج المحلي الإجمالي؟

هو مجموع قيم ما ينُتج في دولة معينة من سلع نهائية وخدمات خلال مدة زمنية محددة عادة سنة واحدة

س: عدد طرق قياس الناتج الإجمالي المحلي؟

- طريقة الإنتاج او القيمة المضافة
- طريقة الإنفاق

أولا : طريقة الإنتاج أو القيمة المضافة

■ تعتمد هذه الطريقة على حساب الناتج المحلي الإجمالي (GDP) بأسعار السوق، و تم احتساب الناتج المحلي الإجمالي لسنة ما مثلا ، باحتساب القيمة السوقية لمجموع السلع والخدمات النهائية **مثال -: في عام معين المجتمع ينُتج سلعتينٌ فقط (السلعة أ ، والسلعة ب)**

كان سعر السلعة (أ) يقدر في 40 دينار ، وسعر السلعة (ب) يقُدر في 0 2 د ينُار، وتم إنتاج 2000

■ وحدة من السلعة (أ) ، و 00 5 وحدة من السلعة (ب)

■ الناتج الإجمالي المحلي= 40 ضرب 2000 + 20 ضرب 500 = 90000 دينار

ثانيا - طريقة الإنفاق

■ تتلخص هذه الطريقة بأن نقوم باحتساب كل ما ينفق داخل الدولة خلال سنة واحدة من قبل كل القطاعات المختلفة بالدولة

صفوة معلمي الكويت
مراجعات غير مخصصة للبيع
المصدر
الكتاب المدرسي
وزارة التربية / الكويت
طبعة
2027/2026م
خاصة بطلبة مدارس التميز النموذجية

س: أذكر اهم القطاعات التي تستخدم طريقة الإنفاق؟

القطاع العائلي	**الإنفاق الاستهلاكي**	أهم وأكبر هذه القطاعات وهو ما نقوم نحن كمستهلكين بشرائه من سلع وخدمات
القطاع الحكومي	**الإنفاق الحكومي**	ما تقوم الحكومة بإنفاقه من بناء مدارس ومستشفيات وطرق وغيرها
قطاع الأعمال	**الإنفاق الاستثماري**	هو مجموع ما ينفقه قطاع الأعمال والاستثمار والقطاعات التجارية الأخرى داخل الدولة
القطاع الخارجي	**الصادرات**	ما نبيعه من سلع وخدمات للدول الأخرى كالنفط على سبيل المثال

س /كيف يتم حساب الناتج المحلي الإجمال GDP =

(الإنفاق الاستهلاكي + الإنفاق الحكومي+ الإنفاق الاستثماري + الصاد ارت - الواردات).

طرق قياس الناتج الإجمالي المحلي

- متوسط دخل الفر د ÷ حاصل قسمة الناتج المحلي الإجمالي على عدد السكان في الدولة

وجه المقارنة	الدولة الأولى	الدولة الثانية
الناتج المحلي الإجمالي	3 مليار دولار أمريكي	2 مليار دولار أمريكي
عدد السكان	3 مليون نسمة	1 مليون نسمة
متوسط دخل الفرد	1000 دولار أمريكي	2000 دولار أمريكي

ثامنا: الظواهر الاقتصادية

س: ما المقصود بالبطالة؟

مجموع الأشخاص الراغبين بالحصول على وظيفة والقادرين على العمل ويقومون بالبحث عن الوظيفة

حساب معدل البطالة؟ يتم احتسابه كنسبة مئوية، بقسمة عدد العاطلين عن العمل على مجموع قوة العمل

س: ما المقصود بقوة العمل؟ كل من هم بين عمر 11 عاما و70 عاما ولد يهم القدرة والرغبة بالعمل

س/ احسب معدل البطالة = عدد العاطلين عن العمل ÷ قوة العمل × 100

ما المقصود بالتضخم؟ الارتفاع المستمر في المستوى العام للأسعار للسلع والخدمات في فترة زمنية محددة

س: عرف النمو الاقتصادي؟ النسبة المئوية للزيادة في الناتج المحلي الإجمالي

س/ لاحظ الجدول التالي ثم نفذ المطلوب منك

السنة	الناتج المحلي الإجمالي
2014 م	2000000000 دولار أمريكي
2015 م	2200000000 دولار أمريكي

س / أحسب معدل النمو الاقتصادي=

الناتج المحلي للسنة الحالية - الناتج المحلي للسنة الماضية ÷ الناتج المحلي للسنة الحالية × 100

معدل النمو الاقتصادي = **1,1 %**

تفاعل الدولة مع الظواهر الاقتصادية

- **ففي حال تراجع مستوى الناتج المحلي الإجمالي، أو ما نطلق عليه الانكماش الاقتصادي**
- **مشكلة تزايد معدلات البطالة:** فتقوم الحكومة بدورها في رفع الناتج المحلي الإجمالي من خلال زيادة إنفاقها الحكومي، وبالتالي يرتفع الناتج المحلي الإجمالي ويكون هناك فرص وظيفية جديدة ويرتفع معها الإنفاق الاستهلاكي ويرتفع الناتج المحلي الإجمالي مرة أخرى
- **: علل ما يلي: أهمية النمو الاقتصادي؟**

✓ حل مشكلتي البطالة والانكماش الاقتصادي

✓ توافر فرص وظيفيةٌ أكثر للشباب الذينٌ يدٌخلون سوق العمل عاما بعد عام

✓ يزٌيد من المستوى المعيشي للأفراد في الاقتصاد

س/ ما هي القرارات التي يجب أن يتخذها صانع السياسة الاقتصادية لتحقيق النمو الاقتصادي

❖ زيادة إنفاق القطاعات المختلفة أو بعضها.

❖ تحفيزٌ الاستثمار ودفع القطاع الخاص لزيادة إنفاقه الاستثماري ستحقق النمو.

مراجعات غير مخصصة للبيع
المصدر
الكتاب المدرسي
وزارة التربية / الكويت
طبعة
2027/2026م
خاصة بطلبة مدارس التميز النموذجية

تاسعا: النمو والتنمية الاقتصادية

س: قارن بين الآتي: -

التنمية الاقتصادية	النمو الاقتصادي
مجموع السياسات التي تتخذها الحكومة والتي تؤدي إلى زيادة النمو الاقتصادي بدافع ذاتي.	النمو الاقتصادي يرٌكز فقط على التغيرات الكميةٌ في مكونات الناتج المحلي الإجمالي دون تغير بالضرورة في كل أو بعض النواحي المعيشية والتعليمية

س/ ما هي القرارات والسياسة الحكومية لتحقيق التنمية الاقتصادية

❖ رفع مستوى التعليم والصحة والحريات

❖ المحافظة على البيئة

عندما يكون تعليم أبنائكم
اهتمامكم الأول في الحياة

مدرسة التميز النموذجية
ابتدائي - متوسط - ثانوي

قنواتنا على تليجرام

