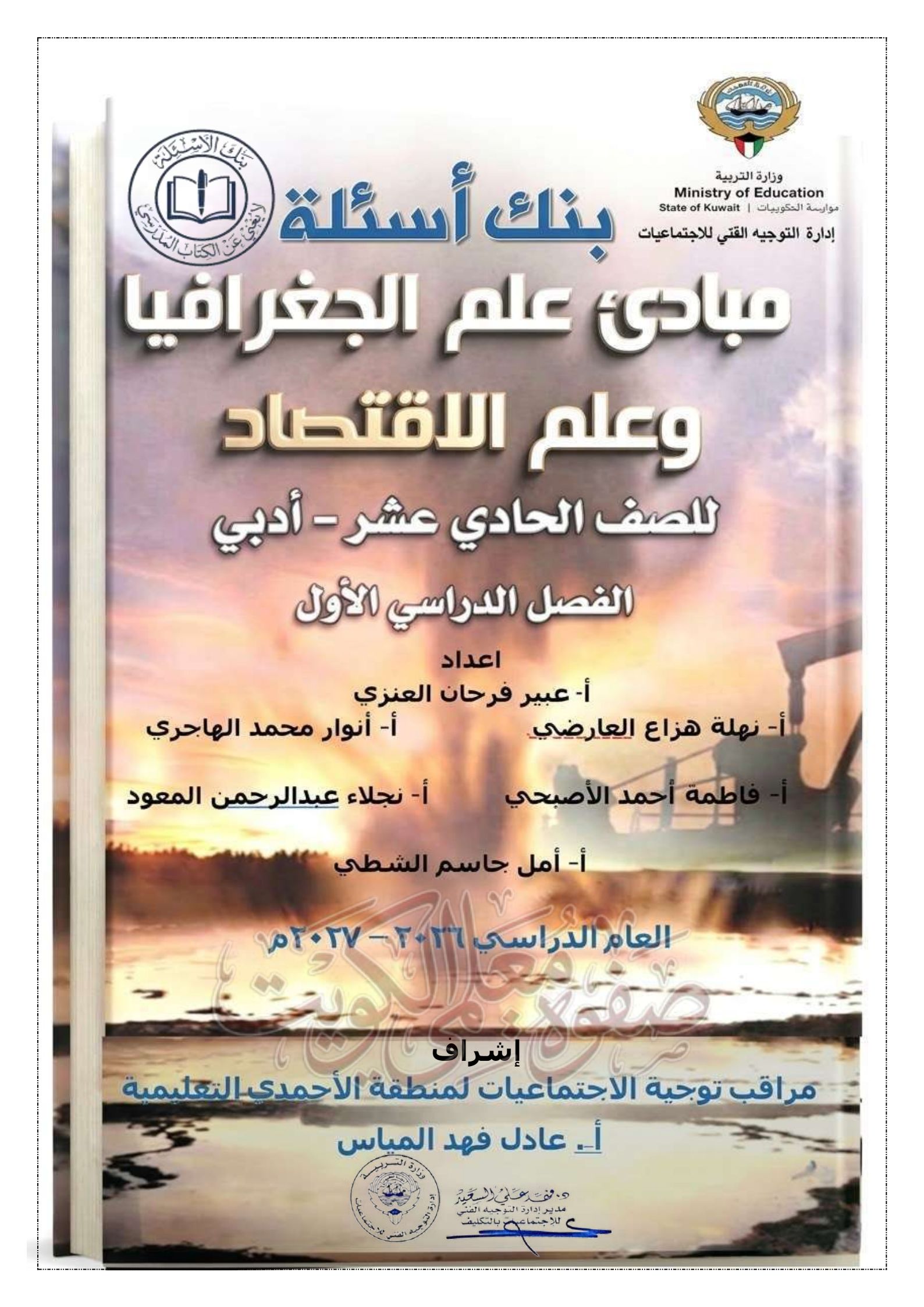
وزارة التربية
Ministry of Education
State of Kuwait | موارسة الحكوميات
إدارة التوجيه الفني للاجتماعيات
بنك أسئلة
بنك الأسئلة
لايغني عن الكتاب المدرسي
مبادئ علم الجغرافيا
وعلم الاقتصاد
للصف الحادي عشر - أدبي
الفصل الدراسي الأول
اعداد
أ- عبير فرحان العنزي
أ- نهلة هزاع العارضي
أ- أنوار محمد الهاجري
أ- فاطمة أحمد الأصبحي
أ- نجلاء عبدالرحمن المعود
أ- أمل جاسم الشطي
العام الدراسي ٢٠٢٦ - ٢٠٢٧م
إشراف
مراقب توجية الاجتماعيات لمنطقة الأحمدي التعليمية
أ. عادل فهد المياس
وزارة التربية
إدارة التوجيه الفني للاجتماعيات
د. فهد علي السعيد
مدير إدارة التوجيه الفني
للاجتماعيات بالتكليف

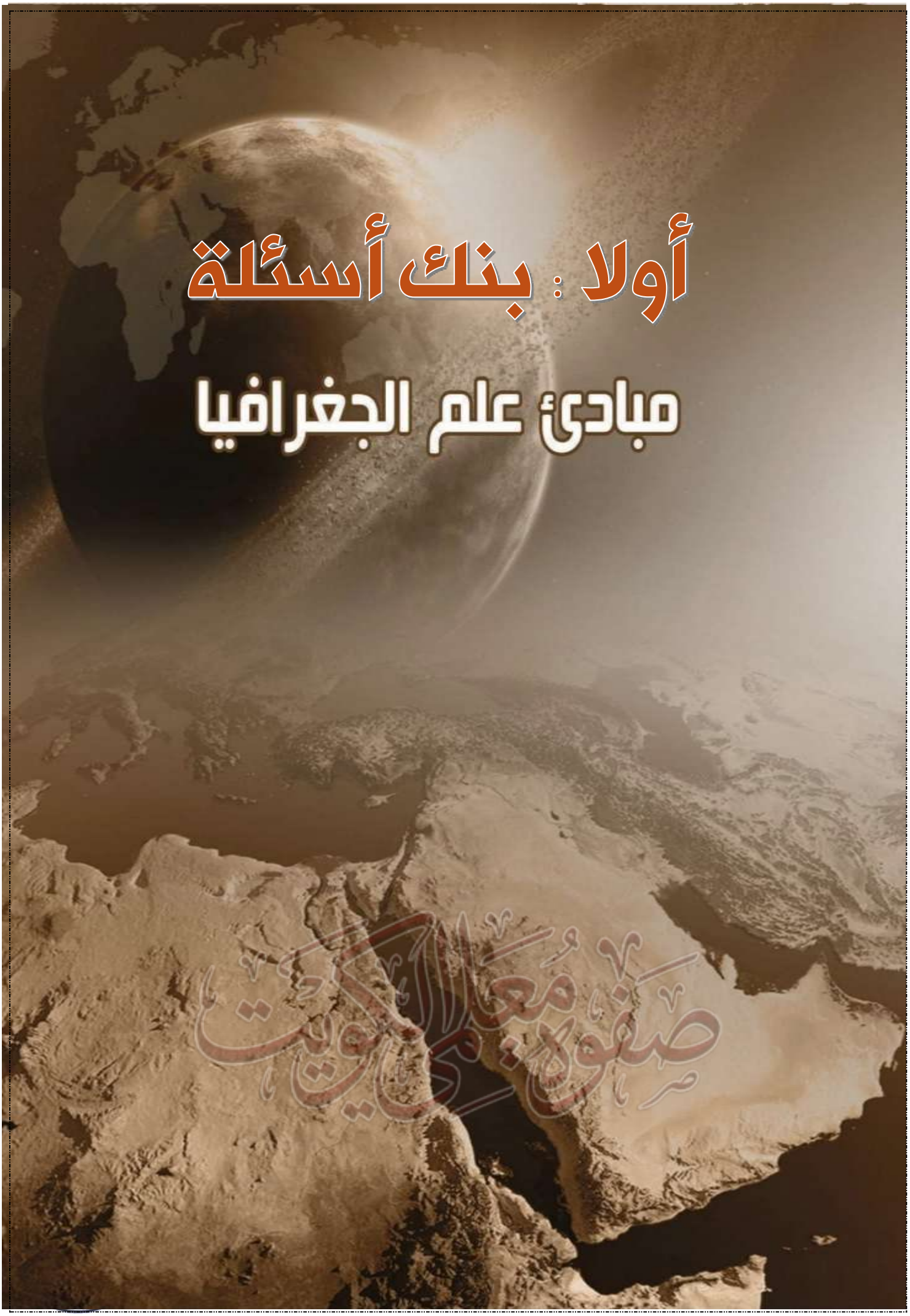
أولا : بنك أسئلة
مبادئ علم الجغرافيا
صفوة المعلمين الكويت

الأسئلة الموضوعية

(أ) لاحظ خريطة العالم أمامك ، ثم استعن بالأرقام التي عليها لإكمال العبارات التالية :

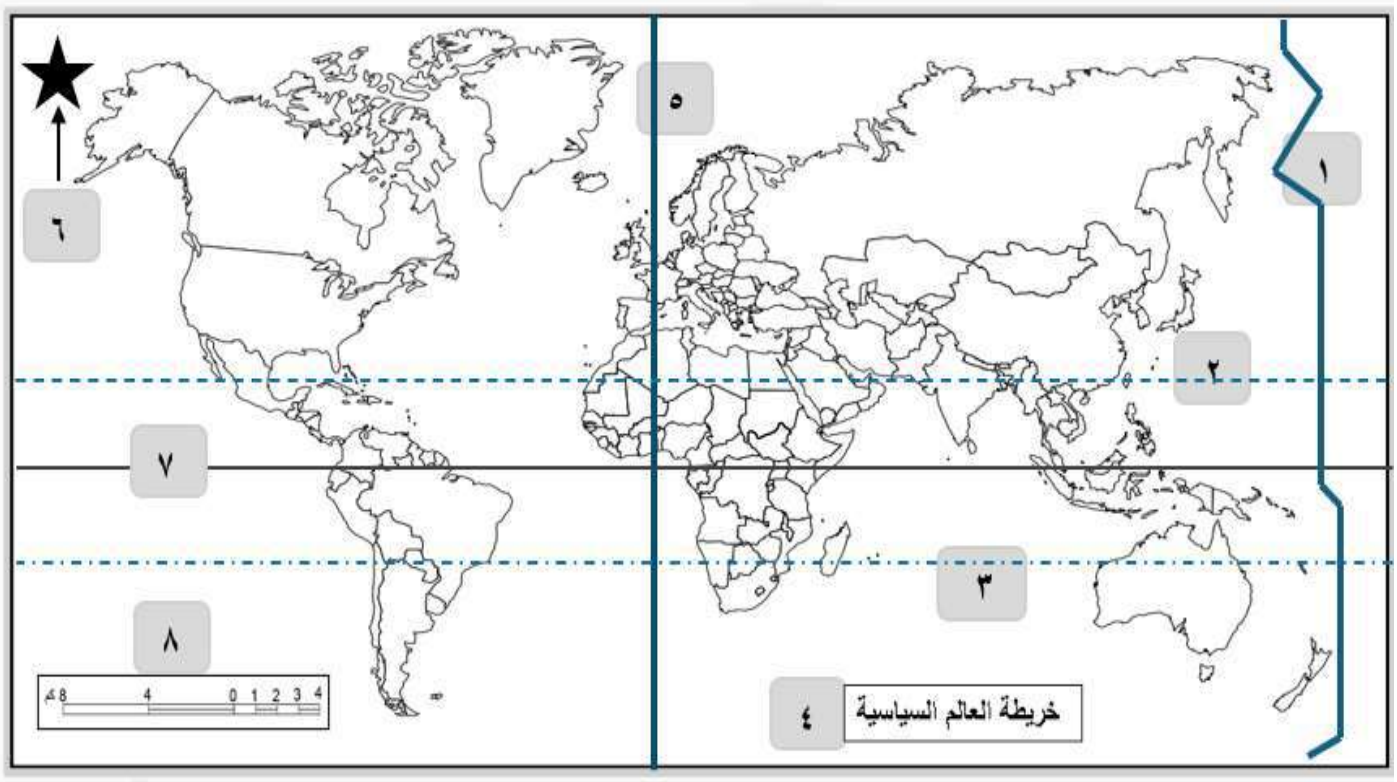

* مدار السرطان يمثلهُ على الخريطة الرقم (٢) صـ ٦٣
* عنوان الخريطة يمثلهُ على الخريطة الرقم (٤) صـ ٣٢
* خط الاستواء على الخريطة يمثلهُ الرقم (٧) صـ ٦٣
* مقياس الرسم الخطي على الخريطة يمثلهُ الرقم (٨) صـ ٣٢
* الشمال الحقيقي (الجغرافي) على الخريطة يمثلهُ الرقم (٦) صـ ٣٣
* خط التاريخ الدولي على الخريطة يمثلهُ الرقم (١) صـ ٦٤
* مدار الجدي يمثلهُ على الخريطة الرقم (٣) صـ ٦٣
* خط جرينتش يمثلهُ على الخريطة الرقم (٥) صـ ٦٤

بنك الأسئلة
لا يغني عن الكتاب المدرسي

تابع / (أ) لاحظ خريطة العالم أمامك ، ثم استعن بالأرقام التي عليها لإكمال العبارات التالية :

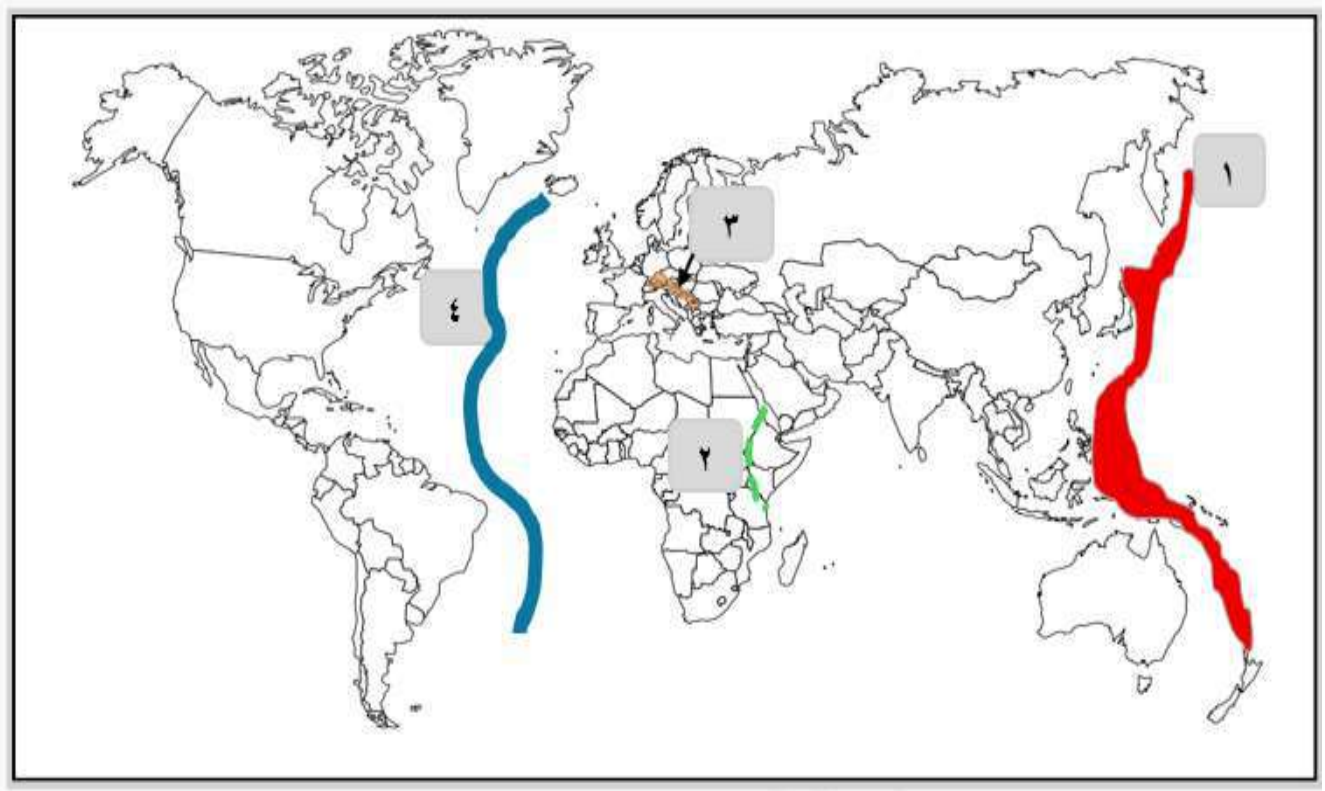

* النطاق الألبي يمثلهُ على الخريطة الرقم (٣) صـ٨٢

* نطاق الاخدود الأفريقي العظيم يمثلهُ على الخريطة الرقم (٢) صـ ٨٢

* نطاق سواحل المحيط الهادي المعروفة بحلقة النار يمثلهُ على الخريطة الرقم (١) صـ ٨٢

* نطاق حافة وسط الأطلنطي يمثلهُ على الخريطة الرقم (٤) صـ ٨٢

صفوة معلمي الكويت

(ب) ضع خطاً تحت البديل الصحيح من بين البدائل التي تلي كل عبارة :

١-العالم الجغرافي الذي قال "أن الجغرافيا لا شيء سوى الإنسان والبيئة": ص٢٣

بيتر كوبن	**فان ريبر**	فون همبولت	كارل ريتر

٢- العلم الذي يختص بدراسة التوزيع الجغرافي للظواهر الطبيعية والبشرية على سطح الأرض :ص ٢٣

الاقتصاد	التاريخ	**الجغرافيا**	السياسة

٣- جغرافية البحار والمحيطات أحد فروع الجغرافيا : ص٢٤

الطبيعية	البشرية	التاريخية	الإقليمية

٤- الجغرافيا التي تهتم بما يحدث خلال الأزمنة القديمة كتطور نشأة المدن أو الدول أو الأقاليم : ص٢٤

الطبيعية	البشرية	**التاريخية**	الإقليمية

٥- أحد فروع الجغرافيا البشرية : ص٢٤

الجغرافيا المناخية	**الجغرافيا الاقتصادية**	الجغرافيا الحيوية	الجيمورفولوجيا

٦- الجغرافيا التي تتضمن دراسة كافة النواحي الجغرافية (العلاقات المكانية للظواهر ، والخصائص الطبيعية والبشرية والاقتصادية) وتطبيقاتها على المستوى العالمي أو الإقليمي أو الوحدات السياسية أو جزء منها : ص٢٥

الطبيعية	البشرية	التاريخية	**الإقليمية**

٧- عملية إسقاط لشبكة خطوط الطول ودوائر العرض من السطح الكروي إلى السطح المستوى للخريطة : ص٣٤

مقياس الرسم	الكتابة	**المسقط**	الاستشعار عن بعد

٨- الخرائط التي تحاول أن تنقل صورة لسطح الأرض بكل ما عليه من مظاهر طبيعية وبشرية حسب ما يسمح به مقياس الرسم : ص ٣٥

العامة	الخاصة	التوزيعات	الركنية

٩- الوحدة الأساسية للكون وهي نظام نجمي يتكون من بلايين النجوم والغبار الكوني :ص ٤٧

الكون	النيازك	السدم	**المجرات**

١٠- سحب كونية تتكون من غازات متأينة ما بين النجوم والغبار وتشكل ١٠ – ١٢ % من كتلة المجرة : ص٤٨

الشهب	**السدم**	المذنبات	الأقمار

١١- أجسام صخرية أو معدنية التركيب متباينة في أشكالها وكتلها وعند دخولها الغلاف الجوي للأرض فإنها تحتك ميكانيكياً مع جزئيات الهواء وترتفع درجة حرارتها بازدياد السرعة : ص٤٨

الشهب	السدم	المذنبات	الأقمار

١٢-أجرام سماوية مظلمة تستمد نورها من انعكاس أشعة الشمس عليها ، وهي تتبع الكواكب : صـ٤٩

الأقمار	الشمس	المذنبات	النجوم

١٣- أجرام سماوية مضيئة تتكون من الغازات والهيدروجين والهيليوم ودرجة حرارتها مرتفعة جداً : ص٤٩

السدم	المذنبات	النيازك	**النجوم**

بنك الأسئلة
لا يغني عن الكتاب المدرسي

تابع / (ب) ضع خطاً تحت البديل الصحيح من بين البدائل التي تلي كل عبارة :

١٤ ـ أشعة شمسية تسبب الضوء عندما تنعكس : ص ٥٤

فوق البنفسجية	حرارية	**ضوئية**	حيوية

١٥ ـ أصغر الكواكب وأقربها الى الشمس في المجموعة الشمسية : ص ٥٤

المريخ	الأرض	**عطارد**	الزهرة

١٦ ـ أكبر كواكب المجموعة الشمسية وخامسها بعداً عن الشمس : ص ٥٦

أورانوس	نبتون	زحل	**المشتري**

١٧ ـ الفصل الذي يسود في نصف الكرة الشمالي عند تعامد الشمس على مدار الجدي بتاريخ ٢١ـ٢٢ ديسمبر : ص ٦٦

الربيع	الصيف	**الشتاء**	الخريف

١٨ ـ المدار الذي تتعامد فيه أشعة الشمس في فصل الصيف في نصف الكرة الشمالي: ص ٦٦

السرطان	الجدى	الاستواء	القطب الشمالي

١٩ ـ وقوع القمر بين الشمس والأرض، بحيث يظهر من الشمس حلقة من الضوء تخفي داخلها القسم الأعظم من قرصها : ص ٦٩

الكسوف الحلقي للشمس	الكسوف الكلي للشمس	الكسوف الجزئي للشمس	خسوف القمر

٢٠ ـ تتكون طبقة السيال من صخور جرانيتية ومن عنصرين هما السيليكا وآخر اسمه : ص ٧٧

الهيدروجين	الكربون	**الألمنيوم**	الماغنيسيوم

٢١ ـ خروج المواد المنصهرة (الماجما) والغازات والأبخرة المحبوسة في جوف الأرض عبر مناطق الضعف الجيولوجي في قشرة الأرض : ص ٨٣

الزلازل	الانهيارات	**البراكين**	الانزلاقات

٢٢ ـ القناة المائية التي تمثل أعمق أجزاء الوادي النهري وتسلكه المياه في جريانها من المنبع الى المصب : ص ٩٣

مجرى النهر	وادي النهر	حوض النهر	شبكة التصريف المائي

(ج) أكمل العبارات التالية بما يناسبها :

١ ـ العهد الذي ظهر فيه مصطلح الجغرافيا يسمى الإغريقي صـ ٢٣

٢ ـ مجموع العلوم الجغرافية الإنسانية التي تختص بدراسة النشاط البشري وتوزيع الانسان على سطح الأرض يسمى الجغرافيا البشرية . صـ ٢٤

٣ ـ رسم أو صورة توضيحية مصغرة لمظاهر سطح الأرض الكروي أو جزء منه ممثلة على لوحة مستوية بمقياس رسم معين يسمى الخريطة . صـ ٣١

٤ ـ الوزارة المسئولة عن إصدار المجموعة الإحصائية السنوية تسمى التخطيط . صـ٣٩

٥ ـ مجموع الموجودات الكائنة من مختلف صور المادة والطاقة والزمان والمكان يسمى الكون . صـ ٤٧

٦ ـ المجرة التي تحيط بنا وتقع ضمنها المجموعة الشمسية تسمى درب التبانة . صـ ٤٩

٧ ـ أقرب ثاني كوكب من الشمس وتعرف بتوأم الأرض يسمى الزهرة . ص٥٤

٨ ـ الخط الوهمي الذي يصل بين القطبين الشمالي والجنوبي للأرض يسمى المحور . ص ٦١

بنك الأسئلة
لا يغني عن الكتاب المدرسي

تابع / (ج) أكمل العبارات التالية بما يناسبها :

٩- الشكل المقابل يمثل ظاهرة فلكية تسمى خسوف القمر .
صـ ٦٩

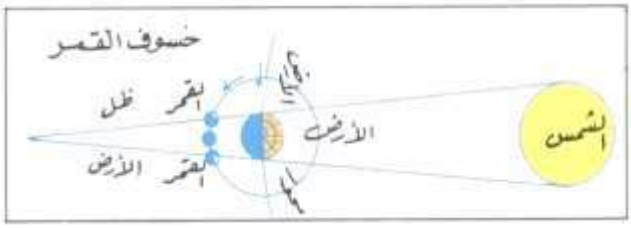

١٠- إحدى طبقات الغلاف الصخري تتكون من صخور جرانيتية ، تسمى السيال السطحية . صـ٧٧
١١- جهاز رصد الزلازل اسمهُ السيموجراف . صـ ٨٠
١٢- انثناء الطبقات الصخرية إما إلى أعلى وإما إلى أسفل في الطبقات الصخرية الرسوبية نتيجة لتعرضها لضغط جانبي تسمى الالتواءات . صـ ٨٥
١٣- حدوث كسر في الطبقات الصخرية يصحبهُ تحرك أو زحزحة بعض أجزاء هذه الطبقات إما رأسياً أو أفقياً يسمى الانكسارات (الصدوع) . صـ ٨٧
١٤- مساحة كبيرة تحيط بها القمم والمرتفعات وتتجمع فيها الثلوج فتتراكم وتندمج تسمى حقل الثلج . صـ٩٤
١٥- أقوى الحركات المائية تأثيراً على السواحل تسمى الأمواج . صـ ٩٥
١٦ -أشهر الأقواس البحرية على ساحل بيروت صخرة تسمى الروشة . صـ٩٧

(د) اكتب المفهوم أو المصطلح الدال على كل عبارة مما يلي :

م	المفهوم/ المصطلح	العبارات
١	الجيومورفولوجيا	جغرافية تضاريس سطح الأرض . صـ٢٥
٢	الجغرافيا السياسية	علم يهتم بدراسة المشكلات السياسية وأسباب حدوثها في ظل الظروف البيئية الطبيعية والبشرية والتاريخية . صـ ٢٦
٣	الشمال العام أو الاحداثي	الشمال الذي يوازي خط الطول الأوسط لمسقط الخريطة ويوازي إطارها. صـ ٣٣
٤	التعداد	العملية الكلية لجمع وتصنيف وتبويب المعلومات الديموغرافية والاقتصادية والاجتماعية ونشرها لكل أفراد المجتمع داخل الدولة أو في منطقة جغرافية معينة في فترة زمنية محددة . صـ ٣٩
٥	الاحصائيات الحيوية	البيانات المكملة لبيانات التعداد مثل اعداد المواليد والوفيات وحالات الزواج والطلاق . صـ٣٩
٦	الموسوعات	دائرة معارف تغطي ميادين مختلفة من العلوم والآداب . صـ٤٠
٧	الاستشعار عن بعد	رؤية مالا يرى بالعين المجردة أو هو علم يهدف الى الحصول على معلومات وقياسات عن منطقة أو ظاهرة طبيعية أو بشرية من خلال تحليل معطيات يتم اكتسابها بجهاز لا يلمس هذه الأشياء محل الدراسة لمساً مباشراً . صـ٤١
٨	المجرة	نظام نجمي يتكون من بلايين النجوم والغبار الكوني . ص٤٧

بنك الأسئلة
لا يغني عن الكتاب المدرسي

تابع / (د) اكتب المفهوم أو المصطلح الدال على كل عبارة مما يلي :

م	المفهوم / المصطلح	العبارات
٩	خطوط الطول	أنصاف دوائر عظمى أطوالها ثابتة لا تتغير وتلتقي جميعا عند نقطتي القطبين الشمالي والجنوبي. ص٦٣
١٠	طبقة السيما	طبقة صخرية تلي طبقة السيال تتكون من صخور بازلتية ، وتتألف من عنصري السيليكا والماغنيسيوم . ص٧٧
١١	طبقة السيال السطحية	طبقة صخرية تتكون من صخور جرانيتيه ، وتتألف من خليط عنصري السيليكا والألومنيوم . ص٧٧
١٢	الصخور النارية	هي التي كانت في أول الأمر منصهرة لشدة حرارتها ثم تصلبت إما فوق سطح الأرض أوبين طبقات القشرة أو تحتها. صـ ٧٨
١٣	الانكسارات (الصدوع)	حدوث كسر في الطبقات الصخرية يصحبهُ تحرك أو زحزحة بعض أجزاء هذه الطبقات إما رأسياً أو أفقياً . ص٨٧
١٤	الانكسار المعكوس	ينشأ نتيجة حركات ضاغطة ،حيث يبدو الحائط المعلق وقد تحرك و ارتفع وأصبح مستواه أعلى من مستوى الحائط الأساسي . ص ٨٧
١٥	الانكسار الزاحف	نوع من الانكسارات المعكوسة التي صحبتها حركات وانتقالات صخرية ،فيزحف الحائط المعلق فوق صخور الحائط الأساسي أو لأسفل .ص ٨٧
١٦	الانكسار السلمي أو المدرج	تتعرض المنطقة لمجموعة من الانكسارات المتوازية تؤدي لهبوط الطبقات أو الكتل الصخرية على جوانبها هبوطاً منتظماً على شكل مصاطب أو مدرجات سلمية .ص٨٨
١٧	عمليات التجوية	تأثير العناصر الجوية في تفكك وتفتت وتحلل الصخور في موضعها ويتم ذلك إما ميكانيكياً أو كيميائياً. ص٨٨
١٨	التجوية الميكانيكية	تفكك الصخر وتفتته من دون أن يتغير تركيبه المعدني .ص ٨٩
١٩	التجوية الكيميائية	تفاعل أو تأثر مكونات الصخور المعدنية بالماء أو بخاره أو أحد العناصر الجوية فتتحول مكونات الصخر أو بعضها إلى تراكيب تختلف عن حالتها الأصلية . ص ٨٩
٢٠	المياه الجارية	المجاري النهرية ومجاري السيول والمياه المختلفة من ذوبان الجليد . ص ٩٣
٢١	الجليد	تراكم الثلوج في طبقات سميكة دون اذابة بسبب استمرار انخفاض الحرارة دون نقطة التجمد . صـ ٩٤
٢٢	حقل الثلج	مساحة كبيرة تحيط بها القمم والمرتفعات ، وتتجمع فيها الثلوج فتتراكم وتندمج. صـ٩٤
٢٣	الغطاءات الجليدية	مناطق واسعة جداً على شكل طبقة سميكة تبلغ مئات الأمتار كما هو الحال في القارة القطبية الجنوبية (أنتاركتيكا) وجرينلاند . صـ٩٤
٢٤	الآبار العادية	التي تحفر في الصخور بغرض الوصول إلى خزان الماء الجوفي . صـ٩٨

بنك الأسئلة
لا يغني عن الكتاب المدرسي

(هـ) أكمل المخططات السهمية التالية :

١- الكواكب الصخرية (الداخلية) . ص ٥٤- ٥٥

- عطارد
- الزهرة
- الأرض
- المريخ

٢- الكواكب الغازية (الخارجية) . ص ٥٦- ٥٧

- المشتري
- زحل
- أورانوس
- بلوتو
- نبتون
- xena٣١٣-٢٠٠٣

٣- نتائج دوران الأرض المحورية (حول نفسها) . ص ٦٢

- تعاقب الليل والنهار
- الحركة الظاهرية للشمس
- تغير مسار الأجسام الغازية والسائلة
- الانتفاخ الاستوائي

٤-أهم ظاهرات نحت الرياح بوسيلة البري . ص٩٠

- الجلاميد المصقولة
- اليارداتج
- الأشكال الصخرية
- المنخفضات الصحراوية

٥-أشكال الإرساب بفعل الرياح . ص٩٢

- الكثبان الهلالية
- الكثبان النجمية
- الكثبان الطولية
- التموجات الرملية
- الكثبان الهابطة
- النباك

(و) استنتج اسم الرابط المشترك بين عناصر كل مجموعة في الجدول التالي :

م	العناصر	الرابط المشترك
١	المجرات – السدم – المذنبات	مكونات الكون ص٤٧-٤٨
٢	حرارية – ضوئية – فوق بنفسجية	أنواع الأشعة الشمسية ص٥٤
٣	عطارد – الزهرة – الأرض – المريخ	الكواكب الصخرية (الداخلية) ص٥٤
٤	الاعتدال الربيعي - الانقلاب الصيفي – الاعتدال الخريفي – الانقلاب الشتوي	تتابع الفصول الأربعة – نتائج دورة الأرض السنوية (حول الشمس) ص ٦٧
٥	المقلوب – المتوازي – أحادي الميل (وحيد الطرف)	أنواع الالتواءات ص٨٦
٦	الرياح - المياه الجارية - الجليد	عوامل التعرية صـ٨٩
٧	حوض النهر – مجرى النهر – وادي النهر	النظام النهري ص٩٣
٨	الغطاءات الجليدية -حقل الثلج -الأنهار الجليدية	أشكال الجليد صـ ٩٤
٩	الجروف البحرية – الكهوف البحرية – الاقواس البحرية – المسلات البحرية	الظواهر الناتجة عن النحت بفعل الأمواج صـ٩٦-٩٧
١٠	الآبار – الينابيع – النافورات	أصناف المياه الجوفية صـ ٩٨-٩٩

(ي) صنف ما يلي حسب المطلوب في الجداول أدناه :

١- أنواع الخرائط حسب التوزيعات:

التضاريس - السكان - الثروات الطبيعية - العمران - الجيولوجية ص ٣٦

الخرائط البشرية	الخرائط الطبيعية	الخرائط الاقتصادية
السكان - العمران	التضاريس - الجيولوجية	الثروات الطبيعية

٢- أنواع وأمثلة الصخور :

الرخام - البازلت - الأردواز - الرايوليت ص ٧٨-٧٩

الصخور النارية	الصخور المتحولة
البازلت - الرايوليت	الرخام - الأردواز

التنسيق والإخراج : أ/ عبير العنزي

(ز) ضع عنواناً مناسباً للصور والأشكال الجغرافية التالية:

العنوان	الأشكال والصور
توجيه الخريطة ص٣٣	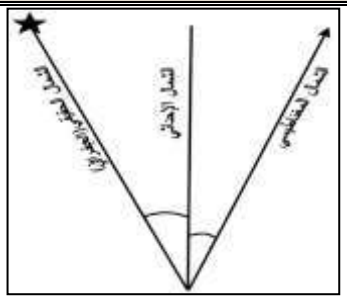
مسقط مولفايدي (مسقط الخريطة) ص٣٤	
المجموعة الشمسية ص٥٣	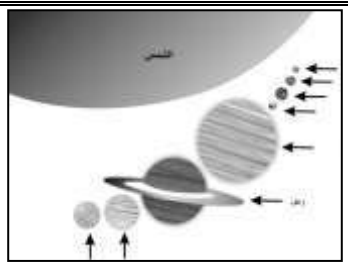
المد المنخفض ص٦٩	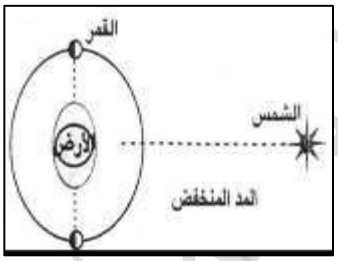
أجزاء المخروط البركاني ص ٨٣	
الانكسار الزاحف ص ٨٧	
كثبان رملية هلالية ص ٩٢	

بنك الأسئلة لا يغني عن الكتاب المدرسي

الأسئلة المقالية

√اكتب عما يلي :

١- استدلال علماء الفلك بأن الكون في حالة اتساع . صـ ٤٧

- قام العلماء بمقارنة صورة قديمة تم التقاطها للكون مع صورة حديثة ووجدوا أن جميع النجوم والكواكب قد تحركت من مكانها ، مما يؤكد على أن نظرية الانفجار العظيم تقوم على الدليل المادي البين وتتفق في معطياتها مع جميع العلوم الثابتة .

٢- أسباب اختلاف العلماء بتسمية بلوتو كوكباً . صـ٥٧

- لصغر حجمه .
- عدم انتظام مداره .

٣- أهمية صخور القشرة الأرضية . صـ ٨٠

- تمثل المواد الخام التي نحتاجها في أعمال البناء (حجر رملي و حجر جيري وزلط (صلبوخ) أسمنت ورخام.
- تعتبر مكامن لبعض مصادر الطاقة كالنفط والغاز الطبيعي والفحم .
- تعتبر مصدراً لبعض المعادن كالفوسفات والأملاح المعدنية والحديد والنحاس والنيكل والذهب والفضة .
- تعتبر مصدراً للمياه الجوفية .

٤-أهم الآثار التخريبية الناتجة عن الزلازل . صـ ٨٣

- قد تتسبب تزحزحاً وانتقالا لأجزاء من قشرة الأرض في الاتجاهين الافقي والرأسي .
- يمكنها ان ترفع أو تخفض أجزاء من قاع البحر أو المناطق الساحلية . -تسبب انهيارات وانزلاقات أرضية .
- الزلازل العنيفة التي تحدث في قيعان المحيطات والبحار تنشأ أمواجاً عاتية تدعى تسونامي وتسبب هذه الأمواج افدح الخسائر في المناطق الساحلية التي تضربها .
- تسبب الزلازل التي تحدث في المناطق الآهلة بالسكان خسائر فادحة في الممتلكات والأرواح .

٥- أثر البراكين على النشاط البشري. صـ ٨٥.

- نتيجة لخصوبة التربة البركانية فاننا نجد أن الانسان يقطن بالقرب من البراكين .
- تخرج من المصهورات البركانية كثير من المعادن المهمة .
- تستغل البراكين النشطة في السياحة .
- تستخدم مياه الينابيع والعيون الحارة في عمليات التدفئة والاستشفاء ومصدر للطاقة الرخيصة النظيفة.

بنك الأسئلة
لا يغني عن الكتاب المدرسي

تابع / اكتب عما يلي :

٦- طرق النقل بفعل الرياح . صـ ٩١

- التعلق : وتتحرك بهذه الطريقة الحبيبات الدقيقة التي تقل أقطارها عن ٠,٢ مم وتظل عالقة في الهواء لمدة طويلة ولمسافات بعيدة وهذا ما يحدث عند انتقال الغبار والأتربة .
- القفز : يتحرك القسم الأكبر من الحبيبات الرملية التي تزيد أقطارها عن ٠,٢ مم مع الهواء بواسطة القفز .
- الزحف السطحي : وتنتقل بها الحبيبات الكبيرة التي لا تستطيع الرياح أن تنقلها بواسطة القفز كالرمال الخشنة والحصى الصغير، فتزحف على السطح وتتقدم في حركة بطيئة في الاتجاه العام للرمال القافزة مع الريح .

٧- دور الأنهار في تشكيل سطح الأرض .صـ ٩٤

- تقوم الأنهار بدور كبير في تشكيل سطح الأرض من حيث نحت الصخور وحفر الأودية و تعميقها وتوسيعها وفي هذا الواقع هو الخطوة الأولى في عمل التعرية النهرية التي ستليها خطوات أخرى تتمثل في نقل الرواسب ثم أخيرا عملية الارساب .

√ عدد ما يلي :

١- مصادر المعلومات الجغرافية. صـ ٣١

- الخرائط - الدراسة الميدانية - الإحصائيات الرسمية
- المؤلفات والمراجع العلمية والدراسات البحثية
- الاستشعار عن بعد وهو يعد من المصادر الحديثة في جمع البيانات والمعلومات

٢- عناصر الخريطة. صـ ٣٢- ٣٤

- عنوان الخريطة - مقياس الرسم - إطار الخريطة
- الرموز والعلامات الاصطلاحية - توجيه الخريطة - الكتابة - المسقط - الخريطة الركنية

٣-الأدوات والأجهزة التي يجب توافرها مع الباحث أثناء إجراء الدراسة الميدانية. صـ ٣٨

- سيارة عادية في المناطق الحضرية أو سيارة جيب قوية في المناطق الصحراوية
- بوصلة حديثة مع جهاز لاسلكي أو تليفون نقال
- منظار تكبير
- شريط قياسات في حدود ٥٠ مترا
- لوحات رسم خشبية صغيرة ٦٠ سم / ٦٠ سم لتثبيت الخرائط عليها أو رسم الكروكيات عليها مجموعة من الأقلام الملونة والأوراق لتدوين الملاحظات والبيانات فيها
- مجموعة أكياس من البلاستيك أو الخيش وعدد من البرطمانات الزجاجية أو البلاستيكية لأخذ العينة إذا لزم الأمر

بنك الأسئلة لا يغني عن الكتاب المدرسي

تابع / عدد ما يلي :

٤- عناصر النظام النهري . صـ٩٣

- حوض النهر - مجرى النهر
- وادي النهر - شبكة التصريف المائي .

٥- دور الجليد في تشكيل سطح الأرض. صـ ٩٥

- الجليد المتحرك : يقوم بدور مهم في تشكيل سطح الأرض كأحد عوامل التعرية المتحركة في المناطق الباردة
- النحت بفعل الجليد يمارس الجليد فعله نحت الصخور عن طريق عمليتين:

أ- تفتيت كتل الصخور في قاع الوادي وجوانبها والتقاطها ودفعها معه

ب- تآكل الصخور أسفل النهر الجليدي عن طريق الجليد وضغطه واحتكاك الصخور التي يحملها النهر الجليدي

٦-الظواهر الناتجة عن النحت بفعل الأمواج. صـ ٩٦-٩٧

- الجروف البحرية - الكهوف البحرية
- الأقواس البحرية - المسلات البحرية

√ اقرأ الفقرات التالية ثم أجب عما يليها من أسئلة :

الفقرة (١)

" نشأ الكون بحدوث الانفجار العظيم ، ثم تكونت المجرات و السدم والشهب والنيازك والمذنبات والأقمار والنجوم وأخذت بالابتعاد عن المركز، كما استدل علماء الفلك بأن الكون في حالة اتساع ، وذلك بمقارنة صور قديمة وأخرى حديثة تم التقاطها للكون ." صـ٤٧

١- عرف ما تحته خط . صـ٤٧

- المجرات هي الوحدة الاساسية للكون وهي نظام نجمي يتكون من بلايين النجوم والغبار الكوني وتوجد المجرات في تجمعات وأشكال مختلفة .

٢- عدد مكونات الكون . صـ ٤٧ - ٤٨ -٤٩

- المجرات - السدم - الشهب
- النيازك - المذنبات - الاقمار - النجوم .

٣- ما اسم المجرة التي تقع ضمنها المجموعة الشمسية ؟ صـ٤٩٥

- مجرة درب التبانة .

التنسيق والإخراج : أ/ عبير العنزي

تابع / اقرأ الفقرات التالية ثم أجب عما يليها من أسئلة :

الفقرة (٢)

" تنشـأ الزلازل نتيجة للاضـطرابات التي تتعرض لها قشـرة الأرض كالتشـققات و التصـدعات نتيجة لتحرك المواد الصخرية المنصهرة وبناء على ذلك يمكن تصنيف الزلازل على أساس القوى التي تسببها الى زلازل تكتونية ، وأخرى صناعية وغيرها ، حيث يتركز حدوثها في مناطق معينة من الكرة الأرضية " . ص٨١

١-عرف ما تحته خط . (درجة) صـ٨٠

- هزات فجائية سريعة تصيب قشرة الأرض في شكل موجات وقد تكون هذه الهزات قوية نشعر بها أو ضعيفة .

٢- اذكر أصناف الزلازل على أساس القوى التي تسببها . صـ ٨١

- الزلازل التكتونية .

- الزلازل الجوفية (البلوتونية) / الزلازل الصناعية .

٣- عدد أهم الآثار التخريبية الناتجة عن الزلازل . صـ٨٣

- تسبب تزحزحا وانتقالا لأجزاء من قشرة الأرض في الاتجاهين الأفقي والرأسي / تسبب انهيارات وانزلاقات أرضية .

- يمكنها أن ترفع أو تخفض أجزاء من قاع البحر أو المناطق الساحلية / خسائر فادحة في الممتلكات و الأرواح .

- الزلازل العنيفة التي تحدث في قيعان المحيطات والبحار تنشـئ أمواجا عاتية تدعى " تسـونامي " وتسـبب أفدح الخسائر في المناطق الساحلية التي تضربها.

الفقرة (٣)

" تعتبر الرياح عاملا مهما من عوامل التعرية وتقوم بتشكيل سطح الأرض في كثير من جهات العالم بصفة عامة والأقاليم الصحراوية وشبه الصحراوية بصفة خاصة ويرجع ذلك إلى ندرة الغطاء النباتي وكثرة المواد التي فتتتها عمليات التجوية فيسهل على الرياح التقاطها وحملها وإرسابها ، وينتج عنها ظاهرات عديدة كالجلاميد واليارداتج " ص٩٠

١- ضع عنوانا مناسبا للفقرة . صـ٩٠

- الرياح كأحد عوامل التعرية - فعل الرياح / أو ما يراه المصحح مناسبا

٢- عدد أهم ظاهرات السطح المرتبطة بفعل الرياح كعامل نحت . صـ ٩٠- ٩١

-الجلاميد المصقولة / اليارداتج

-الأشكال الصخرية - المنخفضات الصحراوية

٣- ارسم مخطط سهميا توضح من خلاله أشكال الإرساب بفعل الرياح . صـ٩٢

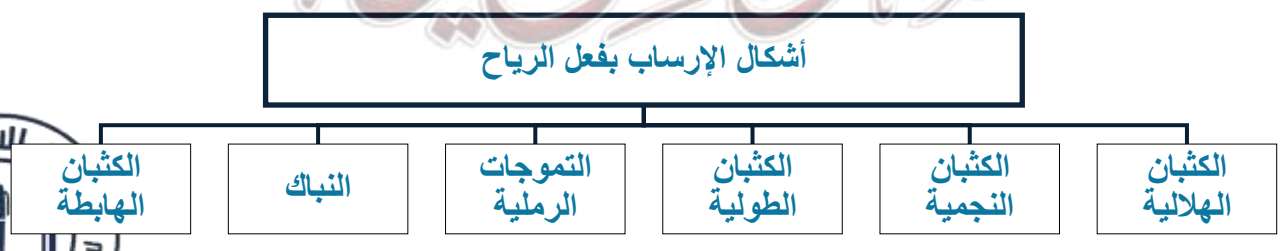

√ علل ما يلي :

١- أهمية علم الجغرافيا . ص٢٣- ٢٤

-عمليات التخطيط الإقليمي - التوجيهات الجغرافية في مجالات عدة - عمليات التخطيط البيئي .

٢-زيادة طول القطر الاستوائي للكرة الأرضية عن القطر القطبي . ص ٦١

- تأثير عمليات دوران الأرض حول نفسها خلال مراحل نمو بدايتها .

٣- للصخور أهمية كبري في حياتنا . صـ ٨٠

- تمثل المواد الخام التي نحتاجها في أعمال البناء / تعتبر مكامن لبعض مصادر الطاقة كالنفط

- تعتبر مصدرا لبعض المعادن كالفوسفات / تعتبر مصدرا للمياه الجوفية .

٤- للزلازل أثار تخريبية على سطح الأرض . صـ ٨١

- قد تسبب تزحزحا وانتقالا لأجزاء من قشرة الأرض / تسبب انهيارات وانزلاقات أرضية

- يمكنها أن ترفع أو تخفض أجزاء من قاع البحر أو المناطق الساحلية

- الزلازل العنيفة التي تحدث في قيعان المحيطات والبحار تنشئ أمواجا عاتية تسمي (تسونامي).

- تسبب الزلازل التي تحدث في المناطق الآهلة بالسكان خسائر فادحة في الممتلكات والأرواح .

٥- للبراكين أثرا كبيرا في النشاط البشري . صـ ٨٥

- نتيجة لخصوبة التربة البركانية فإن الإنسان يقطن بالقرب من البراكين

- تخرج من المصهورات البركانية كثير من المعادن المهمة / تستغل البراكين النشطة بالسياحة .

- تستخدم مياه الينابيع والعيون الحارة في عمليات التدفئة والاستشفاء

٦- للكائنات الحية دورا هاما في عمليات التجوية الحيوية . صـ ٨٩

- الاشجار حين تضرب بجذورها في الصخر تؤدي إلى توسيع الشقوق

- بعض الحيوانات الأرضية كالجرذان والأرانب والحشرات والديدان حين تحفر مآويها في الأرض تساعد على تفتيت الصخر .

-الكائنات (النباتية والحيوانية) حين تموت وتتعفن وتتحلل بقاياها تكون أحماضا عضوية تنشط عمليات التجوية الكيميائية

٧- تعتبر الرياح عاملاً مهماً من عوامل التعرية في الأقاليم الصحراوية وشبه الصحراوية . ص ٩٠

- ندرة الغطاء النباتي / كثرة المواد التي فتتها عمليات التجوية فيسهل على الرياح التقاطها وحملها واكتساحها .

٨-اختلاف أشكال الشبكات النهرية من نهر لآخر . ص ٩٣

- تبعاً للظروف الجيولوجية - حجم وموسم الأمطار

- درجة الانحدار - نوع الغطاء النباتي

التنسيق والإخراج : أ/ عبير العنزي

√ ما النتائج المترتبة على حدوث كل مما يلي :

١- دوران الأرض المحورية (حول نفسها) . صـ ٦٢

- تعاقب الليل والنهار . / الحركة الظاهرية للشمس .

- تغيير مسار الأجسام الغازية السائلة / الانتفاخ الاستوائي .

٢- دوران القمر حول الأرض . صـ ٦٨ - ٦٩

- اختلاف أوجه القمر / حدوث خسوف القمر / حدوث كسوف الشمس

- الكسوف الحلقي للشمس / حدوث المد والجزر

√ دلل على صحة العبارات التالية :

١- يتم استخدام تقنية الاستشعار عن بعد في كثير من المجالات . ص ٤٢

- دراسة الخصائص الطبيعية لسطح الأرض / دراسة تلوث البيئة .

- دراسة الكوارث الطبيعية .

٢- للبراكين أثر في تشكيل سطح الأرض . ٨٤

- تنشئ الجبال المخروطية الشامخة مثل جبل كينيا والهضاب الفسيحة مثل هضبة الحبشة .

- تكوَن البراكين التي تحدث في قيعان البحار والمحيطات جزر بركانية وهي قمم للمخروطات البركانية التي تتكون تحت سطح مثل جزر هاواي وجزيرة سيرسي في آيسلندا .

√ اقرأ المسائل التالية ثم احسب الزمن وفق الخطوات التي درستها : ص ٦٥

المسألة الأولى

"إذا علمت أن الساعة في الكويت السادسة صباحا والتي تقع على خط طول ٤٥ شرق خط جرينتش ، فكم تكون الساعة في دكا والتي تقع على خط طول ٩٠ شرق خط جرينتش . "

- الفرق بين خطوط الطول = ٩٠ خط – ٤٥ خط = ٤٥ خطا

- حساب الفارق الزمني بين المدينتين = ٤٥ × ٤ دقائق = ١٨٠ دقيقة

- تحويل الدقائق إلى ساعات ١٨٠ ÷ ٦٠ = ٣ ساعات

- بما أن دكا تقع شرق الكويت ، إذن التوقيت في دكا = ٦ + ٣ = ٩ صباحا

المسألة الثانية

" تم عرض افتتاح مجلس الأمة في تلفزيون الكويت التي يمر بها خط طول ٤٥ شرقا في الساعة الثامنة صباحا ، فمتي يتم مشاهدة هذا الافتتاح في مسقط التي يمر بها خط الطول ٦٠ شرقا . "

- الفرق بين خطوط الطول = ٦٠ - ٤٥ = ١٥ خط طول .
- حساب الفارق الزمني بين الدولتين = ١٥×٤=٦٠ دقيقة .
- تحويل الدقائق الي ساعات = ٦٠ ÷ ٦٠= ١ ساعة .
- بما أن توقيت مسقط سبق توقيت الكويت ٨+١=٩ صباحا في مسقط

المسألة الثالثة

"تقام مباراة لكرة القدم بين منتخبي الكويت والمملكة المغربية ، فإذا كانت الساعة في دولة الكويت والواقعة على خط طول ٤٥ شرقا ٩ مساء ، فكم تكون الساعة التي ستقام فيها المباراة في المملكة المغربية والتي تقع على خط طول ١٥ غربا "

- عدد خطوط الطول بين المدينتين = ٤٥ + ١٥ = ٦٠ خط طول
- الفرق الزمني = ٦٠ × ٤=٢٤٠ دقيقة
- تحويل الدقائق الي ساعات = ٢٤٠ ÷٦٠=٤ ساعات
- بما أن دولة الكويت تقع شرق خط جرينتش والمملكة المغربية تقع الي جهة الغرب سيكون التوقيت :٩- ٥ = ٤ عصراً

√ فرق بين كلِ مما يلي من حيث التعريف :

الشمال الحقيقي (الجغرافي) صـ٣٣	الشمال المغناطيسي صـ ٣٣
هو الذي يشير إلي نقطة القطب الشمالي الجغرافي.	هو الموقع الذي تشير إليه الإبرة المغناطيسية الحرة الحركة وموقعة متغير من مكان لآخر ومن زمان لآخر .

السدم صـ ٤٨	النجوم صـ ٤٩
سحب كونية تتكون من غازات متأينة ما بين النجوم والغبار وتشكل ١٠- ١٢٪ كتلة المجرة .	أجرام سماوية مضيئة تتكون من الغازات والهيدروجين والهيليوم ودرجة حرارتها مرتفعة جداً وأقربها لنا (الشمس)

خسوف القمر صـ ٦٨	كسوف الشمس صـ ٦٩
وقوع القمر في منطقة ظل أو شبه ظل الأرض بحيث تقع الأرض بين الشمس والقمر وفي منطقة ظل الأرض يحدث الخصوص الكلي للقمر وعند وقوع القمر في منطقة شبه ظل الأرض يحدث الخسوف الجزئي للقمر.	يحدث في حالة وقوع القمر بين الشمس والأرض فيحجب ضوءها فيحدث الكسوف الكلي عند وقوع الأرض في منطقة الظل الكامل أثناء مرور القمر بين الشمس والأرض.

بنك الأسئلة لا يغني عن الكتاب المدرسي

تابع / فرق بين كلٍ مما يلي من حيث التعريف :

الأقمار صـ ٤٩	النجوم صـ ٤٩
أجرام سماوية مظلمة تستمد نورها من انعكاس أشعة الشمس عليها ، وهي تتبع الكواكب .	أجرام سماوية مضيئة تتكون من الغازات والهيدروجين والهيليوم ودرجة حرارتها مرتفعة جداً وأقربها لنا (الشمس).

طبقة السيال السطحية صـ ٧٧	طبقة السيما صـ ٧٧
تتكون من صخور جرانيتية وتتألف من خليط من عنصرية السيليكا والألمنيوم	تلي طبقة السيال تتكون من صخور بازلتية وتتألف من عنصري السيليكا والماغنيسيوم.

التجوية الميكانيكية (الطبيعية) صـ ٨٩	التجوية الكيمائية صـ ٨٩
تفكك الصخر وتفتته من دون أن يتغير تركيبه المعدني وتمارس التجوية الميكانيكية عملها في تحطيم الصخور بعدة طرق.	تفاعل أو تأثر مكونات الصخور المعدنية بالماء أو بخاره أو أحد العناصر الجوية فتتحول مكونات الصخر أو بعضها إلى تراكيب تختلف عن حالتها الأصلية.

الزلازل صـ ٨٠	البراكين صـ ٨٣
هزات فجائية سريعة تصيب قشرة الأرض في شكل موجات قد تكون هذه الهزات قوية نشعر بها أو ضعيفة بحيث لا تحسها إلا أجهزة رصد الزلزال (السيموجراف).	خروج المواد المنصهرة الماجما والغازات والأبخرة المحبوسة في جوف الأرض عبر مناطق ضعف جيولوجي في قشرة الأرض وقد تنساب الحمم فوق سطح الأرض لمسافات كبيرة إذا كانت عظيمة السيولة وتكون غطاءات لافية أو هضاب بركانية أو تتراكم فوق بعضها على شكل مخروط بركاني إذا كانت ثقيلة القوام.

الالتواءات صـ ٨٥	الانكسارات صـ ٨٧
انثناء الطبقات الصخرية اما إلى أعلى واما إلى أسفل وتعد الصخور الرسوبية من أنسب الصخور استجابة لحركات الثني والطي بسبب مرونتها النسبية أما الصخور النارية والمتحولة فإن شدة صلابتها لا تسمح بالالتواء بل بالتصدع.	حدوث كسر في الطبقات الصخرية يصحبه تحرك أو زحزحة بعض أجزاء هذه الطبقات إما رأسيا أو أفقيا وتحدث هذه الحركات بفعل قوة الشد والضغط التي تتعرض لها صخور القشرة الأرضية.

بنك الأسئلة
لا يغني عن الكتاب المدرسي

تابع / فرق بين كلٍ مما يلي من حيث التعريف :

حركة الأرض المحورية (حول نفسها) صـ ٦٢	دوران الأرض حول الشمس صـ ٦٧
- تعاقب الليل والنهار - الحركة الظاهرية للشمس - تغير مسار الأجسام الغازية - الانتفاخ الاستوائي	- تأرجح الدائرة الضوئية على دوائر العرض - تتابع الفصول (الاعتدال الربيعي / الانقلاب الصيفي / الاعتدال الخريفي / الانقلاب الشتوي)

√ قارن بين كل مما يلي حسب المطلوب في الجداول :

أوجه المقارنة	خطوط الطول ص ٦٣	دوائر العرض ص ٦٣
الخط الرئيسي	خط جرينتش	خط الاستواء
العدد	٣٦٠ خط	١٨٠ خط

أوجه المقارنة	الصخور الرسوبية ص ٧٩	الصخور النارية ص ٧٨
التعريف	هي التي تكونت بفعل مفتتات الصخور النارية أو المتحولة أو الرسوبية نتيجة عمليات التجوية والتعرية حيث تتجمع هذه المفتتات وتلتحم في بيئات ترسيبية على شكل طبقات متعاقبة	هي التي كانت في أول الأمر منصهرة لشدة حرارتها ثم تصلبت إما فوق سطح الأرض أو بين طبقات القشرة أو تحتها ، وتسمى بالصخور الأولية التي اشتقت منها الصخور الأخرى .
المميزات	تتسم بالطباقية / احتوائها على أحافير لكائنات حية حيوانية ونباتية / المسامية	شديدة الصلابة / كتلية وليست طباقية / عديمة المسامية / تخلو من الأحافير.
أقسام الصخور	* الميكانيكية . * الكيمائية . * العضوية	*الجوفية أو العميقة . * المتداخلة أو الوسيطة . * الطفحية أو البركانية .

بنك الأسئلة
لا يغني عن الكتاب المدرسي

√عرف ما يلي :

م	المفهوم والمصطلح	التعريف
١	الشهب	أجسام صخرية أو معدنية التركيب متباينة في أشكالها وكتلها وعند دخولها الغلاف الجوي للأرض تحتك ميكانيكياً مع جزيئات الهواء.ص ٤٨
٢	المد والجزر	ظاهرتان طبيعيتان متعاكستان على الكرة الأرضية وتحدث لاختلاف قوة الجاذبية بين الشمس والقمر وموقعها بالنسبة للأرض . صـ ٦٩
٣	الزلازل	هزات فجائية سريعة تصيب قشرة الأرض في شكل موجات ، وقد تكون هذه الهزات قوية نشعر بها أو ضعيفة صـ ٨٠
٤	الالتواء المقلوب	يميل محور هذا النوع من الالتواءات بزاوية تصل لأكثر من ٦٠ درجة عن المستوى الرأسي. ص ٨٦
٥	الياردانج	أخاديد وقنوات طويلة ضعيفة تفصل فيما بينها أشكال تشبه أضلع الحيوان كما في صحراء تركستان . ص ٩٠
٦	وادي النهر	الأرض المنخفضة التي تمتد على طول جانبي مجرى النهر ، تكونت بمرور الزمن نتيجة النحت والإرساب .ص ٩٣
٧	مجرى النهر	القناة المائية التي تمثل أعمق أجزاء الوادي النهري وتسلكه المياه في جريانها من المنبع إلى المصب .صـ ٩٣
٨	حقل الثلج	مساحة كبيرة تحيط بها القمم والمرتفعات وتتجمع فيها الثلوج فتتراكم وتندمج . صـ ٩٤
٩	الأقواس البحرية	فجوات أو فتحات محفورة في الجروف الصخرية بصورة متقابلة بحيث تعمل الأمواج على التحام هذه بعضها. صـ ٩٧
١٠	الآبار العادية	الآبار التي تحفر في الصخور بغرض الوصول إلى خزان الماء الجوفي.صـ ٩٨
١١	النافورات	تعرف باسم الجيزر وهي نافورة فوارة مياها ساخنة يكسر وجودها في مناطق النشاط البركاني مثل أيسلندا ونيوزلندا ونشاط هذه النافورات متقطع وتفصل بين نوبات فترات من الهدوء. صـ ٩٩

ثالثاً: الأسئلة المهارية

(أ) لاحظ خريطة دولة الكويت التي إمامك ثم حدد عليها عناصر الخريطة بوضع الرقم فقط : ص ٣٢

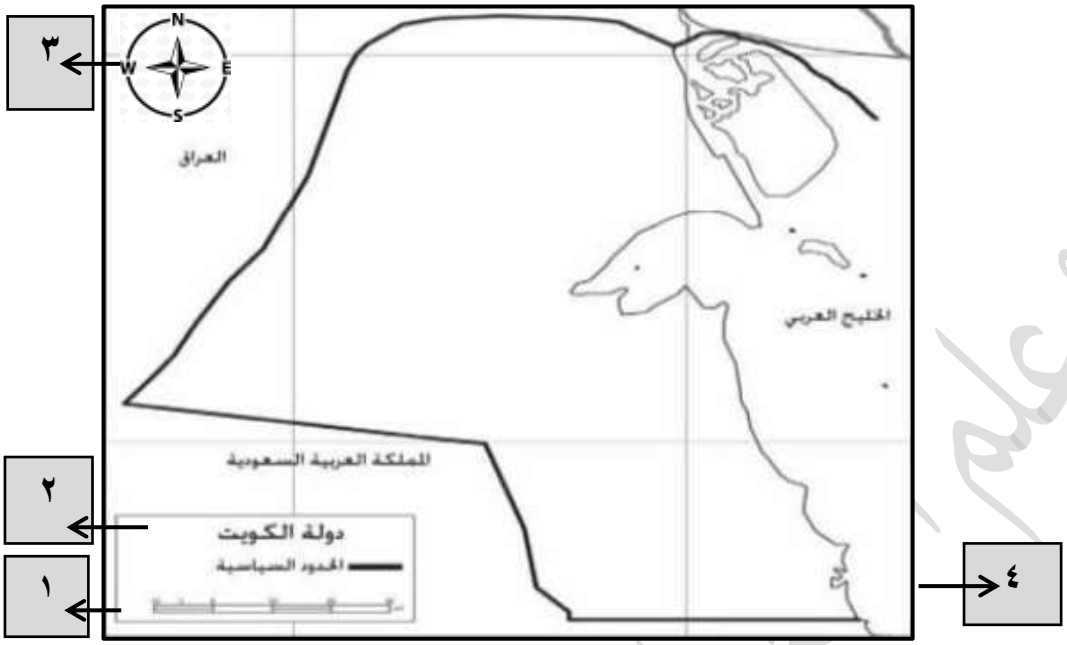

١- مقياس الرسم

٢- العنوان

٣- الاتجاه

٤-الإطار

(ب) حدد على خريطة دولة الكويت الصماء المطلوب باستخدام الأشكال التالية :

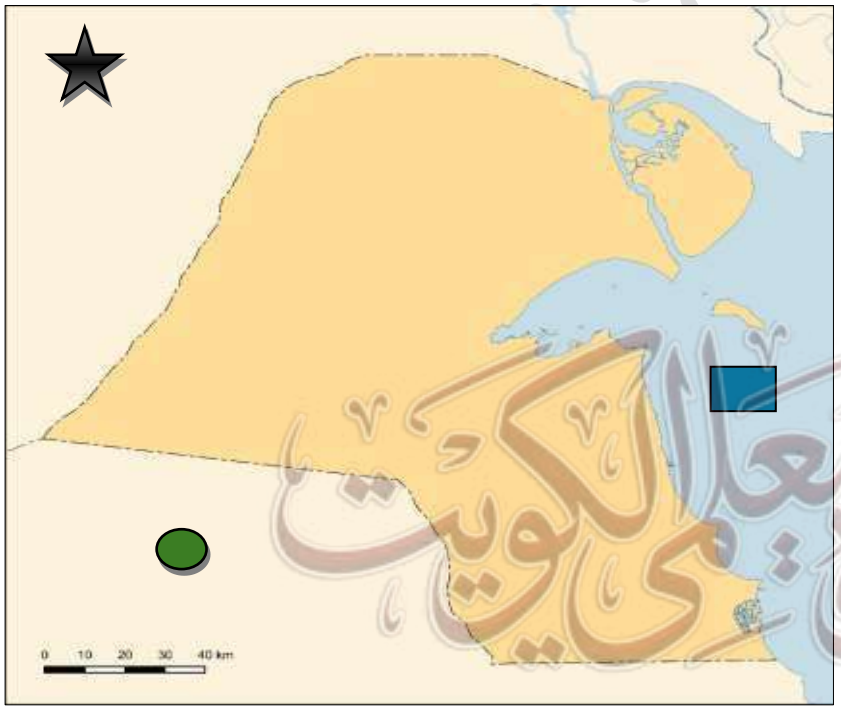

المملكة العربية السعودية صـ٣٥

الخليج العربي صـ٣٥

الشمال الحقيقي (الجغرافي) ص ٣٣

مبادئ علم الجغرافيا
صفوة معلمي الكويت
بنك الأسئلة لا يغني عن الكتاب المدرسي

(ج) فرق بالرسم بين كل من الظواهر الجغرافية التالية :

خسوف القمر صـ ٦٨	كسوف الشمس صـ ٦٩
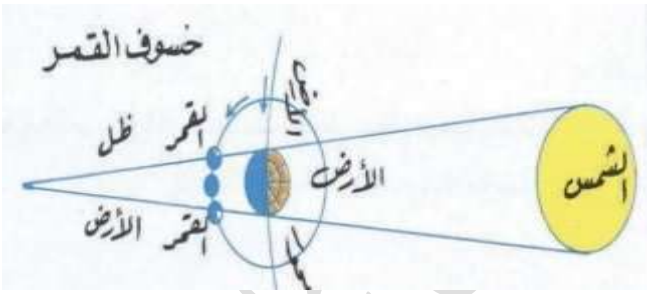	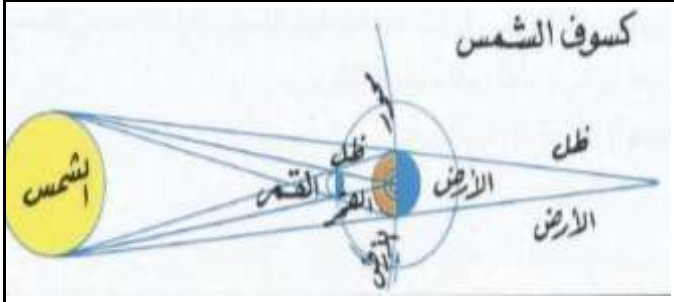

المد المنخفض صـ ٦٩	المد العالي صـ ٦٩
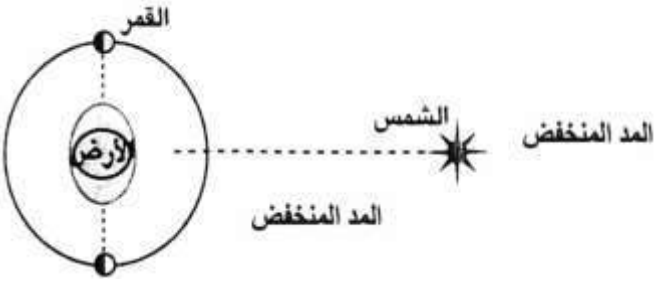	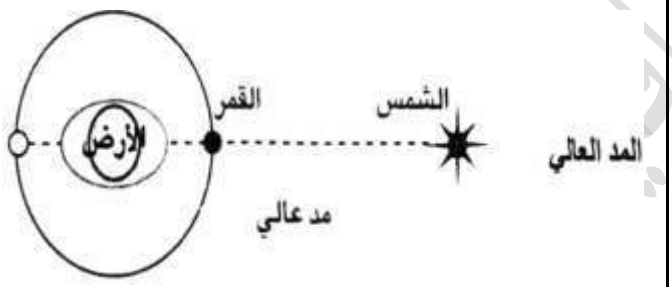

(د) لاحظ الشكل المقابل ، ثم اجب عن الأسئلة التالية :

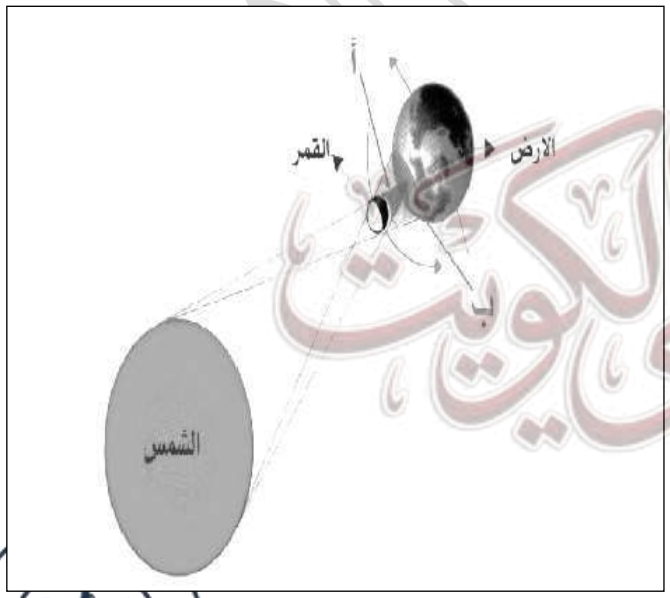

١-ضع عنوانا مناسبا للشكل المقابل.

- كسوف الشمس . ص٦٩

٢) علل : حدوث الظاهرة الفلكية في الشكل المقابل .

- يحدث كسوف الشمس في حالة وقوع القمر بين الشمس والأرض فيحجب ضوءها فيحدث الكسوف الكلي عند وقوع الأرض في منطقة الظل الكامل أثناء مرور القمر بين الشمس والأرض . ص٦٩

(هـ) لاحظ الشكل المقابل ثم اجب عن الأسئلة التالية:

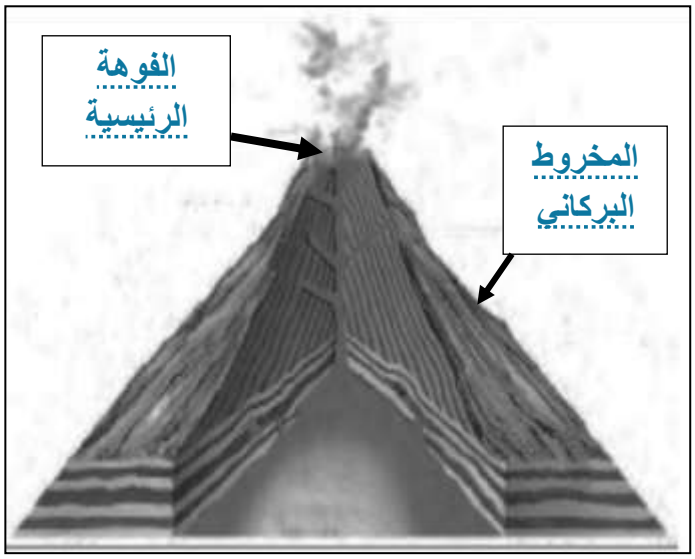

١- سجل على الرسم المقابل أسماء أجزاء البركان المشار لها . ص٨٣

٢-اذكر اثنين من أنواع المواد البركانية . ص٨٤

- الحطام الصخري
- الغازات
- المواد السائلة (اللافا)

(و) لاحظ الشكل الجغرافى الذى أمامك، ثم نفذ المطلوب أدناه :



١- سجل أنواع الالتواءات على الشكل . صـ٨٦

٢- أجب عن الأسئلة التالية :

أ- عرف الالتواء صـ٨٥

- انثناء الطبقات الصخرية إما الى أعلى وإما الى أسفل .

ب- علل : تحدث الالتواءات في الطبقات الصخرية الرسوبية . صـ٨٥

- نتيجة لتعرضها لضغط جانبي من اتجاهين متضادين أو لضغط جانبي من اتجاه واحد .

بنك الأسئلة
لا يغني عن الكتاب المدرسي

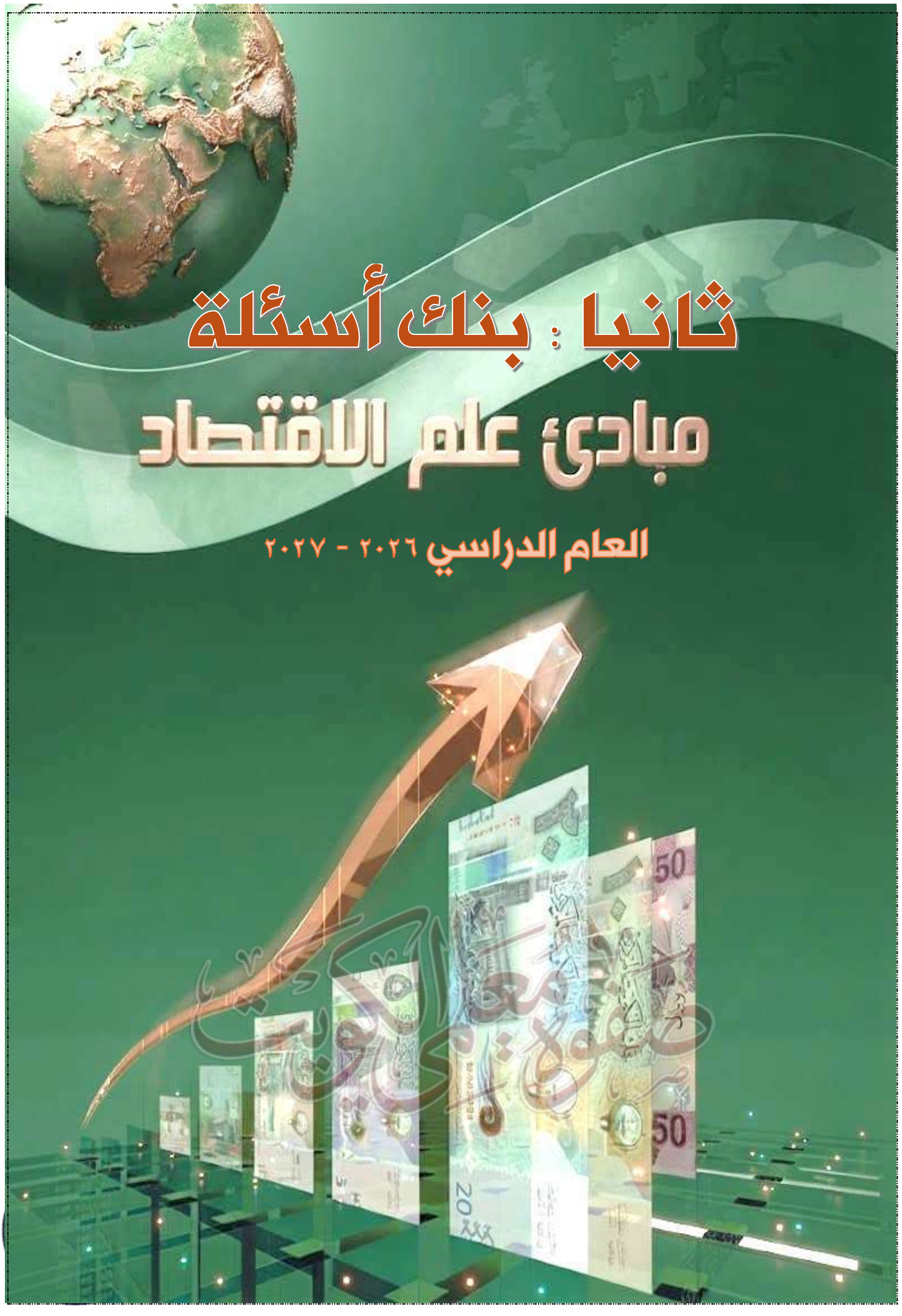
ثانيا : بنك أسئلة
مبادئ علم الاقتصاد
العام الدراسي ٢٠٢٦ - ٢٠٢٧

الأسئلة الموضوعية

(أ) اختر البديل الصحيح من بين البدائل التي تلي كل عبارة :

١- رغبات الفرد في سبيل الحصول على السلعة أو الخدمة : صـ ١٠٦

السلعة	**الحاجات**	الخدمة	النشاط الاقتصادي

٢- الموارد الطبيعية وكل ما على سطح الأرض وما في باطنها وليس للإنسان دور في وجودها : ص ١٠٩

العمل	رأس المال	**الأرض**	المنظم

٣- السلع الذي يستخدمها الفرد مباشرة لإشباع حاجاته : صـ١١١

الاستهلاكية	الانتاجية	المعمرة	غير المعمرة

٤- السلع الاستهلاكية التي يستطيع الفرد من التقليل أو التوقف عن استهلاكها إذا دعت الحاجة مقارنة بالسلع الأخرى: ص ١١٢

الكمالية	المعمرة	الضرورية	غير المعمرة

٥- الخاصية التي تتميز بوجود موارد اقتصادية محدودة تستخدم لإنتاج كمية السلع والخدمات تقل عن التي يرغب الافراد من استهلاكها : صـ١١٩

الاختيار	التضحية	الوفرة	**الندرة**

٦- العالم الاقتصادي الذي نادى بفكر الحرية الاقتصادية : صـ١٢٣

كارل ماركس	فريدريك أنجلز	**آدم سميث**	ميلتون فريدمان

٧- النظام الاقتصادي الذي يقوم على أساس الحرية والتملك بالاقتصاد: ص١٢٣

اقتصاديات السوق	**اقتصاديات التخطيط المركزي**	**الاقتصادي المختلط**	**الاقتصادي الإسلامي**

٨- نظام اقتصادي يعتمد على ممارسة الأنشطة الاقتصادية على أساس القواعد والأسس المتوافقة مع الشريعة الإسلامية والمنبثقة من القرآن الكريم والأحاديث الشريفة : ص ١٢٤

اقتصاديات السوق	اقتصاديات التخطيط المركزي	الاقتصادي المختلط	**الاقتصادي الإسلامي**

٩-الشخص أو الجهة التي ترغب بشراء سلعة أو خدمة بمقابل مادي : ص١٣٠

المشترى	الخدمة	البائع	السلعة

١٠- السوق الأكثر ندرة في الواقع العملي ، ويعتبرهُ بعضهم سوقاً افتراضياً : ص١٣٠

احتكار القمة	المنافسة الاحتكارية	الاحتكار	**المنافسة الكاملة**

١١- السعر الذي تتساوي فيه الكمية المعروضة مع الكمية المطلوبة ، فلا يوجد فائض عرض أو فائض طلب : ص ١٤٢

سعر الفائض	**توازن السوق**	الكميات المعروضة	الكميات المطلوبة

بنك الأسئلة
لا يغني عن الكتاب المدرسي

(ب) أكمل العبارات التالية بما يناسبها :

١- رغبات الفرد في سبيل الحصول على السلعة أو الخدمة تسمى الحاجات . صـ ١٠٦

٢- العالم الاقتصادي الذي نادى بفكر الحرية الاقتصادية آدم سميث صـ ١٢٣

٣- الحيز أو الوسط التي تتم خلاله مبادلة السلع والخدمات بين البائعين والمشترين بمقابل نقدي يسمى السوق. صـ١٢٩

٤-السلع التي لا يمكن استهلاكها إلا معا أي أن الشخص لا يمكن ان يستهلك احدى السلعتين بمفردها تسمى السلع المكملة . صـ ١٣٤

٥- السلعة التي تحقق عند شرائها إلى حد ما نفس درجة الاشباع التي نحصل عليها من شراء السلعة الأخرى تسمى السلعة البديلة . صـ ١٣٤

٦-النسبة المئوية للزيادة في الناتج المحلي الإجمالي يسمى النمو الاقتصادي صـ١٥١

٧- الارتفاع المستمر في المستوى العام للأسعار للسلع والخدمات في فترة زمنية محددة يسمى التضخم صـ١٥١

(ج) استنتج اسم الرابط المشترك بين عناصر كل مجموعة في الجدول :

م	العنـــــــاصر	الرابط المشترك
١	الأرض – العمل – رأس المال – المنظم	الموارد الاقتصادية ص١٠٩
٢	الندرة – الاختيار – التضحية	خصائص المشكلة الاقتصادية ص ١١٩-١٢٠
٣	السلعة أو الخدمة – العرض (البائع) – الطلب (المشتري)	مكونات (عناصر) السوق صـ ١٢٩
٤	تكاليف عناصر الإنتاج – التطور التقني – الدعم والضرائب	محددات العرض صـ ١٣٨-١٣٩
٥	القطاع العائلي – القطاع الحكومي – قطاع الاعمال – القطاع الخارجي	طرق الانفاق من قبل كل القطاعات المختلفة بالدولة صـ ١٤٨-١٤٩
٦	البطالة – التضخم – النمو الاقتصادي	الظواهر الاقتصادية صـ١٥٠-١٥١

بنك الأسئلة
لا يغني عن الكتاب المدرسي

(د) اكتب المفهوم أو المصطلح الدال على كل عبارة مما يلي :

م	المفهوم/ المصطلح	العبارات
١	الحاجات	رغبات الأفراد في الحصول على السلعة أو الخدمة. ص١٠٦
٢	السلعة	كل شيء مادي ملموس حسياً أي أن له حجماً وملمساً ووزناً يحصل عليه الفرد بعد شرائه . ص ١٠٧
٣	الموارد الاقتصادية (عناصر الإنتاج)	العناصر المطلوبة والتي تستخدم لإنتاج السلع والخدمات في المجتمع. ص١٠٩
٤	مرحلة العملية الانتاجية	المرحلة التي يتم بها مزج الموارد الاقتصادية (عناصر الإنتاج) المطلوبة في أسلوب إنتاج محدد لإنتاج سلعة أو خدمة. ص١١٠
٥	مرحلة السلع الخدمات	المرحلة التي يتم بها إنتاج السلع والخدمات بشكلها النهائي. ص١١٠
٦	علم الاقتصاد	العلم الذي يدرس سلوك الإنسان بغرض الوصول لإشباع حاجاته المتعددة والمتزايدة في ظل وجود موارد اقتصادية محدودة. ص١١٣
٧	المشكلة الاقتصادية	وجود ندرة نسبية للموارد الاقتصادية المتاحة بسبب حاجات الأفراد المتزايدة في ظل محدودية الموارد الاقتصادية. ص١١٩
٨	السوق	الحيز أو الوسط الذي تتم من خلاله مبادلة السلع والخدمات بين البائعين والمشترين بمقابل نقدي . ص١٢٩
٩	قانون الطلب	وجود علاقة عكسية بين الكمية المطلوبة للسلعة وسعرها مع ثبات العوامل الأخرى. ص١٣٣
١٠	جدول الطلب	جدول يبين الكميات المطلوبة من سلعة معينة عند مستويات مختلفة من الأسعار. ص١٣٦
١١	قانون العرض	وجود علاقة طردية بين السعر والكمية المعروضة بافتراض ثبات العوامل الأخرى. ص٢٣٠
١٢	قانون العرض	وجود علاقة طردية بين السعر والكمية المعروضة بافتراض ثبات العوامل الأخرى . ص ١٣٨
١٣	توازن السوق	يتحقق عند السعر الذي تتساوى فيه الكمية المعروضة والكمية المطلوبة وعندها فلا يوجد فائض عرض أو فائض طلب .ص١٤٢
١٤	الناتج المحلي والإجمالي	مجموع قيم ما ينتج في دولة معينة من سلع نهائية وخدمات خلال مدة محددة(عدة سنة واحدة). ص١٤٧

بنك الأسئلة
لا يغني عن الكتاب المدرسي

تابع / (د) اكتب المفهوم أو المصطلح الدال على كل عبارة مما يلي :

م	المفهوم/ المصطلح	العبارات
١٥	الإنفاق الاستثماري	مجموع ما ينفقه قطاع الأعمال والاستثمار والقطاعات التجارية الأخرى داخل الدولة. ص١٤٨
١٦	قانون الانفاق	الناتج المحلي الإجمالي= الانفاق الاستهلاكي + الإنفاق الحكومي+ الانفاق الاستثماري + الصادرات – الواردات . ص١٤٩
١٧	متوسط دخل الفرد	حاصل قسمة الناتج المحلي الإجمالي على عدد السكان في الدولة. ص١٤٩
١٨	معدل البطالة	*يتم احتسابه كنسبة مئوية بقسمة عدد العاطلين عن العمل على مجموع قوة العمل. *معدل البطالة = (عدد العاطلين عن العمل / قوة العمل) ×١٠٠. ص١٥١
١٩	قوة العمل	كل من هم بين عمر ١٨ عاماً و٧٠عاماً ولديهم القدرة والرغبة بالعمل. ص١٥١
٢٠	التضخم	الارتفاع المستمر في المستوى العام للأسعار للسلع والخدمات في فترة زمنية محددة . ص ١٥١
٢١	النمو الاقتصادي	النسبة المئوية للزيادة في الناتج المحلي الإجمالي. ص١٥١
٢٢	معدل النمو الاقتصادي	الناتج المحلي للسنة الحالية – الناتج المحلي للسنة الماضية× ١٠٠ . ص١٥٢
٢٣	التنمية	مجموع السياسات التي تتخذها الحكومة والتي تؤدي إلى زيادة النمو الاقتصادي بدافع ذاتي. ص١٥٥

(هـ) ضع عنواناً مناسباً للأشكال والصور التالية:

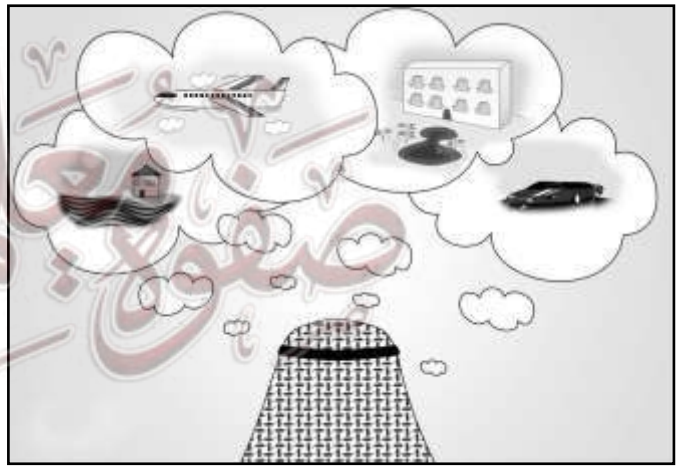

الحاجات ص١٠٦



مراحل النشاط الاقتصادي ص١٠٨

بنك الأسئلة
لا يغني عن الكتاب المدرسي

(و) أكمل المخططات السهمية التالية :

١- خصائص المشكلة الاقتصادية . ص ١١٩- ١٢٠

- الندرة
- الاختيار
- التضحية

٢- مراحل عملية تبادل السلع والخدمات (مراحل النشاط الاقتصادي). ص ١٠٨

- مرحلة الموارد الاقتصادية
- مرحلة الانتاج
- مرحلة السلع الخدمات

٣- مكونات (عناصر) السوق . ص١٢٩

- العرض (البائع)
- السلعة أو الخدمة
- الطلب (المشتري)

٤- محددات الطلب . ص١٣٣ - ١٣٤ - ١٣٥

- الذوق
- الدخل
- أسعار السلع الأخرى
- توقعات الأسعار

صفوة معلمي الكويت

(ي) صنف ما يلي حسب المطلوب في الجداول أدناه :

١ـ السلع الاستهلاكية:

(المعمرة – ضرورية – كمالية – غير المعمرة)

السلع الاستهلاكية حسب فترة الاستهلاك ص ١١٢	السلع الاستهلاكية حسب أهميتها ص ١١٢
المعمرة - غير المعمرة	ضرورية - كمالية

٢ـ الصفات (السمات) لأنواع الأسواق :

(بائع وحيد - تجانس السلعة - حرية الدخول والخروج من السوق - سلعة وحيدة وليس لها بدائل)

سوق المنافسة الكاملة ص ١٣٠-١٣١	سوق الاحتكار ص١٣١
تجانس السلعة حرية الدخول والخروج من السوق	بائع وحيد سلعة وحيدة وليس لها بدائل

٣ـ محددات العرض والطلب :

(تكاليف عناصر الانتاج - الدخل - الذوق - الدعم والضرائب)

محددات العرض ص١٣٨ – ١٣٩	محددات الطلب ص١٣٣-١٣٤-١٣٥
تكاليف عناصر الإنتاج الدعم والضرائب	الدخل الذوق

صفوة معلمي الكويت

الأسئلة المقالية

(أ) عرف ما يلي :

م	المفهوم أو المصطلح	التعريف
١	الحاجات	رغبات الفرد في سبيل الحصول على السلعة أو الخدمة . ص١٠٦
٢	السلع الاستهلاكية الضرورية	السلع التي لا يستطيع الفرد الاستغناء عنها مقارنة بالسلع الأخرى. ص١١٢
٣	المشكلة الاقتصادية	وجود ندرة نسبية للموارد الاقتصادية المتاحة بسبب حاجات الأفراد المتزايدة في ظل محدودية الموارد الاقتصادية . ص ١١٩
٤	السوق	الحيز أو الوسط التي تتم خلاله مبادلة السلع والخدمات بين البائعين والمشترين بمقابل نقدي . ص ١٢٩
٥	توازن السوق	يتحقق توازن السوق عند السعر الذي تتساوى فيه الكمية المعروضة مع الكمية المطلوبة وعندها فلا يوجد فائض عرض أو فائض طلب . ص ١٤٢
٦	الناتج المحلي الإجمالي	مجموع قيم ما ينتج في دولة معينة من سلع نهائية وخدمات خلال مدة زمنية محددة (عادة سنة واحدة) . ص ١٤٧
٧	متوسط دخل الفرد	حاصل قسمة الناتج المحلي الإجمالي على عدد السكان في الدولة . ص ١٤٩
٨	قوة العمل	كل من هم بين عمر ١٨ عاماً و ٧٠ عاماً ولديهم القدرة والرغبة بالعمل . ص ١٥١
٩	النمو الاقتصادي	النسبة المئوية للزيادة في الناتج المحلي الإجمالي . ص ١٥١

صفوة معلمي الكويت
بنك الأسئلة لا يغني عن الكتاب المدرسي

(ب) فرق بين كل مما يلي من حيث التعريف :

السلع الاستهلاكية المعمرة ص ١١٢	السلع الاستهلاكية غير المعمرةً ص١١٢
السلع التي يستطيع الفرد استخدامها لفترة طويلة من الزمن .	السلع التي لا يستطيع الفرد من استخدامها لفترة طويلة من الزمن .

السلع الاستهلاكية ص ١١١	السلع الإنتاجية ص ١١١
السلع التي يستخدمها الفرد مباشرة لإشباع حاجات	السلع التي تستخدمها الشركات لزيادة قدرتها الإنتاجية لإنتاج سلع أو خدمات جديدة .

مورد الأرض ص ١٠٩	مورد العمل ص ١٠٩
تشمل الموارد الطبيعية وكل ما على سطح الأرض وما في باطنها وليس للإنسان دور في وجودها مثل الماء والشجر	الجهد الذي يبذله الإنسان سواء بدنيا أو ذهنيا لإنتاج السلع والخدمات مثل العامل

البائع ص ١٣٠	المشتري ص ١٣٠
الشخص أو الجهة التي لديها سلعة أو خدمة يرغب ببيعها مقابل سعر معين .	الشخص أو الجهة التي ترغب بشراء سلعة أو خدمة بمقابل مادي .

السلعة البديلة ص١٣٤	السلعة المكملة ص١٣٤
هي السلعة التي تحقق عند شرائها الى حد ما نفس درجة الإشباع التي نحصل عليها من الأخرى .	هي السلعة التي لا يمكن استهلاكهما إلا معاً ،أي أن الشخص لا يمكنه أن يستهلك إحدى السلعتين بمفردهما.

(ج) قارن بين كل مما يلي حسب المطلوب في الجداول :

أوجه المقارنة	اقتصاديات السوق ص ١٢٤	النظام المختلط ص ١٢٤
ملكية الموارد	خاصة	مختلط
دور الحكومة	إشرافي لسن القوانين الاقتصادية	مختلط

أوجه المقارنة	سوق المنافسة الكاملة ص ١٣٠	سوق الاحتكار ص ١٣١
وجود البائعين والمشترين	وجود عدد كبير من البائعين والمشترين للسلعة	وجود بائع وحيد في السوق .
تجانس السلع	تجانس السلعة في هذا السوق .	السلعة في هذا السوق وحيدة وليس لها بدائل قريبة .

(د) اكتب عما يلي :

١ـ أهم صفات سوق المنافسة الاحتكارية. ص ١٣١

ـ كثرة عدد البائعين والمشترين.

ـ حرية دخول وخروج البائعين من السوق.

ـ عدم تطابق السلع ، فقد تختلف من حيث الشكل والنوعية والجودة.

ـ قدرة البائع القدرة على التحكم في السعر.

٢ـ أهم صفات سوق احتكار القلة .ص ١٣٢

ـعدد البائعين في هذه السوق قليل / قرارات المتنافسين في هذه السوق تؤثر على بعضهم بعضاً

ـ السلع بدائل قريبة جداً من بعضها البعض .

٣ـ خصائص المشكلة الاقتصادية . ص ١٢١

ـالندرة ـ الاختيار ـ التضحية .

٤ـ مراحل النشاط الاقتصادي. ص ١٠٨

ـ مرحلة الموارد الاقتصادية

ـ مرحلة الإنتاج / مرحلة السلع والخدمات

٥ـ أنواع الأسواق . ص ١٣٠ ـ ١٣١ ـ ١٣٢

ـ سوق الاحتكار / سوق المنافسة الاحتكارية / سوق المنافسة الكاملة

ـ سوق احتكار القلة

التنسيق والإخراج : أ/ عبير العنزي

تابع / (د) اكتب عما يلي :

٦- خصائص سوق المنافسة الكاملة . ص ١٣٠ – ١٣١

- وجود عدد كبير من البائعين والمشترين للسلعة / تجانس السلعة في هذا السوق
- توافر المعلومات لدى المشترين والبائعين / حرية الدخول والخروج من السوق
- المنتج (البائع) لا يتحكم بالسعر .

(و) علل ما يلي :

١- سوق الاحتكار الأسوأ اقتصادياً . صـ ١٣١

- وجود بائع وحيد / السلعة وحيدة ليس لها بدائل
- وجود عوائق كثيرة / البائع هو من يتحكم في السعر.

مبادئ علم الجغرافيا وعلم الاقتصاد
صفوة معلمي الكويت
بنك الأسئلة لا يغني عن الكتاب المدرسي

الأسئلة المهارية

(أ) اقرأ الفقرة التالية ثم أجب عما يليها من أسئلة:

" لكل مجتمع موارده الاقتصادية المحدودة من أرض وعمال وغيرها لذلك فكل مجتمع يسعى للاستفادة من هذه الموارد الاقتصادية المتاحة له لإنتاج أكبر قدر ممكن من السلع والخدمات التي تحقق الإشباع للأفراد في هذا المجتمع ،ومن أهداف علم الاقتصاد تحسين الكفاءة الإنتاجية، والتوزيع العادل للدخل " .

١-اقترح عنوانا مناسبا للفقرة السابقة .

الموارد الاقتصادية / أو ما يراه المصحح مناسبا .

٢- عرف ما تحته خط . ص ١٠٩

- العناصر المطلوبة والتي تستخدم لإنتاج السلع والخدمات في المجتمع .

٣- اذكر أهداف علم الاقتصاد . ص ١١٣

- تحسين الكفاءة الإنتاجية / إنتاج السلع والخدمات التي يحتاجها المجتمع / التوزيع العادل للدخل .

(ب) لاحظ جدول السوق لسلعة ما، ثم اجب عما يليه من أسئلة :

الكمية المطلوبة	السعر (الدينار الكويتي)	الكمية المعروضة
١٥٠٠	١٠	٣٥٠٠
٢٠٠٠	٩	٣٠٠٠
٢٥٠٠	٨	٢٥٠٠
٣٠٠٠	٧	٢٠٠٠
٣٥٠٠	٦	١٥٠٠

١-ارسم منحني الطلب . ص ١٣٧



بنك الأسئلة
لا يغني عن الكتاب المدرسي

تابع /

٢- ارسم منحنى العرض . ص ١٤٠

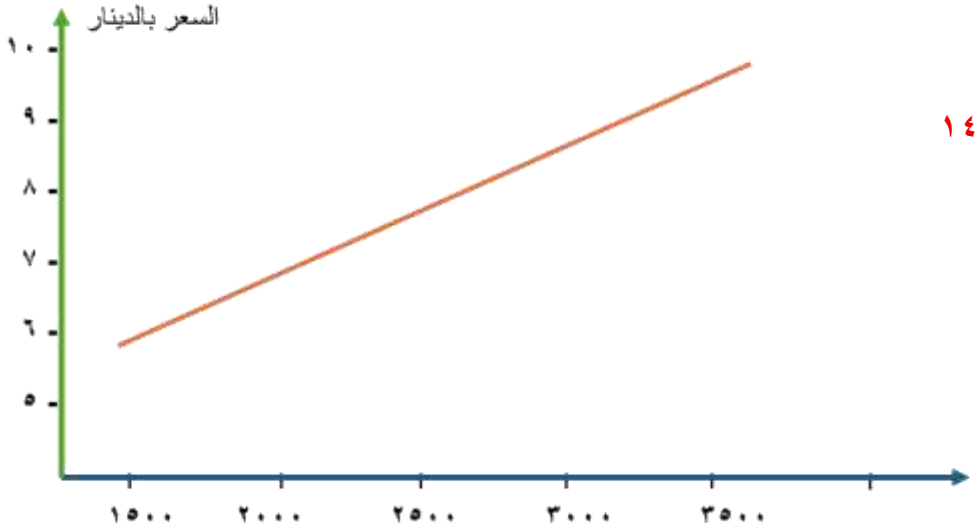

(ج) لاحظ جدول الطلب لسلعة ما ، ثم اجب عما يليه من أسئلة : ص ١٣٦

الكمية المطلوبة	السعر (الدينار الكويتي)
١٠	١
٩	٢
٨	٣
٧	٤
٦	٥

١- ارسم منحنى الطلب في السوق

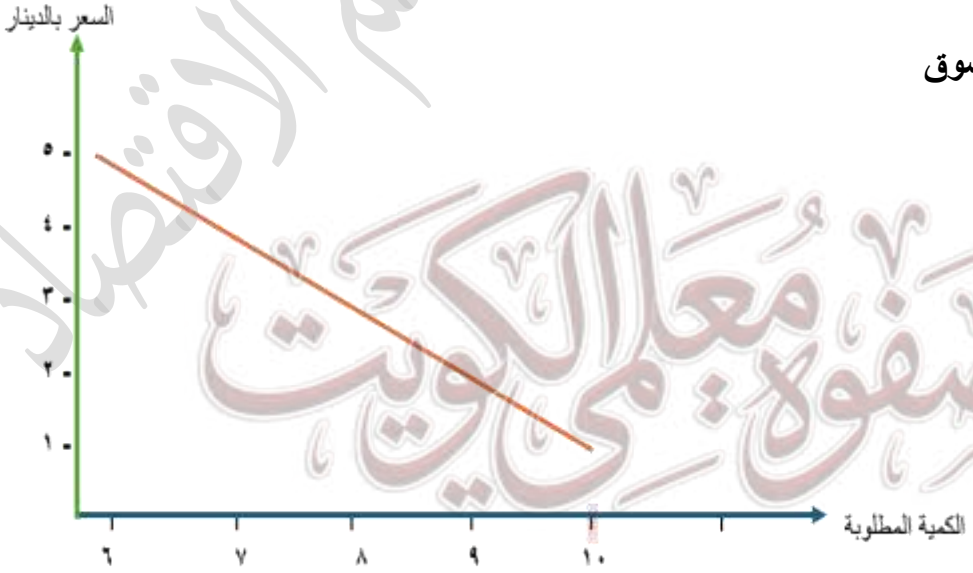

٢- عرف : قانون الطلب . ص ١٣٣

- وجود علاقة عكسية بين الكمية المطلوبة للسلعة وسعرها مع ثبات العوامل الأخرى .

مبادئ علم الجغرافيا وعلم الاقتصاد
صفوة معلمي الكويت
بنك الأسئلة لا يغني عن الكتاب المدرسي

(د) لاحظ جدول السوق لسلعة ما ، ثم اجب عن الأسئلة التالية:

الكمية المطلوبة	السعر (الدينار الكويتي)	الكمية المعروضة
١٥٠٠	١٠	٣٥٠٠
٢٠٠٠	٩	٣٠٠٠
٢٥٠٠	٨	٢٥٠٠
٣٠٠٠	٧	٢٠٠٠
٣٥٠٠	٦	١٥٠٠

١- ارسم منحنى توازن السوق . ص١٤٢

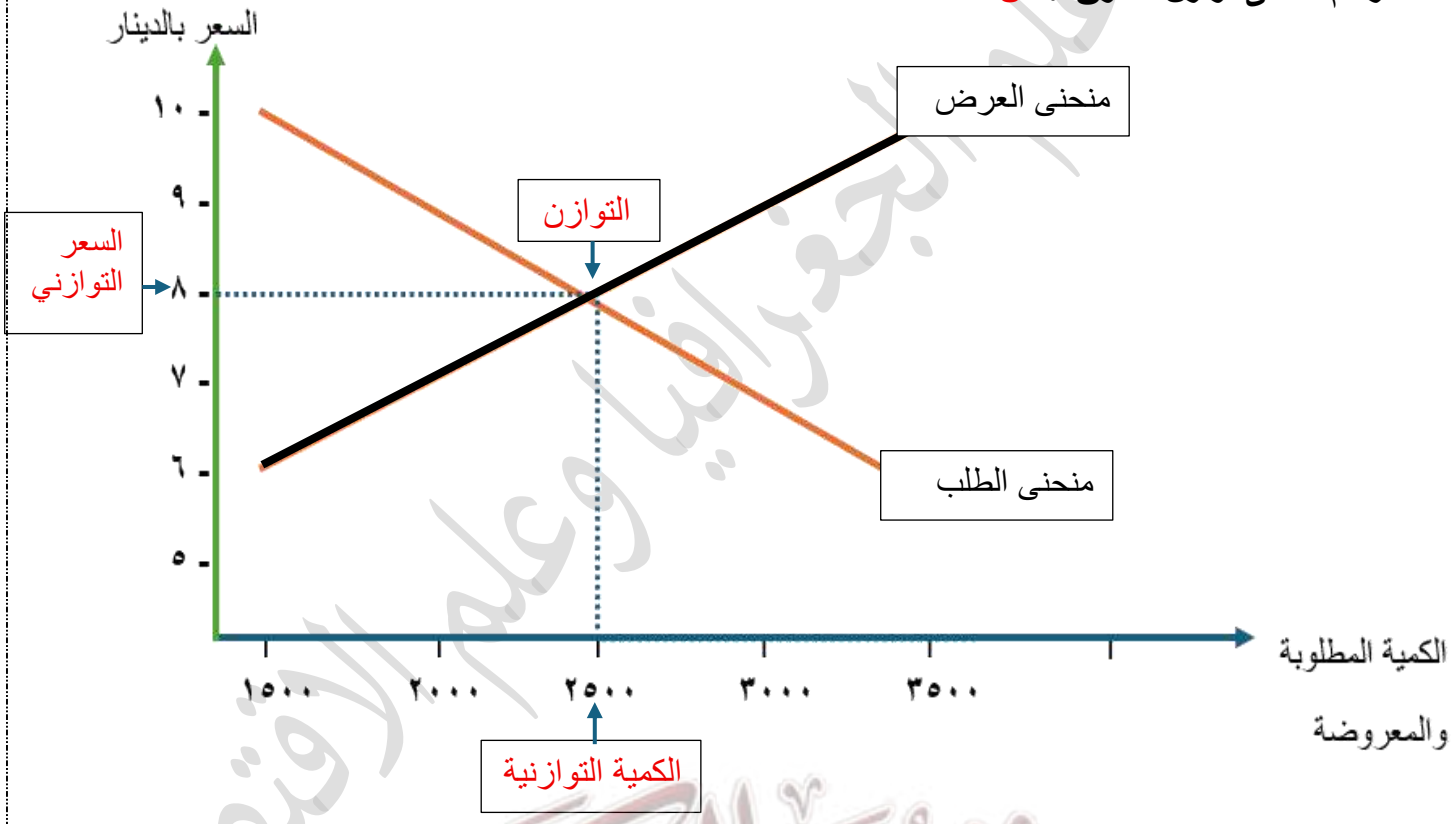

٢- أوجد كل من :

أ- السعر التوازني في السوق . ٨ دنانير كويتي

ب - الكمية التوازنية . ٢٥٠٠

انتهت الأسئلة ،،،

تمنياتنا لكم بالنجاح والتوفيق ،،،،،،

التنسيق والإخراج : أ/ عبير العنزي