النجاح

2026-2025



اجتماعيات

الفصل الأول

7

الصف السابع

صفوة معلمي الكويت

النجاح

2026-2025



مذكرات النجاح

طريقك للنجاح

صفوف معلم الكويت

69398804



2026-2025

لطلب كامل المذكرة

صفوة معالي الكويت

60 65 83 02

الفهرس

الوحدة الأولى	
تعريف الوطن العربي	٢
الموقع الجغرافي للوطن العربي	٦
الحياة النباتية واثرها في الحياة الحيوانية في الوطن العربي	٩
التضاريس في الوطن العربي	١٢
دولة الكويت تشارك الوطن العربي في السمات الطبيعية	١٦

الوحدة الثانية	
نشأة العصور	١٨
قيام الحضارات	٢١
حضارة الأنباط	٢٤
حضارة الكوش	٢٧
محطات حضارية في دولة الكويت	٣٠

الوحدة الثالثة	
الوطن العربي قبل الإسلام	٣٣
ظهور الإسلام في الوطن العربي	٣٦
نماذج مشرفة لعلماء عرب (١)	٣٩
نماذج مشرفة لعلماء عرب (٢)	٤١
صفحات في تاريخ الكويت	٤٣

الوحدة الرابعة	
الأوضاع والأطماع في الوطن العربي	٤٥
الحركات الاستعمارية في الوطن العربي	٤٨
حركات المقاومة في الوطن العربي	٥١
مرحلة الاستقلال في الوطن العربي	٥٣
دولة الكويت من الحماية إلى الاستقلال	٥٦

مذكرات النجاح

الدرس الأول تعريف الوطن العربي

❁ اكتب المصطلح المناسب لكل عبارة مما يأتي:

- مجموعة من الدول التي تجمعها عدد من السمات المشتركة وتمتد عبر قارتين آسيا وأفريقيا **(الوطن العربي)**

❁ اختر الإجابة الصحيحة لكل من العبارات التالية بوضع علامة صح في المربع المقابل لها:

١. ➤ مجموع عدد الدول العربية في الجناحين الآسيوي والأفريقي:

☐ ١٠ دول ☐ ١٢ دولة ☑ ٢٢ دولة ☐ ٥٠ دولة

٢. ➤ تبلغ مساحة الوطن العربي .....مليون كم^{٢}:

☑ ١٣٥٠٠ ☐ ١٠٠٠٠ ☐ ٢٦٠٠ ☐ ٨٢٠٠٠

٣. ➤ تبلغ نسبة مساحة الوطن العربي من مساحة العالم حوالي:

☐ ٥٪ ☑ ١٠٪ ☐ ١٥٪ ☐ ٢٠٪

٤. ➤ مساحة الوطن العربي تفوق مساحة قارة:

☐ استراليا ☐ آسيا ☐ أمريكا ☑ أوروبا

٥. ➤ من الدول التي تقع في الجناح الآسيوي من الوطن العربي:

☐ مصر ☑ البحرين ☐ تونس ☐ جيبوتي

٦. ➤ من الدول التي تقع في **الجناح الافريقي** من الوطن العربي

☐ فلسطين ☐ سوريا ☑ المغرب ☐ العراق

❁ أكمل العبارات التالية بما يناسبها:

١. ➤ يقع الوطن العربي في قلب العالم.

٢. ➤ يمتد الوطن العربي بين قارة آسيا وقارة أخرى اسمها إفريقيا

٣. ➤ عدد الدول العربية في الجناح الآسيوي ١٢ دولة

٤. ➤ عدد الدول العربية في الجناح الأفريقي ١٠ دول

٥. ➤ يمتد الوطن العربي من الخليج العربي شرقاً إلى المحيط الأطلسي غرباً.

صفوة معالي الكويت

❁ علل لكل مما يأتي:

الوطن العربي ليس مجرد رقعة جغرافية بل كيان حي نابض بالحياة.

له تاريخ عريق وثقافة غنية، وشعوبه متنوعة وتجمعهم سمات حددت هويتهم.

عدد الدول التي يتجاوز الوطن العربي مساحتها.

الصين - الولايات المتحدة الأمريكية

❁ أكمل المخطط السهمي.

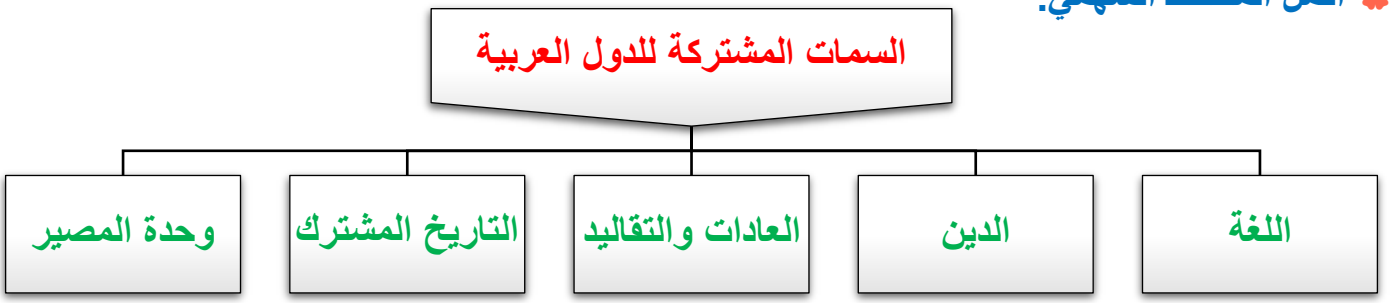

❁ اكتب صحيح بجانب العبارات الصحيحة وخطأ أمام العبارات غير الصحيحة:

١. ➤ يقع الوطن العربي في الجزء الشمالي من خريطة العالم. (خطأ)

٢. ➤ تقع جميع دول الوطن العربي في قارة آسيا. (خطأ)

٣. ➤ عدد الدول العربية في الجناح الآسيوي ١٢ دولة. (صحيحة)

٤. ➤ مساحة الوطن العربي أكبر من مساحة الصين. (صحيحة)

٥. ➤ مساحة الوطن العربي أصغر من مساحة الولايات المتحدة الأمريكية. (خطأ)

٦. ➤ مصر أكبر دولة عربية في الجناح الأفريقي. (خطأ)

٧. ➤ السعودية أكبر دولة عربية في الجناح الآسيوي. (صحيحة)

❁ حول نسبة الوطن العربي إلى دائرة بيانية.



صفوة معلمي الكويت

مذكرات النجاح

❁ لاحظ خريطة الوطن العربي ثم نفذ المطلوب:

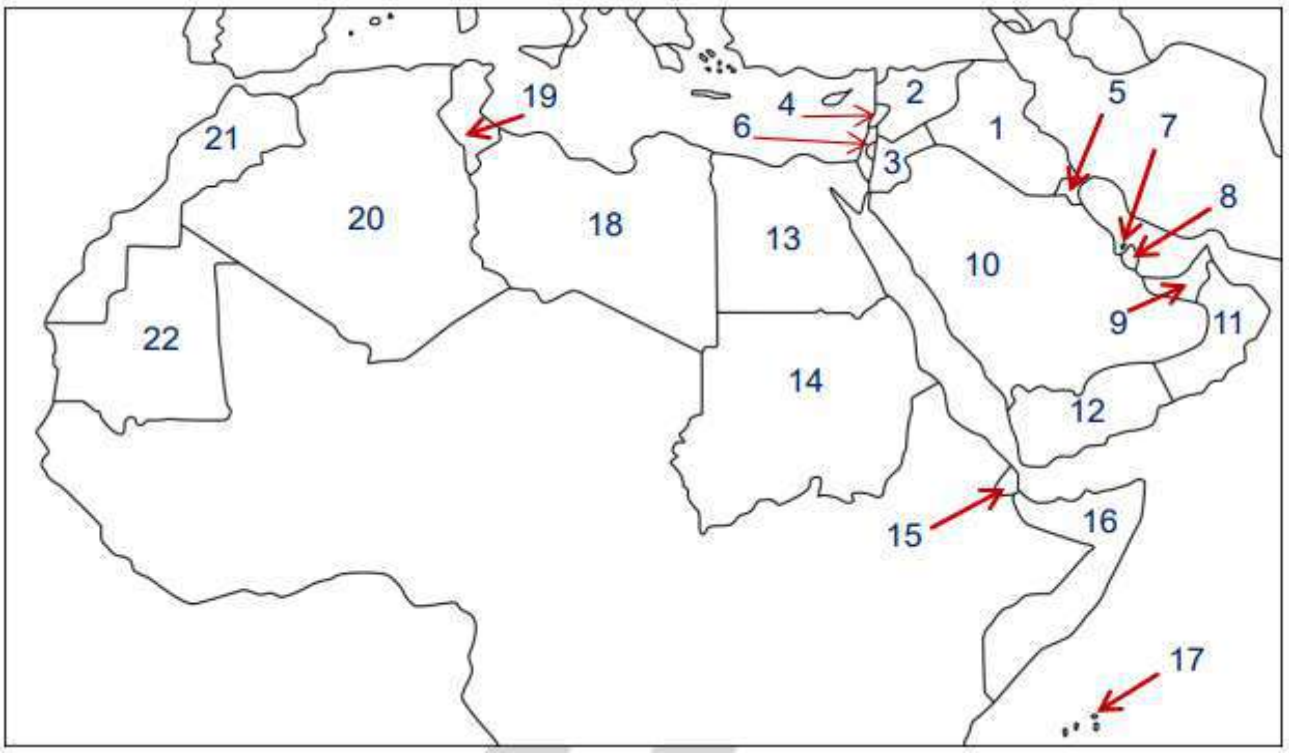

الجناح الآسيوي
السعودية يمثلها الرقم (١٠)
البحرين يمثلها الرقم (٧)
قطر يمثلها الرقم (٨)
الإمارات يمثلها الرقم (٩)
عمان يمثلها الرقم (١١)
الكويت يمثلها الرقم (٥)
سوريا يمثلها الرقم (٢)
فلسطين يمثلها الرقم (٦)
لبنان يمثلها الرقم (٤)
الأردن يمثلها الرقم (٣)
العراق يمثلها الرقم (١)
اليمن يمثلها الرقم (١٢)

الجناح الأفريقي
جيبوتي يمثلها الرقم (١٥)
الصومال يمثلها الرقم (١٦)
ليبيا يمثلها الرقم (١٨)
تونس يمثلها الرقم (١٩)
مصر يمثلها الرقم (١٣)
السودان يمثلها الرقم (١٤)
الجزائر يمثلها الرقم (٢٠)
المغرب يمثلها الرقم (٢١)
موريتانيا يمثلها الرقم (٢٢)
جزر القمر يمثلها الرقم (١٧)

صفوة معلمي الكويت

مذكرات النجاح

❁ لاحظ خريطة العالم الصماء ثم نفذ المطلوب:

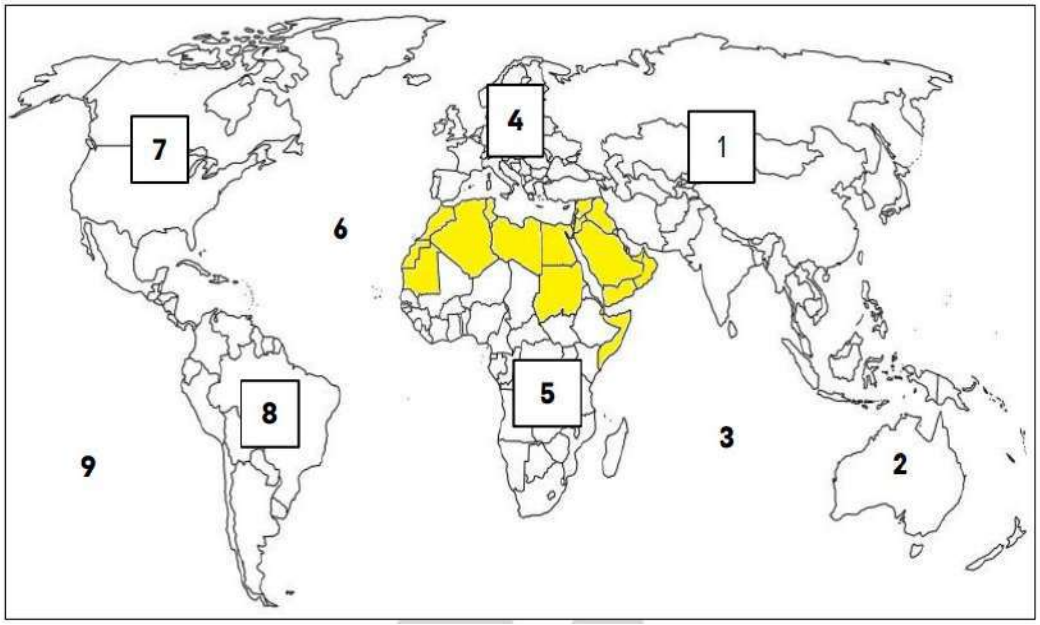

- قارة آسيا يمثلها الرقم (١)
- قارة إفريقيا يمثلها الرقم (٥)
- قارة أمريكا الشمالية يمثلها (٧)
- قارة أمريكا الجنوبية يمثلها الرقم (٨)
- قارة أوروبا يمثلها الرقم (٤)
- قارة استراليا يمثلها الرقم (٢)
- الجزء المظلل بالأصفر على الخريطة يمثل (الوطن العربي)
- المحيط الهندي يمثله الرقم (٣)
- المحيط الأطلسي يمثله الرقم (٦)
- المحيط الهادي يمثله الرقم (٩)

صفوة معلمي الكويت

مذكرات النجاح

الوحدة الأولى

السمات الطبيعية لدولة الكويت والوطن العربي

الدرس الثاني: الموقع الجغرافي للوطن العربي

اكتب المصطلح المناسب لكل عبارة مما يأتي:

- مكان الإقليم أو الدولة على سطح الأرض بالنسبة للموقع النسبي والموقع الفلكي. **(الموقع الجغرافي)**

اختر الإجابة الصحيحة لكل من العبارات التالية بوضع علامة صح في المربع المقابل لها:

١. المسطح المائي الذي يحد الوطن العربي من الشرق:

☐ البحر المتوسط ☑ **الخليج العربي** ☐ المحيط الأطلسي ☐ المحيط الهندي

٢. الموقع الذي يستخدمه نظام تحديد المواقع (GPS) من خلال الأجهزة الذكية يسمى:

☐ الموقع البحري ☐ الموقع النسبي ☑ **الموقع الفلكي** ☐ الموقع التضاريسي

٣. تمثل دول الوطن العربي كتلة واحدة متصلة باستثناء دولة هي:

☐ موريتانيا ☐ جيبوتي ☐ الصومال ☑ **جزر القمر**

٤. المسطح المائي الذي يحد الوطن العربي من الشمال:

☑ **البحر المتوسط** ☐ الخليج العربي ☐ المحيط الأطلسي ☐ المحيط الهندي

٥. المسطح المائي الذي تقع فيه دولة جزر القمر يسمى:

☐ البحر المتوسط ☐ الخليج العربي ☐ المحيط الأطلسي ☑ **المحيط الهندي**

٦. الإقليم الذي يتميز بارتفاع درجة الحرارة وهطول الأمطار طوال العام هو:

☑ **المداري** ☐ الصحراوي ☐ البحر المتوسط ☐ الاستوائي

٧. الإقليم الذي يتميز بارتفاع درجة الحرارة صيفا وقلة الأمطار شتاء هو:

☐ المداري ☑ **الصحراوي** ☐ البحر المتوسط ☐ الاستوائي

٨. الإقليم الجاف الحار صيفاً والمعتدل الماطر شتاءً هو:

☐ المداري ☐ الصحراوي ☑ **البحر المتوسط** ☐ الاستوائي

أكمل العبارات التالية بما يناسبها:



١. يحد الوطن العربي من الشمال **البحر المتوسط** و**تركيا**

٢. يحد الوطن العربي من الغرب **المحيط الأطلسي**

٣. يحد الوطن العربي من الشرق **إيران** و**الخليج العربي**

مذكرات النجاح

٤. ➤ يقع الوطن العربي بين دائرتي عرض ٢° جنوباً و٣٧,٥° شمال خط الاستواء

٥. ➤ يقع الوطن العربي بين خطي طول ٦٠° شرقاً و١٧° غرب خط جرينتش.

❁ **علل لكل مما يأتي:**

١. ➤ **أهمية الموقع الجغرافي للوطن العربي.**

للوطن العربي حدوداً برية وبحرية واسعة، ويطل على العديد من المسطحات المائية المهمة.

٢. ➤ **أهمية نظام تحديد المواقع (GPS).**

يوفر معلومات عن الموقع والوقت معتمداً على الأقمار الصناعية

٣. ➤ **يعتبر مناخ الوطن العربي الأشد حرارةً وجفافاً والأقل أمطاراً في العالم.**

لأن أغلب أراضيه تقع ضمن المناطق الصحراوية

❁ **عدد لكل مما يلي:**

١. ➤ **العوامل المؤثرة في مناخ الوطن العربي.**

- **الموقع الفلكي**
- **توزيع اليابس والماء**
- **الغطاء النباتي**
- **التضاريس**
- **الرياح**

٢. ➤ **فوائد الموقع الفلكي.**

١) خطوط الطول مهمة لمعرفة فرق التوقيت بين الدول

٢) دوائر العرض تقسم الأرض إلى اقاليم مناخية

٣) خطوط الطول ودوائر العرض تحدد المواقع الجغرافية للدول والمدن بدقة

❁ **أكمل المخطط السهمي.**

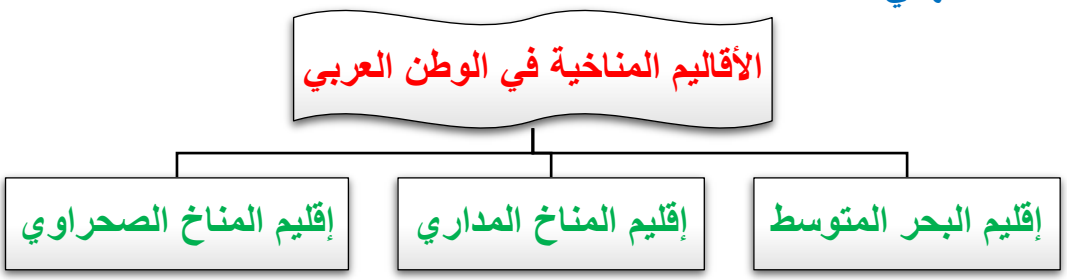

❁ **اكتب صحيح بجانب العبارات الصحيحة وخطأ أمام العبارات غير الصحيحة:**

١. ➤ يتميز الإقليم الصحراوي بارتفاع درجة الحرارة وهطول الأمطار طوال العام. **(خطأ)**

٢. ➤ الدولة التي تحد الوطن العربي من الشمال هي **إيران**. **(خطأ)**

٣. ➤ تقع جميع أراضي لبنان ضمن إقليم البحر المتوسط. **(صحيحة)**

٤. ➤ يتميز إقليم البحر المتوسط بارتفاع درجة الحرارة صيفا وقلة الأمطار شتاء. **(خطأ)**

٥. ➤ إقليم المناخ الصحراوي هو أكبر الأقاليم امتداداً في الوطن العربي. **(صحيحة)**

مذكرات النجاح

❁ اختر من القائمة (أ) ما يناسبها من القائمة (ب) بوضع الرقم مقابلها فيما يأتي:

القائمة (أ)	الرقم	القائمة (ب)
١- إقليم البحر المتوسط	(٢)	ارتفاع درجة الحرارة وهطول الأمطار طوال العام
٢- إقليم المناخ المداري	(٣)	ارتفاع درجة الحرارة والجفاف صيفا، انخفاض درجة الحرارة وقلة الأمطار شتاء
٣- إقليم المناخ الصحراوي	(١)	جاف حار صيفاً، معتدل ممطر شتاءً

❁ لاحظ خريطة الوطن العربي ثم نفذ المطلوب:

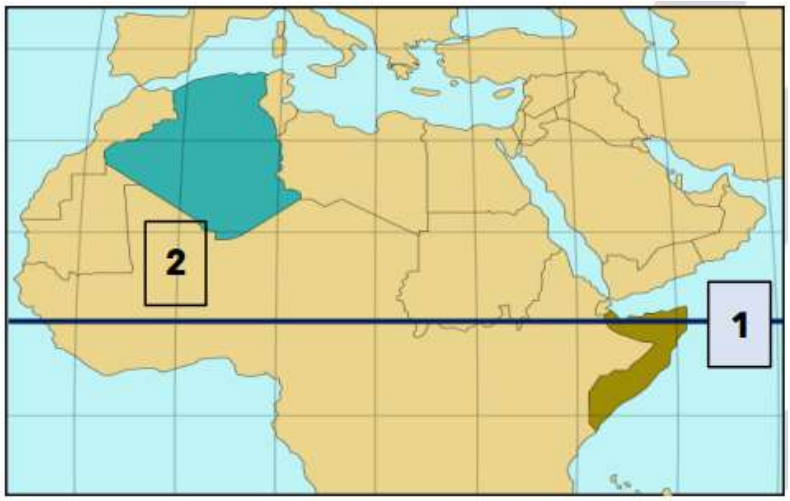

١. ➤ خط الاستواء يمثله على الخريطة الرقم (١)

٢. ➤ خط جرينتش يمثله على الخريطة الرقم (٢)

٣. ➤ الدولة التي يمر بها خط الاستواء هي الصومال

٤. ➤ الدولة التي يمر بها خط جرينتش هي الجزائر

❁ لاحظ الخريطة ثم أجب على الأسئلة التالية:

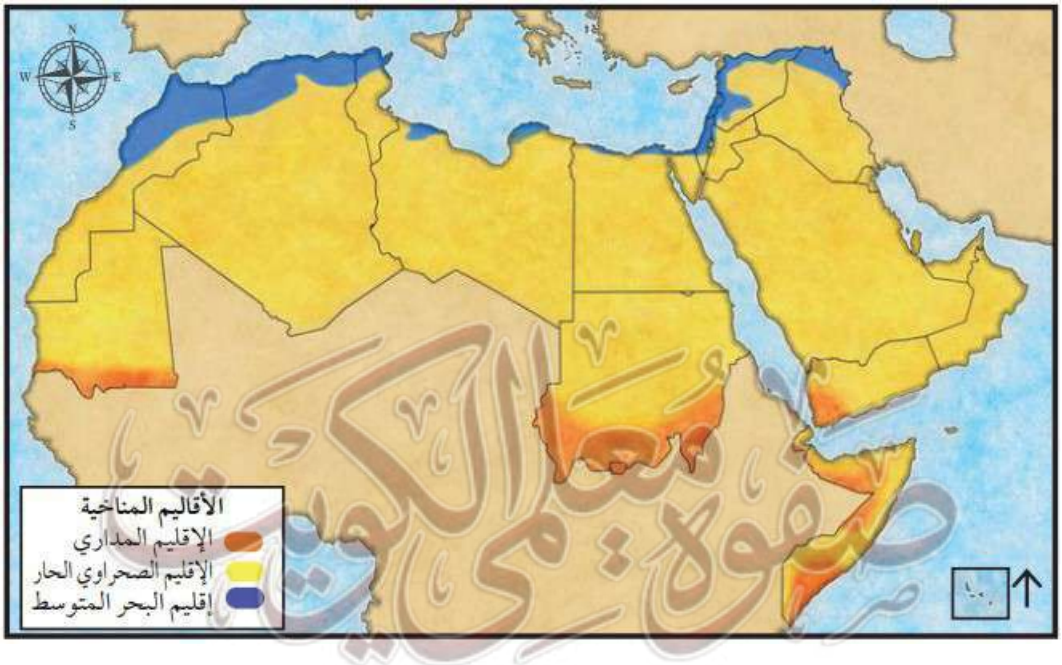

١. ➤ الإقليم المناخي الأكثر انتشارا في الوطن العربي الإقليم الصحراوي

٢. ➤ الدولة العربية التي تقع جميع أراضيها ضمن إقليم البحر المتوسط لبنان

٣. ➤ الإقليم الذي يرمز إليه اللون ■ إقليم المناخ المداري

مذكرات النجاح

الدرس الثالث: الحياة النباتية وأثرها في الحياة الحيوانية في الوطن العربي

اكتب المصطلح المناسب لكل عبارة مما يأتي:

١. حشائش طويلة تنمو في المناطق الحارة، وتربى عليها الماشية، وتنتشر في السودان. (**حشائش السافانا**)

٢. حشائش قصيرة نوعًا ما، تُستخدم في صناعة الحبال والحُصُر، وتنتشر في المغرب. (**حشائش الإستبس**)

اختر الإجابة الصحيحة لكل من العبارات التالية بوضع علامة صح في المربع المقابل لها:

١. من أمثلة الأشجار في الغابات المدارية:

☐ السنديان ☑ **الأبنوس** ☐ الأثل ☐ العرفج

٢. تنتشر الحشائش الحارة (السافانا) في دولة:

☐ المغرب ☐ تونس ☑ **السودان** ☐ لبنان

٣. تستخدم الحشائش المعتدلة (الإستبس) في:

☑ **صناعة الحبال والحُصر** ☐ صناعة الأثاث ☐ إنتاج الخشب ☐ تغذية الجمال فقط

٤. من أمثلة النباتات الصحراوية:

☐ النخيل والحمضيات ☐ السافانا والإستبس ☐ الأبنوس والسنديان ☑ **الرمث والأثل والعرفج**

٥. من الحيوانات التي تعيش في الغابات:

☐ الذئاب والغزلان ☐ الزرافات والأفيال ☑ **القردة والسناجب** ☐ الجمال والسحالي

أكمل العبارات التالية بما يناسبها:

١. تنتشر الغابات المدارية في دول **اليمن** و **الصومال**

٢. توجد الغابات المعتدلة في دول **لبنان** و **تونس**

٣. تنتشر الحشائش الحارة (السافانا) في دولة **السودان**

٤. تنتشر الحشائش المعتدلة (الإستبس) في دولة **المغرب**

٥. يعتمد سكان المناطق الصحراوية على النبات الصحراوي في **رعي الحيوانات** و **طب الأعشاب**

٦. من صفات النباتات الصحراوية قدرتها على **تحمل الجفاف** و **التكيف مع الحرارة**

مذكرات النجاح

❁ **علل لكل مما يأتي:**

١. ➤ **تنوع النبات الطبيعي في الوطن العربي.**

بسبب تنوع المناخ واختلاف نوع التربة من منطقة إلى أخرى.

٢. ➤ **انتشار النبات الصحراوي في معظم دول الوطن العربي**

لملائمته للظروف المناخية القاسية التي تتماز بارتفاع درجة الحرارة وقلة الأمطار

٣. ➤ **تعيش القردة والسناجب والوشق في الغابات.**

لأنها تمتاز بالقدرة على التسلق والقفز السريع بين فروع الأشجار الكثيفة.

٤. ➤ **تعيش الزرافات والأفيال والأسود في الحشائش.**

لأنها مناطق منبسطة تسهّل الحركة والتنقل لهذه الحيوانات.

٥. ➤ **تعيش الذئاب والغزلان والسحالي في المناطق الصحراوية.**

لأنها تمتلك قدرات على التكيف مع الجفاف والاختفاء من الأعداء.

❁ **عدد لكل مما يلي:**

١. ➤ **أهم أسباب تنوع الغطاء النباتي في الوطن العربي.**

تنوع المناخ - نوع التربة

٢. ➤ **صفات الغابات المدارية.**

أشجار ضخمة – أوراق عريضة.

٣. ➤ **صفات** الغابات **المعتدلة.**

أشجار متوسطة – أوراق قليلة الكثافة تتساقط شتاء.

❁ **اكتب صحيح بجانب العبارات الصحيحة وخطأ أمام العبارات غير الصحيحة:**

١. ➤ توجد الغابات المدارية في تونس ولبنان. **(خطأ)**

٢. ➤ السافانا حشائش قصيرة معتدلة تنتشر في المغرب. **(خطأ)**

٣. ➤ الإستبس حشائش معتدلة تستخدم في صناعة الحبال والحُصر. **(صحيحة)**

٤. ➤ تتميز النباتات الصحراوية بقدرتها على تحمل الجفاف. **(صحيحة)**

٥. ➤ الغطاء النباتي هو المصدر الرئيسي لغذاء ومأوى الحيوانات. **(صحيحة)**

٦. ➤ تعيش القردة والأسود في نفس البيئة النباتية. **(خطأ)**

صفوف معلمي الكويت

مذكرات النجاح

❁ أكمل المخطط السهمي.

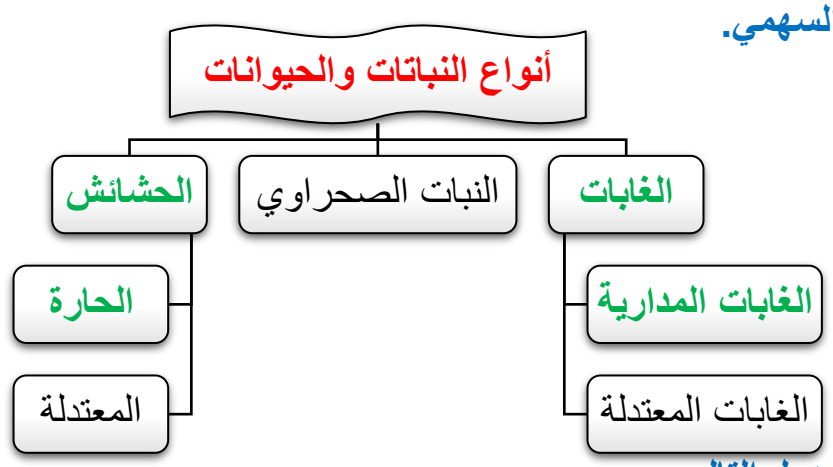

❁ قارن حسب الجدول التالي:

	الغابات	النبات الصحراوي	الحشائش
النباتات	الأبنوس السنديان	الرمث- الأثل- العرفج	السافانا - الإستبس
الحيوانات	القردة - السناجب - الوشق	الذئاب الغزلان السحالي	الأسود الزرافات الأفيال

❁ لاحظ الخريطة ثم نفذ المطلوب:

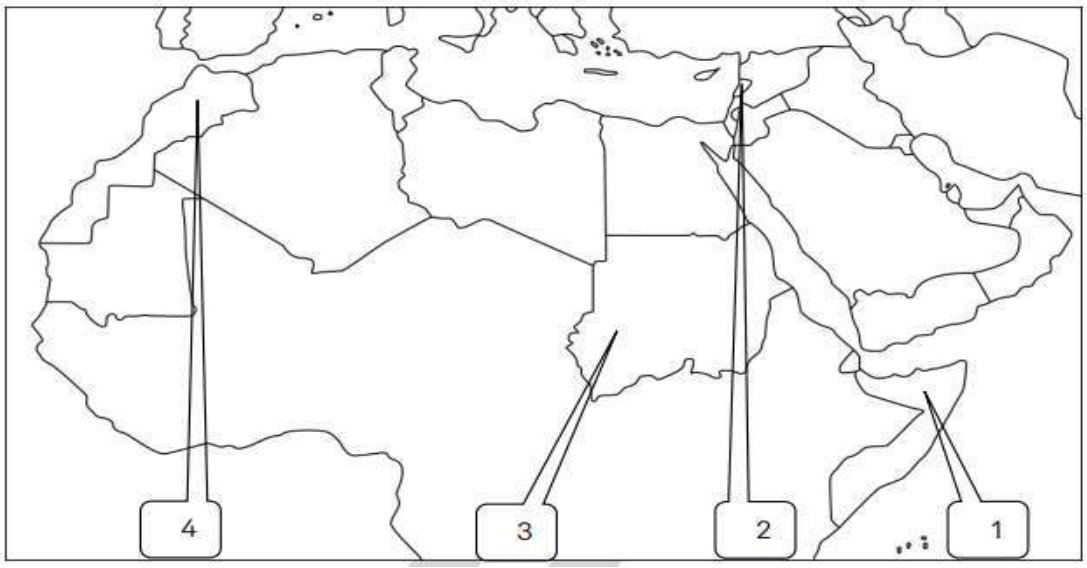

١- الدولة التي تنتشر فيها الحشائش المعتدلة (الإستبس) تحمل الرقم (٤)

٢- الدولة التي تنتشر فيها الحشائش الحارة (السافانا) تحمل الرقم (٣)

٣- الدولة العربية التي توجد فيها الغابات المدارية تحمل الرقم (١)

٤- الدولة العربية التي توجد فيها الغابات المعتدلة تحمل الرقم (٢)

صفوف معلمي الكويت

مذكرات النجاح

الدرس الرابع التضاريس في الوطن العربي

اكتب المصطلح المناسب لكل عبارة مما يأتي:

١. أشكال سطح الأرض مثل الجبال، الهضاب، السهول، التلال، والوديان التي تحدد ملامحه. (التضاريس)

٢. مرتفعات عظيمة من سطح الأرض تمثل مصدرًا رئيسيًا للمياه العذبة وتعمل كحواجز طبيعية للرياح. (الجبال)

٣. أراضٍ منبسطة تمتد على جانبي الأنهار، تتكون بفعل ترسيب المواد التي تجرفها مياه الأنهار. (السهول الفيضية)

٤. منخفضات طبيعية تمتد بين التضاريس المختلفة، وتتميز بخصوبة أراضيها المناسبة للزراعة (الوديان)

اختر الإجابة الصحيحة لكل من العبارات التالية بوضع علامة صح في المربع المقابل لها:

١. من أبرز المظاهر التضاريسية في الوطن العربي:

☐ الغابات ☑ الجبال ☐ الصحارى ☐ البحيرات

٢. أعلى قمة جبلية في الوطن العربي هي:

☑ جبل توبقال ☐ الجبل الأخضر ☐ جبل سيناء ☐ جبل الشيخ

٣. يوجد وادي حضرموت في دولة:

☐ ليبيا ☐ عمان ☑ اليمن ☐ السودان

٤. يقع الجبل الأخضر في دولة:

☑ عمان ☐ العراق ☐ اليمن ☐ ليبيا

٥. يوجد وادي الحياة في دولة:

☐ السعودية ☐ العراق ☐ السودان ☑ ليبيا

٦. أبرز السهول الفيضية في مصر والسودان:

☐ سهول دجلة والفرات ☑ سهل نهر النيل ☐ سهول نهر العاصي ☐ سهول نهر البارد

أكمل العبارات التالية بما يناسبها:

١. تمثل **الجبال** أحد المصادر الرئيسية لـ المياه العذبة

٢. يعمل **الجبل الأخضر في عمان** كـ حاجز طبيعي لصد الرياح

٣. أعلى قمة جبلية في الوطن العربي هي جبل توبقال في دولة المغرب

مذكرات النجاح

٤. ➤ من أبرز **الهضاب** في الوطن العربي هضبة نجد في السعودية وهضبة آدرار في موريتانيا.

٥. ➤ أنواع السهول الموجودة في الوطن العربي السهول الفيضية والسهول الساحلية

٦. ➤ من أبرز **السهول الفيضية** في الوطن العربي سهول نهري دجلة والفرات في العراق.

٧. ➤ تتميز أراضي الوديان بأنها خصبة مما يجعلها مناسبة لـ الزراعة والأنشطة البشرية

❁ **علل لكل مما يأتي:**

١. ➤ **تُعد الجبال من أبرز المظاهر التضاريسية في الوطن العربي.**

لأنها تغطي مساحات واسعة وتمثل مصدرًا للمياه العذبة وتعمل كحواجز طبيعية للرياح.

٢. ➤ **أهمية السهول الفيضية في الوطن العربي.**

لأنها خصبة وصالحة للزراعة وتساعد على الاستقرار وبناء المدن وتوفر موانئ طبيعية.

٣. ➤ **تُعد الهضاب أكثر الأشكال التضاريسية انتشارًا في الوطن العربي.**

لأنها تغطي معظم أراضي الوطن العربي وتشغل مساحات واسعة.

٤. ➤ **تعتبر الوديان مناطق مناسبة للنشاط البشري.**

بسبب خصوبة أراضيها ووفرة المياه فيها.

❁ **أكمل المخطط السهمي.**

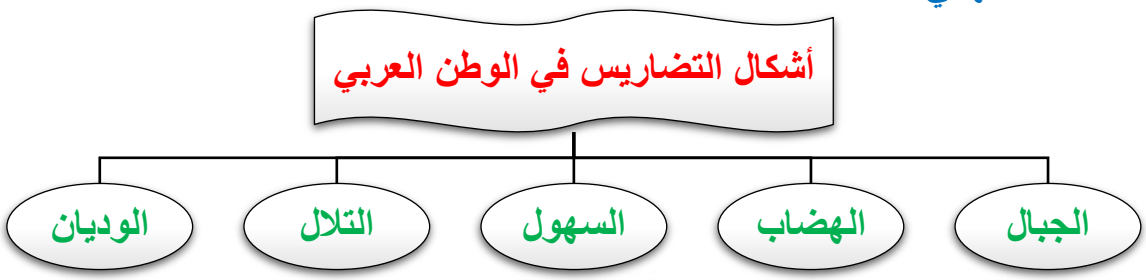

❁ **عدد لكل مما يلي:**

١. ➤ **أهم الجبال في الوطن العربي.**

الجبل الأخضر في عمان – جبل توبقال في المغرب.

٢. ➤ **أهم الهضاب في الوطن العربي.**

هضبة نجد في السعودية – هضبة آدرار في موريتانيا.

٣. ➤ **أبرز السهول الفيضية في الوطن العربي.**

سهول دجلة والفرات في العراق – سهل نهر النيل في مصر والسودان.

صفوة معلمي الكويت

مذكرات النجاح

❁ اكتب صحيح بجانب العبارات الصحيحة وخطأ أمام العبارات غير الصحيحة:

١. ➤ التضاريس هي أشكال سطح الأرض مثل الجبال والسهول فقط. **(خطأ)**

٢. ➤ تقع هضبة نجد في مصر. **(خطأ)**

٣. ➤ سهول دجلة والفرات من السهول الفيضية . **(صحيحة)**

٤. ➤ يقع وادي حضرموت في ليبيا. **(خطأ)**

٥. ➤ أراضي الوديان خصبة وصالحة للزراعة. **(صحيحة)**

❁ لاحظ الخريطة ثم نفذ المطلوب:



❁ صنف أشكال التضاريس في الوطن العربي حسب الجدول التالي:

الجبل الأخضر - نهر النيل - أدرار - وادي الحياة - هضبة نجد - دجلة والفرات – توبقال – حضرموت

التضاريس	الجبال	السهول	الهضاب	الوديان
قارة آسيا	الجبل الأخضر	دجلة والفرات	هضبة نجد	حضرموت
قارة أفريقيا	توبقال	نهر النيل	آدرار	وادي الحياة

صفوة معلمي الكويت

مذكرات النجاح

❁ لاحظ الرسم الطبوغرافي ثم اكتب أشكال التضاريس



❁ لاحظ الخريطة ثم اكتب الرقم الدال على كل مما يلي:

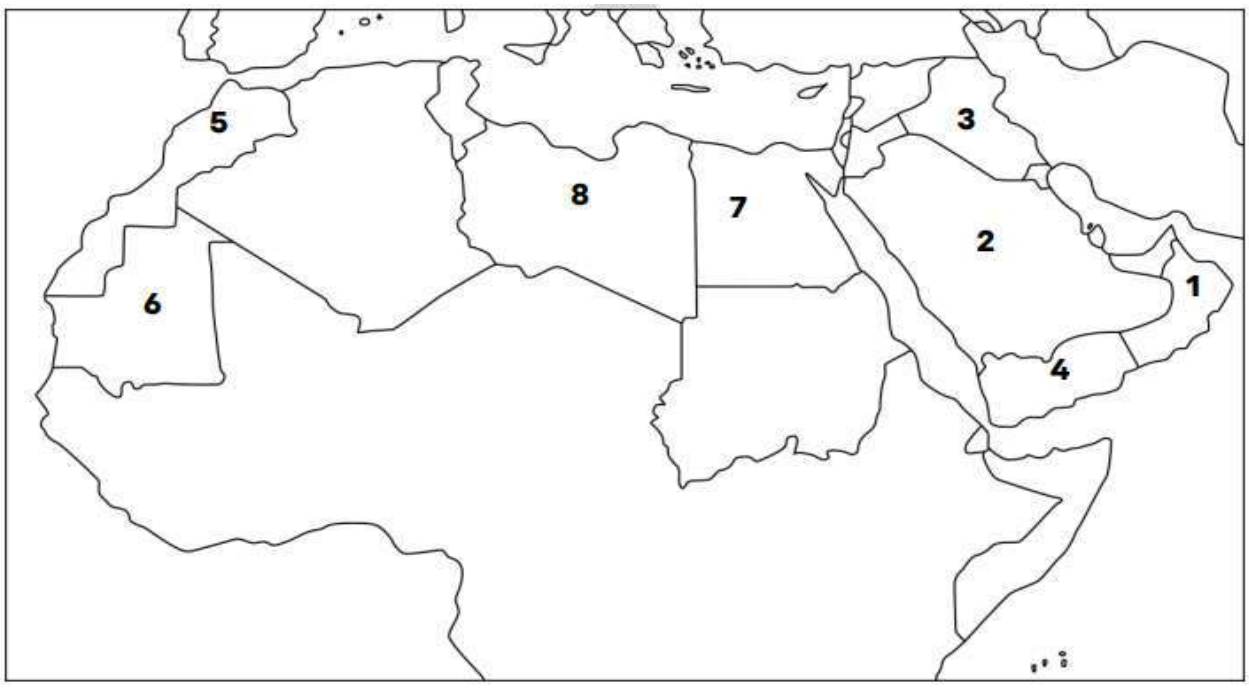

الجناح الأسيوي	الجناح الإفريقي
هضبة نجد يمثلها الرقم (٢)	سهل نهر النيل يمثله الرقم (٧)
وادي حضرموت (٤)	جبل توبقال يمثله الرقم (٥)
الجبل الأخضر يمثله الرقم (١)	وادي الحياة يمثله الرقم (٨)
سهول دجلة والفرات (٣)	هضبة آدرار يمثلها الرقم (٦)

مذكرات النجاح

الدرس الخامس: الكويت تشارك الوطن العربي في السمات الطبيعية

اختر الإجابة الصحيحة لكل من العبارات التالية بوضع علامة صح في المربع المقابل لها:

١. تقع دولة الكويت في الجناح ..... من الوطن العربي:

☐ الإفريقي ☐ الأوروبي ☑ الآسيوي ☐ الآسيوي والإفريقي

٢. سُجلت أعلى درجة حرارة في الكويت عام ٢٠١٦ وبلغت:

☐ ٤٥,٢ ☐ ٥٠,٥ ☐ ٥١,٩ ☑ ٥٣,٩

٣. تتكون تضاريس دولة الكويت أساسًا من:

☐ أراضٍ جبلية ☑ صحراء منبسطة ☐ سهول فيضية ☐ غابات

٤. ينحدر سطح الكويت تدريجيًا من:

☐ الشرق نحو الغرب ☐ الشمال نحو الجنوب ☑ الغرب نحو الشرق ☐ الجنوب نحو الشمال

أكمل العبارات التالية بما يناسبها:

١. تقع دولة الكويت في الشمال الشرقي من شبه الجزيرة العربية
٢. يسمى المسطح المائي الذي تطل عليه دولة الكويت الخليج العربي
٣. يمتد الموقع الفلكي للكويت بين دائرتي عرض ٢٨ و ٣٠ شمالًا وخطي طول ٤٦ و ٤٩ شرقًا
٤. تتميز تضاريس الكويت بأنها صحراء منبسطة ينحدر سطحها تدريجيًا من الغرب إلى الشرق.
٥. تقع دولة الكويت ضمن الإقليم الصحراوي

علل لكل مما يأتي:

١. **أهمية موقع دولة الكويت بالنسبة للوطن العربي.**

لأنها نقطة اتصال بين أجزائه والعالم، وتُعد منفذًا بحريًا ساهم في ازدهار التجارة.

٢. **ارتفاع درجات الحرارة في الكويت صيفًا.**

لأنها تقع ضمن الإقليم الصحراوي الحار والجاف.

٣. **سطح الكويت ينحدر من الغرب إلى الشرق.**

بسبب قربها من سواحل الخليج العربي وانخفاض مستواه عن الهضاب الغربية.

صفوة معلمي الكويت

❁ **عدد لكل مما يلي:**

١. ➤ **مظاهر التضاريس في دولة الكويت.**

- صحراء منبسطة
- سواحل بحرية
- بعض التلال والمنخفضات البسيطة

٢. ➤ **أهم مميزات الموقع الجغرافي للكويت.**

١) تقع في الجناح الآسيوي

٢) تشكل نقطة اتصال بين الوطن العربي والعالم

٣) منفذ بحري مهم للتجارة

❁ **اكتب صحيح بجانب العبارات الصحيحة وخطأ أمام العبارات غير الصحيحة:**

١. ➤ تقع الكويت في الجناح الإفريقي من الوطن العربي. (خطأ)

٢. ➤ مناخ دولة الكويت معتدل طول العام. (خطأ)

٣. ➤ أعلى درجة حرارة سُجلت في الكويت بلغت ٥٣,٩ عام ٢٠١٦ (صحيحة)

٤. ➤ تنحدر تضاريس الكويت من الشرق إلى الغرب. (خطأ)

٥. ➤ يعد موقع الكويت البحري سببًا في ازدهار تجارتها. (صحيحة)

❁ **فرق بين الموقع النسبي والموقع الفلكي لدولة الكويت**

الموقع النسبي	الموقع الفلكي
▪ تقع دولة الكويت في الجناح الآسيوي ▪ تقع في الشمال الشرقي من شبه الجزيرة العربية	▪ تمتد دولة الكويت بين دائرتي عرض ٢٨ و ٣٠ شمالاً ▪ وبين خطي طول ٤٦ و ٤٩ شرقاً الشمال الشرقي من شبه الجزيرة العربية

❁ **لاحظ الخريطة الصماء ثم نفذ المطلوب:**

التضاريس	دولة الكويت
المرتفعات	تلال جال الزور
السهول	سهل الدبدبة
الهضاب	هضبة الأحمدي
أودية	وادي الباطن



مذكرات النجاح

الوحدة الثانية

دولة الكويت والوطن العربي عبر العصور

الدرس الأول نشأة العصور

اكتب المصطلح المناسب لكل عبارة مما يأتي:

١. فترة زمنية محددة يتميز فيها الإنسان بطريقة عيش مختلفة عن العصور الأخرى. **(العصر التاريخي)**

٢. مصطلح يستخدم للتعبير عن السنوات التي سبقت ولادة النبي عيسى عليه السلام. **(ق.م - قبل الميلاد)**

اختر الإجابة الصحيحة لكل من العبارات التالية بوضع علامة صح في المربع المقابل لها:

١. بدأت قصة الإنسان على سطح الأرض بنزول سيدنا:

☐ إبراهيم a ☑ آدم a ☐ عيسى a ☐ نوح a

٢. أول نوع مسكن استخدمه الإنسان يسمى:

☐ المدن الكبيرة ☐ الخيم ☑ الكهوف ☐ القلاع

٣. استخدم الإنسان في العصر الحجري أدوات:

☐ من الحديد ☐ من النحاس ☐ من البرونز ☑ من الحجر

٤. استقر الإنسان وبدأ بالزراعة في:

☐ العصر الجليدي ☐ العصر الحجري ☑ العصر البرونزي ☐ العصر الحديدي

٥. العصر الذي بدأ فيه الإنسان بالتنقل وصيد الحيوانات:

☑ العصر الجليدي ☐ العصر الحجري ☐ العصر البرونزي ☐ العصر الحديدي

٦. ظهرت أقدم القرى الزراعية في:

☐ الصحراء الكبرى ☑ وادي الرافدين ووادي النيل ☐ شبه الجزيرة العربية ☐ بلاد الشام

أكمل العبارات التالية بما يناسبها:

١. بدأ الإنسان سكن الكهوف ثم بنى **الأكواخ** ثم أنشأ القرى والمدن.

٢. استخدم أدوات **حجرية** بدائية ثم طورها إلى أدوات معدنية.

٣. بدأت الكتابة باستخدام **الرموز** ثم تطورت إلى أنظمة كتابية مختلفة.

٤. بدأ الإنسان حياته بالتنقل والصيد ثم تطورت إلى ممارسة **الزراعة** ثم **الصناعة** ثم **التجارة**

٥. في العصر البرونزي بدأ الإنسان بالزراعة وبناء **القرى** وصنع أدوات من النحاس.

علل لكل مما يأتي:

١. **تمكن العلماء من التمييز.**

بسبب ما تركه الإنسان من دلائل مادية تبين كل عصر مثل نوع السكن والأدوات المستخدمة والكتابة وأسلوب الحياة.

مذكرات النجاح

٢. ➤ كان الإنسان في العصر الجليدي يتنقل ويصطاد الحيوانات.
لأن البرد الشديد جعله يبحث عن الطعام والمأوى باستمرار.
٣. ➤ يُعد الوطن العربي مركزًا مهمًا للحضارات القديمة.
لأنه من أوائل المناطق التي عاش فيها الإنسان، وظهرت فيه أقدم القرى الزراعية في وادي الرافدين ووادي النيل.

❁ عدد لكل مما يلي:

١. ➤ العصور المتعاقبة الممهدة لقيام الحضارات الأولى.
١) العصر الجليدي
٢) العصر الحجري
٣) العصر البرونزي
٤) العصر الحديدي

٢. ➤ أهم المواقع الأثرية في الوطن العربي.
- موقع بوشر في عمان
- منطقة تيشيت في موريتانيا

❁ اكتب صحيح بجانب العبارات الصحيحة وخطأ أمام العبارات غير الصحيحة:

١. ➤ استخدم الإنسان الحديد قبل الحجر. (خطأ)
٢. ➤ اكتشف الإنسان النار في العصر الحجري. (صحيحة)
٣. ➤ بدأ الإنسان بالزراعة في العصر الجليدي. (خطأ)
٤. ➤ أصبحت المدن أكثر تنظيمًا في العصر الحديدي. (صحيحة)
٥. ➤ الوطن العربي من أوائل المناطق التي عاش فيها الإنسان. (صحيحة)
٦. ➤ ظهرت أقدم القرى الزراعية في أمريكا الجنوبية. (خطأ)
٧. ➤ يقع الموقع الأثري بوشر في دولة لبنان. (خطأ)
٨. ➤ اكتشفت الأدوات الزراعية في منطقة تيشيت. (صحيحة)

❁ قارن حسب الجدول التالي:

أوجه المقارنة	الفترة الزمنية	الخصائص
العصر الجليدي	٢ مليون سنة ق.م	الإنسان يتنقل ويصطاد الحيوانات بسبب البرد الشديد
العصر الحجري	١٠٠٠٠ سنة ق.م	الإنسان سكن الكهوف استخدم أدوات من الحجر اكتشف النار
العصر البرونزي	٣٠٠٠ سنة ق.م	▪ الإنسان بدأ بالزراعة ▪ بناء القرى ▪ صنع أدوات من النحاس
العصر الحديدي	١٢٠٠ سنة ق.م	▪ الإنسان صنع أدوات من الحديد ▪ أصبحت المدن أكثر تنظيماً

مذكرات النجاح

❁ أكمل المخطط السهمي.

الدلائل المادية التي تبين ملامح كل عصر

- نوع السكن
- الأدوات المستخدمة
- الكتابة
- أسلوب الحياة

❁ اكتب مدلول الصور التالية:



العصر الجليدي — العصر الحجري — العصر البرونزي — العصر الحديدي



مدافن بوشر الدائرية

❁ لاحظ خريطة العالم الصماء ثم نفذ المطلوب:



- حدد بالرمز Δ الدولة التي يوجد فيها موقع بوشر الأثري.
- حدد بالرمز □ الدولة التي يوجد فيها موقع تيشيت الأثري.

مذكرات النجاح



2026-2025

لطلب كامل المذكرة

صفوة معالي الكويت

60 65 83 02